وزارة التربية
الإدارة العامة للتعليم الخاص
التوجيه الفني للاجتماعيات

اختبار نهاية الفصل الثاني
المادة : الاجتماعيات
مقرر : الكويت ودول الخليج العربية
الصف السادس المتوسط

العام الدراسي : ٢٠١٦/٢٠١٧م
الزمـن : ساعة وخمس وأربعون
عـدد الأوراق: (٥)

السؤال الأول: يتكون من (أ ، ب)

(أ) صنف ما يلي حسب مكانه في الجدول بكتابة الرقم فقط:- ص ١٢٩ / ١٣٠ ١ × ٦ = ٦ درجات

١- إنشاء درع الجزيرة ٢- توحيد المناهج التعليمية وتطويرها ٣- إدانة احتلال الجزر الإماراتية
٤- زيادة التبادل التجاري ٥- مناصرة القضايا العادلة ٦- المناورات العسكرية المختلفة.

التعاون السياسي	التعاون العسكري	التعاون الثقافي	التعاون الاقتصادي
٣ - ٥	١ - ٦	٢	٤

(ب) ادرس خريطة شبه الجزيرة العربية ثم اختر الرقم الدال على ما يلي :- ١ × ٦ = ٦ درجات

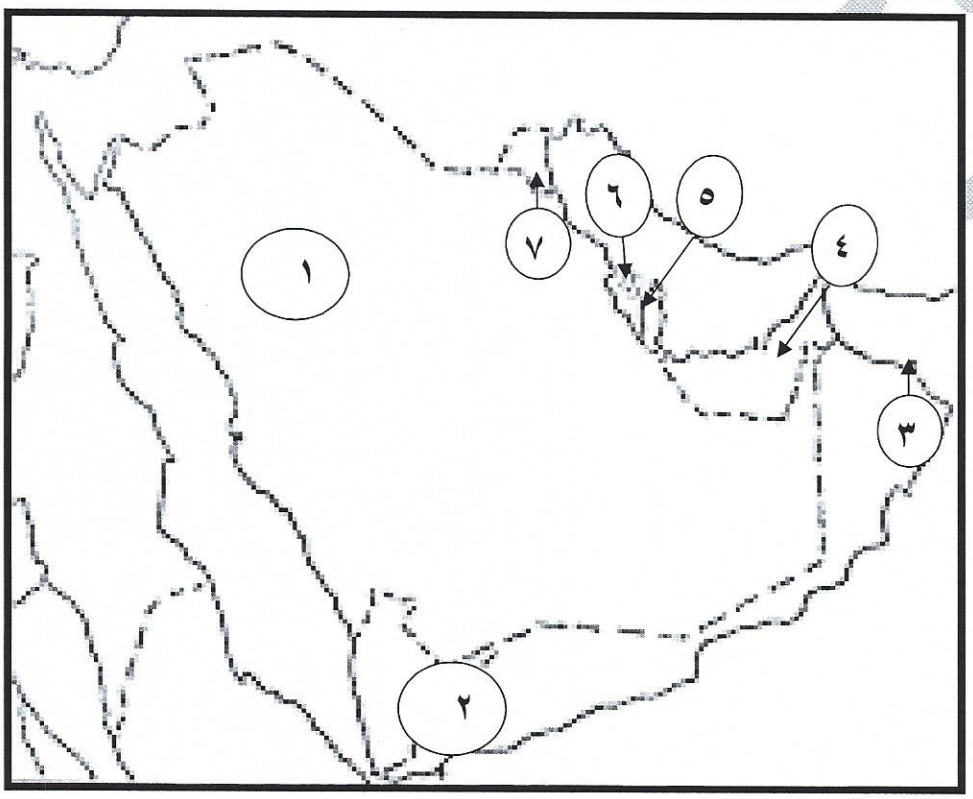

** ميناء الفحل على الخريطة يحمل الرقم --٣-- ص ٩١

** منطقة الوفرة الزراعية على الخريطة تحمل الرقم --٧-- ص ٩٢

** الدولة التي ظهرت بها حضارة تاروت تحمل على الخريطة الرقم --١-- ص ١٠٥

** الدولة التي سكنها المعاضيد تحمل على الخريطة الرقم --٥-- ص ١٠٨

** أكثر دولة خليجية في عدد الوافدين على الخريطة تحمل الرقم -- ٤ -- ص ١١٢

** أكثر دولة خليجية في الكثافة السكانية على الخريطة تحمل الرقم -- ٦ -- ص ١١٤

١٢

درجة السؤال الأول

يتبع الصفحة التالية

السؤال الثاني : يتكون من (أ ، ب)

(أ) اختر التعليق المناسب للصور التالية فيما بين الأقواس واكتبه في المكان المخصص:- ١ × ٦ = ٦ درجات

(تلوث التربة / الزي المتشابه بين دول الخليج العربية / مادة تحويلية / تلوث الهواء / العمالة المنزلية / الأمن والأمان / العنف في المدارس / تصدير أول شحنة للنفط الكويتي / التنقيب عن النفط في الكويت / مادة خام)

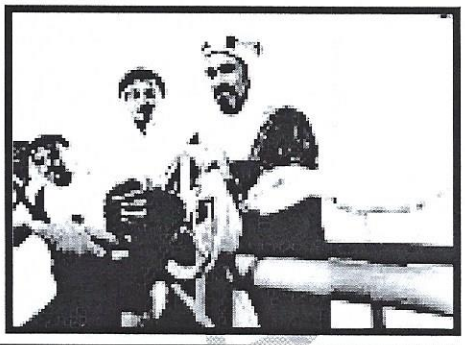

التنقيب عن النفط في الكويت ص ٩٠

مادة تحويلية ص ٩٨

الأمن والأمان ص ١١١

الزي المتشابه بين دول الخليج العربية ص ١١٨

تلوث الهواء ص ١٣٣

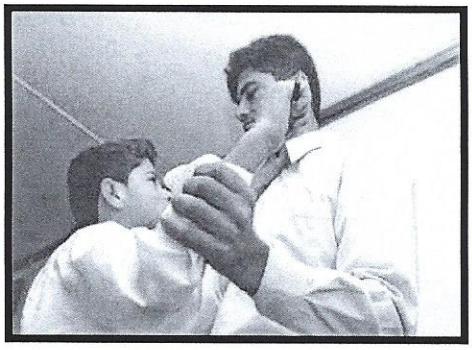

العنف في المدارس ص ١٤٧

(ب) ظلل الحرف (ص) للعبارة الصحيحة والحرف (خ) للعبارة غير الصحيحة : - ١× ٦ = ٦ درجات

ت	العبارات		
١	بدأ التنقيب عن النفط في دولة الكويت في عهد الشيخ جابر الأحمد. ص ٩٠	ص	خ
٢	الزراعة التي تتم في بيئة مائية أو رملية أو خشبية هي الزراعة بدون تربة . ص ٩٤	ص	خ
٣	مجموعة من العادات والتقاليد والأخلاقيات في مجتمع من المجتمعات تسمى الثقافة. ص ١١٨	ص	خ
٤	صدر إعلان الدوحة بشأن قيام السوق الخليجية المشتركة عام ٢٠٠٠م. ص ١٣٠	ص	خ
٥	التلوث هو الضرر الذي يصيب عناصر البيئة الأساسية فتتحول من عناصر مفيدة إلى عناصر ضارة . ص ١٣٣	ص	خ
٦	الإنسان عدواني بطبعه كما يرى العلماء . ص ١٤٦ .	ص	خ

١٢

درجة السؤال الثاني

السؤال الثالث: يتكون من (أ ، ب) ١ × ٦ = ٦ درجات

(أ) املأ الفراغ في المخططات السهمية التالية :-

١- أنواع الصناعات القائمة في دول مجلس التعاون لدول الخليج العربية ص ٩٦

تكرير النفط ← الحديد ← الغاز ← **النحاس** ← ألمنيوم ← **بتروكيماويات**

٢- أنواع التلوث ص ١٣٣

الهوائي ← الأرضي (التربة) ← **الضوضائي** ← البحري (المائي)

٣- جوانب التغيرات في منطقة الخليج العربية بعد ظهور النفط ص ١٤١

اقتصادية ← **سياسية** ← **اجتماعية**

(ب) أكمل العبارات التالية بما يناسبها مما درست :- ١ × ٦ = ٦ درجات

١- الحقل الكويتي الذي تم اكتشاف كميات ضخمة من النفط فيه يسمى **برقان** . ص ٨٧

٢- الحضارة التي ظهرت في دولة الإمارات تسمى **هيلي** . ص ١٠٥

٣- أكثر الدول الخليجية في معدل النمو السكاني تسمى **سلطنة عمان** . ص ١١٤



٤- الصورة المقابلة تمثل قلعة البحرين وتسمى كذلك باسم **قلعة البرتغال** .

ص ١٢٠

٥- الطبقة التي تحمي الأحياء ضد خطر الأشعة فوق البنفسجية تسمى **الأوزون** . ص ١٣٥

٦- العام الميلادي الذي تعرضت به دولة الكويت للغزو العراقي هو **١٩٩٠م** . ص ١٣٩

درجة السؤال الثالث ١٢

يتبع الصفحة التالية

السؤال الرابع: يتكون من (أ ، ب)

(أ) إقرأ الفقرة التالية ثم أجب عن الأسئلة التي تليها بالاستعانة بالفقرة ومما درست :-

١ × ٦ = ٦ درجات

يتشابه سكان دول الخليج العربية تشابها كبيرا ، حيث أنهم ينتمون لأصول عربية وسلالات سكانية واحدة ، وهذا التشابه الثقافي بين دول الخليج العربية جعل العرب يطلقون عليهم اسم خليجيين للدلالة على سكان هذه المنطقة بدلا من إطلاق لفظ دولة . ص ١٠٦ // ١١٧ // ١١٨ // ١١٩ // ١٢٠

١- عرف ما تحته خط : السلالة : مجموعة من الناس تشترك فيما بينها في الصفات الجسمانية الرئيسية كلون الجلد وشكل الأنف وشكل الشعر طول القامة وما إليها وتختلف عن غيرها من السلالات في هذه الصفات . درجة

٢- اذكر اثنان من عوامل التشابه بين سكان دول الخليج العربية . يكتفى بنقطتين درجتان

** وحدة الأصل ** الدين واللغة. ** التاريخ المشترك ** العادات والتقاليد

٣- ما الاسم الذي يطلقه العرب على سكان دول الخليج العربية . درجة

** الخليجيين.

٤- أكتب الأجناس التي ترجع إليها الأصول السكانية في منطقة الخليج العربية . ص ١٠٥ درجتان

** جنس البحر المتوسط

** جنس شرق أفريقيا

(ب) عرف ما يلي :- ١×٦=٦درجات

١- **الصناعة :** تحويل المواد الخام إلى مواد يمكن الاستفادة منها . **ص ٩٥**

٢- **الترانزيت :** إعادة تصدير البضائع المستوردة . **ص ٩٩**

٣- **النمو السكاني :** التغيير الذي يحدث لعدد السكان نتيجة للزيادة الطبيعية وغير الطبيعية . **ص ١١١**

٤- **الكثافة السكانية :** عدد السكان في الكيلو متر المربع . **ص ١١٤**

٥- **العنف :** السلوك العدواني الموجه ضد الآخرين والذي يتسم بالتخريب والتدمير. **ص١٤٤**

٦- **التلوث الأرضي (التربة):** دخول مواد غريبة في التربة مما يلحق الضرر في خواصها ومكوناتها . **ص ١٣٤**

١٢

درجة السؤال الرابع

يتبع الصفحة التالية

السؤال الخامس: يتكون من (أ ، ب)

(أ) ادرس الرسم البياني لتوزيع السكان في دول الخليج العربية وفقا لإحصاء ٢٠١١م التالي ثم نفذ المطلوب :-

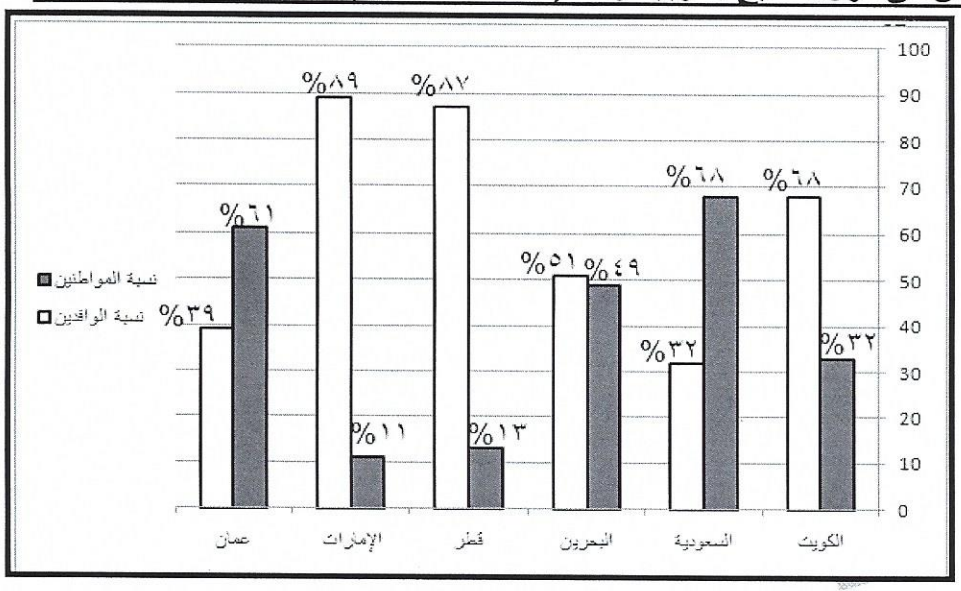

١- حول أعلى ٤ دول في نسبة المواطنين إلى جدول ورتبهم تنازليا . ٤ درجات

الدولة	النسبة
السعودية	%٦٨
عمان	%٦١
البحرين	% ٤٩
الكويت	% ٣٢

٢- استخرج حقيقة من الرسم البياني خاصة بالوافدين . درجة

أي حقيقة مناسبة يراها المصحح .



٣- ظلل نسبة الوافدين في الكويت عل الدائرة البيانية المقابلة .

(ب) علل ما يلي : ١× ٦ = ٦ درجات

١} توسع دول الخليج العربية في صناعة تكرير النفط. ص ٩٥ يكتفى بنقطة درجة

** زيادة الدخل . ** زيادة الكميات المصدرة من النفط .

٢} استقبال حوض الخليج العربي موجات سكانية من كل المناطق المجاورة . ص ١٠٨ درجة

** الموقع الجغرافي المهم لدول الخليج العربية بين قارات العالم القديم .

٣} انخفاض الكثافة السكانية في منطقة الخليج العربية . ص ١١٣ درجة

** وقوع منطقة الخليج العربية في إقليم صحراوي .

٤} اجتماع وزراء التربية والتعليم لدول الخليج العربية كل عامين . ص ١٣٠ درجة

** لوضع السياسات التربوية .

٥} انتشار العنف في دول الخليج العربية . ص ١٤٦ درجتان

** التنشئة الاجتماعية الخاطئة . ** الإحباط

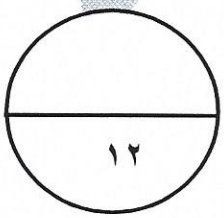

انتهت الأسئلة
بالتوفيق والنجاح

درجة السؤال الخامس