كشكول حصة
الصف الثامن
الاجتماعيات
الفصل الدراسي
الثاني

اعداد المعلمة

شيماء العبدالرحمن

الاسم :----------

الصف :- الثامن / --------

رئيسة القسم

أ / عايشه الغريب

الموجهه الفنية

أ / هدى الختلان

مديرة المدرسة

أ / وفاء العريعر

أولاً : المشكلات البيئية في دول العالم الإسلامي

1 – التلوث البيئي

استعن بالصور التالية لتستنتج مفهوم النظام البيئي

النظام البيئي

ظلل مصادر التلوث الطبيعية باللون الأخضر ومصادر التلوث البشرية باللون الأحمر

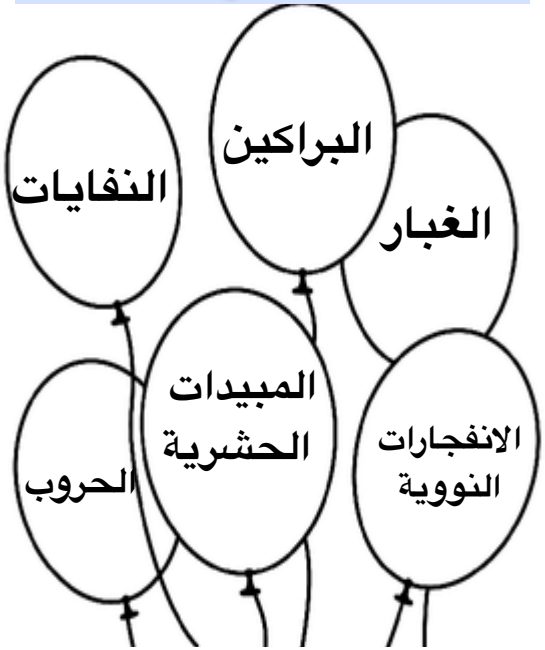

رتب الأرقام التالية لتصل الى العام الذي أنشئت فيه شرطة البيئة في دولة الكويت

0 | 1 | 2 | 5

عدد أثنان من أهم إنجازات شرطة البيئة في دولة الكويت

1 -

2 -

اعداد المعلمة :- شيماء العبدالرحمن

أنواع التلوث البيئي

أنواع التلوث البيئي

يرجع 40 % من نسبة التلوث في باكستان الى عوادم السيارات
حول النسبة التالية الى دائرة بيانية

قارن بين التلوث الهوائي والتلوث المائي من حيث الأسباب والاثار واقتراح الحلول

أوجه المقارنة	التلوث الهوائي	التلوث المائي
الاسباب	1 - 2 -	1 - 2 -
الآثار		
اقتراح حلول		

عانت موريتانيا من شدة التلوث المائي عام 2015 م وذلك بسبب .....

تعرضت دولة الكويت لتلوث بيئي خطير بسبب الغزو العراقي 1990 م اذكري اثاره .....

اعداد المعلمة :- شيماء العبدالرحمن

أسباب التلوث الضوضائي

1

2

3

4

اكثر مدن العالم تلوثاً بالضوضاء
دولة تسمى

اسباب

نتائج

فرق بين أسباب ونتائج تلوث التربة

اعداد المعلمة :- شيماء العبدالرحمن

تلوث التربة

أكمل العبارات التالية بما يناسبها من كلمات :

1 – عقد مؤتمر الأمم المتحدة للتصحر في عام .....

2 – أسباب التصحر .....,.....



تصل نسبة التصحر في كل من مصر وجيبوتي ودول الخليج العربية عدا سلطنة عمان 90 %

حول النسبة التالية الى دائرة بيانية

على خريطة العالم الإسلامي الصماء التالية ظلل ما هو مطلوب منك

1 – دولة مصر

2 – دولة جيبوتي

3 – دول الخليج العربيةعدا سلطنة عمان

اعداد المعلمة :- شيماء العبدالرحمن

2 – تحديات بيئية أخرى

أ – الإحتباس الحراري

عرف النفايات :

.....

.....

أكمل الخريطة الذهنية التالية

عرف الاحتباس الحراري .....

.....

.....

أسباب الاحتباس الحراري

.....

.....

النتائج المتوقعة : .....

.....

.....

التدوير .....

.....

صل بين المجموعة (أ) وما يناسبها من المجموعة (ب) بوضع الرقم المناسب

م	المجموعة (أ)	الرقم	المجموعة (ب)
1	إنشاء مدن صحية		أول أكسيد الكربون
2	ارتفاع درجات حرارة الأرض عن معدلها الطبيعي		الأكسجين
3	من ملوثات الهواء الجوي		التدوير
4	إعادة استخدام المخلفات لإنتاج منتجات أخرى أقل جودة من المنتج الأصلي		أهداف التنمية المستدامة
			الاحتباس الحراري

اعداد المعلمة :- شيماء العبدالرحمن

ثانياً : التحديات الاقتصادية في العالم الإسلامي
1 – الانفجار السكاني

كم يبلغ عدد سكان الكويت ؟؟؟

*قم بتجميع عدد سكان الكويت من خلال المربعات الملونة

4000000	500000	30000	2000	40	8

عرف
الزيادة الغير الطبيعية
.....

عرف
الزيادة الطبيعية
.....

ما هي النتائج المترتبة على مشكلة الإنفجار السكاني

اعداد المعلمة :- شيماء العبدالرحمن

ثانياً : التحديات الاقتصادية في العالم الإسلامي
2 - الفقر

علل انتشار الفقر في معظم دول العالم الإسلامي

.....

.....

سجل على كف اليد التالي الدول الخمس الأكثر فقراً في العالم الإسلامي ثم قم بتظليلهم على الخريطة

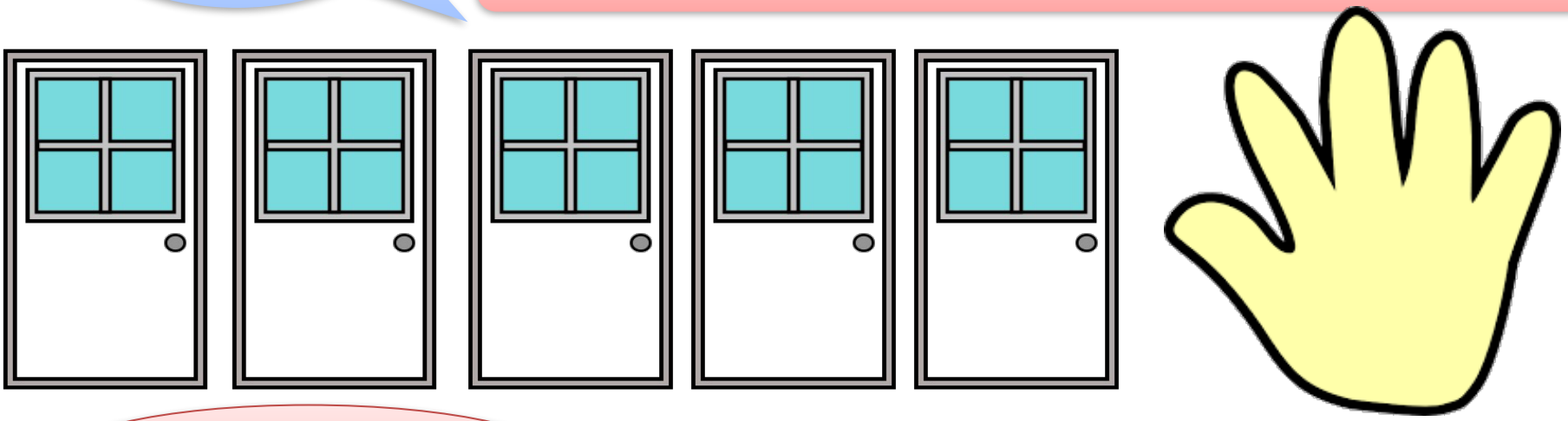

اعداد المعلمة :- شيماء العبدالرحمن

ثانياً : التحديات الاقتصادية في العالم الإسلامي

3 – العولمة الاقتصادية

4 – التكامل الاقتصادي

رتب الكلمات التالية لتصل الى تعريف العولمة

يقوم على الابداع العلمي ( )

نظام عالمي جديد ( )

يصبح العالم قرية صغيرة ( )

بحيث تزول الحدود ( )

التطور التقني و التكنولوجي ( )

.....

.....

الدول التي مازالت أقل تقدماً في ميادين الاقتصاد والعلم والتكنولوجيا (.....)

من أنـــا

مجموع الدخل المكتسب في بلد ما خلال فترة زمنية معينة (.....)



الفرق بين قيمة الصادرات وقيمة الواردات بالدولة (.....)

اعداد المعلمة :- شيماء العبدالرحمن

ثالثاً : المشكلات السياسية

1 – مشكلة الحدود السياسية

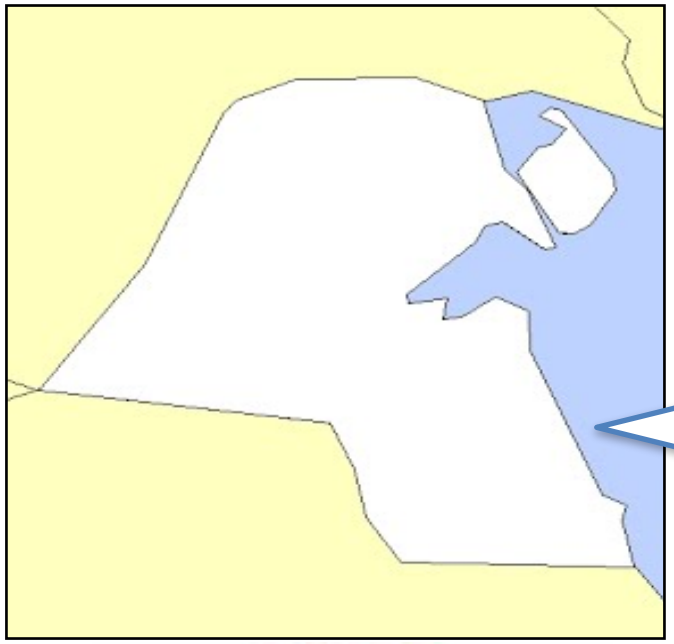

على خريطة دولة الكويت الصماء نفذ ما هو مطلوب منك

1 - لون حدود دولة الكويت باللون الأحمر

2 - عين الدول المجاورة لدولة الكويت

ادعاءات مؤتمر عبدالكريم قاسم

مؤتمر العقير

1922

اكتب الهدف من مؤتمر العقير

أكمل العبارات التالية بما يناسبها من كلمات :

1 – كان الاعتداء على مركز الصامتة في عام .....

اعداد المعلمة :- شيماء العبدالرحمن

الله اكبر

ج - أزمة الحدود السياسية بين دولة الكويت والعراق

رتب الأرقام التالية لتستخرج العام الذي تم فيه مؤتمر العقير

1	2	2	9	.....

رتب مراحل أزمة الحدود بين الكويت والعراق

1 -

2 -

3 -

من صاحب المقولة التالية

_____

_____

" إن الكويت دولة عربية ذات سيادة ومن ورائها يقف شعب الكويت بدعم قيادتها"

اعداد المعلمة :- شيماء العبدالرحمن

صل بين المجموعة (أ) وما يناسبها من المجموعة (ب) بوضع الرقم المناسب

م	المجموعة (أ)	الرقم	المجموعة (ب)
1	إدعاءات عبد الكريم قاسم		20مارس 1973 م
2	عاصفة الصحراء		24 فبراير 1991م
3	الحرب البرية لتحرير الكويت		25 يونيو 1961م
4	الهجوم على مركز الصامتة		2أغسطس 1990 م
			17 يناير 1991م

أكمل العبارات التالية بما يناسبها من كلمات :

1 – ادعاءات عبد الكريم قاسم بتبعية دولة الكويت للعراق كانت في عهد الشيخ .....

2 – قرار الأمم المتحدة الذي طالب القوات العراقية بالانسحاب من دولة الكويت دون شرط يحمل الرقم .....

3 – وقع الغزو العراقي في عهد الشيخ .....

اعداد المعلمة :- شيماء العبدالرحمن

ب - قضية فلسطين

اختار الإجابة الصحيحة من بين البدائل التالية

1 - قرار الأمم المتحدة الذي يهدف الى تقسيم فلسطين الى قسمين عربي ويهودي يحمل الرقم

183	182	181	180

2 - توسع المحتل الصهيوني ليحتل 80 % من أراضي فلسطين بعد حرب

1949	1948	1947	1946

ضع دائرة حول المناطق التي احتلها الكيان الصهيوني بعد حرب 1967 م

.....
.....
.....
.....
.....
.....
.....
.....

قدم رسالة شكر الى الملك عبدالله بن عبدالعزيز وموقفه المشرف تجاه القضية الفلسطينية

اعداد المعلمة :- شيماء العبدالرحمن

الأقليات الإسلامية

.....
.....
.....
.....

ما هي مشكلات الأقليات الإسلامية في كل من اراكان - شينجيانغ اوريغور

.....
.....
.....

اذكر الحلول المقترحة للتحديات التي تواجه الأقليات الإسلامية

عدد التحديات التي تواجه الأقليات الإسلامية حول العالم

عرف الأقليات

.....
.....
.....
.....

اعداد المعلمة :- شيماء العبدالرحمن

2 – الحروب والدمار
البوسنة والهرسك
الصومال

ما النتائج المترتبة على حروب كل من البوسنة والهرسك الصومال

اكمل المخطط السهمي التالي

نماذج من دول العالم

- البوسنة والهرسك
-
-

متى اندلعت الحروب الاهلية في الصومال اذا اردت المعرفة قم بحل المسألة التالية

2	3	6	3
÷	×	+	-
2	3	3	2

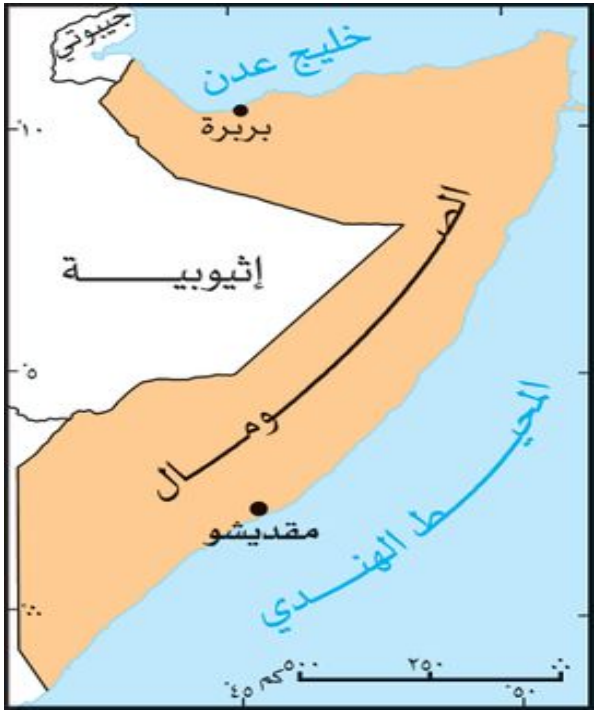

اعداد المعلمة :- شيماء العبدالرحمن

3 – دولة الكويت

من أنـــــــــا ؟

ولي العهد ووزير الداخلية ابان الغزو العراقي الغاشم .....

بطلة من ابطال إطفاء حرائق النفط الناجمة عن الغزو العراقي الغاشم .....

استعن بالأرقام التي أمامك لتكمل الاتي

تم إطفاء الآبار خلال .....يوم

تم إطفاء آخر بئر في .....

سجل مراحل تحرير الكويت ؟

١

٢

٣

اعداد المعلمة :- شيماء العبدالرحمن



رابعاً : المشكلات الاجتماعية والثقافية

أسباب الإدمان

فرق بين الأمية في البلدان النامية والبلدان المتقدمة



كيف تساهم في بناء مجتمع إيجابي

البلدان النامية	البادان المتقدمة

اعداد المعلمة :- شيماء العبدالرحمن