تم تحميل الملف
من موقع بداية

بداية
beadaya.com | موقع بداية التعليمي

للمزيد اكتب
في جوجل
Google

بداية التعليمي

موقع بداية التعليمي كل ما يحتاجه **الطالب والمعلم**
من ملفات تعليمية، حلول الكتب، توزيع المنهج،
بوربوينت، اختبارات، ملخصات، اختبارات إلكترونية،
أوراق عمل، والكثير...

حمل التطبيق

GET IN ON
Google Play

Download on the
App Store

الدرس الرقمي

www.ien.edu.sa

الدرس الثاني والعشرون

توزيع السُّكّان (العوامل الطبيعية: التضاريس والمياه)

نفكر ونستنتج

تتنوع التضاريس على سطح الأرض ويتفاوت توزُّع السُّكّان فيها؛ فما أنواع هذه التضاريس؟ وما أشكالها؟ وكيف يتوزَّع السُّكّان فيها؟

التضاريس

يكثُر السُّكّان في السهول والهِضاب غير الوَعْرَة، في حين يقل وجود السُّكّان كلما زاد ارتفاع التضاريس وزادت وُعورتُها؛ ولهذا نجد أن أعالي الجبال الشاهقة تخلو من السُّكّان.



جبال الطائف

للاطلاع

يقل السُّكّان في بعض السهول، ومنها سهول سَيْبِيْريا بسبب البرودة، وسهول الصحاري بسبب ندرة المياه، وصعوبة الزراعة.

موقع بداية التعليمي | bedayah.com

نشاط ١

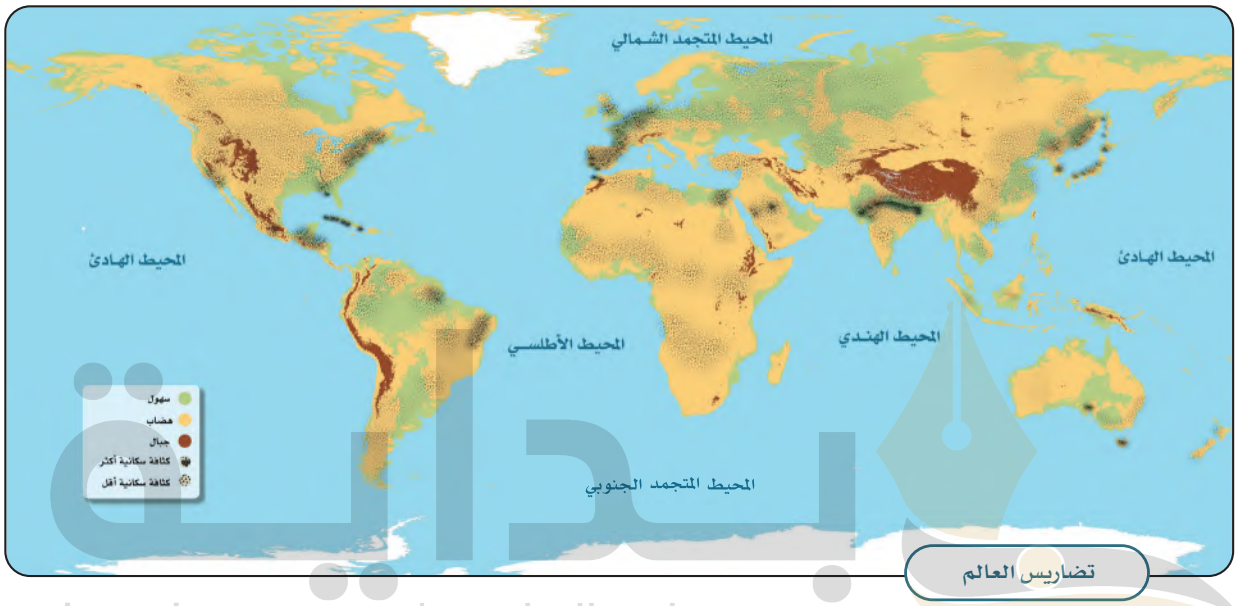

تضاريس العالم

بداية
beadaya.com | موقع بداية التعليمي

أ- ما أشكال التضاريس في القارات الآتية، وما تأثيرها في توزيع السُّكَّان؟

١- آسيا: سهول . التأثير: أكثر

٢- إفريقيا: هضاب . التأثير: أقل

٣- أمريكا الشمالية: سهول . التأثير: أكثر

ب- لماذا يكثر السُّكَّان في السهول والهضاب غير الوعرة؟

قارة آسيا هي الأكثر كثافة سكانية بسبب كثرة السهول

المياه

تتعدَّد مصادر المياه على سطح الأرض، وتُعَدُّ عاملاً أساسياً في توزيع السُّكّان عليه، وتنقسم مصادر المياه إلى قسمين:

- المياه العَذْبة، ومصادرها: الأنهار، والينابيع، والبحيرات العذبة، والمياه الجَوْفية، والأمطار، والثلوج، والجَليد.
- المياه المالحة، ومصادرها: المحيطات، والبحار، والبحيرات المالحة.

ترتفع الكثافة السُّكّانية في السواحل البحرية، وقُرْبَ الأنهار، وضِفافِ البحيرات؛ للأسباب الآتية:

١- للزراعة وصيد السمك.

٢- للعمل في الموانئ والمواصلات البحرية.

٣- للعمل في محطات توليد الطاقة والسُّدود.

أنها مصدر غذائي واقتصادي

أنها مجال للمواصلات الفعالة

أنها مصدر للطاقة المتجدِّدة

أسباب ارتفاع كثافة السُّكّان قرب المياه

موقع بداية التعليمي | beadaya.com

للاطلاع

تقل كثافة السُّكّان في المحيط المتجمد الجنوبي؛ وذلك بسبب تجمُّدِه وصعوبة وصول الخدمات إليه.

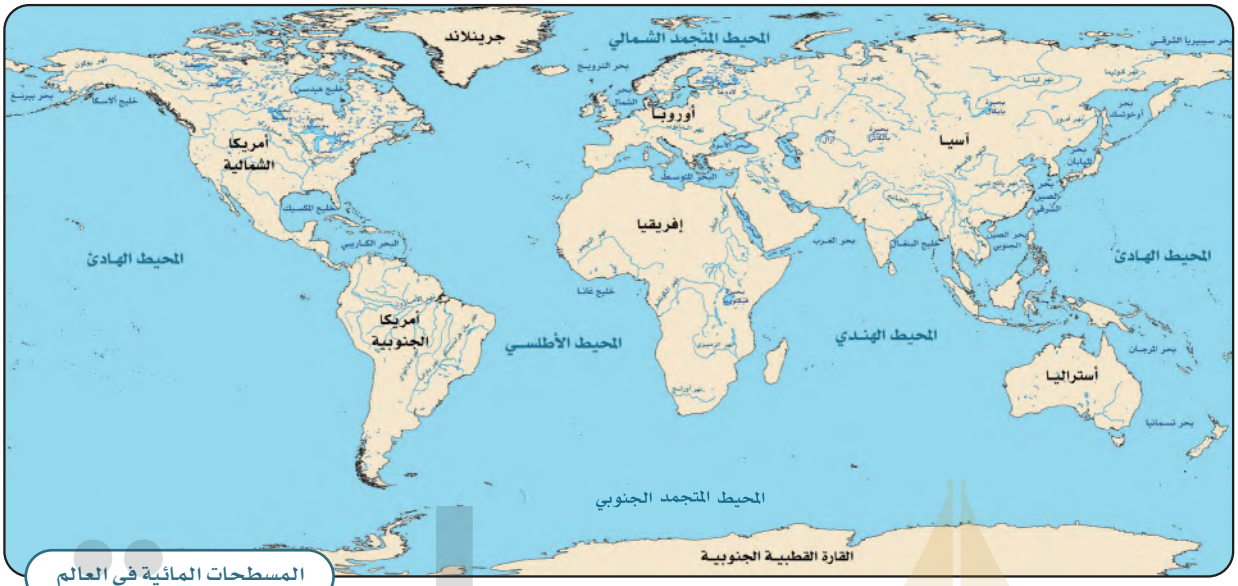

المسطحات المائية في العالم

نشاط ٢

أ- يحدد الطلبة المدن القريبة من المناطق المائية الجاذبة للسُّكّان في وطني المملكة العربية السعودية؟

.....

المناطق المطلة على البحر الأحمر والخليج العربي.....

ب- يحدِّد الطلبة من المجموعة (أ) ما يناسبها من المجموعة (ب) باستعمال الأرقام:

أ	ب
١- نيويورك	2 تقع قُرْبَ البحر الأحمر؛ لتكون مركزاً لاستقبال الحجاج.
٢- جدَّة	3 تقع على نهر دِجْلَة؛ حيث وَفْرَةُ المياه العذبة.
٣- بغداد	1 تقع غربَ المحيط الأطلسي؛ لتكون مركزاً تجاريّاً عالميّاً.

بداية
بوابة بداية للتعليم
bedaya.com