عنوان الدرس

استراتيجية حل المسائل

(التخمين و التحقق و المراجعة)



نواتج التعلم

يحل الطالب المسائل باستخدام التخمين و التحقق



خطوات حل المسائل









عنوان الدرس : حل المسائل باستخدام استراتيجية التخمين و المراجعة



هيا يا علماء الرياضيات نتذكر قليلا ما تعلمناه في الحصة السابقة

1

	العشرات	الآحاد
	5	0
+		4
	5	**4**

2

	العشرات	الآحاد
	4	5
+		4
	4	**9**

عنوان الدرس : حل المسائل باستخدام استراتيجية التخمين و المراجعة






هيا يا أطفال لنفتح الكتاب ص 471

عنوان الدرس : حل المسائل باستخدام استراتيجية التخمين و المراجعة

الإستكشاف والشرح





شاهَدَ يوسُفُ لَونَيْنِ من كُراتِ البولينج. حيثُ شاهَدَ 27 إجمالاً. فما اللونانِ اللَّذانِ شاهَدَهُما؟

١. الفهم	٢.التخطيط
٣. الحل	٤. التحقق

ص ٤٧١

عنوان الدرس : حل المسائل باستخدام استراتيجية التخمين و المراجعة

الإستكشاف والشرح

1 الفَهْمُ ضَعْ خَطًّا تَحْتَ ما تَعْرِفُهُ. وخَوِّطْ ما تَحْتاجُ إلى إيجادِهِ.

2 التَّخْطيطُ كيفَ سَأحُلُّ المَسألَةَ؟

3 الحَلُّ سَأقومُ بالتَّخْمينِ والتَّحَقُّقِ والمُراجَعَةِ.

21 + 7 = 28 كثير جدا

7 + 6 = 13 ليس كافيا


21 + 6 = 27 صواب

كرُاتُ بولينج زرقاء و وردية

4 التحقق هلْ إجابَتي مَنْطِقيَّةٌ؟ اشْرَحْ.

ص ٤٧١


شاهَدَ يوسُفُ لَونَيْنِ من كُراتِ البولينج. حيثُ شاهَدَ 27 إجمالاً. فما اللونانِ اللَّذانِ شاهَدَهُما؟



عنوان الدرس : حل المسائل باستخدام استراتيجية التخمين و المراجعة

الملاحظة و الحساب

مَعَ مَها كُراتٌ زُجاجِيَّةٌ بلَونَيْنِ مُختَلِفَيْنِ. فَلديها 34 كُرَةً زُجاجِيَّةً إجمالًا. فما لَونا الكُراتِ الزُّجاجِيَّةِ؟



1 الفَهْمُ ضَعْ خَطًّا تَحْتَ ما تَعْرِفُهُ.
وحَوِّطْ ما تَحتاجُ إلى إيجادِهِ.

2 التَّخْطيطُ كَيفَ سَأَحُلُّ المَسْأَلَةَ؟

3 الحَلُّ سأقومُ...

٨ = ٥ + ٣ **ليس كافيا**

٣٦ = ٥ +٣١ **كثير**

٣٤ = ٣ +٣١ **صواب**

كُراتٌ زُجاجِيَّةٌ **البرتقالية** و **الخضراء**

4 التحقق هلْ إجابَتي مَنْطِقِيَّةٌ؟ اِشْرَحْ.

ص ٤٧٢

عنوان الدرس : حل المسائل باستخدام استراتيجية التخمين و التوقع



ممارسات في الرياضيات

تطبيق الاستراتيجة

1. مع عيسى بالونات بلونين.
لديه 19 بالونا إجمالاً.
فما الوان البالونات التي لديه؟



2. وجدت منى لونين من أوراق الشجر.
حيث وجدت 46 ورقة إجمالاً.
فما ألوان ورق الشجر التي وجدتها؟



3. حصل عدنان على لعبتين. وقد استخدم 29 تذكرة للحصول عليها. فما الألعاب التي حصل عليها؟





473ص

عنوان الدرس : حل المسائل باستخدام استراتيجية التخمين و المراجعة

تطبيق الاستراتيجة

مَعَ عيسى بالوناتٌ بلَونَيْنِ.
ولَدَيه 19 بالونًا إجمالًا.
فما ألْوانُ البالوناتِ الَّتي لَدَيهِ؟



الأحمر والبنفسجي

عنوان الدرس : حل المسائل باستخدام استراتيجية التخمين و المراجعة

تطبيق الاستراتيجة

حَصَلَ عَدنانُ عَلى لُعْبَتَيْنِ. وقَدِ اسْتَخْدَمَ 29 تَذْكِرَة ألعاب لِلْحُصولِ عَلَيها. فما الألْعابُ الَّتي حَصَلَ عَلَيها؟


5


6


7


8


21

الكرة وحوض الأسماك



عنوان الدرس : حل المسائل باستخدام استراتيجية التخمين و المراجعة

مراجعة الاستراتيجيات

التعليم المتمايز

White board.com

المجموعة الخضراء

المجموعة الصفراء

المجموعة الحمراء

لديك يا بطل ٣ دقائق للحل

مراجعة الإستراتيجيات

اختيار إستراتيجية
- التخمين والتحقق والمراجعة.
- عددية.
- تصميم رسم تخطيطي.

4. يوجَدُ طِفلانِ بِداخِلِ الحافِلَةِ.
وانْضَمَّ إليهِمْ 26 طِفلًا .
فما عَدَدُ الأطفالِ المَوجودينَ بِداخِلِ الحافِلَةِ إجمالًا؟

_____ طفلًا

5. تُوجَدُ 54 قِطَّةً صَغيرَةً في مَتْجَرِ الحَيَواناتِ الأَليفَةِ. كما تُوجَدُ أيضًا 4 قِطَطٍ كَبيرَةٍ أُخرى في المَتْجَرِ ذاتِهِ.
فَما عَدَدُ القِطَطِ المَوجودَةِ في مَتْجَرِ الحَيَواناتِ الأَليفَةِ إجمالًا؟



_____ قِطَّةً

6. يَوجَدُ في المَكْتَبَةِ 4 كُتُبٍ عَن كُرَةِ القَدَمِ و 61 كِتابًا عن الجولفِ. فَما عَدَدُ الكُتُبِ الَّتي تَناوَلَتْ رِياضَتَيْ كُرَةِ القَدَمِ والجولفِ؟

_____ كِتابًا

ص ٤٧٤

عنوان الدرس : حل المسائل باستخدام استراتيجية التخمين و المراجعة

https://wordwall.net/ar/resource/4974324/%D8%AC%D9%85%D8%B9-%D8%B9%D8%AF%D8%AF-%D9%85%D9%83%D9%88%D9%86-%D9%85%D9%86-%D8%B1%D9%82%D9%85%D9%8A%D9%86-%D9%85%D8%B9-%D8%B1%D9%82%D9%85



Wordwall

50 55 28 20

50+5= 48+2= 25+3= 17+3=

إرسال الإجابات

جمع عدد مكون من رقمين مع رقم

عنوان الدرس : حل المسائل باستخدام استراتيجية التخمين و المراجعة

ننتقل إلى موقع Liveworksheet

https://www.liveworksheets.com/ej1642956jx





