مراجعة الاختبار التقويمي الأول
مع نماذج اختبار تجريبية
لمادة الرياضيات
الصف السابع
الفصل الدراسي الثاني
٢٠٢٣ – ٢٠٢٤ م

من إعداد : أ. فاطمة العطية

مراجعة الاختبار التقويمي الاول الفصل الدراسي الثاني للصف السابع ٢٠٢٣ – ٢٠٢٤ م
بنود الاختبار (٧ – ٧) ، (٧ – ١٠) ، (٨ – ٣)

السؤال الأول : أوجد ناتج ما يلي وفي أبسط صورة :-

$٧\frac{١}{٢} \div ١\frac{١}{٤}$	$٢\frac{٥}{٨} \div ١\frac{١}{٢}$
$٠,٨ \div ٢\frac{٢}{٧}$	$١٣\frac{١}{٢} \div ٢\frac{١}{٤} =$

@MATHFINAL

السؤال الثاني : عمارة سكنية ارتفاعها ٣٥ مترًا مقسَّمة إلى طوابق . اِرتفاع الطابق الواحد $٣\frac{١}{٢}$ أمتار . ما عدد طوابق العمارة ؟

السؤال الثالث : لوح ألمنيوم طوله $٧\frac{٣}{٤}$ أمتار . يُراد صنع مجموعة رفوف لها نفس عرض اللوح المستخدم ، وطول الرفّ الواحد ٠,٢٥ متر . فما عدد الرفوف التي يمكن صنعها ؟

Telegram @MathFinal

مراجعة الاختبار التقويمي الاول الفصل الدراسي الثاني للصف السابع ٢٠٢٣ – ٢٠٢٤ م
بنود الاختبار (٧ – ٧) ، (٧ – ١٠) ، (٨ – ٣)

السؤال الرابع : حل المعادلة :-

$$\text{ص} + ١\frac{١}{٦} = ٣\frac{١}{٥}$$

$$\text{ص} + ٥ = ٧\frac{٧}{١٢}$$

$$\text{جـ} - \frac{١}{٥} = \frac{٣}{٨}$$

$$\text{ل} - \frac{١}{٣} = \frac{٤}{١٥}$$

@MATHFINAL

Telegram
@MathFinal

السؤال الخامس :-

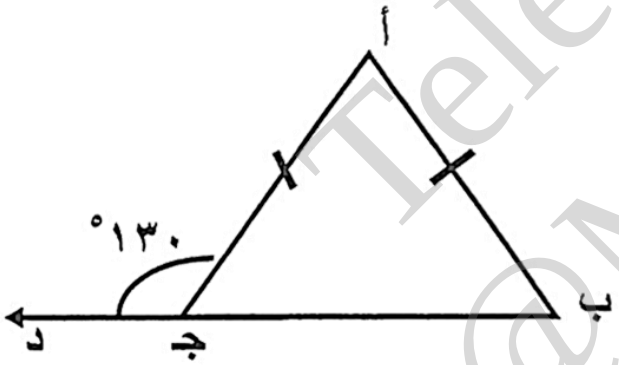

أكمل ما يلي مع ذكر السبب :

ق (أ جـ̂ ب) =

السبب:

ق (ب̂) = ق (أ جـ̂ ب) =

السبب :

السؤال السادس :- في الشكل المقابل ، أوجد المطلوب مع ذكر السبب :

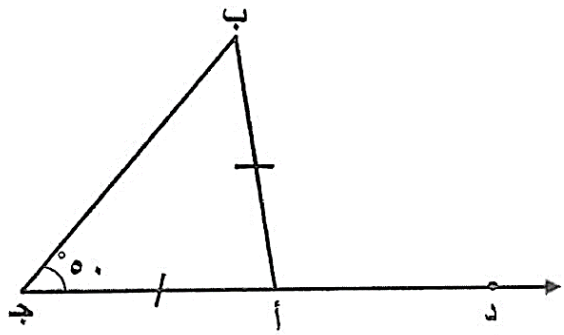

١) ق (أ ب̂ جـ) =

السبب :

٢) ق (ب أ̂ د) =

السبب :

مراجعة الاختبار التقويمي الاول الفصل الدراسي الثاني للصف السابع ٢٠٢٣ – ٢٠٢٤ م
بنود الاختبار (٧ – ٧) ، (٧ – ١٠) ، (٨ – ٣)

السؤال السابع :

من الشكل المقابل أوجد مع ذكر السبب :

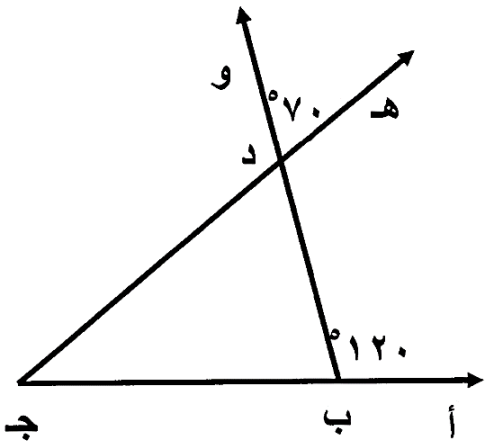

ق(ب د̂ جـ) =

السبب

ق(د جـ̂ ب) =

السؤال الثامن :- ظلِّل (أ) إذا كانت العبارة صحيحة ، وظلِّل (ب) إذا كانت العبارة غير صحيحة .

١	في الشكل المقابل و باستخدام المعطيات التي على الرسم ، فإن قياس (أ حـ̂ د) = ١٥٠° 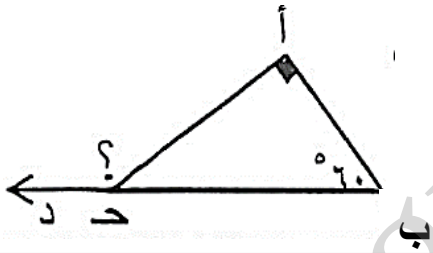	(أ)	(ب)
٢	ناتج ٧ ÷ $\frac{١}{٧}$ في أبسط صورة هو ١	(أ)	(ب)
٣	قيمة المتغير الذي يحقق المعادلة م - $\frac{١}{٣}$ = ٢ $\frac{٢}{٣}$ هو ٢ $\frac{١}{٣}$	(أ)	(ب)

السؤال التاسع : اختر الإجابة الصحيحة :

١	قيمة المتغير الذي يحقق المعادلة س + ٣ $\frac{١}{٤}$ = ٥ $\frac{١}{٢}$ هي (أ) ٢ (ب) ٢ $\frac{١}{٤}$ (جـ) ٢ $\frac{١}{٢}$ (د) ٢ $\frac{٣}{٤}$
٢	قيمة المتغير الذي يحقق المعادلة ل - $\frac{١}{٩}$ = $\frac{٨}{٩}$ هو (أ) $\frac{٧}{٩}$ (ب) $\frac{١}{٢}$ (جـ) ١ (د) $\frac{٧}{١٨}$

Telegram @MathFinal

مراجعة الاختبار التقويمي الاول الفصل الدراسي الثاني للصف السابع ٢٠٢٣ – ٢٠٢٤ م
بنود الاختبار (٧ – ٧) ، (٧ – ١٠) ، (٨ – ٣)

السؤال التاسع : اختر الإجابة الصحيحة :

٣ حل المعادلة س + $\frac{١}{٥}$ = $\frac{٧}{١٠}$

(أ) $\frac{٦}{١٠}$ (ب) $\frac{١}{٢}$ (جـ) $\frac{٦}{٥}$ (د) $\frac{٨}{٥}$

٤ في الشكل المقابل و باستخدام المعطيات التي على الرسم ،
فإن قياس (أ حـ̂ د) =

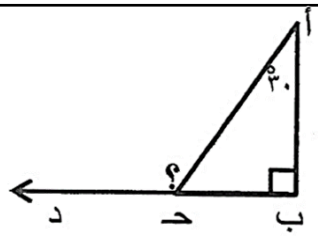

(أ) ١٥٠° (ب) ١٢٠° (جـ) ٩٠° (د) ٦٠°

٥ من الشكل المقابل قياس (ب̂) =

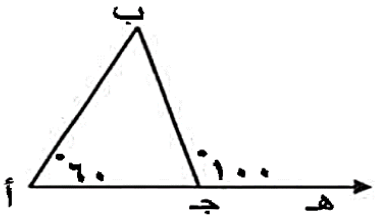

(أ) ١٠٠° (ب) ٤٠°
(جـ) ٦٠° (د) ٨٠°

٦ في الشكل المقابل باستخدام المعطيات التي في الرسم ، قياس (أ جـ̂ ب) =

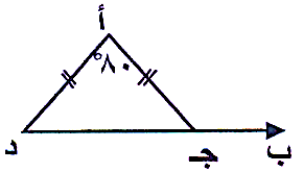

(أ) ٥٠° (ب) ١٠٠°
(جـ) ١٣٠° (د) ٨٠°

٧ تمّ استخدام $\frac{٧}{١١}$ من إجمالي المقاعد في أحد المطاعم ، فالكسر الذي يمثّل المقاعد الغير مستخدَمة يمكن إيجاده بالمعادلة :

(أ) $\frac{٧}{١١}$ + س = ١ (ب) $\frac{٧}{١١}$ – س = ١ (جـ) س – $\frac{٧}{١١}$ = ١ (د) $\frac{٧}{١١}$ س = ١

٩

١٠

Telegram @MathFinal
@MATHFINAL

٦

نموذج اختبار التقويمي الأول للصف السابع لمادة الرياضيات
الفصل الدراسي الثاني (٢٠٢٣ – ٢٠٢٤ م)
(١)

الاسم : الصف : ٧ /

السؤال الأول : (موضوعي) اختر الإجابة الصحيحة :

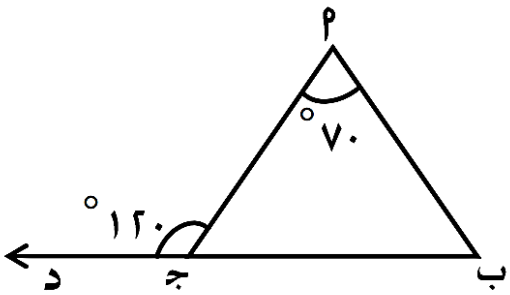

١) من الشكل المقابل : ق(م ب̂ ج) =

(أ) ٥٠° (ب) ٧٠°

(ج) ١١٠° (د) ١٢٠°

٢) إن ناتج $\frac{٤}{٥} \div \frac{١}{٣}$ في صورة عدد كسري هو :

(أ) $١\frac{٢}{٥}$ (ب) $٢\frac{٢}{٥}$

(ج) $\frac{٤}{١٥}$ (د) $\frac{٥}{١٢}$

السؤال الثاني : (مقال) (أ) حل المعادلة التالية :

$$س - \frac{١}{٣} = \frac{٢}{١٥}$$

@MATHFINAL
Telegram @MathFinal

(ب) من الشكل المقابل . اوجد ما يلي :

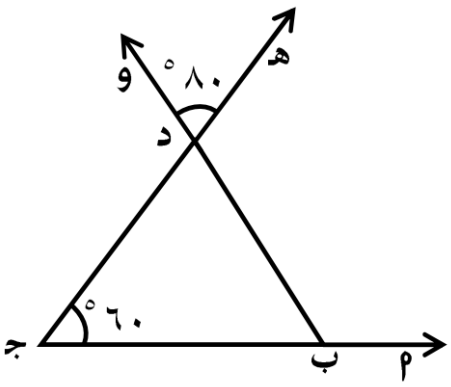

ق(ب د̂ ج) = ...

السبب : .....

ق(م ب̂ د) = ...

السبب : .....

ق(د ب̂ ج) = ...

السبب : .....

٦	**نموذج اختبار التقويمي الأول للصف السابع لمادة الرياضيات** **الفصل الدراسي الثاني (٢٠٢٣ – ٢٠٢٤ م)** **(٢)**

الاسم : **الصف : ٧ /**

السؤال الأول : (موضوعى) ظلّل (أ) إذا كانت العبارة صحيحة ، (ب) إذا كانت غير صحيحة :

١	**حل المعادلة :** $س + \frac{٥}{٧} = \frac{١٦}{٢١}$ هو $س = \frac{١}{٢١}$	(أ)	(ب)
٢	في الشكل المقابل وباستخدام المعطيات التي على الرسم ، فإن ق (هـ ن̂ ط) = ٥٥° 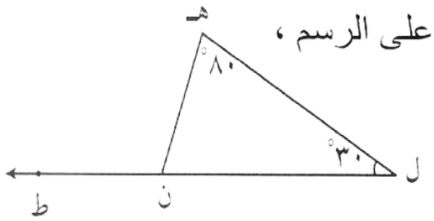	(أ)	(ب)

السؤال الثاني : (مقال) : (أ) أوجد الناتج في أبسط صورة :

$$= ١\frac{١}{٢} \div ٢\frac{٥}{٨}$$

@MATHFINAL

Telegram @MathFinal

(ب) من الشكل المقابل ، أوجد ما يلي :

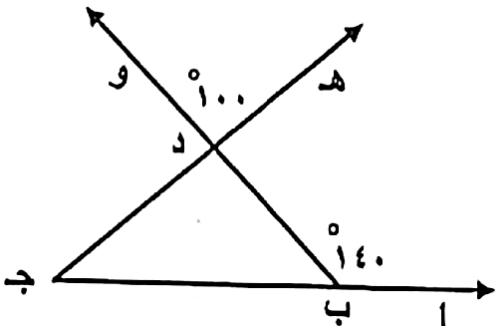

ق (ب د̂ جـ) =

السبب :

ق (ب جـ̂ د) =

السبب :