الاجتماعيات

وطنـــــي الكويت

الصف: الرابع

مدرسة التميز النموذجية
ابتدائي - متوسط - ثانوي

أوراق عمـل

الاختبار القصير (1)



مراجعات غير مخصصة للبيع
المصدر
الكتاب المدرسي
وزارة التربية / الكويت
طبعة
2027/2026م
خاصة بطلبة مدارس التميز النموذجية

خيطان الجنوبي - قطعة ٤ - شارع ١٠٠

الفصل الدراسي الأول 2026 / 2027

مراجعات غير مخصصة للبيع
المصدر
الكتاب المدرسي
وزارة التربية / الكويت
طبعة
2027/2026م
خاصة بطلبة مدارس التميز النموذجية

ورقة عمل الدرس الأول: الجهات الأصلية والفرعية

أكمل المخطط السهمي التالي:

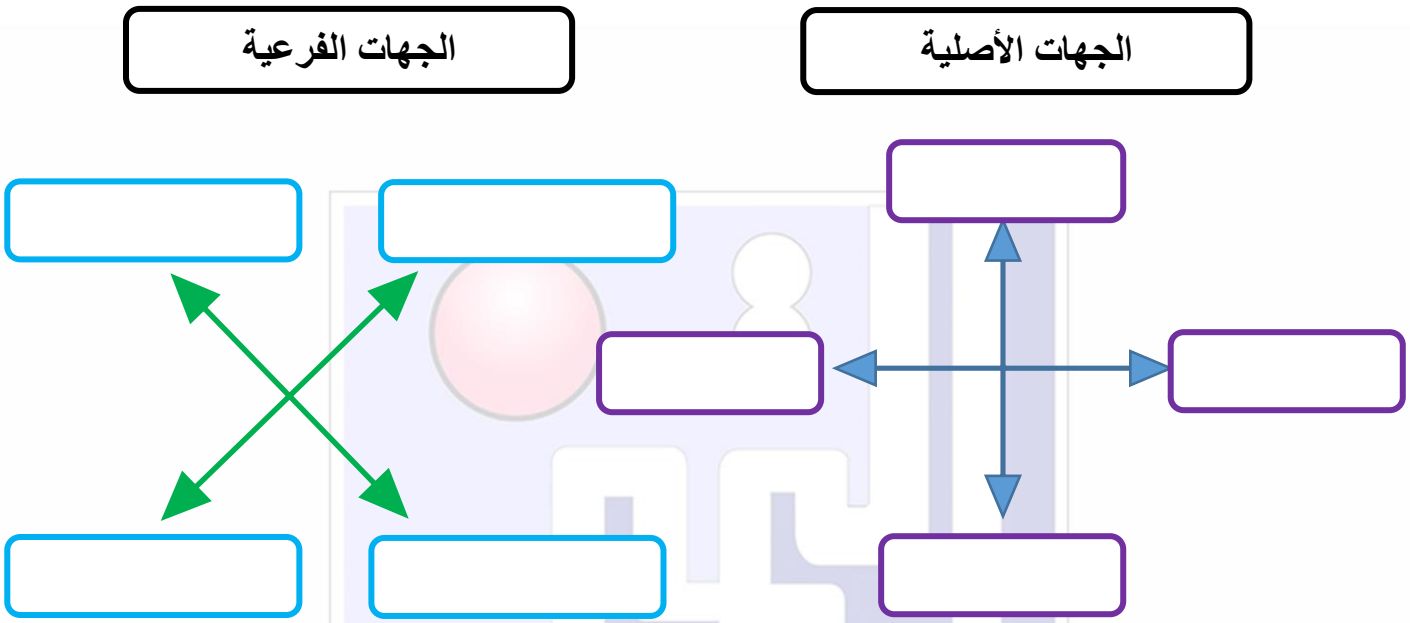

أكمل ما يلي:

- تشرق الشمس من جهة .....
- تغرب الشمس في جهة .....

مدرسة التميز النموذجية
(ابتدائي - متوسط - ثانوي)

ما أهمية الجهات في حياتنا؟

- .....
- .....
- .....

ورقة عمل الدرس الثاني: خريطة وطني الكويت

أكمل ما يلي:

- الدولة التي تقع في الجنوب والجنوب الغربي للكويت تسمى .....

- الدولة التي تقع في الشمال والشمال الغربي للكويت تسمى .....

- المسطح المائي الذي يحد الكويت من جهة الشرق يسمى .....

أكمل عناصر الخريطة التالية:

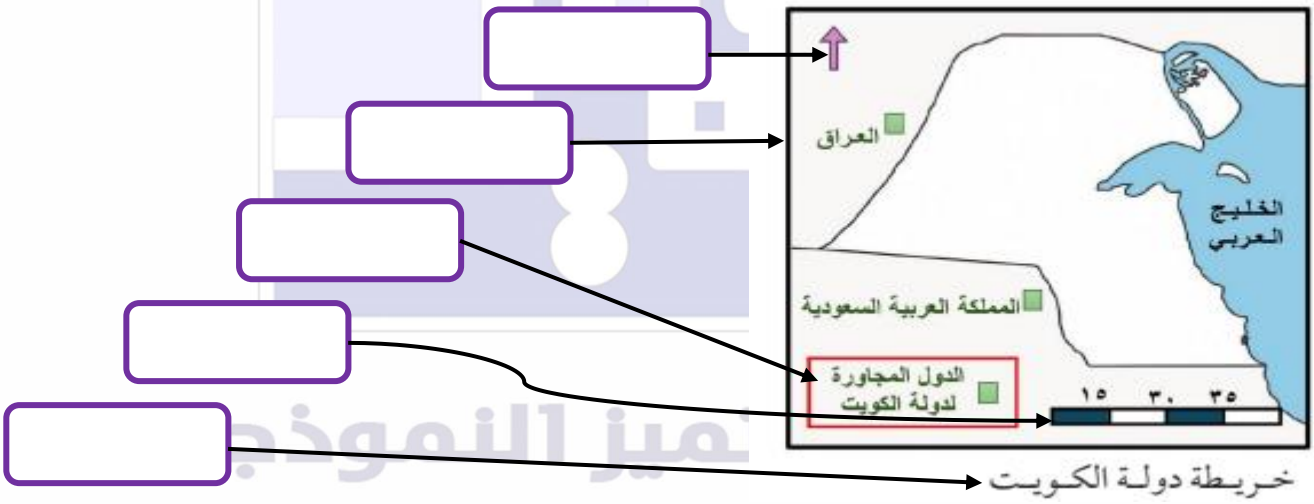

ما المقصود بالخريطة؟

.....

مراجعات غير مخصصة للبيع
المصدر
الكتاب المدرسي
وزارة التربية / الكويت
طبعة
2027/2026م
خاصة بطلبة مدارس التميز النموذجية

ورقة عمل الدرس الثالث: موقع وطني الكويت

أكمل ما يلي:

- تقع دولة الكويت بالنسبة للوطن العربي في جهة .....
- تقع دولة الكويت بالنسبة لشبه الجزيرة العربية في جهة .....
- تقع دولة الكويت بالنسبة للعالم في .....
- تبلغ مساحة دولة الكويت حوالي .....

أهمية موقع دولة الكويت:

- .....
- .....

ارسم على الخريطة التالية اتجاه دولة الكويت بالنسبة لشبه الجزيرة العربية:

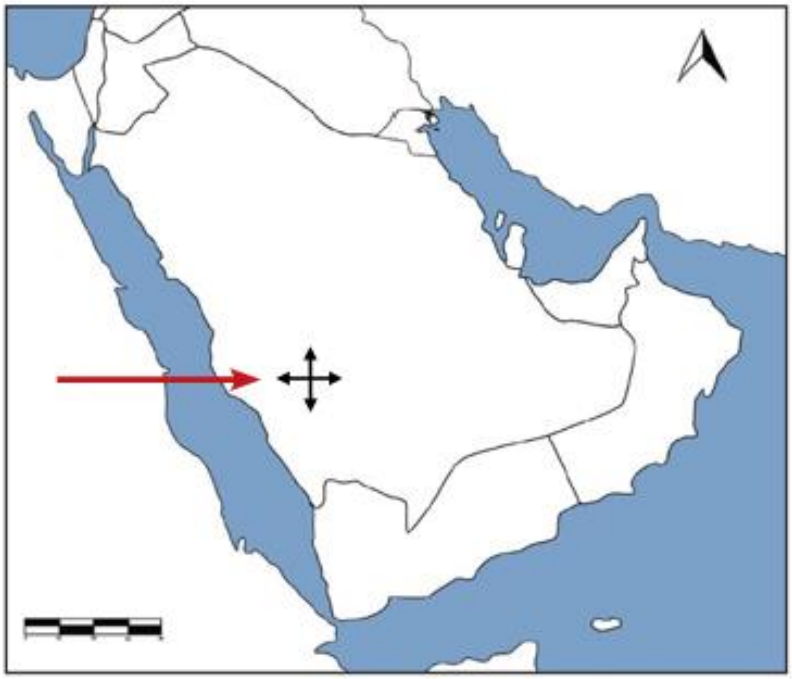

ابدأ الرسم من هنا

إجابة أوراق عمل الاختبار القصير

مدرسة التميز النموذجية
(ابتدائي - متوسط - ثانوي)

مراجعات غير مخصصة للبيع
المصدر
الكتاب المدرسي
وزارة التربية / الكويت
طبعة
2027/2026م
خاصة بطلبة مدارس التميز النموذجية

إجابة ورقة عمل الدرس الأول: الجهات الأصلية والفرعية

أكمل المخطط السهمي التالي:

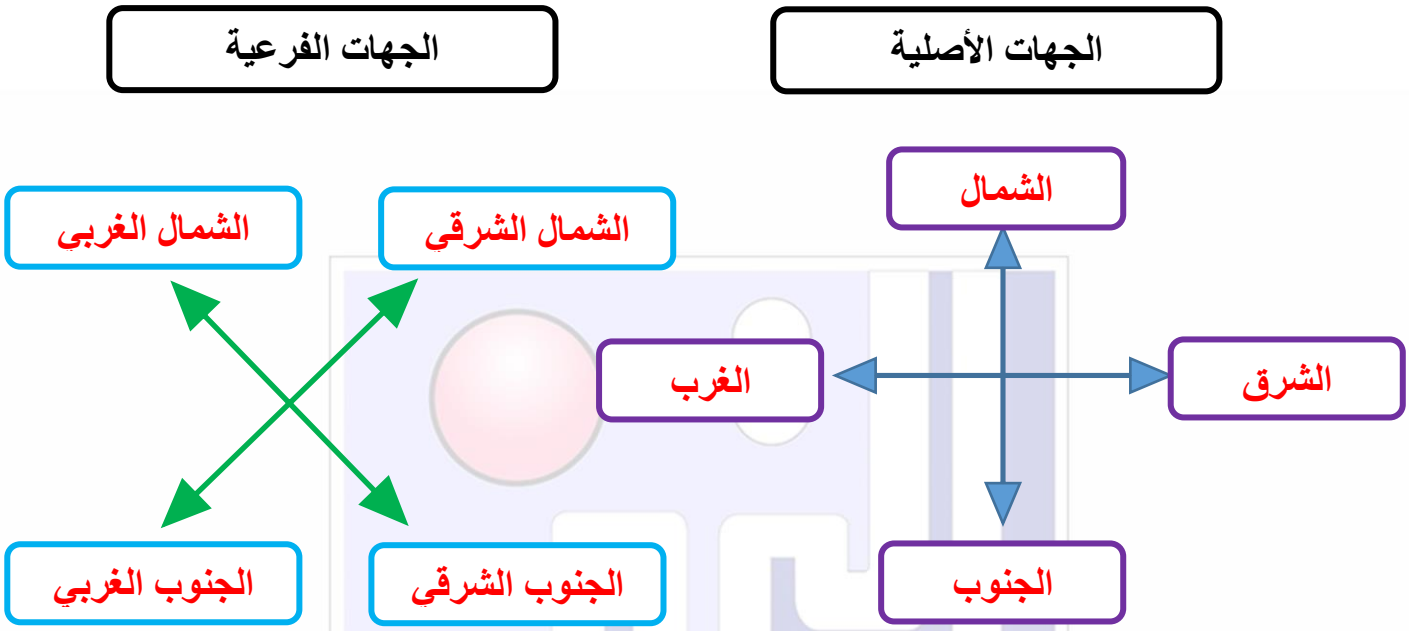

أكمل ما يلي:

- تشرق الشمس من جهة **الشرق**
- تغرب الشمس في جهة **الغرب**

مدرسة التميز النموذجية
(ابتدائي - متوسط - ثانوي)

ما أهمية الجهات في حياتنا؟

- **معرفة اتجاه القبلة لأداء فريضة الصلاة.**
- **موقع وطني الكويت.**
- **معرفة موقع الدول التي تحيط بنا.**

إجابة ورقة عمل الدرس الثاني: خريطة وطني الكويت

أكمل ما يلي:

- الدولة التي تقع في الجنوب والجنوب الغربي للكويت تسمى **المملكة العربية السعودية**
- الدولة التي تقع في الشمال والشمال الغربي للكويت تسمى **العراق**
- المسطح المائي الذي يحد الكويت من جهة الشرق يسمى **الخليج العربي**

أكمل عناصر الخريطة التالية:

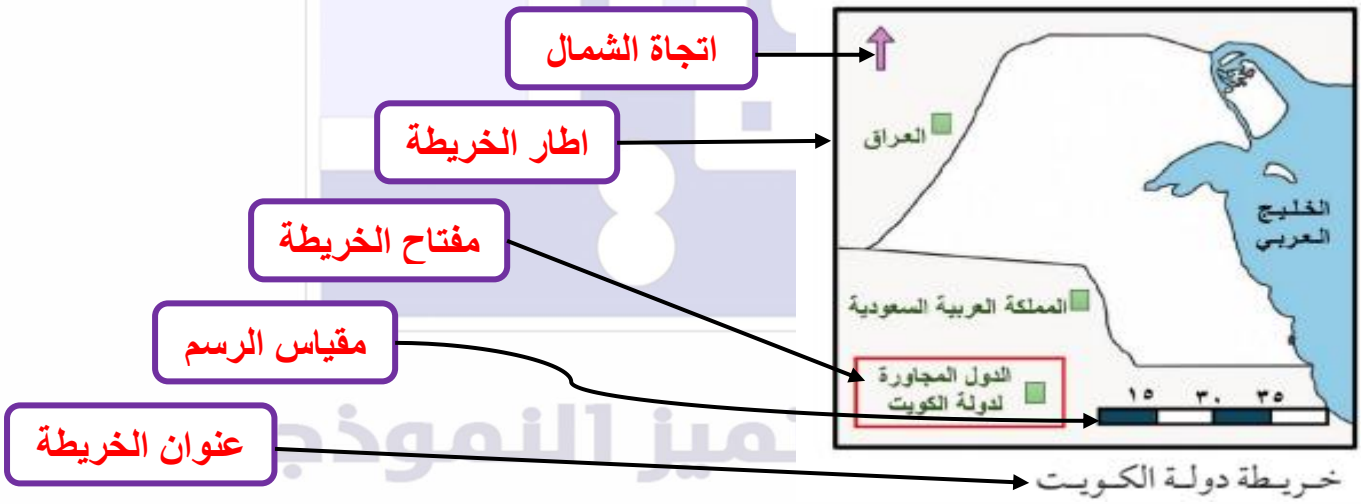

ما المقصود بالخريطة؟

وسيلة لتصغير الأشياء الحقيقية.

مراجعات غير مخصصة للبيع
المصدر
الكتاب المدرسي
وزارة التربية / الكويت
طبعة
2027/2026م
خاصة بطلبة مدارس التميز النموذجية

إجابة ورقة عمل الدرس الثالث: موقع وطني الكويت

أكمل ما يلي:

- تقع دولة الكويت بالنسبة للوطن العربي في جهة **الشرق**
- تقع دولة الكويت بالنسبة لشبه الجزيرة العربية في جهة **الشمال الشرقي**
- تقع دولة الكويت بالنسبة للعالم في **الوسط**
- تبلغ مساحة دولة الكويت حوالي **17.818 كم^2**

أهمية موقع دولة الكويت:

- **يحتل موقعاً متوسطاً بالنسبة للعالم.**
- **يمثل المعبر التجاري بين خطوط الملاحة البرية والبحرية.**

ارسم على الخريطة التالية اتجاه دولة الكويت بالنسبة لشبه الجزيرة العربية:

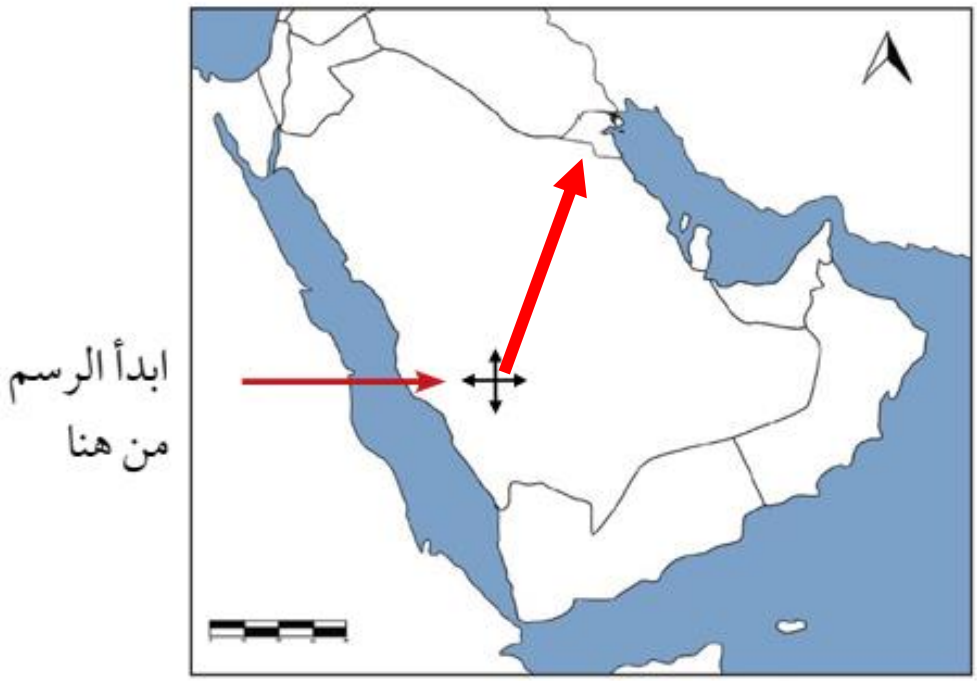

مدرسة التميز النموذجية
ابتدائي - متوسط - ثانوي

عندما يكون تعليم أبنائكم
اهتمامكم الأول في الحياة

قنواتنا على تليجرام

الصف الأول
الصف الثاني
الصف الثالث
الصف الرابع

الصف الخامس
الصف السادس
الصف السابع
الصف الثامن

الصف التاسع
الصف العاشر
صف ١١ علمي
صف ١١ أدبي

صف ١٢ علمي
صف ١٢ أدبي