أوراق عمل الوحدة الأولى

مادة الاجتماعيات

(وطني الكويت)

الفصل الدراسي الأول 2026 – 2027 م

للصف (الرابع)

مدرسة التميز النموذجية
(ابتدائي - متوسط - ثانوي)

إعداد

قسم الاجتماعيات

ورقة عمل الدرس الأول: الجهات الأصلية والفرعية

أكمل المخطط السهمي التالي:

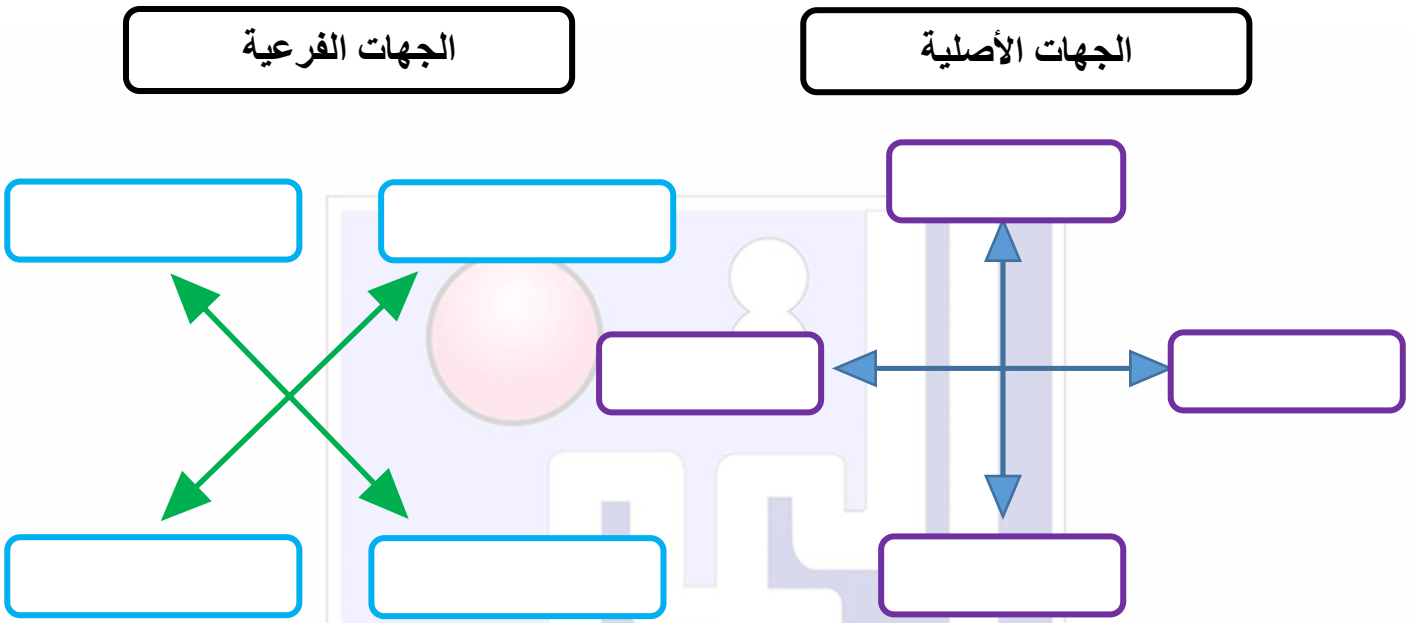

أكمل ما يلي:

- تشرق الشمس من جهة .....
- تغرب الشمس في جهة .....

مدرسة التميز النموذجية
(ابتدائي - متوسط - ثانوي)

ما أهمية الجهات في حياتنا؟

- .....
- .....
- .....

إجابة ورقة عمل الدرس الأول: الجهات الأصلية والفرعية

أكمل المخطط السهمي التالي:

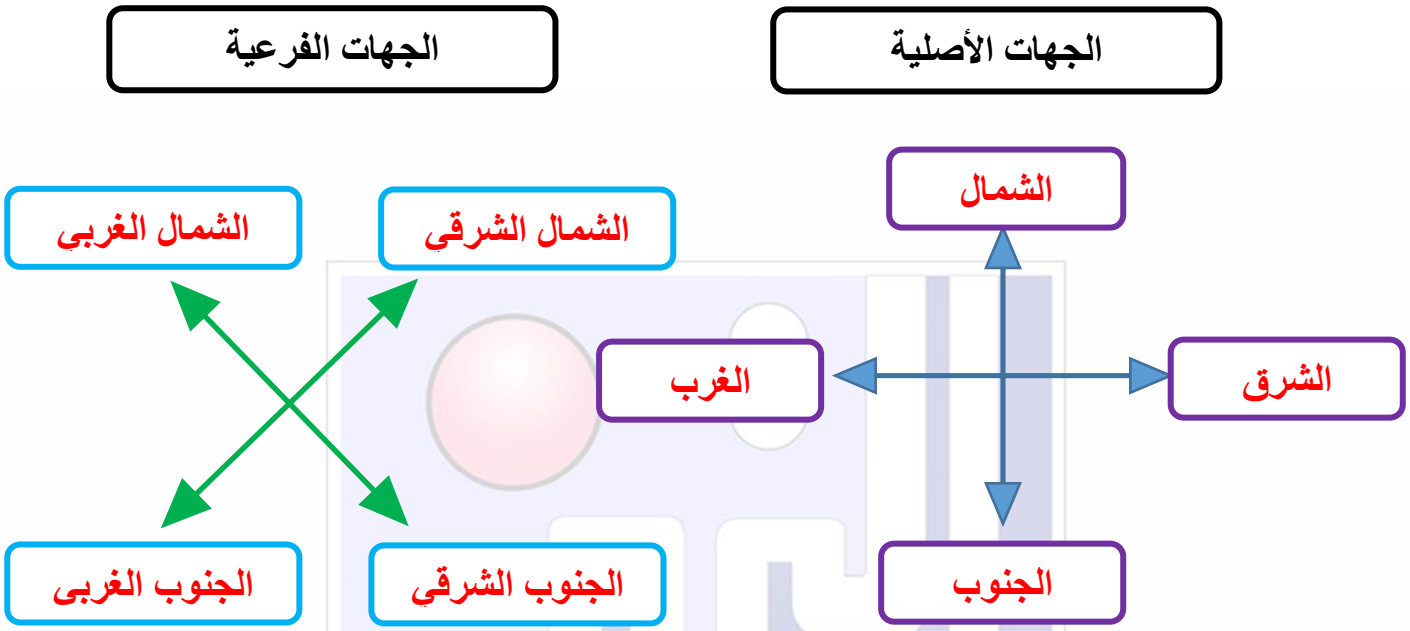

أكمل ما يلي:

- تشرق الشمس من جهة **الشرق**
- تغرب الشمس في جهة **الغرب**

مدرسة التميز النموذجية
(ابتدائي - متوسط - ثانوي)

ما أهمية الجهات في حياتنا؟

- **معرفة اتجاه القبلة لأداء فريضة الصلاة.**
- **موقع وطني الكويت.**
- **معرفة موقع الدول التي تحيط بنا.**

ورقة عمل الدرس الثاني: خريطة وطني الكويت

أكمل ما يلي:

- الدولة التي تقع في الجنوب والجنوب الغربي للكويت تسمى .....

- الدولة التي تقع في الشمال والشمال الغربي للكويت تسمى .....

- المسطح المائي الذي يحد الكويت من جهة الشرق يسمى .....

أكمل عناصر الخريطة التالية:

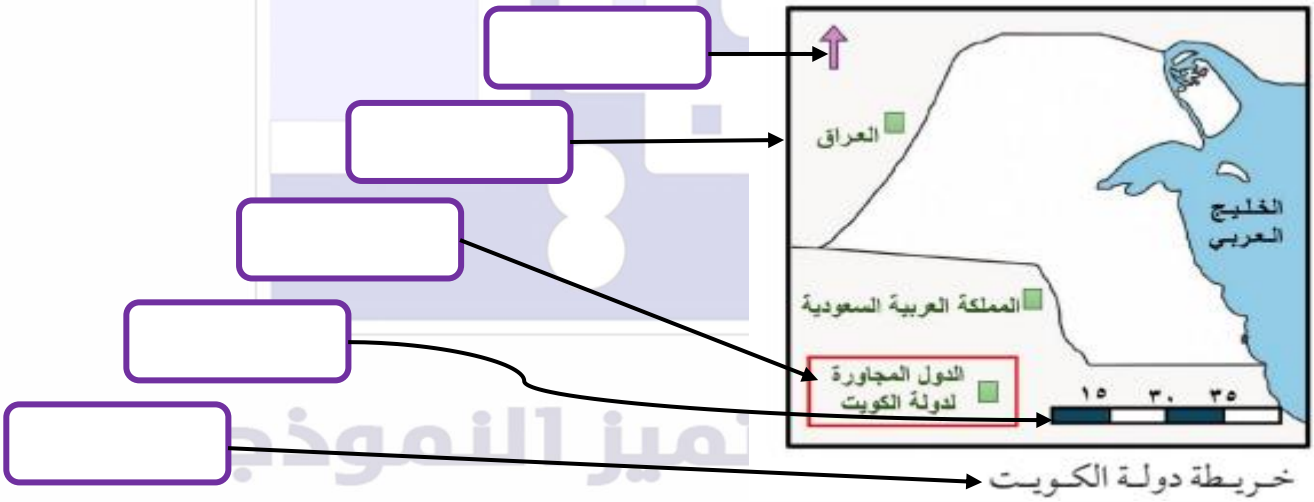

مدرسة التميز النموذجية
(ابتدائي - متوسط - ثانوي)

ما المقصود بالخريطة؟

.....

إجابة ورقة عمل الدرس الثاني: خريطة وطني الكويت

أكمل ما يلي:

- الدولة التي تقع في الجنوب والجنوب الغربي للكويت تسمى **المملكة العربية السعودية**
- الدولة التي تقع في الشمال والشمال الغربي للكويت تسمى **العراق**
- المسطح المائي الذي يحد الكويت من جهة الشرق يسمى **الخليج العربي**

أكمل عناصر الخريطة التالية:

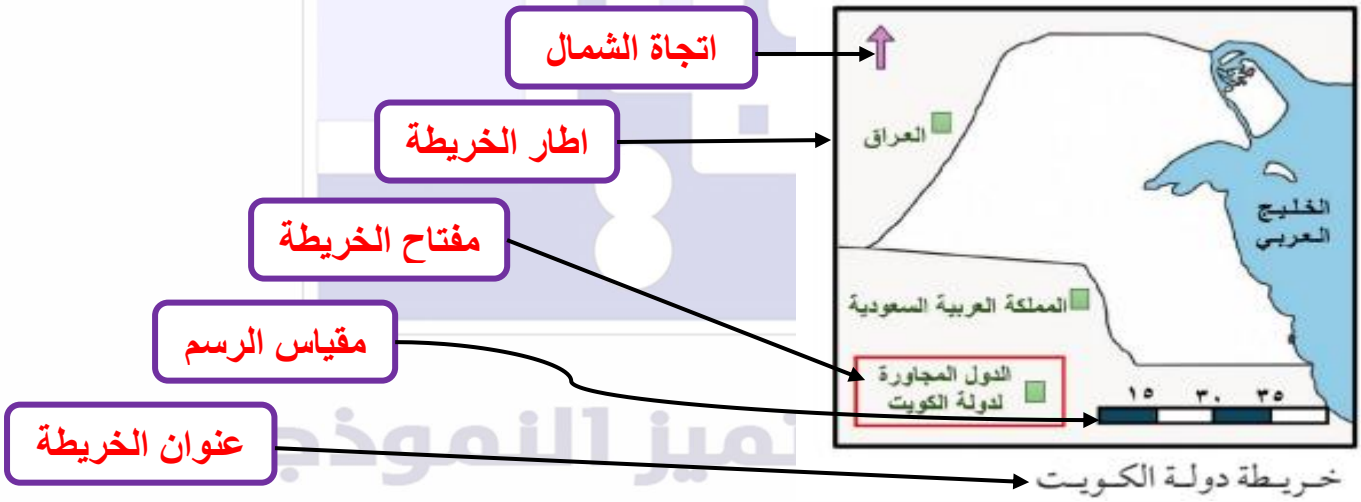

ما المقصود بالخريطة؟

وسيلة لتصغير الأشياء الحقيقية.

ورقة عمل الدرس الثالث: موقع وطني الكويت

أكمل ما يلي:

- تقع دولة الكويت بالنسبة للوطن العربي في جهة .....
- تقع دولة الكويت بالنسبة لشبه الجزيرة العربية في جهة .....
- تقع دولة الكويت بالنسبة للعالم في .....
- تبلغ مساحة دولة الكويت حوالي .....

أهمية موقع دولة الكويت:

- .....
- .....

ارسم على الخريطة التالية اتجاه دولة الكويت بالنسبة لشبه الجزيرة العربية:

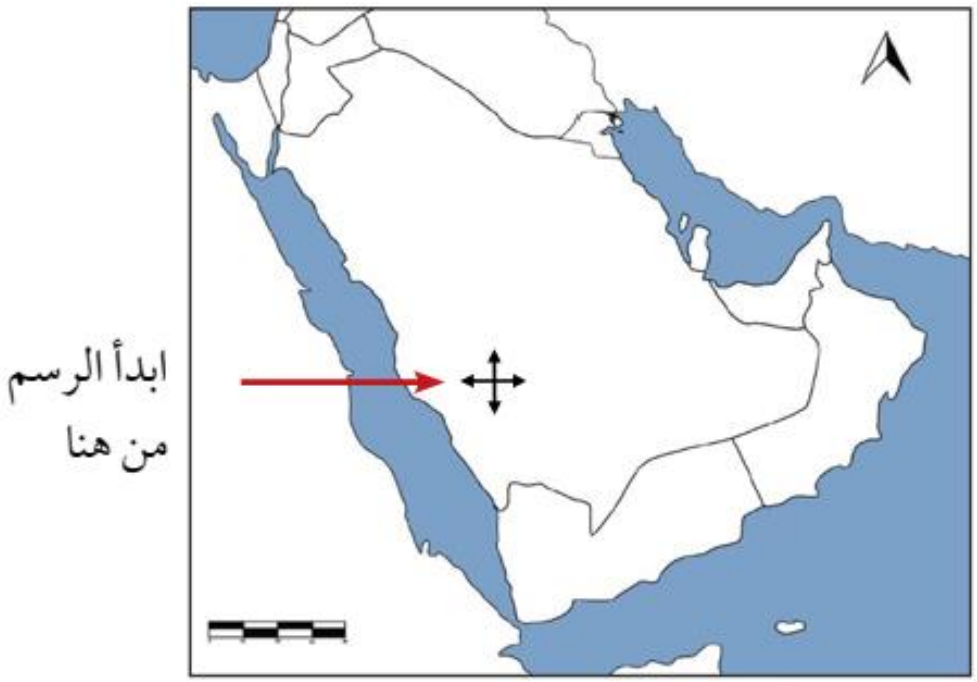

إجابة ورقة عمل الدرس الثالث: موقع وطني الكويت

أكمل ما يلي:

- تقع دولة الكويت بالنسبة للوطن العربي في جهة **الشرق**
- تقع دولة الكويت بالنسبة لشبه الجزيرة العربية في جهة **الشمال الشرقي**
- تقع دولة الكويت بالنسبة للعالم في **الوسط**
- تبلغ مساحة دولة الكويت حوالي **17.818 كم^2**

أهمية موقع دولة الكويت:

- **يحتل موقعاً متوسطاً بالنسبة للعالم.**
- **يمثل المعبر التجاري بين خطوط الملاحة البرية والبحرية.**

ارسم على الخريطة التالية اتجاه دولة الكويت بالنسبة لشبه الجزيرة العربية:

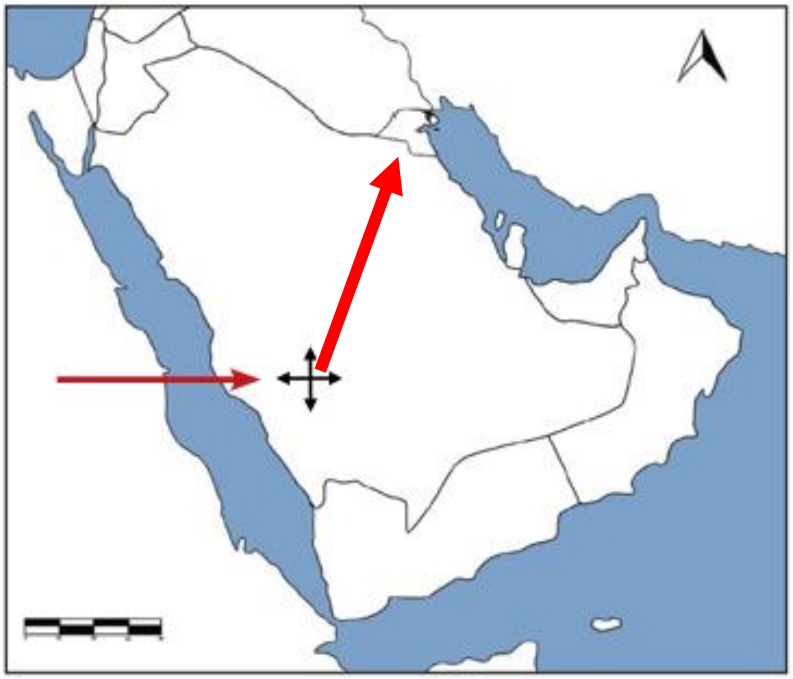

ابدأ الرسم من هنا

ورقة عمل الدرس الرابع: تضاريس وطني الكويت

عرف ما يلي:

- التضاريس: .....
- السهل: .....
- التل: .....

أكمل ما يلي:

- إحدى التضاريس الموجودة في وطني الكويت تلال تسمى .....
- الوادي الموجود في غرب الكويت يسمى .....
- إحدى التضاريس الموجودة في وطني الكويت سهل تسمى .....

ضع الرمز الدال على الكلمات التالية في مكانها الصحيح على خريطة وطني الكويت:



جَـالُ الزورِ

سَـهْلُ الـدبـدبةِ

وَادِي البَـاطِـن

إجابة ورقة عمل الدرس الرابع: تضاريس وطني الكويت

عرف ما يلي:

- التضاريس: **أشكال سطح الأرض من مرتفعات ومنخفضات.**
- السهل: **أرض مستوية المساحة وواسعة.**
- التل: **أرض مرتفعة قليلاً عن مستوى الأراضي المحيطة بها**

أكمل ما يلي:

- إحدى التضاريس الموجودة في وطني الكويت تلال تسمى **جال الزور**
- الوادي الموجود في غرب الكويت يسمى **الباطن**
- إحدى التضاريس الموجودة في وطني الكويت سهل تسمى **الدبدبة**

ضع الرمز الدال على الكلمات التالية في مكانها الصحيح على خريطة وطني الكويت:

ورقة عمل الدرس الخامس: سواحل وجزر وطني الكويت

أكمل ما يلي:

- يبلغ عدد جزر الكويت ..... جزر
- أكبر جزيرة في الكويت من حيث المساحة تسمى .....
- الجزيرة التي تقع داخل جون الكويت هي .....
- الجزيرة الوحيدة التي كانت مؤهولة بالسكان هي .....
- الخور الموجود في جنوب الكويت يسمى .....
- الخور الموجود جهة أقصى شمال شرق الكويت يسمى .....

ما المقصود بالجزيرة؟

.....

فرق بين الرأس والخور:

الرأس	الخور

اكتب مميزات ساحل وطني الكويت.

- ..... - ..... - .....

مدرسة التميز النموذجية
(ابتدائي - متوسط - ثانوي)

امامك خريطة صماء لدولة الكويت نفذ عليها ما يلي:

- أكبر جزيرة بالكويت بالشكل ■
- الجزيرة الوحيدة التي كانت مأهولة بالسكان بالشكل ●
- جون الكويت بالشكل ▲

إجابة ورقة عمل الدرس الخامس: سواحل وجزر وطني الكويت

أكمل ما يلي:

- يبلغ عدد جزر الكويت **تسع (9)** جزر
- أكبر جزيرة في الكويت من حيث المساحة تسمى **بوبيان**
- الجزيرة التي تقع داخل جون الكويت هي **أم النمل**
- الجزيرة الوحيدة التي كانت مؤهولة بالسكان هي **فيلكا**
- الخور الموجود في جنوب الكويت يسمى **المفتح**
- الخور الموجود جهة أقصى شمال شرق الكويت يسمى **عبد الله**

ما المقصود بالجزيرة؟

قطعة من اليابس تحيط بها المياه من جميع الجهات.

فرق بين الرأس والخور:

الرأس	الخور
جزء من اليابس داخل الماء	**لسان من الماء داخل اليابس**

اكتب مميزات ساحل وطني الكويت.

- **رملي منبسط.** - **قليل التعاريج.** - **ضحل المياه.**

امامك خريطة صماء لدولة الكويت نفذ عليها ما يلي:

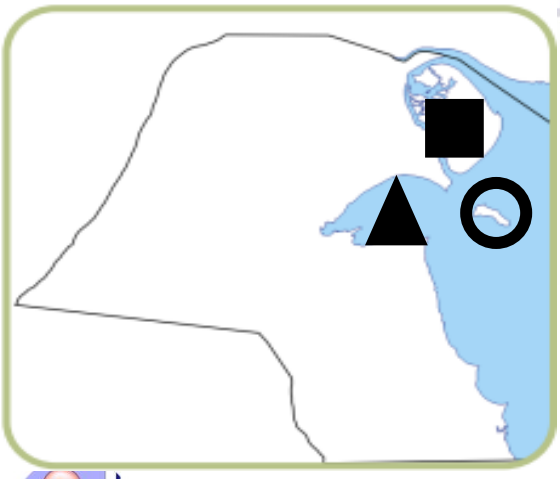

- أكبر جزيرة بالكويت بالشكل ■
- الجزيرة الوحيدة التي كانت مأهولة بالسكان بالشكل ●
- جون الكويت بالشكل ▲

ورقة عمل الدرس السادس: المناخ وأثره على النباتات والحيوانات

أكمل ما يلي:

- النبات الذي تنمو منه الزهرة الوطنية يسمى .....
- من المحميات الطبيعية الموجودة بالكويت محمية .....

عرف ما يلي:

- الفصول الأربعة: .....
- النبات الطبيعي: .....
- المحمية الطبيعية: .....

فرق بين الطقس والمناخ:

المناخ	الطقس

مميزات مناخ وطني الكويت:

- ..... - .....

قارن بين كل من:

وجه المقارنة	النباتات الطبيعية	الحيوانات البرية
المميزات		
الأمثلة		

علل: فقر الغطاء النباتي في وطني الكويت.

- .....

إجابة ورقة عمل الدرس السادس: المناخ وأثره على النباتات والحيوانات

أكمل ما يلي:

- النبات الذي تنمو منه الزهرة الوطنية يسمى **العرفج**
- من المحميات الطبيعية الموجودة بالكويت محمية **صباح الأحمد الطبيعية**

عرف ما يلي:

- الفصول الأربعة: **تحدث نتيجة دوران الأرض حول الشمس مرة كل عام.**
- النبات الطبيعي: **النبات الذي ينمو في الطبيعة دون تدخل من الإنسان.**
- المحمية الطبيعية: **أماكن تخصصها الدولة لحماية الحيوانات والنباتات المهددة بالانقراض.**

فرق بين الطقس والمناخ:

المناخ	الطقس
حالة الجو خلال فترة زمنية طويلة لا تقل عن ثلاثين عاماً	**حالة الجو خلال فترة زمنية قصيرة من يوم إلى أسبوع**

مميزات مناخ وطني الكويت:

- **حار جاف صيفاً.** – **بارد شتاءً وقليل الأمطار.**

مدرسة التميز النموذجية

قارن بين كل من:

وجه المقارنة	النباتات الطبيعية	الحيوانات البرية
المميزات	**غطاء نباتي فقير بسبب الظروف الصحراوية**	**القدرة على تحمل ظروف البيئة الصحراوية القاسية**
الأمثلة	**الرمث / الهرم / العرفج**	**الجمل / الضب / الجربوع**

علل: فقر الغطاء النباتي في وطني الكويت.

- **بسبب الظروف الصحراوية (شدة الحرارة والجفاف).**

مدرسة التميز النموذجية
ابتدائي - متوسط - ثانوي

عندما يكون تعليم أبنائكم
اهتمامكم الأول في الحياة

قنواتنا على تليجرام

الصف الأول
الصف الثاني
الصف الثالث
الصف الرابع

الصف الخامس
الصف السادس
الصف السابع
الصف الثامن

الصف التاسع
الصف العاشر
صف ١١ علمي
صف ١١ أدبي

صف ١٢ علمي
صف ١٢ أدبي