مدرستي معكم
خطوة بخطوة
للنجاح والتفوق

مدرستي
الكويتية
حمل التطبيق

اضغط هنا

وزارة التربية

وزارة التربية — امتحان نهاية الفترة الدراسية الثانية — العام الدراسي : ٢٠٢٤ / ٢٠٢٥ م

الادارة العامة للتعليم الخاص — لمادة الاجتماعيات (الكويت والوطن العربي) — الزمن : ساعة و نصف

التوجيه الفني للإجتماعيات — الصف السابع (نموذج إجابة) — عدد الأوراق : ٥

وزارة التربية
الإدارة العامة للتعليم الخاص
نموذج الإجابة

أجب عن جميع الأسئلة :

السؤال الأول : موضوعي يتكون من (أ – ب - ج):

(أ) صحح ما تحته خط في العبارات التالية مما درست : (٥ × ١)

١- التبادل التجاري بين الدول العربية يطلق عليه الصادرات (التجارة البينية) ص ١٥٢

٢- الصناعات الأولى في العالم وتستخدم مواد أولية محلية وتعتمد على المجهود البشري تسمى البشرية (الحرفية) ص ١٤٣

٣- تسجيل المواليد والوفيات وحالات الزواج والطلاق يطلق عليه التعداد السكاني (الاحصاء الحيوي) ص٩٩

٤- الصندوق الكويتي للتنمية الاقتصادية العربية تم إنشاؤه عام ١٩٦٠ م (١٩٦١ م) ص ١٧٩

٥- القطاع الذي يشكل ٥٠ % من نسبة الاقتصاد العربي يسمى الصناعي (الزراعي) ص ١١٠

(ب) اختر للمجموعة (أ) ما يناسبها من المجموعة (ب) بوضع الرقم في المكان المناسب : (٤ × ١)

(أ)	الرقم	(ب)
١- الخشب والورق	(٣)	- الصناعات التجميعية ص ١٤٣
٢- الفحم والأملاح	(-)	- الصناعات البتروكيماوية ص ١٤٥
٣- تجميع السيارات	(١)	- الصناعات التحويلية ص ١٤٢
٤- الصفائح والسبائك	(٤)	- الصناعات التعدينية ص ١٤١
	(٢)	- الصناعات الاستخراجية ص ١٤١

(ج) صنف مقومات الصناعة التالية حسب الجدول التالي : (٦ × ١) ص ١٣٩

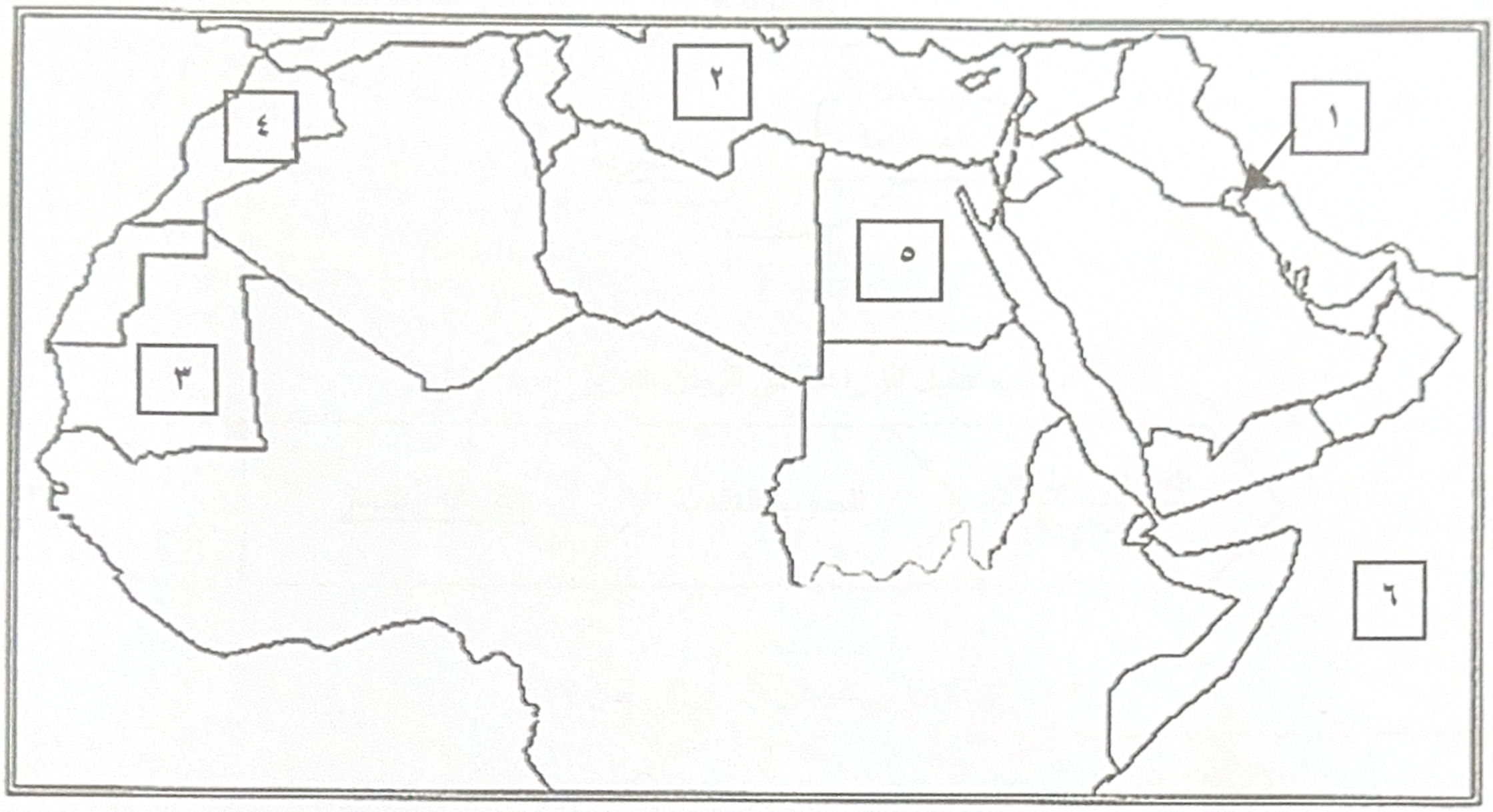
(غابات - السوق - الشمس - رؤوس الأموال - البترول - وسائل النقل)

مقومات طبيعية	مقومات بشرية
- غابات	- رؤوس الأموال
- الشمس	- السوق
- البترول	- وسائل النقل

مدرستي الكويتية school-kw.com

السؤال الثاني موضوعي ويتكون من (أ - ب – ج) :

(أ) لاحظ خريطة الوطن العربي الصماء ثم ضع الرقم المناسب أمام العبارات التالية : (١ × ٤)



١- الدولة العربية الأولى في إنتاج الحديد يمثلها على الخريطة الرقم (٣) ص ١٣٣

٢- الدولة العربية الأولى في الانتاج السمكي يمثلها على الخريطة الرقم (٥) ص١٢٣

٣- الدولة العربية الأولى في إنتاج الرصاص يمثلها على الخريطة الرقم (٤) ص ١٣٣

٤- مقر منظمة الدول العربية المصدرة للنفط أوابك يمثلها على الخريطة الرقم (١) ص ١٣٥

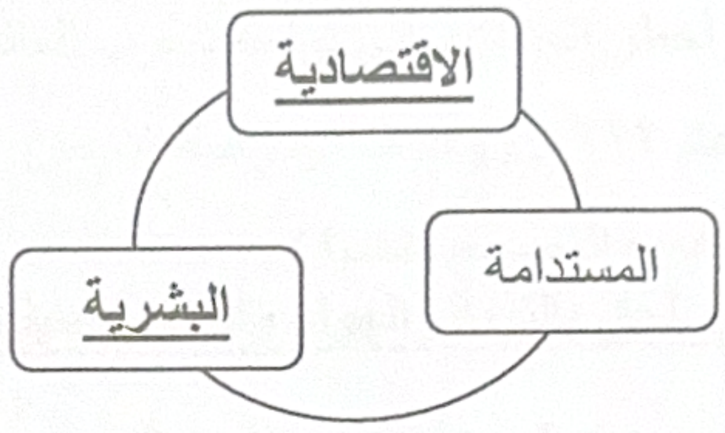
وزارة التربية
الإدارة العامة للتعليم الخاص
نموذج الإجابة

مدرستي الكويتية
school-kw.com

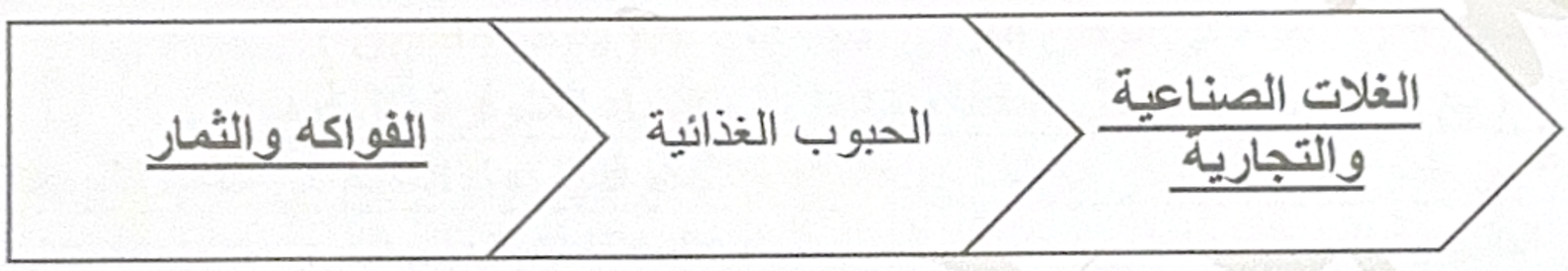
تابع السؤال الثاني :

(ب) أكمل المطلوب في الاشكال التالية : (١ × ٦)

١- التنمية في الوطن العربي : ص ١٧٣



٢- المحاصيل الزراعية في الوطن العربي ص ١١٣



٣- طرق النقل في الوطن العربي : ص ١٤٧



وزارة التربية
الإدارة العامة للتعليم الخاص
نموذج الإجابة

(ج) أكتب المفاهيم الدالة على العبارات التالية في الجدول الذي أمامك : (١ × ٥)

م	المفهوم	العبارة
١	الكثافة السكانية	نسبة عدد السكان الكلي في دولة ما أو منطقة ما إلى المساحة الكلية لهذه الدولة ص ١٠٢
٢	الغاز الطبيعي	غاز مصاحب للنفط الخام أو يوجد منفردا تتم إسالته لإستخدامات عديدة ص ١٢٥
٣	الموارد البشرية	ترتبط بالسكان من حيث أعدادهم وتوزيعهم ومناسبة أعدادهم لمساحة الأرض التي يستغلونها ص ١٠٩
٤	الطاقة	قوى محركة للآلات وعنصر مهم للتقدم والتطور الاقتصادي بجميع المجالات ص ١٢٥
٥	التصحر	زحف رمال الصحراء على المناطق الجافة وشبه الجافة ص ١٦٢

مدرستي الكويتية school-kw.com

السؤال الثالث مقالي ويتكون من (أ - ب – ج) :

(أ) إقرأ الفقرة التالية ثم أجب عن الأسئلة التي تليها : (١ × ٤) ص ١٦٦ و ص ١٧٠

((التلوث يصيب عناصر البيئة من عدة مصادر للملوثات : صناعية ، زراعية ، منزلية وأكثرها إنتشارا التلوث الكيميائي ، التلوث البيئي يعتبر أهم وأخطر المشاكل التي تواجه شعوب العالم حيث عقد أكبر مؤتمر للأمم المتحدة في مدينة ريودي جانيرو بالبرازيل عام ١٩٩٢ م وعرف بإسم قمة الأرض))

١- ضع عنوانا مناسبا للفقرة : (كل مايراه المصحح مناسبا)

٢- عرف ما تحته خط : **الضرر الذي يلحق بالتربة والهواء والماء ويصيب التلوث عناصر البيئة من عدة مصادر** ص ١٦٦

٣- عدد إثنان من مصادر الملوثات : **صناعية / زراعية / منزلية / كيميائية**

(ب) أجب عن الأسئلة التالية : (٢×٣ = ٦ درجات)

١- أكتب أسباب تدني وفرة المياه في الوطن العربي ص ١٦٤ (يكتفى بنقطتين)

- **النمو السريع للسكان الذي يشكل ضغطا متزايدا على المياه المتوفرة لكل فرد .**
- **٥٠ % من الموارد العالم تأتي من خارج حدوده وتتحكم فيها دول المنبع في غياب تشريعات دولية .**
- **الطرق التقليدية المستخدمة في إستغلال المياه في معظم مناطق العالم العربي مسؤولة عن تدني نسبة المياه**
- **(إستخدام الري بالغمر والاستهلاك الغير مسؤول في مجالات المياه)**
- **الشبكات المؤهلة لنقل المياه شبكات قديمة**
- **إفتقار الدول العربية إلى برامج لإدارة المياه ولا تستخدم الادوات الاقتصادية اللازمة لترشيد المياه .**

٢- عدد المناطق الرئيسية التي تتركز فيها معظم الحقول النفطية في الوطن العربي ص ١٢٦ (يكتفى بنقطتين)

- **دول الخليج وسهول دجلة والفرات / منطقة الصحراء الكبرى / منطقة خليج السويس**

٣- برهن على إستطاعت الانسان التغلب على الصعوبات التي تواجهه في بعض أنواع التضاريس (يكتفى بنقطتين) ص ١٠٥

- **حول الجبال إلى مدرجات وزرعها / شق العديد من الطرقات**
- **واجه ظروف العيش في الصحراء واستغل ثرواتها الطبيعية .**

وزارة التربية
الإدارة العامة للتعليم الخاص
نموذج الإجابة

(ج) علل لما يلي : (٥ درجات)

١- تنوع الثروة المائية في الوطن العربي ص ١٢٢ (يكتفى بنقطة) درجة

دول الوطن العربي دول بحرية لها سواحل ومسطحات مائية واسعة منها المالحة والعذبة .

٢- تحتل الأغنام العربية مكانا مهما ضمن الثروة الرعوية ص ١١٨ (يكتفى بنقطتين) درجتان

- **الأكثر إنتشارا في المراعي العربية / أهمية منتجاتها للسكان**
- **أكثر الحيوانات المستأنسة والملائمة لمراعي الوطن العربي لتحملها للجفاف والانتقال**
- **مصدر أساسي من مصادر الثروة القومية .**

٣- المنتوجات الزراعية تختلف أنواعها من دولة عربية إلى أخرى ص ١١٠ (يكتفى بنقطتين) درجتان

- **اختلاف المناخ / اختلاف التربة .**
- **مدى توافر المياه في هذه الدول .**

مدرستي الكويتية school-kw.com

السؤال الرابع: مقالي و يتكون من (أ – ب – ج):

(أ) فرق من حيث المفهوم فى الجدول التالى : (١ × ٤)

الزيادة الطبيعية	الزيادة الغير طبيعية ص ١٠٦
الفرق بين معدل المواليد ومعدل الوفيات	هي الزيادة الناتجة عن الهجرة
هجرة داخلية	هجرة خارجية ص ١٠٦
من القرى إلى المدن	من دولة إلى دولة أخرى

(ب) لاحظ الصورة التي أمامك ثم أجب عما يليها من أسئلة : (١ × ٥) ص ١٨٦

١- اذكر اسم الحاكم صاحب المبادرة لعقد القمة العربية الاقتصادية والتنموية والاجتماعية . (درجة)
الراحل الشيخ صباح الأحمد الصباح

٢- عدد أهم أهداف القمة العربية الاقتصادية و التنموية والاجتماعية : (يكتفى بنقطتين) درجتان



- إنشاء بنك عربي لتمويل شتى المشاريع التنموية للتقليل من معدلات الفقر
- القضاء على البطالة والفقر بتوفير فرص العمل
- الاستثمار الاقتصادي بين الدول العربية وتقوية التبادل التجاري
- الاعتناء بالعنصر البشري والتنمية المستدامة

٣- أكتب العام الذي تم فيه عقد القمة العربية الاقتصادية والتنموية الاجتماعية . درجة
٢٠٠٩م

٤- أذكر أهم أولويات هذا المؤتمر . درجة
إعادة تعمير قطاع غزة .

(ج) قارن بين منظمة أوبك ومنظمة الأوابك حسب ماهو مطلوب فى الجدول التالى : (١ × ٦)

وجه المقارنة	أوبك ص ١٣٤	أوابك ص ١٣٥
المفهوم	منظمة عالمية تعتمد على صادراتها النفطية إعتمادا كبيرا لتحقيق مدخولها أو : منظمة الدول المصدرة للنفط	منظمة الدول العربية المصدرة للنفط
سنة التأسيس	١٩٦٠م	١٩٦٨م
الأجهزة التابعة لها (يكتفى بنقطة)	المؤتمر / مجلس المحافظين / الأمانة العامة	المجلس الوزاري / المكتب التنفيذي الأمانة العامة

(إنتهت الأسئلة)

وزارة التربية
الإدارة العامة للتعليم الخاص
نموذج الإجابة

مدرستي الكويتية school-kw.com