مدرستي معكم
خطوة بخطوة
للنجاح والتفوق

مدرستي
الكويتية
حمل التطبيق

اضغط هنا

وزارة التربية

الإدارة العامة لمنطقة مبارك الكبير التعليمية

الكنترول

الإدارة العامة لمنطقة مبارك الكبير التعليمية

نموذج الإجابة

مادة الرياضيات

الصف : الثامن

وزارة التربية

منطقة مبارك الكبير التعليمية

التوجيه الفني للرياضيات

مدرستي الكويتية
school-kw.com

وزارة التربية	امتحان	للعام الدراسي : ٢٠٢٤ / ٢٠٢٥
الادارة العامة لمنطقة مبارك الكبير التعليمية	الفترة الدراسية الثانية	الزمـــن : ساعتان وربع
التوجيه الفني للرياضيات	الصف : الثامن	عدد الأوراق : (٧)

نموذج الإجابة

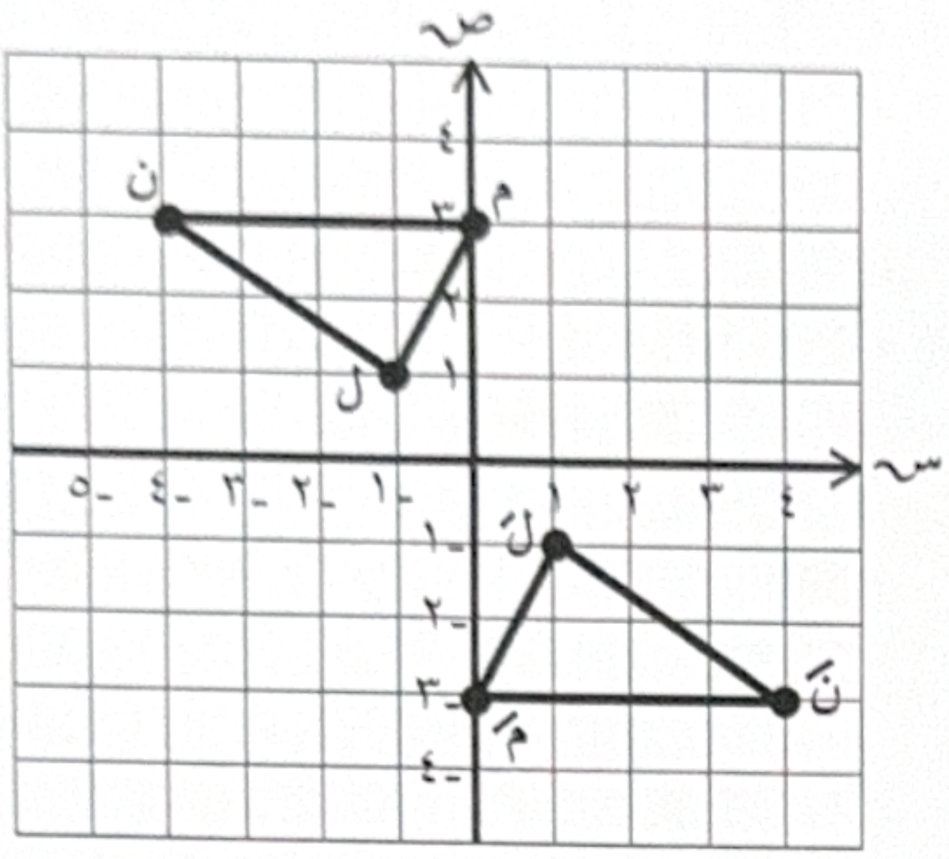
١٢

أسئلة المقال

(تراعى الحلول الأخرى في جميع الأسئلة)

السؤال الأول

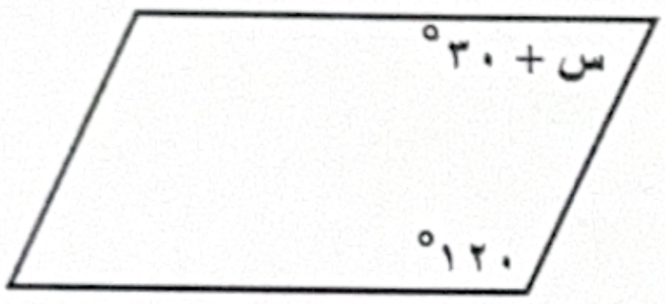
أ) إذا كان Δ لَ مَ نَ هو صورة Δ ل م ن بدوران مركزه نقطة الأصل وزاويته ١٨٠°، وكانت ل (-١، ١) ، م (٠ ، ٣) ، ن (-٤ ،٣) ، فعيّن إحداثيات الرؤوس لَ ، مَ ، نَ ، ثم ارسم Δ لَ مَ نَ في مستوى الإحداثيات.



(س ، ص) $\xrightarrow{د(و ، ١٨٠°)}$ (- س ، - ص)	١
ل (-١ ، ١) ⟵ لَ (١ ، -١)	٠,٥
م (٠ ، ٣) ⟵ مَ (٠ ، -٣)	٠,٥
ن (-٤ ، ٣) ⟵ نَ (٤ ، -٣)	٠,٥
	١,٥ الرسم + ١ التوصيل

٥

ب) في متوازي الأضلاع المقابل ، أوجد قيمة س :



∵ من خواص متوازي الأضلاع كل زاويتين متتاليتين متكاملتان	٠,٥
(س + ٣٠°) + ١٢٠° = ١٨٠°	٠,٥
س + ١٥٠° = ١٨٠°	٠,٥
س = ١٨٠° - ١٥٠°	٠,٥
س = ٣٠°	١

٣

ج) أوجد مجموعة حل المعادلة س^{٢} - ٤ = ٠ ، حيث س ∈ ح .

س^{٢} - ٤ = ٠		١
(س - ٢) (س + ٢) = ٠		١
إما س - ٢ = ٠	أو س + ٢ = ٠	١
∴ س = ٢ ∈ ح	أو س = -٢ ∈ ح	١
∴ مجموعة الحل = { ٢ ، -٢ }		١

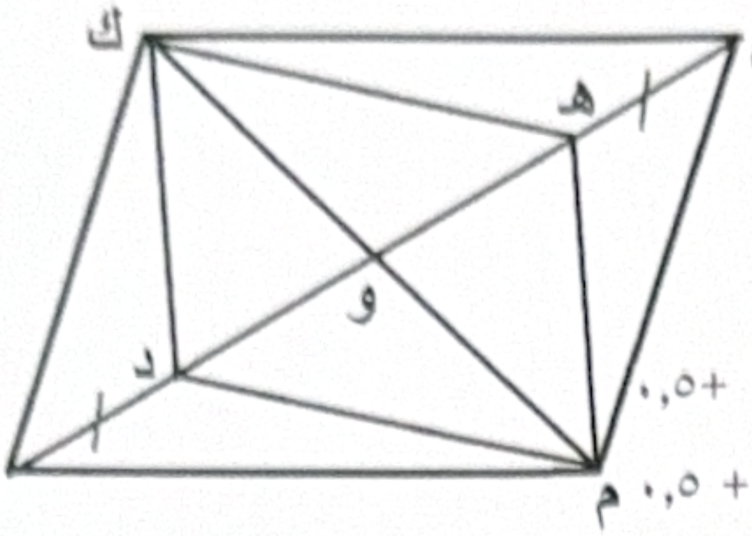
٤

الإدارة العامة لمنطقة مبارك الكبير التعليمية
وزارة التربية
وزارة التربية
منطقة مبارك الكبير التعليمية
التوجيه الفني للرياضيات
مدرستي الكويتية school-kw.com

السؤال الثاني

١٢

أ) إذا كان ل م ن ك متوازي أضلاع تقاطع قطريه في و ، ل هـ = ن د ،
برهن أن الشكل الرباعي هـ م د ك متوازي أضلاع .



البرهان :

∵ ل م ن ك متوازي أضلاع	معطى	٠,٥
∴ م و = ك و	من خواص متوازي الأضلاع (١)	٠,٥ +٠,٥
∴ و ل = و ن	من خواص متوازي الأضلاع	٠,٥ + ٠,٥
∵ ل هـ = ن د	معطى	٠,٥
∴ ل و – ل هـ = و ن – د ن	من خواص المساواة	٠,٥ + ٠,٥
∴ هـ و = د و	(٢)	٠,٥
∴ من (١) ،(٢) ينتج أن هـ م د ك متوازي أضلاع		
لأنه شكل رباعي فيه القطران ينصف كل منهما الآخر		٠,٥

٥

ب) أوجد ناتج جمع كثيرات الحدود التالية : ٧ س^{٢} + ٦ س – ٤ ، – س^{٢} + ٥ س – ٤

٧ س^{٢} + ٦ س – ٤	١ الترتيب
+ – س^{٢} + ٥ س – ٤	
٦ س^{٢} + ١١ س – ٨	١ + ١ + ١

٤

ج) أوجد مساحة شبه منحرف طول القاعدتين فيه ٣ وحدة طول ، ٥ وحدة طول وارتفاعه ٤ وحدة طول .

مساحة شبه المنحرف = $\frac{(ق_{١} + ق_{٢})}{٢} \times ع$	٠,٥
= $\frac{(٣ + ٥)}{٢} \times ٤$	١,٥
= ٤ × ٤	٠,٥
= ١٦ وحدة طول مربعة	٠,٥

٣

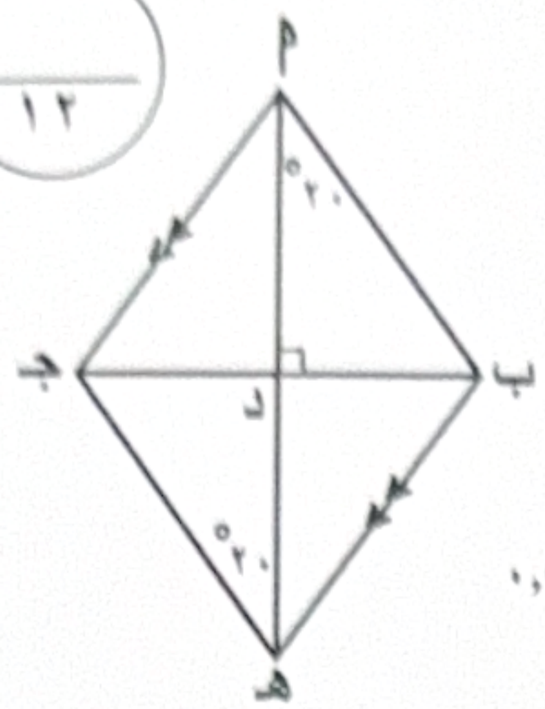
الكنترول
وزارة التربية
الإدارة العامة لمنطقة مبارك الكبير التعليمية
وزارة التربية
منطقة مبارك الكبير التعليمية
التوجيه الفني للرياضيات

مدرستي الكويتية school-kw.com

السؤال الثالث

١٢

أ) في الشكل المقابل ، أثبت أن : أ ب هـ جـ معين .



البرهان :

$\overline{أ جـ} \parallel \overline{ب هـ}$ معطى (١)	٠,٥
∵ ق (ب $\hat{أ}$ هـ) = ق (جـ $\hat{هـ}$ أ) وهما في وضع تبادل	٠,٥ + ٠,٥
∴ $\overline{أ ب} \parallel \overline{هـ جـ}$ (٢)	١
∴ من (١) و (٢) الشكل أ ب هـ جـ متوازي أضلاع	٠,٥
لأنه شكل رباعي فيه كل ضلعين متقابلين متوازيان	٠,٥
∵ $\overline{أ هـ} \perp \overline{ب جـ}$ معطى	٠,٥
∴ الشكل أ ب هـ جـ معين لأنه متوازي أضلاع قطراه متعامدان	٠,٥ + ٠,٥

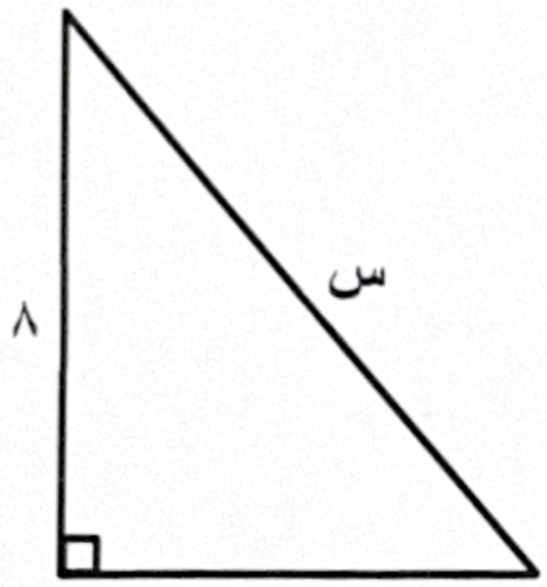
٥

ب) حل المتباينة : س - ٣ > ١٧ ، حيث س ∈ ص .

س - ٣ > ١٧	
س - ٣ +٣ > ١٧ + ٣	١
س > ٢٠	١
∴ حل المتباينة هو مجموعة الأعداد النسبية الأكبر من ٢٠	١

٣

ج) أوجد قيمة المجهول في المثلث المرسوم أمامك :



∵ المثلث قائم الزاوية	٠,٥
$(س)^{٢} = (٨)^{٢} + (٦)^{٢}$	١
= ٦٤ + ٣٦	١
= ١٠٠	٠,٥
س = $\sqrt{١٠٠}$ = ١٠	١

٤

وزارة التربية
منطقة مبارك الكبير التعليمية
الموجه الفني للرياضيات
الكنترول
الإدارة العامة لمنطقة مبارك الكبير التعليمية
مدرستي الكويتية school-kw.com

السؤال الرابع

١٢

أ) أوجد ناتج (س + ٤) (س + ٣) .

(س + ٤) (س + ٣) = س (س + ٣) + ٤ (س + ٣) | ٠,٥ + ٠,٥ + ٠,٥ +٠,٥

= س^{٢} + ٣ س + ٤ س + ١٢

= س^{٢} + ٧ س + ١٢ | ٠,٥+ ١ +٠,٥

٤

==========

ب) حلل المقدار الجبري التالي بإخراج العامل المشترك الأكبر (ع . م . أ) :

٨ س^{٣} + ٦ س^{٢} – ٤ س

(ع. م. أ) للحدين = ٢ س

٨ س^{٣} + ٦ س^{٢} – ٤ س= ٢س (٤ س^{٢} + ٣ س – ٢) | ٠,٥ + ١ + ١ + ٠,٥

٣

==========

ج) أوجد كل مما يلي :

- (٨ – ٥) ! = ..(..٣..)..!..=..٣ × ٢ × ١ =..٦..... | ١
- ^{٥}ل$_{٢}$ = ٥ ! / (٥ –٢) ! = ٥ ! / ٣ ! = ٥ × ٤ × ٣ × ٢ × ١ / ٣ × ٢ × ١ = ٢٠ | ٢
- ^{٤}ق$_{٢}$ = ٤ ! / ٢ ! (٤ – ٢) ! = ٤ ! / ٢ ! × ٢ ! = ٤ × ٣ × ٢ ! / ٢ ! × ٢ ! | ٢

= ٤ × ٣ / ٢ × ١ = ٦


٥

منطقة مبارك الكبير التعليمية
التوجيه الفني للرياضيات
مدرستي الكويتية school-kw.com

الأسئلة الموضوعية

(جدول التظليل في الصفحة الأخيرة)

أولا : البنود (١-٤) ظلل (أ) إذا كانت العبارة صحيحة، ظلل (ب) إذا كانت العبارة غير صحيحة .

١	الشكل المقابل يمثل مستطيلاً . 
٢	$٦ س^{٣} + ٤ س^{٥} - ٥$ حدودية من الدرجة الثالثة .
٣	المقدار $\frac{٨ س^{٥} ص^{٢}}{٢ س^{٥} ص^{٧}}$ في أبسط صورة هو $\frac{٤}{ص^{٥}}$.
٤	في تجربة إلقاء حجر نرد مرة واحدة، فإن احتمال ظهور عدد أصغر من ٦ يساوي $\frac{٥}{٦}$.

==========

ثانياً : البنود (٥-١٢) لكل بند أربع اختيارات ظلل في الورقة المخصصة للإجابة دائرة الاختيار الصحيح فقط

٥) $ن'(٧ ، -١)$ صورة ن (٢ ، -١) تحت تأثير :

(أ) انعكاس في المحور السيني (ب) د (و ، ٢٧٠°)

(جـ) انعكاس في نقطة الأصل (د) إزاحة إلى اليمين ٥ وحدات

---

٦) صورة النقطة ع (-٢ ، -٤) بالانعكاس في نقطة الأصل (و) هي :

(أ) (٢ ، -٤) (ب) (-٢ ، ٤)

(جـ) (٢ ، ٤) (د) (٤ ، ٢)

---

٧) عدد طرائق الاختيار لدراجة من ٥ ألوان و ٣ أحجام هو :


(أ) ٨ طرق (ب) ١٥ طريقة

(جـ) ٥ طرق (د) ١٠ طرق


وزارة التربية
منطقة مبارك الكبير التعليمية
التوجيه الفني للرياضيات


الكنترول
الإدارة العامة لمنطقة مبارك الكبير التعليمية
وزارة التربية
مدرستي الكويتية school-kw.com

٨) الشكل الذي يمثل مربع هو :

(أ) 

(ب) 

(جـ) 

(د) 

---

٩) المعكوس الجمعي لكثيرة الحدود $-٢ س^{٢} + ٣ س - ٤$ هو :

(أ) $-٢س^{٢} - ٣ س - ٤$

(ب) $-٢س^{٢} - ٣ س + ٤$

(جـ) $٢س^{٢} - ٣ س + ٤$

(د) $٢س^{٢} + ٣ س - ٤$

---

١٠) س = ٧ يمثل أحد حلول المتباينة :

(أ) $٢ س \leqslant ٥$

(ب) $٩ - س \geqslant ١$

(جـ) $س - ٥ < ١$

(د) $٣ س > ٢٧$

---

١١) أسطوانة دائرية قائمة محيط قاعدتها ١٥ وحدة طول وارتفاعها ٣ وحدة طول ، فإن مساحة السطح المنحني فقط تساوي :

(أ) ٧٠ وحدة مربعة

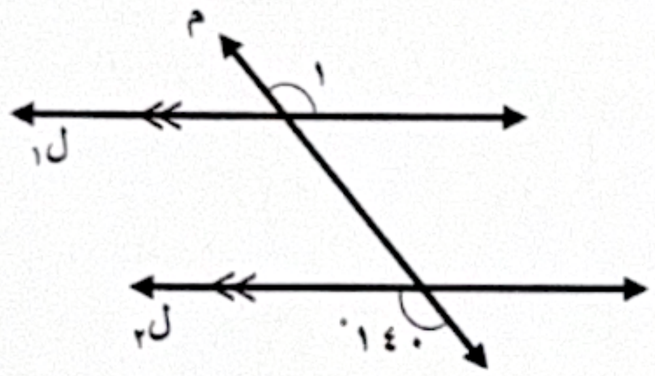
(ب) ١٨ وحدة مربعة

(جـ) ٤٥ وحدة مربعة

(د) ٤٤١ وحدة مربعة

---

١٢) في الشكل المقابل $ق(\hat{أ})$ يساوي :



(أ) ٤٠°

(ب) ١٤٠°

(جـ) ١٨٠°

(د) ٣٦٠°

انتهت الأسئلة

وزارة التربية
منطقة مبارك الكبير التعليمية
التوجيه الفني للرياضيات

الكنترول
وزارة التربية
الإدارة العامة لمنطقة مبارك الكبير التعليمية

مدرستي الكويتية
school-kw.com

جدول تظليل إجابات الموضوعي

رقم السؤال	الإجابة			
(١)	أ	ب		
(٢)	أ	ب		
(٣)	أ	ب		
(٤)	أ	ب		
(٥)	أ	ب	جـ	د
(٦)	أ	ب	جـ	د
(٧)	أ	ب	جـ	د
(٨)	أ	ب	جـ	د
(٩)	أ	ب	جـ	د
(١٠)	أ	ب	جـ	د
(١١)	أ	ب	جـ	د
(١٢)	أ	ب	جـ	د

(درجة لكل سؤال)

١٢

وزارة التربية
منطقة مبارك الكبير التعليمية
التوجيه الفني للرياضيات

المكنترول
الإدارة العامة لمنطقة مبارك الكبير التعليمية
وزارة التربية

مدرستي الكويتية school-kw.com