أوراق عمل مادة
الاجتماعيات

الفصل الدراسي الأول 2024 – 2025 م

للصف التاسع

الوحدة الأولى

إعداد

قسم الاجتماعيات

ورقة عمل رقم 1

من خلال دراستك لدرس (البيئة الطبيعية) ص15 من ك م اجب عن الأسئلة التالية :

1. **اكتب المفهوم الدال على العبارات التالية:**

- (.....) التفاعل المستمر بين مكونات البيئة الذي يحفظ استقرارها النسبي في زمن محدد

- (.....) الإطار الذي يعيش فيه الانسان ويحصل فيه على جميع مقومات حياته

- (.....) كل ما يحيط بالإنسان من ظاهرات حية وظاهرات غير حية

2. **أكمل المخطط السهمي التالي:**

.....

مثلث اضلاع الحياة

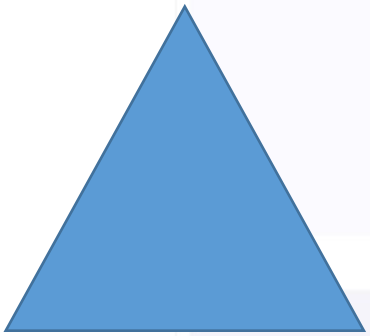

....

3. **اكتب فيما يلي:**

مميزات البيئة الطبيعية

1. .....
2. .....
3. .....

4. **أكمل العبارات التالية بما يناسبها مما درست:**

1-العالم الذي استخدم علم البيئة الطبيعة كمفهوم يدرس في الجامعات يسمى .....

2-ظهر مصطلح البيئة الطبيعية في القرن .....

ورقة عمل عن (الموقع) رقم 2

من خلال دراستك لموضوع (الموقع) من ك م ص 18 اجب خن الأسئلة لتالية:

1. **أكمل المخطط السهمي التالي:**

اقسام الموقع

..... مكاني .....

2. **أكمل العبارات التالية بما يناسبها مما درست:**

- اكبر دول العالم من حيث المساحة دولة تسمى .....
- اصغر دول العالم من حيث المساحة دولة تسمى .....
- تقع دولة الكويت بالنسبة لقارة اسيا في جهة .....
- تقع دولة الكويت بالنسبة للخليج العربي في جهة .....
- تقع دولة الكويت بالنسبة لشبه الجزيرة العربية في جهة .....

3. **صحح ما تحته خط بكتابة الإجابة الصحيحة بين القوسين:**

- الخط الرئيسي لدوائر العرض خط يسمى جرينتش (.....)
- الخط الأساسي لخطوط الطول خط يسمى 180 (.....)
- خط التاريخ الدولي يسمى خط الاستواء (.....)
- يحد دولة الكويت من جهة الشمال دولة تسمى السعودية (.....)
- يحد دولة الكويت من الشرق مسطح مائي اسمة بحر العرب (.....)

ورقة عمل رقم 3

من خلال دراستك لموضوع (التضاريس) من ك م ص 23 اجب عن الأسئلة الاتية :-

1. **أكمل المخطط السهمي التالي:**

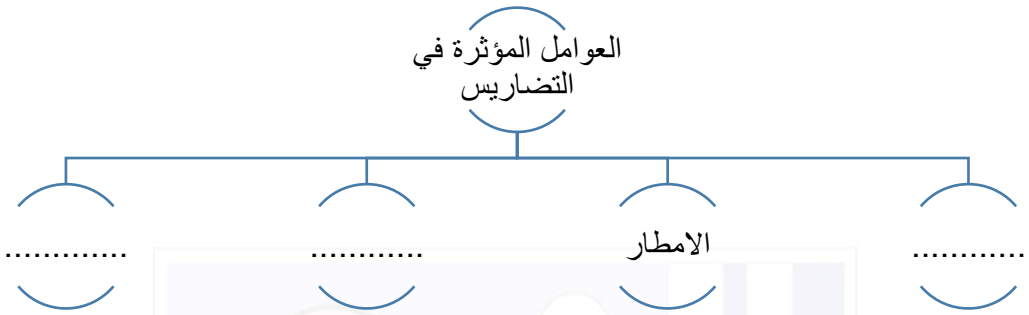

2. **علل لما يأتي:**

- تعد السهول من أفضل مناطق الاستقرار البشري.

.....

....

- الجبال اقل مظاهر التضاريس صلاحية للاستقرار البشري

.....

3. **اجب عما يلي:**

- أنواع السهول:

..... _ .....

4. **صحح ما تحته خط بكتابة الإجابة الصحيحة بين القوسين:**

- كل مرتفع له قمة لا يقل ارتفاعه عن 1000 متر يسمى التل (.....)
- ارض مرتفعة سطحها مستوي وتمتد لمساحة كبيرة تسمى السهول (.....)
- الملامح الرئيسية لشكل سطح الأرض تسمى التعرية (.....)

ورقة عمل رقم (4)

من خلال دراستك لموضوع (المناخ) ص 27 اجب عن الأسئلة الاتية :-

1. أكمل المخطط السهمي التالي:

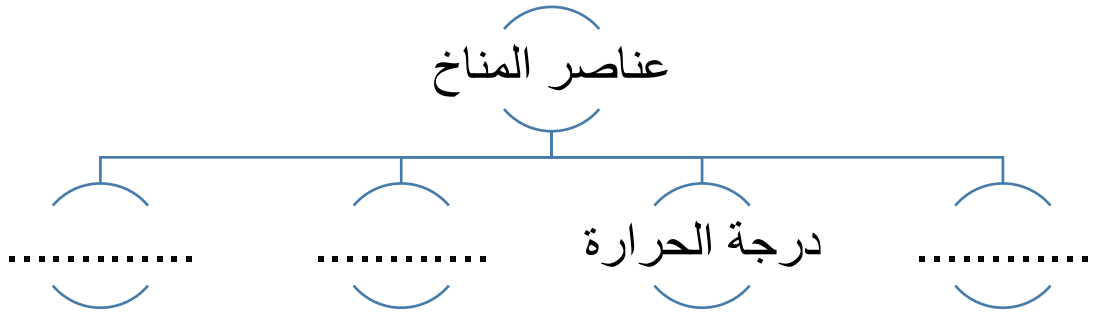

2. اكتب المفهوم الدال على العبارات التالية:

1. (.....) مساحة من الأرض ذات خصائص مناخية متشابهة ومتميزة عن غيرها
2. (.....) حالة الجو خلال فترة زمنية طويلة
3. (.....) تعرضت دولة الكويت لأمطار غزيرة أدت الى هدم البيوت عام 1934 م
4. (.....) الأقاليم الواقعة بين دائرتي عرض 30-40 شمالا وجنوبا
5. (.....) الأقاليم الواقعة بين دائرتي عرض 60-90 شمالا وجنوبا
6. (.....) الأقاليم الواقعة بين خط الاستواء ودائرة عرض 30 شمالا وجنوبا
7. (.....) الأقاليم الواقعة فيما بين دائرتي عرض 40-60 شمالا وجنوبا

مدرسة التميز النموذجية

ورقة عمل رقم 5

من خلال دراستك لموضوع (أنواع البيئة الطبيعية) ص30 من ك م اجب عن الأسئلة التالية :

1. **اكمل المخطط السهمي التالي:**

أنواع البيئة التضاريسية

.... سهلية .....

2. **اكتب فيما يلي:**

مميزات البيئة البحرية

- .....
- .....
- .....

مميزات البيئة الجبلية

.....

.....

.....

مميزات البيئة المعتدلة

.....

.....

3. **علل لما يأتي:**

تعمد بعض الحيوانات التي تعيش في البيئة المتجمدة الى تغيير لون كسائها من البني الى الأبيض

.....

ورقة عمل البيئة الطبيعية رقم 1 **الاجابات**

من خلال دراستك لدرس (البيئة الطبيعية) ص15 من ك م اجب عن الأسئلة التالية :

1. **اكتب المفهوم الدال على العبارات التالية:**

(التوازن البيئي) التفاعل المستمر بين مكونات البيئة الذي يحفظ استقرارها النسبي في زمن محدد

(البيئة) الإطار الذي يعيش فيه الانسان ويحصل فيه على جميع مقومات حياته

(البيئة الطبيعية) كل ما يحيط بالإنسان من ظاهرات حية وظاهرات غير حية ليس للإنسان أي دخل في وجودها

2. **أكمل المخطط السهمي التالي:**

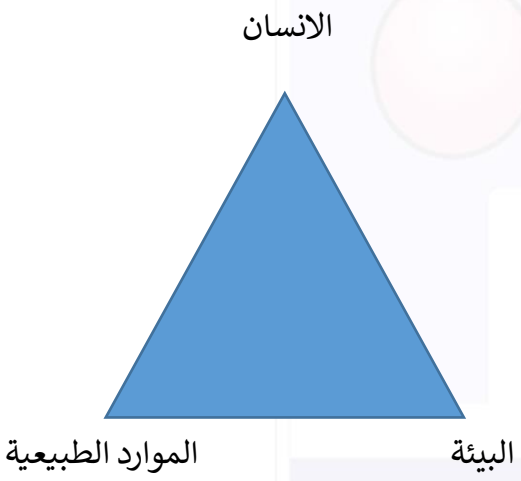

مثلث اضلاع الحياة

3. **اكتب فيما يلي:**

مميزات البيئة الطبيعية

1- التوازن البيئي
2- توفر موارد طبيعية عديدة
3- علاقة تبادلية بين عناصر البيئة الطبيعية

4. **أكمل العبارات التالية بما يناسبها مما درست:**

1-العالم الذي استخدم علم البيئة الطبيعة كمفهوم يدرس في الجامعات يسمى **هنري ديفيد**

2-ظهر مصطلح البيئة الطبيعية في القرن **التاسع عشر**

ورقة عمل عن (الموقع) رقم 2

من خلال دراستك لموضوع (الموقع) من ك م ص 18 اجب خن الأسئلة لتالية :

1. **اكمل المخطط السهمي التالي:** اقسام الموقع

فلكي — مكاني — نسبي

2. **أكمل العبارات التالية بما يناسبها مما درست:**

- أكبر دول العالم من حيث المساحة دولة تسمى روسيا
- اصغر دول العالم من حيث المساحة دولة تسمى الفاتيكان
- تقع دولة الكويت بالنسبة لقارة اسيا في جهة الجنوب الغربي
- تقع دولة الكويت بالنسبة للخليج العربي في جهة الشمال الغربي
- تقع دولة الكويت بالنسبة لشبه الجزيرة العربية في جهة الشمال الشرقي

3. **صحح ما تحته خط بكتابة الإجابة الصحيحة بين القوسين:**

- الخط الرئيسي لدوائر العرض خط يسمى جرينتش (الاستواء)
- الخط الأساسي لخطوط الطول خط يسمى 180 (جرينتش)
- خط التاريخ الدولي يسمى خط الاستواء (180)
- يحد دولة الكويت من جهة الشمال دولة تسمى السعودية (العراق)
- يحد دولة الكويت من الشرق مسطح مائي اسمة بحر العرب (الخليج العربي)

ورقة عمل التضاريس رقم 3

من خلال دراستك لموضوع (التضاريس) من ك م ص 23 اجب عن الأسئلة الاتية:

1. **أكمل المخطط السهمي التالي:**

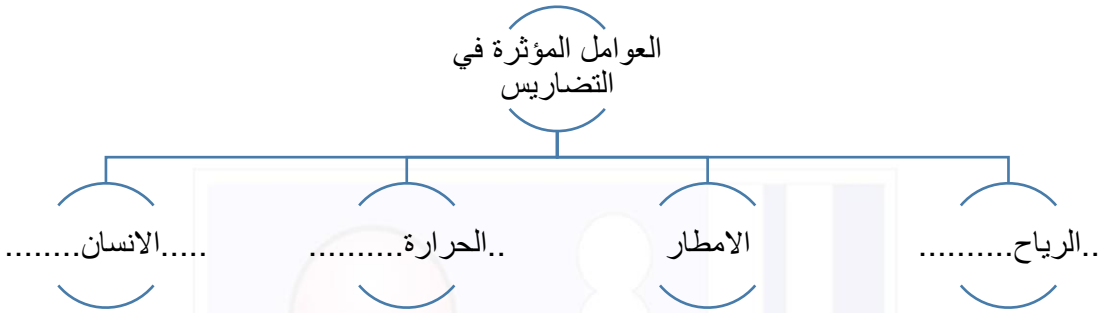

2. **علل لما يأتي:**

1- تعد السهول من أفضل مناطق الاستقرار البشري.

تركز السكان فيها لسهولة التنقل - تعتبر مواني طبيعية _ سهولة التنقل عليها

2- الجبال اقل مظاهر التضاريس صلاحية للاستقرار البشري والتوسع الزراعي :

لوعورتها – ولعدم وجود مقومات للحياة

3. **أنواع السهول:**

سهول ساحلية - سهول فيضيه نهرية

4. **صحح ما تحته خط بكتابة الإجابة الصحيحة بين القوسين:**

- كل مرتفع من الأرض وله قمة لا يقل ارتفاعها عن 1000 متر يسمى التل (الجبل)
- ارض مرتفعة سطحها مستوي وتمتد لمساحة كبيرة تسمى السهول (الهضبة)
- الملامح الرئيسية لشكل سطح الأرض تسمى التعرية (التضاريس)

ورقة عمل رقم المناخ (4)

من خلال دراستك لموضوع (المناخ) ص 27 اجب عن الأسئلة الاتية :-

1. أكمل المخطط السهمي التالي:

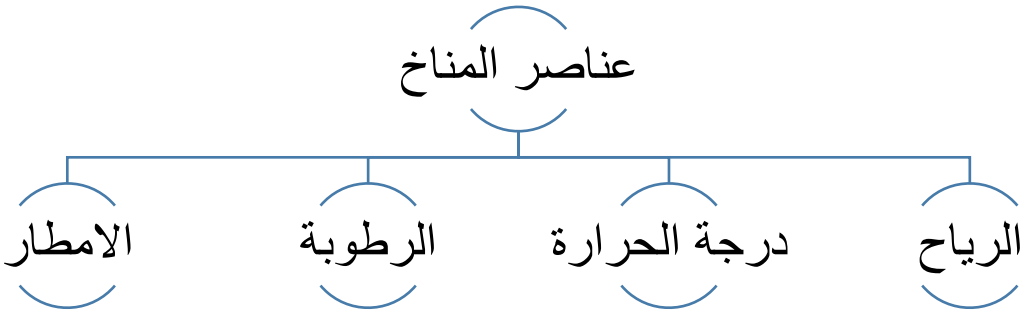

2. اكتب المفهوم الدال على العبارات التالية:

1. (الأقاليم المناخية) مساحة من الأرض ذات خصائص مناخية متشابهة ومتميزة عن غيرها
2. (المناخ) حالة الجو خلال فترة زمنية طويلة
3. (الهدامة الأولى) تعرضت دولة الكويت لأمطار غزيرة أدت الى هدم البيوت عام 1934 م
4. (الأقاليم المناخية المعتدلة الدفيئة) الأقاليم الواقعة بين دائرتي عرض 30-40 شمالا وجنوبا
5. (الأقاليم المناخية الباردة) الأقاليم الواقعة بين دائرتي عرض 60-90 شمالا وجنوبا
6. (الأقاليم المناخية الحارة) الأقاليم الواقعة بين خط الاستواء ودائرة عرض 30 شمالا وجنوبا
7. (الأقاليم المناخية المعتدلة الباردة) الأقاليم الواقعة فيما بين دائرتي عرض 40-60 شمالا وجنوبا

مدرسة التميز النموذجية

ورقة عمل أنواع البيئة الطبيعية رقم 5

من خلال دراستك لموضوع (أنواع البيئة الطبيعية) ص30 من ك م اجب عن الأسئلة التالية:

1. **أكمل المخطط السهمي التالي:**

أنواع البيئة التضاريسية

صحراوية | جبلية | سهلية | بحرية

2. **اكتب فيما يلي:**

مميزات البيئة البحرية:

- الحفاظ على التوازن البيئي للكرة الارضية
- توفر الثروات المعدنية والنباتية والسمكية للإنسان _ السياحة والترفيه

مميزات البيئة الجبلية:

- بيئة للسياحة _ بيئة طبيعية للحياة البرية
- تخزين المياه الطبيعية

مميزات البيئة المعتدلة:

- ممارسة العديد من الأنشطة - تنوع الحياة النباتية والحيوانية
- البناء والاستقرار - إقامة النشاط الزراعي والصناعي فيها

3. **علل لما يأتي:**

تعمد بعض الحيوانات التي تعيش في البيئة المتجمدة الى تغيير لون كسائها من البني الى الأبيض

_ لكي تختبئ اثناء تساقط الثلوج

مدرسة التميز النموذجية
(ابتدائي - متوسط - ثانوي)
الجهاز الفني التربوي

منصات التميز التعليمية

لزيارة منصة التميز التعليمية في اليوتيوب إمسح الباركودالتالي :

لزيارة منصة التميز التعليمية في تليجرام إمسح الباركود الخاص بقناة كل فصل مما يلي :

الصف الأول | الصف الثاني | الصف الثالث | الصف الرابع

الصف الخامس | الصف السادس | الصف السابع | الصف الثامن | الصف التاسع

الصف العاشر | الصف الحادي عشر أدبي | الصف الحادي عشر علمي | الصف الثاني عشر علمي | الصف الثاني عشر أدبي

لزيارة صفحتنا في الإنستقرام

لزيارة صفحتنا في تويتر

عنواننا : خيطان - ق ٤ - ش ١٠٠