GRADE 10

نماذج

الاختبار القصير الثاني

الأحياء – الصف العاشر

2025

الدروس المقررة للاختبار القصير الثاني :

1) الدرس (3 – 2) شوكيات الجلد

2) الدرس (1 – 1) الحبليات

3) الدرس (1 – 2) الأسماك

إعداد /

الأستاذ / حسام السيد حافظ

نموذج الإجابة

حسام السيد حافظ
WhatsApp contact

@HOSSAM76BIO

الأستاذ | حسام السيد حافظ

اختبار قصير : (2)
الفترة الدراسية : الثانية
العام الدراسي : 2025-2024 م

نمـــوذج (1)

المجال : الأحياء
الصف : العاشـــــر
الزمن : (20) دقيقة

اسم الطالب / الصف / 10 - الدرجة / / 2

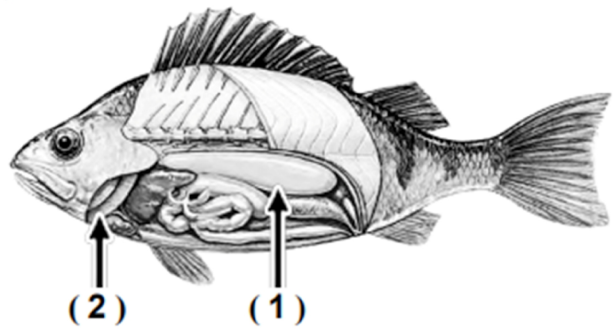
السؤال الأول : اختر الإجابة الصحيحة وذلك بوضع علامة (√) أمام الإجابة الصحيحة: ($1 \times \frac{1}{2}$)

1. يقوم الجهاز الوعائي المائي بالعديد من الوظائف الأساسية التالية ما عدا:

☐ التكاثر ☐ التنفس

☐ التغذية ☐ الحركة

السؤال الأول: (ب) الشكل يمثل الأعضاء الداخلية للسمكة و المطلوب اكتب البيانات التالية ؟ ($1 \times \frac{1}{2}$):



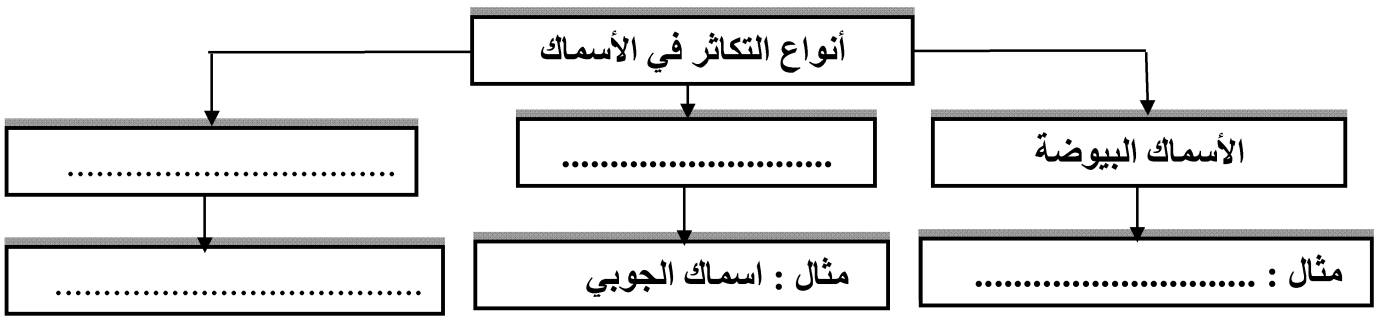
1. يشير الرقم (1) الي : .....
2. يشير الرقم (2) الي : .....

السؤال الثاني : (أ) علل لما يأتي تعليلا علميا صحيحا ؟ ($1 \times \frac{1}{2}$):

1. تتحرك السهيمات في الماء مثل الأسماك ؟

.....

السؤال الثاني (ب) أكمل المخطط السهمي التالي بما يناسبه ؟ ($1 \times \frac{1}{2}$):



الأستاذ | حسام السيد حافظ

اختبار قصير : (2)
الفترة الدراسية : الثانية
العام الدراسي : 2025-2024 م

نمـــــوذج (2)

المجال : الأحياء
الصف : العاشـــــر
الزمن : (20) دقيقة

اسم الطالب / الصف / 10 - الدرجة / / 2

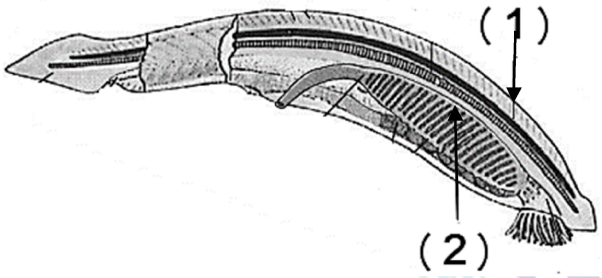
السؤال الأول : اختر الإجابة الصحيحة وذلك بوضع علامة (√) أمام الإجابة الصحيحة: ($1 \times \frac{1}{2}$)

1- جميع الخصائص التالية مميزة لنجم البحر ما عدا:

☐ التماثل شعاعي ☐ ليس له طرف أمامي أو خلفي

☐ له جهاز وعائي مائي ☐ له ترئيس

السؤال الأول: (ب) الشكل حيوان السهيم والمطلوب اكتب البيانات التالية ؟ ($1 \times \frac{1}{2}$)



1- يشير الرقم (1) الي : .....

2- يشير الرقم (2) الي : .....

السؤال الثاني : (أ) علل لما يأتي تعليلا علميا صحيحا ؟ : ($1 \times \frac{1}{2}$)

1- تستطيع أسماك القراميط والقروش إدراك المستويات المنخفضة للتيار الكهربي؟

.....

السؤال الثاني (ب) اجب عما يلي ؟ : ($1 \times \frac{1}{2}$)

(لا تُشبه بنية جسم شوكيات الجلد أي بنية أخرى في المملكة الحيوانية) ..والمطلوب الإجابة عما يلي :-

أ. شوكيات الجلد البالغة ذات تماثل : .....

ب. يرقات شوكيات الجلد ذات تماثل : .....



الأستاذ | حسام السيد حافظ

اختبار قصير : (2)
الفترة الدراسية : الثانية
العام الدراسي : 2025-2024 م

نمـــــوذج (3)

المجال : الأحياء
الصف : العاشـــــر
الزمن : (20) دقيقة

اسم الطالب / الصف / 10 - الدرجة / / 2

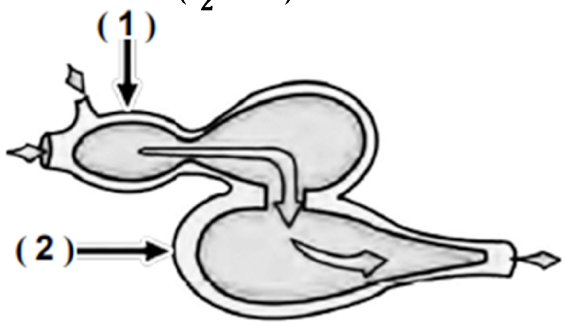
السؤال الأول : اختر الإجابة الصحيحة وذلك بوضع علامة (√) أمام الإجابة الصحيحة: ($1 \times \frac{1}{2}$)

1- المسؤول عن حاسة الشم بصورة أساسية لدي الأسماك :

☐ المخ ☐ المخيخ

☐ الفصان البصريان ☐ النخاع المستطيل

السؤال الأول: (ب) الشكل يمثل قلب السمكة والمطلوب اكتب البيانات التالية ؟ ($1 \times \frac{1}{2}$):



1- يشير الرقم (1) الي : .....

2- يشير الرقم (2) الي : .....

السؤال الثاني : (أ) علل لما يأتي تعليلا علميا صحيحا ؟ ($1 \times \frac{1}{2}$):

1- تستطيع قنافذ البحر كشط الطحالب الموجودة على الصخور؟

.....

السؤال الثاني (ب) اجب عما يلي ؟ ($1 \times \frac{1}{2}$):

(لتصنيف أي حيوان على أنه ينتمي إلى شعبة الحبليات يجب أن يتمتع بأربع خصائص رئيسة).

- أذكر اثنين من هذه الخصائص:

1) ...

2) ...



الأستاذ | حسام السيد حافظ

اختبار قصير : (2)
الفترة الدراسية : الثانية
العام الدراسي : 2025-2024 م

نمـــوذج (4)

المجال : الأحياء
الصف : العاشـــــر
الزمن : (20) دقيقة

اسم الطالب / ..... الصف / 10 - ..... الدرجة / ..... / 2

السؤال الأول : اختر الإجابة الصحيحة وذلك بوضع علامة (√) أمام الإجابة الصحيحة: ($1 \times \frac{1}{2}$)

1- عبارة عن قضيب دعامي يمتد على طول الجسم لدي أغلب الحبليات ، يظهر هذا الحبل في المراحل الجنينية فقط

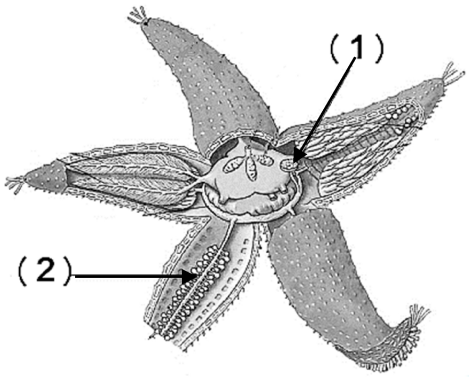
☐ الحبل الظهري ☐ الحبل العصبي

☐ الجيوب البلعومية ☐ الذيل

السؤال الأول: (ب) الشكل يوضح الجهاز الوعائي المائي لنجم البحر و المطلوب ؟: ($1 \times \frac{1}{2}$)

1- يشير الرقم (1) الي : .....

2- يشير الرقم (2) الي :.....



السؤال الثاني (أ) :قارن بين كل مما يلي ؟ ($1 \times \frac{1}{2}$)

وجه المقارنة	السهيمات	الاسيديات
دور البلعوم		

السؤال الثاني (ب) :الشكل المقابل يمثل الأعضاء الداخلية للأسماك العظمية ، والمطلوب ؟ ($1 \times \frac{1}{2}$)

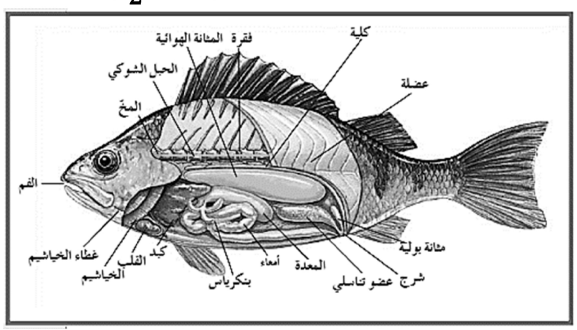
أذكر أسم الجزء المسئول عن الوظائف التالية ؟

1) مساعدة السمكة على الطفو ؟

.....

2) إفراز انزيمات تساعد في عملية الهضم ؟

.....



الأستاذ | حسام السيد حافظ

اختبار قصير : (2)
الفترة الدراسية : الثانية
العام الدراسي : 2025-2024 م

نمـــــوذج (5)

المجال : الأحياء
الصف : العاشـــــر
الزمن : (20) دقيقة

اسم الطالب / الصف / 10 - الدرجة / / 2

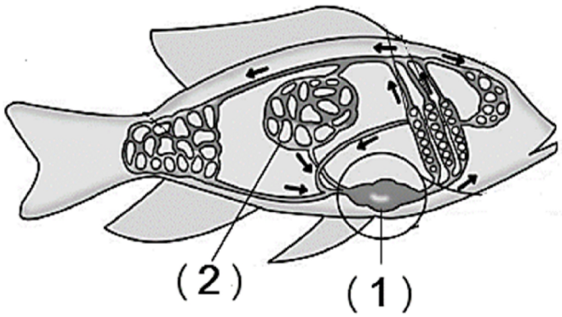
السؤال الأول : اختر الإجابة الصحيحة وذلك بوضع علامة (√) أمام الإجابة الصحيحة: ($1 \times \frac{1}{2}$)

1- جميع ما يلي من خصائص حيوان السهيم ما عدا .

☐ له منطقة رأس ☐ ليس له قلب حقيقي

☐ يستخدم البلعوم للتغذية فقط ☐ له جهاز دوري مفتوح

السؤال الأول: (ب) الشكل يوضح الدورة الدموية في الأسماك والمطلوب؟: ($1 \times \frac{1}{2}$)



1- يشير الرقم (1) الي : .....

2- يشير الرقم (2) الي : .....

السؤال الثاني (أ) :قارن بين كل مما يلي ؟ ($1 \times \frac{1}{2}$)

وجه المقارنة	قنافذ البحر	نجم البحر
أهميته في البيئة		

السؤال الثاني (ب) اجب عما يلي ؟ :($1 \times \frac{1}{2}$)

- (تتنوع أنماط التغذية لدى الأسماك فنجد كل أنماط التغذية)... والمطلوب الإجابة عما يلي :-

أ. اسماك البركودة من آكلات : .....

ب. اسماك الجلكي من آكلات : .....



الأستاذ | حسام السيد حافظ

اختبار قصير : (2)
الفترة الدراسية : الثانية
العام الدراسي : 2025-2024 م

نمـــــوذج (6)

المجال : الأحياء
الصف : العاشـــــر
الزمن : (20) دقيقة

اسم الطالب / الصف / 10 - الدرجة / / 2

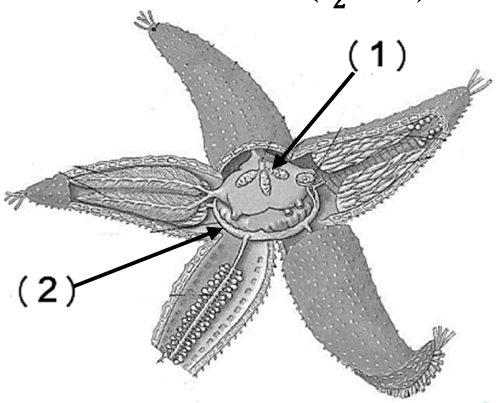
السؤال الأول : اختر الإجابة الصحيحة وذلك بوضع علامة (√) أمام الإجابة الصحيحة: ($1 \times \frac{1}{2}$)

1- للإحساس بحركة الأسماك الأخرى أو الفرائس التي تسبح بالقرب منها ،تستخدم الأسماك:

☐ الزعانف الذيلية ☐ جهاز الخط الجانبي

☐ المثانة الهوائية ☐ الخياشيم

السؤال الأول: (ب) الشكل يوضح الجهاز الوعائي المائي لنجم البحر والمطلوب ؟ :($1 \times \frac{1}{2}$)



1- يشير الرقم (1) الي : .....

2- يشير الرقم (2) الي : .....

السؤال الثاني : (أ) علل لما يأتي تعليلا علميا صحيحا ؟ :($1 \times \frac{1}{2}$)

1- تستطيع أسماك السلمون الانتقال من المياه العذبة إلى المياه المالحة ؟

.....

السؤال الثاني (ب) اجب عما يلي ؟ :($1 \times \frac{1}{2}$)

- الحبليات اللافقارية شعبتان هما : -

أ. شعبة ..... مثال .....

ب. شعبة ..... مثال .....



الأستاذ | حسام السيد حافظ

اختبار قصير : (2)
الفترة الدراسية : الثانية
العام الدراسي : 2024-2023 م

نمـــوذج (7)

المجال : الأحياء
الصف : العاشـــــر
الزمن : (20) دقيقة

اسم الطالب / الصف / 10 - الدرجة / / 2

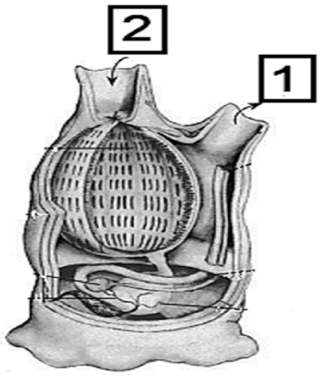
السؤال الأول : اختر الإجابة الصحيحة وذلك بوضع علامة (√) أمام الإجابة الصحيحة: ($1 \times \frac{1}{2}$)

1- يسمى الحبل العصبي الأجوف لدى الفقاريات بـ: .

☐ الحبل الشوكي ☐ العمود الفقري

☐ الحبل الظهري ☐ الذيل

السؤال الأول: (ب) الشكل يوضح الطور اليافع من حيوان الأسيديا والمطلوب ؟: ($1 \times \frac{1}{2}$)



1- يشير الرقم (1) الي : .....

2- يشير الرقم (2) الي : .....

السؤال الثاني (أ) :قارن بين كل مما يلي ؟ ($1 \times \frac{1}{2}$)

وجه المقارنة	الكليتان في الاسماك	الخياشيم في الاسماك
الفضلات التي تخرجها		

السؤال الثاني (ب) اجب عما يلي ؟ :($1 \times \frac{1}{2}$)

- (شوكيات الجلد هي في الواقع أقرب للبشر والفقاريات الأخرى) أذكر ما يدل على أن هاتين المجموعتين قريبتين من بعضهما ؟

1- .....

2- .....



الأستاذ | حسام السيد حافظ

اختبار قصير : (2)
الفترة الدراسية : الثانية
العام الدراسي : 2024-2023 م

نمـــــوذج (8)

المجال : الأحياء
الصف : العاشـــــر
الزمن : (20) دقيقة

اسم الطالب / الصف / 10 - الدرجة / / 2

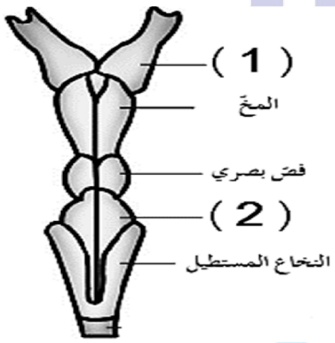
السؤال الأول : اختر الإجابة الصحيحة وذلك بوضع علامة (√) أمام الإجابة الصحيحة: ($1 \times \frac{1}{2}$)

1- يتكون الجهاز الدوري في السهيمات (الرأس حبليات) من :

☐ جهاز دوري مفتوح ☐ جهاز دوري مغلق وقلب حقيقي

☐ جهاز دوري مفتوح وقلب حقيقي ☐ جهاز دوري مغلق وليس له قلب حقيقي

السؤال الأول: (ب) الشكل يوضح تركيب دماغ السمكة والمطلوب؟: ($1 \times \frac{1}{2}$)



1- يشير الرقم (1) الي : .....

2- يشير الرقم (2) الي :.....

السؤال الثاني (أ) : علل لما يأتي تعليلا علميا صحيحا؟ :($1 \times \frac{1}{2}$)

1. تكيف الأسماك الرئوية للعيش في ماء قليل الأكسجين ؟

السؤال الثاني (ب) اجب عما يلي ؟ :($1 \times \frac{1}{2}$)

- (لشوكيات الجلد تحورات قليلة للتنفس أو الدوران). والمطلوب الإجابة عما يلي:

أ. السطح الرئيسي للتنفس في شوكيات الجلد هو النسيج الرقيق لجدر.....

ب. بعض أنواع شوكيات الجلد الأخرى تقوم بعملية التبادل الغازي من خلال أجزاء نامية صغيرة تسمى:.....



الأستاذ | حسام السيد حافظ

اختبار قصير : (2)
الفترة الدراسية : الثانية
العام الدراسي : 2024-2023 م

نمـــــوذج (9)

المجال : الأحياء
الصف : العاشـــــر
الزمن : (20) دقيقة

اسم الطالب / الصف / 10 - الدرجة / / 2

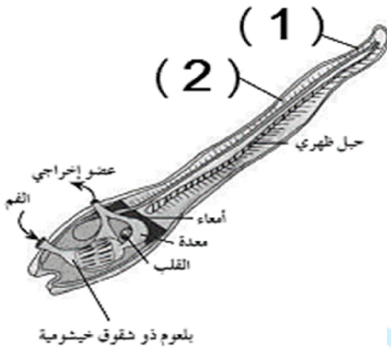
السؤال الأول : اختر الإجابة الصحيحة وذلك بوضع علامة (√) أمام الإجابة الصحيحة: ($1 \times \frac{1}{2}$)

1- تتخلص شوكيات الجلد من الفضلات النيتروجينية في صورة:

☐ حمض البوليك ☐ اليوريا

☐ حمض اليوريك ☐ الأمونيا

السؤال الأول: (ب) الشكل يوضح اليرقة من حيوان الأسيديا والمطلوب ؟ : ($1 \times \frac{1}{2}$)



1. يشير الرقم (1) الي : .....

2. يشير الرقم (2) الي :.....

السؤال الثاني : (أ) علل لما يأتي تعليلا علميا صحيحا ؟ : ($1 \times \frac{1}{2}$)

1- للشكل الانسيابي في الأسماك أهمية كبرى ؟

.....

السؤال الثاني (ب) اجب عما يلي ؟ : ($1 \times \frac{1}{2}$)

- (تساعد الكليتان الأسماك على ضبط كمية الماء في أجسامها) ..كيف يتم ذلك في كل من : -

أ. اسماك المياه العذبة .....

ب. اسماك المياه المالحة .....



الأستاذ | حسام السيد حافظ

اختبار قصير : (2)
الفترة الدراسية : الثانية
العام الدراسي : 2023-2024 م

نمـــــوذج (10)

المجال : الأحياء
الصف : العاشـــــر
الزمن : (20) دقيقة

اسم الطالب / الصف / 10 - الدرجة / / 2

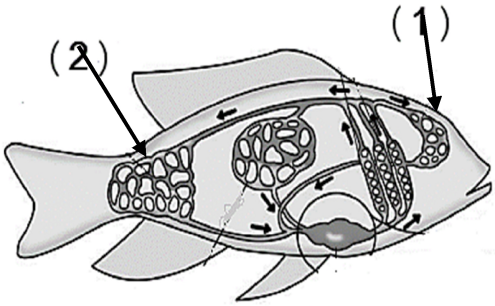
السؤال الأول : اختر الإجابة الصحيحة وذلك بوضع علامة (√) أمام الإجابة الصحيحة: ($1 \times \frac{1}{2}$)

1- تتكاثر شوكيات الجلد بالإخصاب الداخلي :

☐ العبارة صحيحة

☐ العبارة خاطئة

السؤال الأول: (ب) الشكل يوضح الدورة الدموية في الأسماك والمطلوب؟: ($1 \times \frac{1}{2}$)



3- يشير الرقم (1) الي : .....

4- يشير الرقم (2) الي :.....

السؤال الثاني (أ) :قارن بين كل مما يلي ؟ ($1 \times \frac{1}{2}$)

وجه المقارنة	سمكة الجوبي	اسماك القرش
نوع التكاثر		

السؤال الثاني (ب) اجب عما يلي ؟ :($1 \times \frac{1}{2}$)

- واحد مما يلي لا ينتمي للمجموعة أذكرة مع السبب ؟

- حبل عصبي أجوف - زعانف - جيوب بلعومية - حبل ظهري

العبارة المختلفة: .....

السبب : .....



الأستاذ | حسام السيد حافظ