إجتماعيات سابع

إختبارات سابقة تم الإجابة عليها بطريقة مختصرة

Ahmed Hdara
Philosophy & psychology

إعداد/ المعلم



٩٧٧٦٤٩٤٩

النموذج الأول

السؤال الأول

(أ) ظلل الخيار الصحيح من بين الخيارات التي تلي كل عبارة

1) العام الذي انضمت فيه جمهورية جزر القمر إلى جامعة الدول العربية ص 23

١٩٩٣م	١٩٩٥م	١٩٩٦م	١٩٩٧م

٢) العام الذي أنشئت فيه محطة الشويخ لتحلية مياه البحر ص 61

١٩٥١م	١٩٥٢م	١٩٥٣م	١٩٥٤م

٣) أشجار تستخدم في صناعة الفلين ص 52

السدر	البلوط	الماهوجني	الساج

٤) عدد الشعوب التي سيطرت على بلاد الرافدين خلال تاريخها القديم ص 69

٥	٧	٩	١١

٥) الدولة التي يقع فيها جبل مرة ص 38

تونس	مصر	الجزائر	السودان

(ب) أكمل العبارات التالية بما يناسبها فيما درست

١) عرفت حضارة دلمون قبل الفتح الإسلامي باسم ..... ص 89

٢) ملكة اليمن التي ورد ذكرها في القرآن الكريم اسمها ..... ص 86

٣) النبات الذي ينمو تلقائياً عقب سقوط المطر دون تدخل الإنسان يسمى ..... ص 51

٤) حالة الجو خلال فترة زمنية طويلة من حيث درجة الحرارة والرطوبة والأمطار والرياح يسمى ..... ص 44

٥) المياه التي توجد في جوف الأرض (باطن الأرض) تسمى ..... ص 60

(ج) صوب ما تحته خط في العبارات التالية

م	العبارة	التصويب
١	نقطة من الكرة الأرضية يتحدد موقعها بخطوط الطول ودوائر العرض ص 31 تسمى الموقع النسبي	
٢	تهب الرياح الخماسين على المملكة العربية السعودية ص 48	
٣	من المنسوجات التي اشتهرت بتصديرها بلاد الرافدين هي المنسوجات القطنية ص 81	
٤	وزن الهواء فوق أي مكان يسمى الرطوبة ص 44	
٥	الملك البابلي الذي وضع أقدم الشرائع القانونية اسمه فرعون ص 84	
٦	تعرف حشائش الاستبس في بلاد المغرب باسم الأبنوس ص 52	

Ahmed Adara
Philosophy & psychology

(د) أكمل المخططات السهمية التالية

١) دويلات حضارة جنوب غرب شبه الجزيرة العربية (بلاد اليمن) ص 85

معين ....

٢) مراكز إنتقال الحضارة العربية الإسلامية إلى أوروبا ص 92

.... الحروب الصليبية

(هـ) صنف الكلمات التالية إلى مكانها المناسب في الجدول الذي يليها

(صناعة السفن – صناعة الحلي – الأهرامات – الكتابة المسمارية – حدائق بابل المعلقة – الكتابة الهيروغليفية) ص 77

حضارة بلاد الرافدين	الحضارة المصرية القديمة

(و) أمامك خريطة الوطن العربي - أكتب مدلولات الارقام في العبارات التي تليها

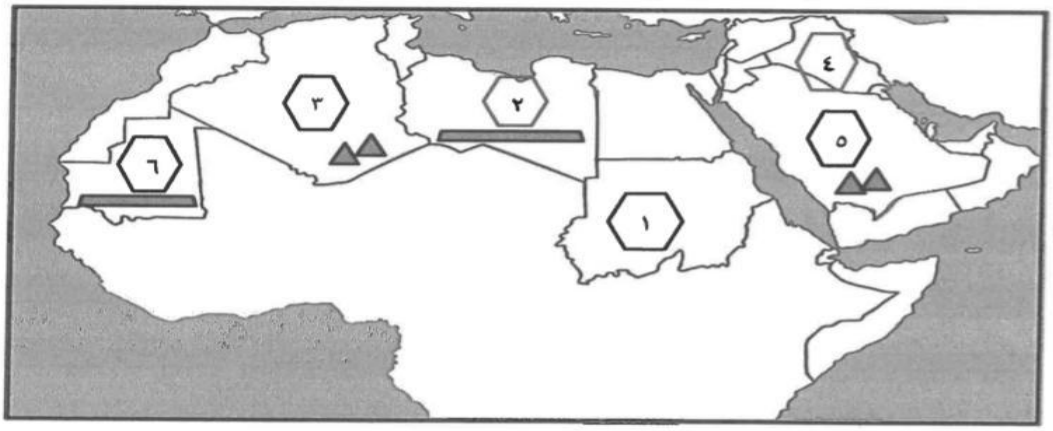

- الدولة التي تهب عليها رياح الهبوب يمثلها على الخريطة الرقم (.....) ص 48
- جبل الأحجار يمثله على الخريطة الرقم (.....) ص 38
- الدولة التي ظهرت بها حضارة بلاد الرافدين يمثلها على الخريطة الرقم (.....) ص 79
- هضبة أفريقيا الشمالية (الصحراء الكبرى) يمثلها على الخريطة الرقم (.....) ص 40

٩٧٧٦٤٩٤٩
Ahmed Hdara
Philosophy & psychology

السؤال الثاني

(أ) فرق بين كل مما يلى من حيث التعريف

القناة ص 38	المضيق ص 38
الجبل ص 38	الهضبة ص 40
الحشائش الحارة (السافانا) ص 52	الحشائش المعتدلة (الإستبس) ص 52

(ب) أذكر نقطتين حول كل مما يلى

١) مصادر المياه في الوطن العربي ص 57

- .....
- .....

٢) العوامل الرئيسية المؤثرة في تنوع النبات الطبيعي في الوطن العربي ص 51

....

٣) المقومات الأساسية لقيام الحضارات. ص 73

- .....
- .....
- .....

(ج) علل لما يلى

حرص المصريون القدماء على تحنيط جثث موتاهم ص 76	
إشتهر سكان بلاد الرافدين بحرفة الزراعة ص 81	
الأهمية الجغرافية للوطن العربي ص 35	

Ahmed Hdara
Philosophy & psychology

السؤال الثالث

(أ)اقرأ الفقرة التالية ثم أجب عما يليها من أسئلة

يتمتع الوطن العربي بأهمية إقتصادية كبيرة منذ القدم كمنطقة عبورلحركة الملاحة والتجارة العالمية لأنه يربط بين قارات العالم القديم الثلاث، كما أدى ظهورالنفط بكميات كبيرة بمنطقة الخليج العربي وبعض مناطق شمال أفريقيا إلى تزايد هذه الأهمية

١) إستخرج من الفقرة السابقة ما يلي

الأهمية الإقتصادية للوطن العربي قديماً ص 35	الأهمية الإقتصادية للوطن العربي حديثاً ص 35

٢) عرف ما تحته خط ص 32

.....

.....

(ب) قارن بين كل من ص 90

اوجه المقارنة	الديانة اليهودية	الديانة المسيحية	الديانة الإسلامية
النبي المرسل			
الكتاب المنزل			

(ج) أجب عن الأسئلة التالية

١) عدد طرق ترشيد إستخدام المياه والمحافظة عليها ص 63

- .....
- .....
- .....

٢) أذكر طرق تكيف النباتات الصحراوية مع البيئة الصحراوية الجافة ص 52

- .....
- .....
- .....

٣) أكتب العوامل التي تؤثرفي مناخ الوطن العربي ص 46

- .....
- .....

Ahmed Hdara
Philosophy & psychology

النموذج الثانى

السؤال الأول

أ) اختر الإجابة الصحيحة من بين البدائل التى تلى كل عبارة بوضع خط تحتها

١) عاصمة جمهورية جزر القمر مدينة هي ص 23

الرباط	موروني	القاهرة	مسقط

٢) يحد الوطن العربي من جهة الغرب مسطح مائي هو ص 33

بحر العرب	البحر الأحمر	المحيط الأطلسى	البحر المتوسط

٣) كل ما إرتفع من الأرض وله قمة لا يقل ارتفاعها عن ١٠٠٠ متر هو ص 38

السهل	الوادي	الهضبة	الجبل

٤) يوجد نهر النيل في دولة عربية هي ص 42

الجزائر	مصر	لبنان	تونس

٥) أكثر الدول العربية إنتاجاً للمياه المحلاه هي ص 62

الكويت	البحرين	قطر	ليبيا

ب) أكمل العبارات التالية بما يناسبها

- أكثر الأشكال التضاريسية إنتشاراً في الوطن العربي إسمها ..... ص 40
- حالة الجو في مكان لمدة قصيرة تتراوح بين يوم أو عدة أيام تسمى ..... ص 44
- الرياح المحلية التي تهب على دولة الكويت تسمى ..... ص 48
- أطلق على حضارة دلمون (البحرين) قديماً قبل الفتح الإسلامي إسم ..... ص 89

ج) لاحظ خريطة الوطن العربي ثم نفذ المطلوب

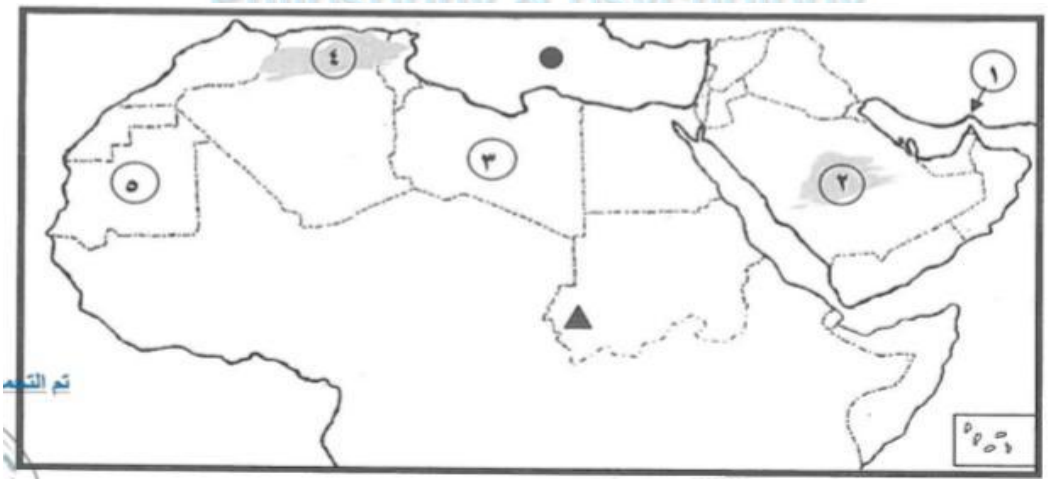

- الشكل (△) على الخريطة يرمز إلى جبل يطلق عليه إسم .....
- الشكل (◯) على الخريطة يرمز إلى مسطح مائي إسمه .....

- الرقم (١) على الخريطة يشير بالسهم إلى مضيق إسمه ..... ص 28
- دولة موريتانيا يمثلها على الخريطة الرقم ..... ص 28
- هضبة نجد يمثلها على الخريطة الرقم ..... ص 40

د) صنف الأسماء التالية بمكانها الصحيح في الجدول الذي أمامك

(مسلة حمورابي – سد مأرب – الأهرامات – الكتابة الهيروغليفية – الكتابة المسمارية – الخط المسند)

الحضارة المصرية ص 77	حضارة بلاد الر افدين ص 83	حضارة بلاد اليمن ص 86

ه) أكمل المخططات السهمية التالية

١) الحياة النباتية في الوطن العربي ص 52

الغابات ....

٢) حضارة بلاد اليمن ص 85

حضارة معين ....

٣) الديانات السماوية ص 90

الديانة اليهودية ....

و) أكتب المفهوم أو المصطلح الدال على العبارات التالية

مجموعة الدول العربية التي يجمعها عدد من السمات المشتركة ويمتد ضمن قارتين من أكبر قارات العالم مساحة ص 22	
جميع أشكال المياه على سطح الأرض مثل البحار والخلجان والمحيطات والبحيرات والأنهار ص 28	
هو النبات الذي ينمو تلقائياً عقب سقوط المطر دون تدخل من الإنسان ص 51	
كل ما يطرأ على المجتمع من تقدم وتطور ورقي في جميع نواحي الحياة الدينية والسياسية والإقتصادية والإجتماعية والفكرية ص 71	

Ahmed Hdara
Philosophy & psychology

السؤال الثاني

أ) لاحظ الخريطة التي أمامك ثم أجب عن الأسئلة التالية

١) أكتب إسم الحضارة القديمة التي تمثلها الخريطة التي أمامك ص 79

.....

٢) إستخرج من الخريطة الممالك التي قامت في هذه الحضارة ص 79

- .....
- .....

٣) علل : إشتهر سكان هذه الحضارة بالزراعة ص 81

- .....
- .....
- .....

ب) فرق بين كل من المفاهيم التالية

القناة مكرر ص 28	المضيق مكرر ص 28
السهول الفيضية (النهرية) ص 42	السهول الساحلية ص 42
المياه الجوفية ص 60	الأفلاج ص 60

السؤال الثالث

أ) عدد لكل مما يلي

١) مقومات الهوية العربية مكرر ص 26

- .....
- .....

٢) مصادر المياه في الوطن العربي مكرر ص 57

- .....
- .....

Ahmed Hdara
Philosophy & psychology

٣) صفات المطر في الوطن العربي ص 59

☒ .....

☒ .....

ب) قارن بين كل من حسب الجدول التالي

أوجه المقارنة	الحشائش الحارة (الـسـافـانـا) ص 52	الحشائش المعتدلة (الأستـبـس) ص 52
الـتـعـريـف		
الحيوانات التي تتربى عليها		

الـسؤال الـرابـع

أ) إقرأ الفقرة التالية ثم أجب عما يليها من أسئلة

الوطن العربي يتمتع بموقع إستراتيجي مهم، أكسبه مكانة مهمه بين دول العالم في أوقات السلم والحرب حيث يشغل مكاناً وسطاً بين قارات العالم الثلاث، ويطل على مسطحات مائية واسعة ذات أهمية كبيرة للملاحة والتجارة العالمية ".

١) عرف ما تحته خط في الفقرة السابقة ص 22

.....

٢) إستخرج من الفقرة .. الأهمية الجغرافية للوطن العربي ص 35

☒ .....

☒ .....

☒ .....

ب) أجب عن الأسئلة التالية

١) عدد الوسائل التي تتخذها النباتات الصحراوية لمقاومة الجفاف ص 52

✪ .....

✪ .....

٢) أكتب أسماء الحيوانات السائدة في المناطق الصحراوية في الوطن العربي ص 55

▪ .....

▪ .....

▪ .....

٣) علل : حرص المصريون القدماء على تحنيط جثث موتاهم مكرر ص 76

.....

النموذج الثالث

السؤال الأول

أ) أكمل العبارات التالية بما يناسبها

١) الدولة العربية التي تقع خارج نطاق موقع الوطن العربي تسمى جزر ..... ص 23

٢) أكثر الأشكال التضاريسية إنتشاراً في الوطن العربي تسمى ..... ص 40

٣) ملك بابلي وضع قانون السن بالسن والعين بالعين إسمه ..... ص 84

٤) ملكة سبأ ورد ذكرها بالقرآن الكريم إسمها ..... ص 86

٥) الصنم الذي أطلق على البحرين قديماً إسمه ..... ص 89

ب) ضع خطاً تحت الخيار الصحيح من بين الخيارات التي تلي كل عبارة

١) مضيق يربط بين خليج عدن والبحر الأحمر ص 28

هرمز	باب المندب	السويس	جبل طارق

٢) الفصل الذي تكون فيه الشمس عمودية على المنطقة الواقعة بين خط الاستواء ومدار الجدي

الربيع	الصيف	الشتاء	الخريف

٣) الصورة التي أمامك لمعلم ينتمي للحضارة ص 72

بلاد الشام	بلاد اليمن	مصر القديمة	دلمون

٤) محطة تحلية مياه البحر أنشأت في دولة الكويت عام ١٩٥٣م ص 61

الروضتين	أم العيش	الأحمدي	الشويخ

٥) العام الذي أنزل فيه القرآن الكريم على سيدنا محمد ﷺ: ص 90

٦١٠م	٦٢٠م	٦٣٠م	٦٤٠م

ج) صحح ما تحته خط بكتابة الإجابة الصحيحة ما بين الأقواس

	العبارة	التصحيح
١	تمثل نسبة مساحة الوطن العربي من جملة مساحة العالم حوالي ٥٠% ص 23	
٢	موقع الدولة بالنسبة لليابس والماء يسمى الموقع الفلكي ص 33	
٣	حالة الجو خلال فترة زمنية طويلة يسمى الطقس ص 44	
٤	الرياح المحلية التي تهب على دولة الكويت تسمى الخماسين ص 48	
٥	عرف أهل اليمن الأبجدية التي كانت تكتب بالخط الهيروغليفي ص 87	

السؤال الثاني

أ) أمامك خريطة الوطن العربي الصماء أكتب الرقم الدال على العبارات التي تليها

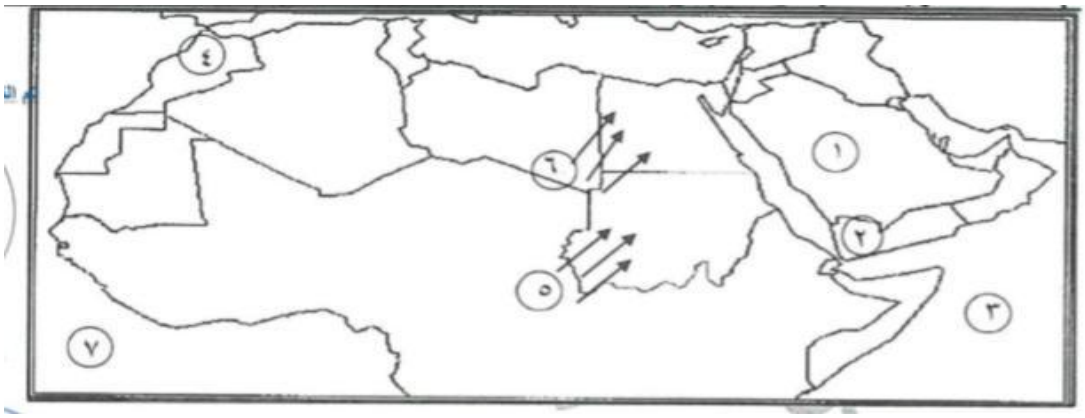

- ☒ جبال الأطلس يمثله على الخريطة الرقم (.....) ص 38
- ☒ هضبة نجد يمثلها على الخريطة الرقم (.....) ص 40
- ☒ المحيط الهندي يمثله على الخريطة الرقم (.....) ص 23
- ☒ رياح الهبوب يمثلها على الخريطة الرقم (.....) ص 48
- ☒ بلاد اليمن يمثلها على الخريطة الرقم (.....) ص 23

ب) أكمل المخططات السهمية التالية

١) مصادر المياه في الوطن العربي مكرر ص 57

..... المياه الجوفية .....

٢) مراكز اشعاع الحضارة العربية الإسلامية إلى أوروبا مكرر ص 92

..... الاحتلال الصليبي لبلاد الشام .....

ج) صنف الحيوانات الصحراوية التالية بمكانها الصحيح في الجدول الذي يليها ص 55

(الصقور – الجراد – الخنافس – الأفاعي – الحباري)

الطيور	الحشرات	الزواحف

السؤال الثالث

أ) اقرأ الفقرة التالية ثم أجب عما يليها من أسئلة

(يضم الوطن العربي مجموعة من الدول العربية التي يجمعها عدد من السمات المشتركة وقد كونت شعوب هذه المنطقة وطنا كبيرا له عاداته وتقاليده وقيمه وتربط بين ابنائه وحدة الدين واللغة وهي التي أجمعت عليها دول الوطن العربي علي امتداده الجغرافي)

١) ضع عنوان مناسب للفقرة السابقة .....

٢) عرف ما تحته خط مكرر

.....

.....

٣) عدد مقومات الهوية العربية مكرر

- .....
- .....

ب) قارن بين كل من حسب المطلوب منك في الجدول التالي ص 52

المقارنة	الغابات المدارية الحارة	الغابات المعتدلة
مميزات الأشجار ص 42		
أهم الأشجار ص 51		

ج) عرف المفاهيم والمصطلحات التالية

السهول ص 42	
النبات الطبيعي ص 51	
الحضارة ص 71	
الديانة اليهودية ص 90	

السؤال الرابع

أ) لاحظ الصورة التي أمامك ثم أجب عن الأسئلة التالية

(١) ما الإسم الذي يطلق على هذا النوع من الكتابة؟ ..... ص 83

(٢) كم يبلغ عدد حروفها ؟ ..... ص 83

(٣) اذكر إسم الحضارة التي ظهرت فيها هذه الكتابة ..... ص 79

Ahmed Hdara
Philosophy & psychology

(٤) عدد العلوم والفنون التي إشتهرت بها هذه الحضارة ص 82

..... - ..... - .....

٥) عدد الأدوات المستخدمة في الكتابة ص 83

..... - .....

ب) علل

(١) الأهمية الجغرافية للوطن العربي

الأهمية الجغرافية للوطن العربي ص 35	
إزدهار الزراعة في بلاد الرافدين ص 81	

ج) عدد إثنين لكل مما يلي

(١) صفات المطر في الوطن العرب مكرر ص 59

- .....
- .....

(٢) طرق ترشيد إستخدام المياه مكرر ص 63

- .....
- .....

(٣) العوامل التي ساعدت على قيام الحضارة المصرية القديمة ص 75

- .....
- .....

Ahmed Hdara
Philosophy & psychology

النموذج الرابع

السؤال الأول

(أ) ظلل الخيار الصحيح من بين الخيارات التي تلى كل عبارة

١) الدولة الخليجية التي قامت بها حضارة دلمون ص 88

البحرين	قطر	عمان	الكويت

٢) تبلغ مساحة الوطن العربي ص 23

١٠,٥٠٠ كم٢	١١,٥٠٠ كم ٢	١٢,٥٠٠ كم ٢	١٣,٥٠٠كم٢

٣) الشجرة التي يستخدم لحاؤها في صناعة الفلين ص 52

السدر	البلوط	العرعر	التاك

٤) العام الذي أصبحت تعتمد فيه دولة الكويت على تحلية مياه البحر ص 61

١٩٥٢	١٩٥٣	١٩٥٤	١٩٥٥

٥) الصورة التي أمامك تمثل أحد الزواحف السائدة في المنطقة الصحراوية

الارنب	الحباري	الضب	العقرب

(ب) أكمل العبارات التالية بما يناسبها فيما درست

- أشهر ملوك سبأ تسمى ..... ص 86
- أي موقع ذي مكانة مهمة بين دول العالم يسمى ..... ص 28
- الديانة التي نزلت على سيدنا عيسى بن مريم وكتابها الإنجيل تسمى ..... ص 90
- عاصمة جزر القمر تسمى ..... ص 23
- وزن الهواء فوق أي مكان يسمى ..... ص 44

(جـ) صنف مظاهر السطح التالية حسب ما هو مطلوب في الجدول

(نجد – الفيضيه – عسير – الساحلية – الأخضر)

جبال ص 38	هضاب ص 40	سهول ص 42

Ahmed Hdara
Philosophy & psychology

السؤال الثاني

(أ) لاحظ خريطة الوطن العربي ثم أكتب الرقم الدال على العبارات التالية ص 28 – 71 – 38 – 40 – 40

١) مضيق باب المندب يمثله على الخريطة الرقم .....

٢) حضارة بلاد الرافدين يمثلها على الخريطة الرقم .....

٣) جبل مره يمثلها على الخريطة الرقم .....

٤) هضبة نجد يمثلها على الخريطة الرقم .....

٥) المحيط الأطلسي يمثله على الخريطة الرقم .....

(ب) ضع علامة (✓) أمام (العبارة الصحيحة) وعلامة (X) أمام العبارة الخاطئة فيما يلي

	العبارة	العلامة
١	نسبة مساحة الوطن العربي من جملة مساحة العالم تمثل ١٠% ص 23	
٢	الحضارة التي عرفت الأحرف الأبجدية هي مصر القديمة ص 87	
٣	الدولة العربية التي يمر بها نهر النيل هي الجزائر ص 58	
٤	الأبنوس من أهم أشجار الغابات المدارية الحارة ص 52	
٥	الإحساء هي أهم مناطق تحلية المياه في المملكة العربية السعودية ص 61	

(جـ) أكمل المخططات السهمية التالية بما يناسبها

١) حضارات بلاد اليمن مكرر

..... سبأ .....

٢) مقومات الهوية العربية مكرر

..... اللغة ..... الأهداف المشتركة

السؤال الثالث

أ) أكتب فيما يلي

١) العوامل التي تؤثر في مناخ الوطن العربي مكرر

- .....
- .....

٩٧٧٦٤٩٤٩
Ahmed Hdara Philosophy & psychology

٢) الصفات التي يتصف بها المطر في الوطن العربي مكرر

✪ .....

✪ .....

٣) العوامل التي ساعدت على قيام الحضارة المصرية القديمة مكرر

.....

.....

(ب) فرق بين كل من في الجدول التالي

الطقس ص 4	المناخ ص 4
الموقع الفلكي ص 31	الموقع النسبي ص 31

(جـ) علل لما يأتي

١) الأهمية الجغرافية للوطن العربي . مكرر

- .....
- .....

٢) كان أهل اليمن أسياد التجارة العربية ص 87

.....

.....

٣) تنوع النبات الطبيعي في الوطن العربي ص 51

.....

السؤال الرابع

(أ) لاحظ الشكل التالي ثم أجب عن ما يلى مكرر

- ما إسم الكتابة ؟ .....
- أذكر الحضارة التي تنتمي إليها .....
- كم عدد أحرفها .....
- عدد الأدوات المستخدمة في الكتابة

١) .....

٢) .....

Ahmed Hdara
Philosophy & psychology

(ب) أجب عن الاسئلة التالية

١) عدد مصادر المياه في الوطن العربي مكرر

..... - ..... - .....

٢) أذكر المقومات الأساسية لقيام الحضارة مكرر

❖ .....

❖ .....

٣) طرق إنتقال الحضارة العربية الإسلامية الى قارة أوربا مكرر

..... - ..... - .....

٤) وسائل مقاومة النباتات الصحراوية للجفاف في الوطن العرب مكرر

⇦ .....

⇦ .....

(جـ) **عرف المفاهيم التالية**

النبات الطبيعي ص 51	
الحضارة ص 71	
الأفلاج ص 60	

Ahmed Hdara
Philosophy & psychology

النموذج الخامس

السؤال الأول

(أ) أكمل العبارات التالية بما يناسبها

١) تعرف الحشائش المعتدلة (الإستبس) في بلاد المغرب باسم ..... ص 52

٢) مسطح مائي تحيط به اليابسة من جميع الإتجاهات يسمى ..... ص 60

٣) مضيق يصل بين الخليج العربي وخليج عمان يسمى ..... ص 75

٤) نوع من الكتابة إخترعه السومريون يتضمن ٦٠٠ حرف عرفت باسم .....

٥) عرفت حضارة دلمون قبل الفتح الإسلامي باسم .....

(ب) ظلل الخيار الصحيح من بين الخيارات التي تلي كل عبارة

١) تمثل مساحة الوطن العربي بالنسبة لجملة مساحة العالم ص 23

%٥	%١٠	%١٥	%٢٠

٢) تبلغ عدد المواد القانونية في شريعة حمورابي ص 84

٢٨٠	٢٨١	٢٨٢	٢٨٣

٣) الدولة التي توجد بها محطة تحلية المياه رأس عبود ص 61

ليبيا	قطر	الكويت	الامارات

٤) المملكة التي كانت تحكمها الملكة بلقيس التي ورد ذكرها في القرآن الكريم ص 86

مملكة سبأ	مملكة معين	مملكة حمير	مملكة دلمون

٥) الدولة التي تهب عليها رياح الخماسين ص 48

السودان	اليمن	مصر	الجزائر

Ahmed Hdara
Philosophy & psychology

(ج) أكمل المخططات السهمية التالية

١) مظاهر وملامح السطح في الوطن العربي ص 37

..... الهضاب ....

٢) العوامل التي تؤثر في مناخ الوطن العربي مكرر

القرب أو البعد عن المسطحات المائية — الموقع بالنسبة لدوائر العرض — ....

٣) الديانات السماوية الثلاث مكرر

الديانة الإسلامية — ....

(د) صنف العناصر التالية في مكانها المناسب في الجدول الذي يليها ص 40

(سهل عكار – سهول نهر سبو – سهول نهر شبلي – سهل العلويين – سهول نهر السوس)

الجناح الآسيوي	الجناح الأفريقي

(هـ) صوب ما تحته خط في العبارات التالية بكتابة الإجابة الصحيحة

م	العبارة	التصويب
١	نقطة من الكرة الأرضية يتحدد موقعها بخطوط الطول ودوائر العرض يطلق عليها الموقع الإستراتيجي ص 31	
٢	أرض مرتفعة ، سطحها مستو وتمتد على مساحة كبيرة يطلق على الجبل ص 40	
٣	وزن الهواء فوق أي مكان يسمى الحرارة ص 44	
٤	في فصل الشتاء تكون الشمس عمودية على المنطقة الواقعة بين خط الاستواء ومدار السرطان ص 49	
٥	مملكة الآكاديون تتبع حضارة بلاد اليمن ص 79	

(و) لاحظ خريطة الوطن العربي ثم أكتب مدلولات الأرقام والرموز على العبارات التالية ص 28

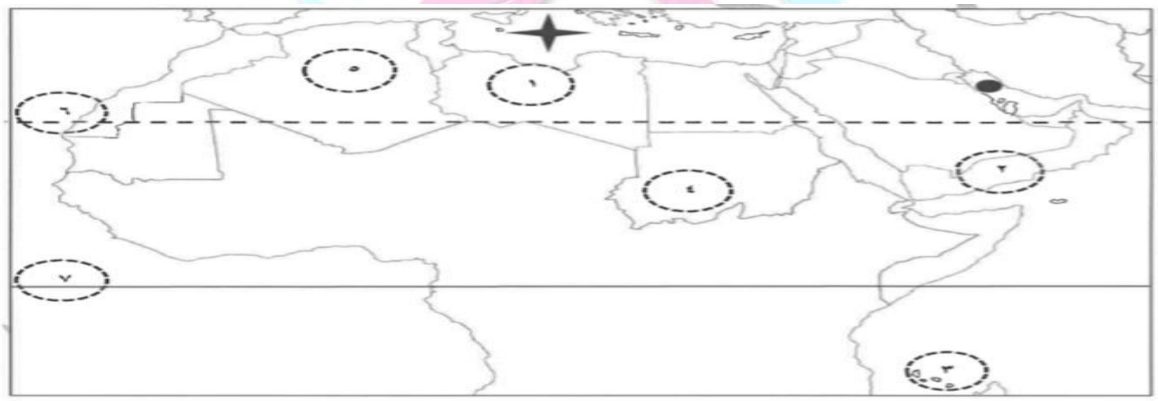

- جزر القمر يمثلها على الخريطة الرقم .....
- خط الإستواء يمثله على الخريطة الرقم .....
- الدولة التي تقع فيها جبال الأحجار يمثلها على الخريطة الرقم .....
- الرياح المحلية " القبلي " يمثلها على الخريطة الرقم .....
- الخليج العربي يمثله على الخريطة الرمز .....

السؤال الثاني

(أ) لاحظ الشكل المقابل ثم أجب عن الأسئلة التالية:

١) ما اسم الشكل المقابل ؟ ..... ص 78

٢) اذكر إسم الحضارة التي يمثلها الشكل المقابل

..... ص 74

٣) عدد العوامل التي ساعدت على قيام هذه الحضارة ص 75

- .....
- .....
- .....

(ب) علل لما يلي

١) يتمتع الوطن العربي بموقع (جغرافي) أكسبه مكانة مهمة بين دول العالم ص 75

✪ .....

✪ .....

٢) يؤثر المناخ في تنوع النبات الطبيعي في الوطن العربي ص 51

.....

(ج) عرف المفاهيم أو المصطلحات التالية

١) السهول الساحلية ص 42

.....

٢) النهر ص 85

.....

Ahmed Hdara
Philosophy & psychology

السؤال الثالث

(أ) لاحظ الجدول التالي ثم أجب عن الأسئلة التالية ص 62

الدولة	نسبة استخدام المياه المحلاه
السعودية	%٨
قطر	%٣٨
الكويت	%٥٥
البحرين	%٣١
الامارات	%٢٧

١) إستخرج حقيقة من الجدول

.....

٢) علل: إعتماد الدول في الجدول المقابل على المياه المحلاة ص 61

بسبب .....

٣) رتب الدول الخليجية الأربع الأولى في نسبة إستخدام المياه المحلاة ترتيباً تنازلياً

الكويت	قطر	البحرين	الامارات

(ب) عدد اثنان لكل مايلي

١) المقومات الأساسية للحضارة مكرر

- .....
- .....
- .....

٢) صفات المطر في الوطن العربي مكرر

- .....
- .....
- .....

(ج) فرق بين كل مما يلي

المضيق ص 28	القناة ص 28

السؤال الرابع

(أ)) اقرأ الفقرة التالية ثم أجب عما يليها من أسئلة

توفر في الوطن العربي مجموعة من المقومات الجغرافية والطبيعية التي كان لها دور كبير في ازدهار العديد من الحضارات الإنسانية التي استقرت في ربوع الوطن العربي الكبير، ومن أهمها الحضارة العربية الإسلامية التي قامت على تعاليم الدين الإسلامي وكان لها فضل كبير في إثراء الحضارة الأوروبية، عن طريق انتقال الحضارة العربية إلى أوروبا بفضل مراكز الإشعاع التي انتشرت بالقرب منها مثل بلاد الأندلس وصقلية أو عن طريق الإحتلال الصليبي لبلاد الشام

١) ضع عنواناً مناسباً للفقرة

.....

٢) إستخرج من الفقرة إثنين من مراكز الإشعاع الحضاري لإنتقال الحضارة العربية إلى أوروبا مكرر

- .....
- .....

Ahmed Hdara
Philosophy & psychology

(ب) قارن بين كل مما يلي ص 52

المقارنة	الغابات المدارية الحارة	الغابات المعتدلة
المميزات		
الإستخدام		

(ج) أجب عن الأسئلة التالية

١) أذكر مقومات الهوية العربية مكرر

- .....
- .....

٢) عدد الأنشطة الإقتصادية التي كان يمارسها سكان حضارة دلمون ص 88

..... - .....

Ahmed Hdara
Philosophy & psychology

مع تمنياتنا لكم بالنجاح والتوفيق

النموذج السادس

السؤال الأول

(أ) ضع خطاً تحت الخيار الصحيح من بين الخيارات التي تلي كل عبارة مما يلي

١) مساحة كبيرة من سطح الأرض تتميز باستوائها وقلة إرتفاعها ص 40

الجبال	التلال	السهول	الهضاب

٢) تبلغ مساحة الوطن العربي

١٣ مليون كم ٢	١٣,٥٠٠ مليون كم٢	١٤ مليون كم٢	١٤,٥٠٠ مليون كم٢

٣) الدولة التي توجد بها محطة الشويخ لتحلية مياه البحر ص 61

قطر	البحرين	الكويت	العراق

٤) أكبر دولة عربية من حيث المساحة في الجناح الآسيوي ص 23

السعودية	الإمارات	عمان	سوريا

٥) العام الذي نزل فيه القرآن الكريم على سيدنا محمد عليه الصلاة والسلام ص 90

٦٠٠م	٦١٠م	٦٢٠م	٦٣٠م

(ب) أكمل العبارات التالية بما يناسبها

إسم أطلق على البحرين قديماً نسبة إلى صنم اسمه ص 89	
الرياح المحلية التي تهب من جهة الغرب على دولة الكويت تسمى ص 48	
مجرى ماني صناعي ضيق يشق لأغراض الري أو النقل يسمى ص 38	
المملكة التي حكمتها الملكة " بلقيس" إسمها ص 86	
موقع الدولة بالنسبة لليابسة و الماء يسمى ص 33	

(ج) صنف المظاهر الحضارية التالية حسب مكانها الصحيح في الجدول التالي ص 92 - ص 87 - ص 83

(حدائق بابل المعلقة – مسجد قرطبة – الخط المسند – الكتابة المسمارية)

بلاد الرافدين	الحضارة العربية الإسلامية	بلاد اليمن

(د) صحح ما تحته خط في العبارات التالية وذلك بكتابة الإجابة الصحيحة ما بين الأقواس

الدولة العربية التي تقع خارج نطاق موقع الوطن العربي إسمها اليمن ص 23	
مجرى مائي عذب ينحدر على الدوام لينتهي إلى بحر أو إلى نهر أو ينتهي تدريجياً في الصحراء يسمى البحيرة ص 58	
بلاد الر افدين تعني بلاد ما بين النهرين ويطلق عليها حالياً إسم الأردن ص 79	
حشائش طويلة يختلف نوعها حسب كمية الأمطار تسمى الحشائش المعتدلة (الأستبس)	
المضيق الذي يصل بين البحر المتوسط والمحيط الأطلسي يسمى باب المندب ص 28	

(هـ) أكمل المخططات السهمية التالية

١) طرق انتقال الحضارة العربية الإسلامية إلى أوروبا مكرر

الأندلس ..... صقلية

٢) مقومات الهوية العربية مكرر

وحدة الدين الأهداف المشتركة ....

(و) إختر للمجموعة (أ) ما يناسبها من المجموعة (ب) بوضع الرقم الصحيح في المكان المناسب

م	المجموعة (أ)	الرقم	المجموعة (ب)
١	جامع المنصور الذي ينتمي للحضارة العربية الإسلامية		
٢	الأهرامات التي تنتمي للحضارة المصرية القديمة		
٣	أسد بابل الذي ينتمي لحضارة بلاد الر افدين		

Ahmed Hdara
philosophy & psychology

(ز) لاحظ خريطة الوطن العربي الصماء ثم نفذ المطلوب

١) يمثل الرقم (٣) على الخريطة مسطح مائي يسمى ..... ص 31

٢) جمهورية السودان يمثلها على الخريطة الرقم ..... ص 28

٣) ضع علامة (x) على موقع مضيق هرمز على الخريطة ..... ص 28

٤) إرسم خط (----) الإستواء على خريطة الوطن العربي ..... ص 31

السؤال الثاني

(أ) عرف المفاهيم أو المصطلحات التالية

النبات الطبيعي ص 51	
الموقع الإستراتيجي ص 28	

Ahmed Hdara
Philosophy & psychology

(ب) قارن بين كل من حسب المطلوب منك في الجدول التالي

أوجه المقارنة	الإسلام	المسيحية
النبي		
الكتاب السماوي		

(ج) علل لما يلي

١) المدن الساحلية أكثر إعتدالاً في المُناخ صيفاً وأدفأ نسبياً شتاء مكرر

لأن .....

٢) مقاومة النبات الصحراوي للجفاف مكرر

- .....
- .....

٣) إهتمام المصريين القدماء بتحنيط جثث موتاهم مكرر

بسبب .....

السؤال الثالث

(أ) عدد اثنين لكل مما يلي

١) العوامل التي ساهمت في ازدهار الزراعة في بلاد الرافدين ص 81

- .....
- .....

٢) عوامل قيام الحضارة مكرر

- .....
- .....

٣) العوامل الرئيسية المؤثرة في تنوع النبات الطبيعي في الوطن العربي ص 51

- .....
- .....

(ب) قارن بين كل من حسب المطلوب منك في الجدول التالي ص 52

المقارنة	الغابات المدارية الحارة	الغابات المعتدلة
مميزات الأشجار		
أهم الأشجار		

السؤال الرابع

(أ) فرق بين كل مما يلي من حيث التعريف مكرر

المناخ	الطقس

Ahmed Hdara
Philosophy & psychology

(ب) أجب عن الأسئلة التالية

١) عدد صفات الأمطار في الوطن العربي مكرر

- .....
- .....

٢) علل) تنافس الدول الإستعمارية للإستيلاء على الوطن العربي منذ القرن ١٨ الميلادي ص 35

.....

.....

٣) عرف الحضارة مكرر

.....

.....

(ج) لاحظ الصورة التي أمامك ثم أجب عن الأسئلة التالية مكرر

- الكتابة التي تمثلها الصورة تسمى .....
- الحضارة التي إشتهرت بها هذه الكتابة تسمى .....
- عدد العلوم والفنون التي تميز فيها سكان هذه الحضارة

Ahmed Hdara
Philosophy & psychology

مع تمنياتنا لكم بالنجاح والتوفيق

أحمد حضاره

Ahmed Hdara
Philosophy & psychology