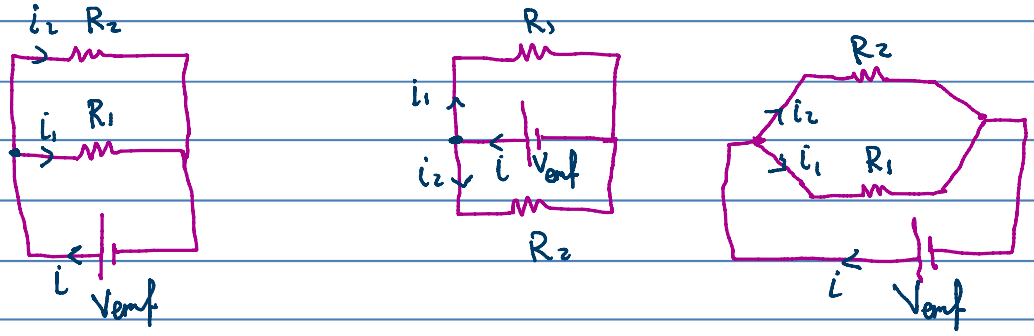
توصيل المقاومات على التوازي(الجزء الأول) 5.6

Saturday, January 18, 2025 1:10 PM

5.6 التوصيل على التوازي (الجزء الأول)

يوفر عدة مسارات لمرور التيار



$V_{emf} = \Delta V_1 = \Delta V_2$ فرق الجهد ثابت

$\Delta V = i_{tot} R_{eq} = i_1 R_1 = i_2 R_2$

التيار الكهربائي:- يتجزأ (مقاومة أكبر ← تيار أقل)

$i_{tot} = i_1 + i_2 + i_3$

$R = \frac{\Delta V}{i}$ ثابت ↑ ↓ توازي

المقاومة المكافئة

$i_{tot} = i_1 + i_2 + i_3$

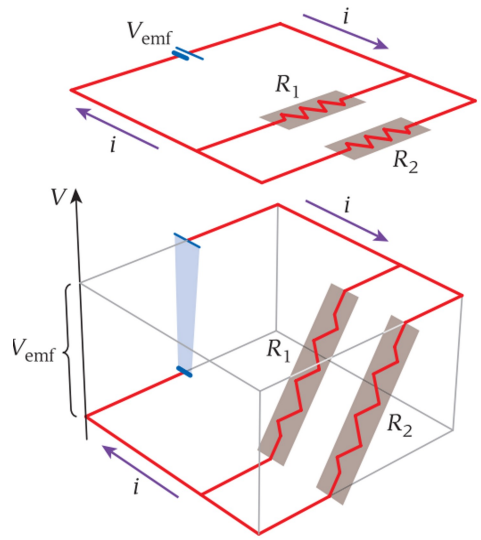
$\frac{V_{emf}}{R_{eq}} = \frac{\Delta V_1}{R_1} + \frac{\Delta V_2}{R_2} + \frac{\Delta V_3}{R_3}$ توازي

$\frac{1}{R_{eq}} = \frac{1}{R_1} + \frac{1}{R_2} + \frac{1}{R_3}$

$R_{eq} = \left(\frac{1}{R_1} + \frac{1}{R_2} + \frac{1}{R_3} \right)^{-1}$

المقاومة المكافئة أصغر من أصغر مقاومة

$R_{eq} = \frac{R}{N}$ عدد مقاومات متساوية R وعددها N:-

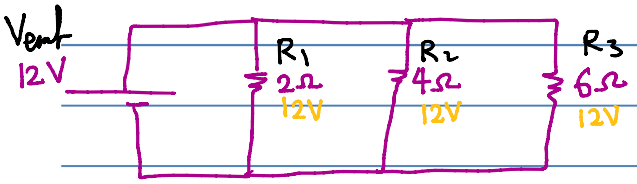


فرق الجهد ثابت

$$i = i_1 + i_2 + i_3$$

$$R_{eq} = \left(\frac{1}{R_1} + \frac{1}{R_2} + \frac{1}{R_3}\right)^{-1}$$

التوصيل على التوازي



$$R_{eq} = \left(\frac{1}{2} + \frac{1}{4} + \frac{1}{6}\right)^{-1} = 1.1\,\Omega$$

12V فرق الجهد في التوازي ثابت

$$i_1 = \frac{\Delta V}{R_1} = \frac{12}{2} = 6\,A$$

$$i_2 = \frac{\Delta V}{R_2} = \frac{12}{4} = 3\,A$$

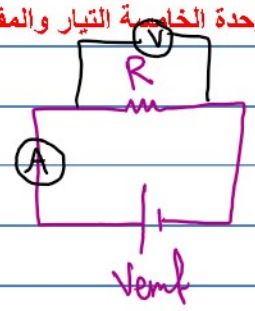
$$i_3 = \frac{\Delta V}{R_3} = \frac{12}{6} = 2\,A$$

$i_{tot} = 11\,A$

$$i_{tot} = \frac{V_{emf}}{R_{eq}} = \frac{12}{1.1} = 10.9\,A$$

الأميتر يقيس التيار i

والفولتميتر يقيس فرق الجهد ΔV




$R_{eq} = R$

$i = \frac{V_{emf}}{R}$

ماذا يحدث لقراءة الأميتر والفولتميتر عند

توصيل مقاوم R على التوالي



$R_{eq} = 2R$

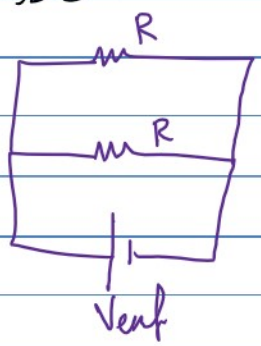
$i = \frac{V_{emf}}{2R} = 0.5 \frac{V_{emf}}{R}$

المقاومة المكافئة تزداد للضعف

التيار الكلي يقل للنصف

تيار كل مقاوم يقل للنصف

توصيل مقاوم R على التوازي



$R_{eq} = \frac{R}{2} = 0.5R$

$i = \frac{V_{emf}}{0.5R} = 2 \frac{V_{emf}}{R}$

المقاومة المكافئة تقل للنصف

التيار الكلي تزداد للضعف

تيار كل مقاوم ثابت

$i_1 = \frac{\Delta V_1}{R_1}$

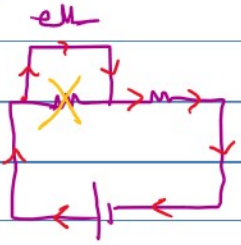
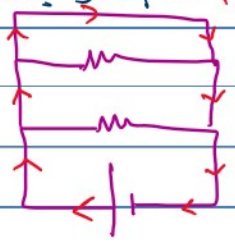
مقاومين متماثلين تم توصيلهما على التوالي ثم على التوازي مع نفس البطارية قارن التيار الكهربائي الكلي في الحالتين

$i_{توالي} = \frac{0.5 V_{emf}}{R}$

$i_{توازي} = \frac{2 V_{emf}}{R}$

التيار الكلي $\rightarrow \frac{i_{توالي}}{i_{توازي}} = \frac{0.5}{2} = \frac{1}{4}$

التيار الكلي $\rightarrow i_{توالي} \; 4 = i_{توازي}$

	التوصيل على التوالي	التوصيل على التوازي
التيار الكهربائي	مسار وحيد لمرور التيار	عدة مسارات لمرور التيار
فرق الجهد	ثابت $\uparrow R = \frac{\Delta V}{I}$ ثابت	يتجزأ (مقاومة أكبر ← تيار أقل) $\uparrow R = \frac{\Delta V}{I}\downarrow$ ثابت
المقاومة المكافئة	يتجزأ (مقاومة أكبر ← جهد أكبر) $Req = R_1 + R_2 + \cdots$ Req هي الأكبر	ثابت $\frac{1}{Req} = \left(\frac{1}{R_1} + \frac{1}{R_2} + \cdots\right)^{-1}$ Req هي الأصغر
نقص المقاومة	$Req = N R$	$Req = \frac{R}{N}$
إضافة مقاوم على	Req تزداد، i_{tot} تقل، تيار كل مقاوم يقل، جهد كل مقاوم يقل	Req تقل، i_{tot} تزداد، تيار كل مقاوم ثابت $i_1 = \frac{\Delta V}{R_1}$ ثابت ثابت، جهد كل مقاوم ثابت (جهد المصدر)
إضافة سلك بين طرفي مقاوم	$\downarrow \Delta V = \downarrow i R$ 	
سطوع المصباح	توالي ← تيار ثابت، مقاومة أكبر ← جهد أكبر، سطوع أكبر	توازي ← فرق الجهد ثابت، مقاومة أكبر ← تيار أقل، سطوع أقل

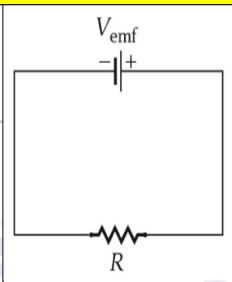
سطوع المصباح يزداد بزيادة فرق الجهد والتيار (القدرة)

5.6 Resistors in Parallel 5.6 توصيل المقاومات على التوازي

1

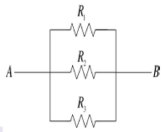
You make a parallel connection between two resistors, resistor A having a very large resistance and resistor B having a very small resistance. The equivalent resistance for this combination will be	تقوم بتوصيل مقاومين على التوازي، المقاوم Aله مقاومة كبيرة جدا والمقاوم Bله مقاومة صغيرة جدا. ستكون المقاومة المكافئة لهذه المجموعة
أقل بقليل من مقاومة المقاوم A . slightly less than the resistance of resistor A.	أكبر بقليل من مقاومة المقاوم A . slightly greater than the resistance of resistor A
أكبر بقليل من مقاومة المقاوم B . slightly greater than the resistance of resistor B	أقل بقليل من مقاومة المقاوم B slightly less than the resistance of resistor B

2

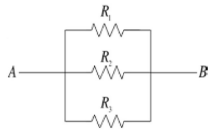
For the circuit shown in the figure, if another resistor with equal resistance was connected with R in parallel what happens to the magnitude of the current flowing through the battery?		اعتمادا على الدائرة الكهربائية، إذا تم توصيل مقاوم آخر له نفس مقدار المقاومة على التوازي مع المقاوم R. ماذا يطرأ على مقدار التيار المتدفق في البطارية؟

Becomes half يصبح نصف ما كان عليه	Becomes twice يصبح مثلي ما كان عليه
Becomes four times يصبح أربعة أمثال ما كان عليه	Stays the same يبقى كما كان عليه

3

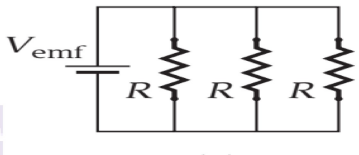
What is the equivalent resistance of the circuit shown if $R_1 = 24\Omega, R_2 = 40\Omega, R_3 = 16\Omega$?		ما مقدار المقاومة المكافئة في الدائرة الموضحة بالشكل إذا علمت ان : $R_1 = 24\Omega, R_2 = 40\Omega, R_3 = 16\Omega$

56Ω	61Ω	10Ω	7.7Ω

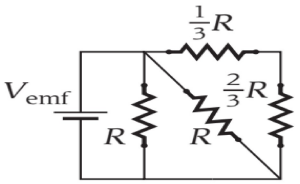
4			
The equivalent resistance of the circuit shown if $R_{eq} = 2.3\Omega$. If $R_2 = 40\Omega$ and $R_3 = 16\Omega$, what is the resistance of R_1?		المقاومة المكافئة في الدائرة الموضحة بالشكل تساوي $R_{eq} = 2.3\Omega$ إذا علمت أن : $R_2 = 40\Omega$ و $R_3 = 16\Omega$ ما مقدار مقاومة R_1 ؟	
4.1Ω	7.7Ω	11Ω	2.9Ω

5			
When a 125-V emf is placed across two resistors in series, a current of 5.00 A is present in each of the resistors. When the same emf is placed across the same two resistors in parallel, the current through the emf is 25.0 A. What is the resistance of the larger of the two resistors?		عند توصل مصدر 125V مع مقاومين على التوالي يمر تيار 5A في المقاومين وعند توصيل نفس المصدر مع نفس المقاومين على التوازي يمر تيار من المصدر 25A . ما مقدار مقاومة المقاومة الأكبر ؟	
26.7Ω	18.1Ω	6.91Ω	2.89Ω

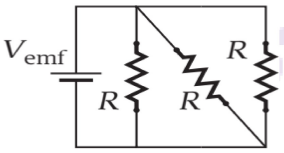
6	
Which combination of resistors has the highest equivalent resistance ?	أي ترتيب من المقاومات التالية له أكبر مقاومة مكافئة ؟



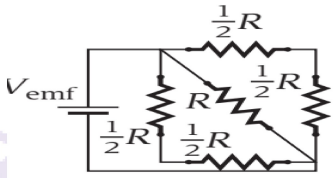
(a)



(c)



(b)

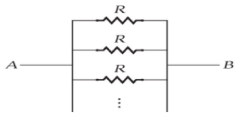


(d)

a	b	c	d	All are the same


7	
A resistor of unknown resistance and a 35.0-Ω resistor are connected across a 120. V emf device in such a way that an 11.0 A current flows. What is the value of the unknown resistance?	تم توصيل مقاوم مجهول المقاومة ومقاوم تبلغ مقاومته 35.0 Ω بجهاز قوة دافعة كهربائية 120 V بطريقة تسمح بتدفق تيار شدته 11.0 A. ما قيمة المقاومة المجهولة؟

8	
As more identical resistors, R, are added to the circuit shown in the figure, the resistance between points A and B will	كلما أضيف المزيد من المقاومات المتطابقةRإلى الدائرة المبينة في الشكل، فإن المقاومة بين النقطتين Aو Bسوف



تزداد	تقل	ثابتة
increase	decrease	Stay the same

9	
series with Three light bulbs are connected in a battery that delivers a constant potential difference V_{emf}. When a wire is connected across light bulb 2 as shown in the figure, light bulbs 1 and 3	تم توصيل ثلاثة مصابيح ضوئية على التوالي ببطارية تنتج فرق جهد ثابتا V_{emf}.عندما يتم توصيل سلك بالمصباح الكهربائي 2 كما هو مبين في الشكل، فإن المصباحين الكهربائيين 1و 3سوف



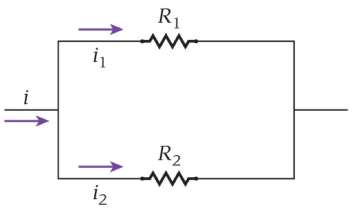
يضيئان بالسطوع نفسه كما كانا قبل توصيل السلك	burn just as brightly as they did before the wire was connected
يضيئان بسطوع أكبر من سطوعهما قبل توصيل السلك	burn more brightly than they did before the wire was connected
يضيئان بسطوع أقل من سطوعهما قبل توصيل السلك	burn less brightly than they did before the wire was connected
ينطفئان.	go out

10	
Which of the following is an incorrect statement?	أي العبارات التالية غير صحيحة؟

يكون التيار المتدفق عبر أجهزة إلكترونية متصلة على التوالي متساويا. The currents through electronic devices connected in series are equal.	
يكون فرق الجهد المتدفق عبر أجهزة إلكترونية متصلة على التوازي متساويا. The potential drops across electronic devices connected in parallel are equal.	
يتدفق المزيد من التيار عبر المقاومة الأصغر عند توصيل مقاومان على التوازي. More current flows across the smaller resistance when two resistors are connected in parallel.	
يتدفق المزيد من التيار عبر المقاومة الأصغر عند توصيل مقاومان على التوالي More current flows across the smaller resistance when two resistors are connected in series	

11	
Two identical light bulbs are connected to a battery. Will the light bulbs be brighter if they are connected in series or in parallel?	تم توصيل مصباحين ضوئيين متطابقين ببطارية ما. هل ستكون إضاءة المصباحين أكثر سطوعا إذا تم توصيلهما على التوالي أم على التوازي؟

12	
For the connections shown in the figure, determine the current i_1 in terms of the total current i and R_1 and R_2	بالنسبة إلى التوصيلات المبينة في الشكل، حدد التيار $i1$ بدلالة التيار الكلي i و R_1 و R_2



13			
A wire of length L, diameter d, resistance R is made of material with resistivity ρ. If I take the wire and cut it into five equal pieces and then put those pieces in parallel to make one single thick wire L/5 in length, what will be its resistance?		سلك طوله L وقطره d ومقاومته R مصنوع من مادة ذات مقاومة ρ. إذا أخذت السلك وقطعته إلى خمس قطع متساوية ثم وضعت تلك القطع على التوازي لتكوين سلك واحد بنفس السمك يبلغ طوله L/5، فما هي مقاومته	
R/5	R/25	R	5R

14

A multiclade wire consists of a zinc core of radius 1.00 mm surrounded by a copper sheath of thickness 1.00 mm. The resistivity of zinc is ρ = 5.964 X10-8 Ω m. What is the resistance of a 10.0 m long strand of this wire?

سلك متعدد الطبقات يتكون من قلب من الخارصين نصف قطره1.00 mmمحاط بغمد نحاسي سمكه 1.00 mmتبلغ المقاومة النوعية للخارصين $\rho = 5.964 \times 10^{-8}\ \Omega$ m
ما مقاومة جديلة من هذا السلك طولها 10.0 m؟

15

تم توصيل مقاومان في دائرة كهربائية ببطارية على التوالي ثم على التوازي، وقيست قيم التيار والجهد الكهربائي للمقاومين والبطارية أكمل الجدولين التاليين

Two resistors were connected in an electrical circuit to a battery in series and then in parallel, and the current and voltage values of the resistors and the battery were measured. Complete the following two tables

Table 1 الجدول 1

ΔV(V)	I (A)	العنصر Element
3.0V		R_1
	0.5 A	R_2
4.5 V		البطارية battery
		طريقة التوصيل Connection type

Table2 الجدول 2

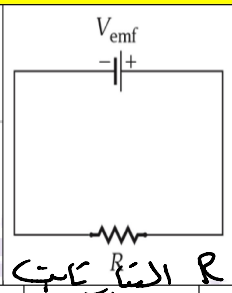
ΔV(V)	I (A)	العنصر Element
4.5 V		R_1
	.5 A	R_2
4.5 V		البطارية battery
		طريقة التوصيل Connection type

5.6 Resistors in Parallel 5.6 توصيل المقاومات على التوازي

1

You make a parallel connection between two resistors, resistor A having a very large resistance and resistor B having a very small resistance. The equivalent resistance for this combination will be	تقوم بتوصيل مقاومين على التوازي، المقاوم Aله مقاومة كبيرة جدا والمقاوم Bله مقاومة صغيرة جدا. ستكون المقاومة المكافئة لهذه المجموعة
slightly less than the resistance of resistor A. أقل بقليل من مقاومة المقاوم A .	slightly greater than the resistance of resistor A أكبر بقليل من مقاومة المقاوم A .
slightly greater than the resistance of resistor B أكبر بقليل من مقاومة المقاوم B .	slightly less than the resistance of resistor B أقل بقليل من مقاومة المقاوم B

2

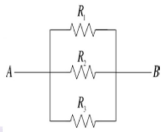
For the circuit shown in the figure, if another resistor with equal resistance was connected with R in parallel what happens to the magnitude of the current flowing through the battery?		اعتمادا على الدائرة الكهربائية، إذا تم توصيل مقاوم آخر له نفس مقدار المقاومة على التوازي مع المقاوم R. ماذا يطرأ على مقدار التيار المتدفق في البطارية؟
Becomes half يصبح نصف ما كان عليه		Becomes twice يصبح مثلي ما كان عليه
Becomes four times يصبح أربعة أمثال ما كان عليه		Stays the same يبقى كما كان عليه

قبل $R_{eq} = R$ $\quad I = \frac{V_{emf}}{R}$

بعد $R_{eq} = \frac{R}{2} = 0.5R$ $\quad I = \frac{V_{emf}}{0.5R} = \frac{2V_{emf}}{R}$

تيار = $\frac{V_{emf}}{R}$ مقاومة

3

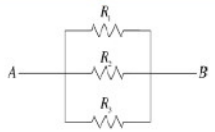
What is the equivalent resistance of the circuit shown if $R_1 = 24\Omega, R_2 = 40\Omega, R_3 = 16\Omega$?		ما مقدار المقاومة المكافئة في الدائرة الموضحة بالشكل إذا علمت ان : $R_1 = 24\Omega, R_2 = 40\Omega, R_3 = 16\Omega$

56Ω	61Ω	10Ω	7.7Ω

$$R_{eq} = \left(\frac{1}{24} + \frac{1}{40} + \frac{1}{16}\right)^{-1} = 7.7\,\Omega$$

4

The equivalent resistance of the circuit shown if $R_{eq} = 2.3\Omega$. If $R_2 = 40\Omega$ and $R_3 = 16\Omega$, what is the resistance of R_1?



المقاومة المكافئة في الدائرة الموضحة بالشكل تساوي $R_{eq} = 2.3\Omega$ إذا علمت أن : $R_2 = 40\Omega$ و $R_3 = 16\Omega$

ما مقدار مقاومة R_1 ؟

4.1Ω	7.7Ω	11Ω	2.9Ω

$$R_1 = \left(\frac{1}{Req} - \frac{1}{R_2} - \frac{1}{R_3}\right)^{-1}$$

$$R_1 = \left(\frac{1}{2.3} - \frac{1}{40} - \frac{1}{16}\right)^{-1} = 2.9\Omega$$

$$Req = \left(\frac{1}{R_1} + \frac{1}{R_2} + \frac{1}{R_3}\right)^{-1}$$

$$2.3 = \left(\frac{1}{R_1} + \frac{1}{40} + \frac{1}{16}\right)^{-1}$$

$R_1 =$ Ω

5

When a 125-V emf is placed across two resistors in series, a current of 5.00 A is present in each of the resistors. When the same emf is placed across the same two resistors in parallel, the current through the emf is 25.0 A. What is the resistance of the larger of the two resistors?

عند توصل مصدر 125V مع مقاومين على التوالي يمر تيار 5A في المقاومين وعند توصيل نفس المصدر مع نفس المقاومين على التوازي يمر تيار من المصدر 25A .

ما مقدار مقاومة المقاومة الأكبر ؟

$R_1 = ?$ $R_2 = ?$

26.7Ω	18.1Ω	6.91Ω	2.89Ω

توالي $Vemf = 125V$ $i = 5A$

$$Req = \frac{Vemf}{i} = \frac{125}{5} = 25\Omega \quad (R_1 + R_2)$$

$$R_1 + R_2 = 25\Omega \rightarrow (1)$$

$R_2 = 25 - R_1$

$$R_2 = 25 - 6.9 = 18.1\Omega$$

توازي $Vemf = 125V$ $i = 25A$

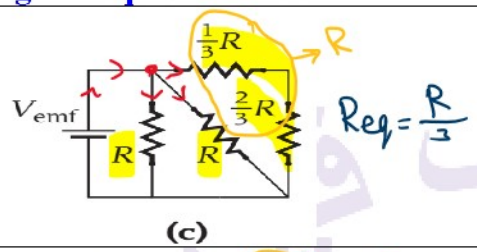
$$Req = \frac{Vemf}{i} = \frac{125}{25} = 5\Omega$$

$$\left(\frac{1}{R_1} + \frac{1}{R_2}\right)^{-1} = 5 \rightarrow (2)$$

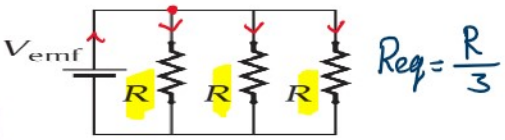
$$\frac{1}{R_1} + \frac{1}{25 - R_1} = \frac{1}{5}$$

$$R_1 = 6.9\Omega$$

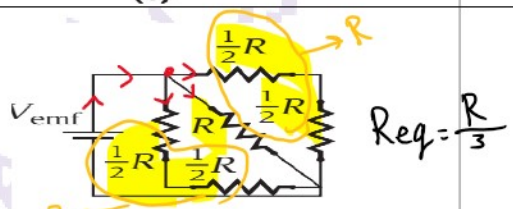
6	توازي ← مزدوج
Which combination of resistors has the highest equivalent resistance ?	أي ترتيب من المقاومات التالية له أكبر مقاومة مكافئة ؟



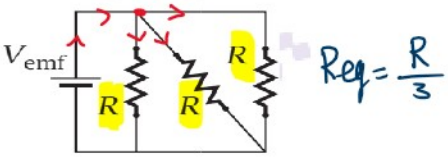
(c)



(a)



(d)



(b)

a	b	c	d	All are the same

7	
A resistor of unknown resistance and a 35.0-Ω resistor are connected across a 120. V emf device in such a way that an 11.0 A current flows. What is the value of the unknown resistance?	تم توصيل مقاوم مجهول المقاومة ومقاوم تبلغ مقاومته 35.0 Ω بجهاز قوة دافعة كهربائية 120 V بطريقة تسمح بتدفق تيار شدته 11.0 A. ما قيمة المقاومة المجهولة؟

$R_1 = ?$

$R_2 = 35\,\Omega$

$V_{emf} = 120\,V$

$i = 11.0\,A$

$Req = \frac{V_{emf}}{i}$ $\quad Req = \frac{120}{11} = 10.9\,\Omega$

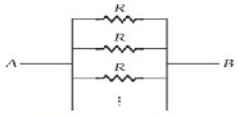
$Req < R_2 \longrightarrow$ توصيل على التوازي

$R_1 = \left(\frac{1}{Req} - \frac{1}{R_2}\right)^{-1}$ $\quad R_1 = \left(\frac{1}{10.9} - \frac{1}{35}\right)^{-1}$

$R_1 = 15.8\,\Omega$

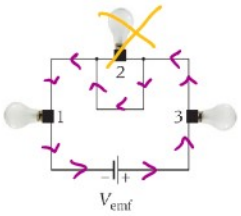
8	
As more identical resistors, R, are added to the circuit shown in the figure, the resistance between points A and B will	كلما أضيف المزيد من المقاومات المتطابقةRإلى الدائرة المبينة في الشكل، فإن المقاومة بين النقطتين Aو Bسوف

توازي ← اضافة ؟
↓
تقل المقاومة



تزداد	تقل	ثابتة
increase	decrease	Stay the same

9	
series with Three light bulbs are connected in a battery that delivers a constant potential difference V_{emf}. When a wire is connected across light bulb 2 as shown in the figure, light bulbs 1 and 3	تم توصيل ثلاثة مصابيح ضوئية على التوالي ببطارية تنتج فرق جهد ثابتا V_{emf}.عندما يتم توصيل سلك بالمصباح الكهربائي 2 كما هو مبين في الشكل، فإن المصباحين الكهربائيين 1و 3سوف



burn just as brightly as they did before the wire was connected	يضيئان بالسطوع نفسه كما كانا قبل توصيل السلك
burn more brightly than they did before the wire was connected	يضيئان بسطوع أكبر من سطوعهما قبل توصيل السلك
burn less brightly than they did before the wire was connected	يضيئان بسطوع أقل من سطوعهما قبل توصيل السلك
go out	ينطفئان.

10	
Which of the following is an incorrect statement?	أي العبارات التالية غير صحيحة؟

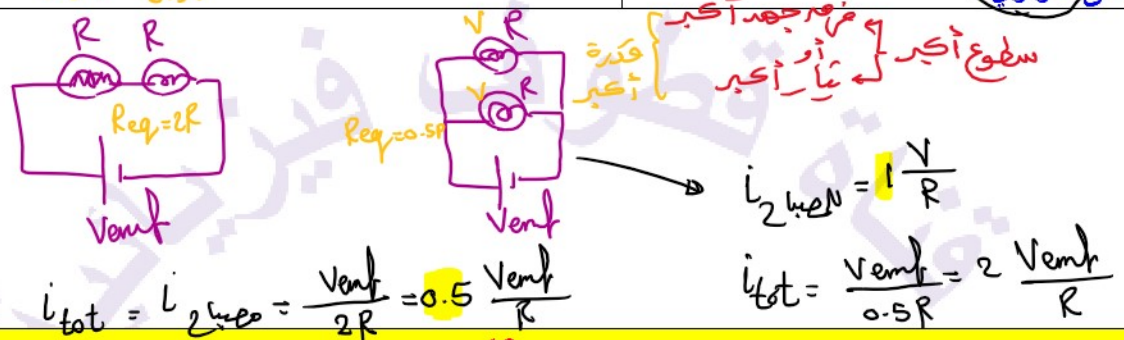
The currents through electronic devices connected in series are equal.	يكون التيار المتدفق عبر أجهزة إلكترونية متصلة على التوالي متساويا. ✓
The potential drops across electronic devices connected in parallel are equal.	يكون فرق الجهد المتدفق عبر أجهزة إلكترونية متصلة على التوازي متساويا. ✓
More current flows across the smaller resistance when two resistors are connected in parallel.	يتدفق المزيد من التيار عبر المقاومة الأصغر عند توصيل مقاومان على التوازي. ✓
More current flows across the smaller resistance when two resistors are connected in series	يتدفق المزيد من التيار عبر المقاومة الأصغر عند توصيل مقاومان على التوالي ✗ ✗

صح ✓ ثابت

11

Two identical light bulbs are connected to a battery. Will the light bulbs be brighter if they are connected in series or in parallel?

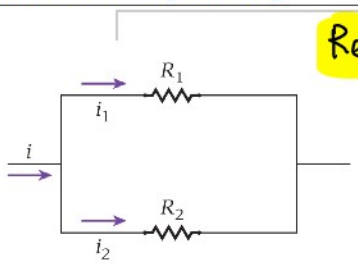
تم توصيل مصباحين ضوئيين متطابقين ببطارية ما. هل ستكون إضاءة المصباحين أكثر سطوعا إذا تم توصيلهما على التوالي أم على التوازي؟



12

For the connections shown in the figure, determine the current i_1 in terms of the total current i and R_1 and R_2

بالنسبة إلى التوصيلات المبينة في الشكل، حدد التيار i_1 بدلالة التيار الكلي i و R_1 و R_2



$$R_{eq} = \left(\frac{1}{R_1} + \frac{1}{R_2}\right)^{-1} = \left(\frac{R_2 + R_1}{R_1 R_2}\right)^{-1} = \frac{R_1 R_2}{R_1 + R_2}$$

توصيل على التوازي

$$\Delta V = \Delta V_1 = \Delta V_2$$

$$i\,R_{eq} = i_1 R_1 = i_2 R_2$$

$$i\frac{R_1 R_2}{R_1 + R_2} = i_1 R_1$$

$$i_1 = \frac{i\,R_2}{R_1 + R_2}$$

13

A wire of length L, diameter d, resistance R is made of material with resistivity ρ. If I take the wire and cut it into five equal pieces and then put those pieces in parallel to make one single thick wire L/5 in length, what will be its resistance?

سلك طوله L وقطره d ومقاومته R مصنوع من مادة ذات مقاومة ρ. إذا أخذت السلك وقطعته إلى خمس قطع متساوية ثم وضعت تلك القطع على التوازي لتكوين سلك واحد بنفس السمك يبلغ طوله L/5، فما هي مقاومته

R/5	R/25	R	5R



توازي

$$R_{eq} = \frac{R}{N} = \frac{R/5}{5}$$

$$R_{eq} = \frac{R}{25}$$

14

A multiclade wire consists of a zinc core of radius 1.00 mm surrounded by a copper sheath of thickness 1.00 mm. The resistivity of zinc is $\rho = 5.964 \times 10^{-8}$ Ω m. What is the resistance of a 10.0 m long strand of this wire?

سلك متعدد الطبقات يتكون من قلب من الخارصين نصف قطره 1.00 mm محاط بغمد نحاسي سمكه 1.00 mm تبلغ المقاومة النوعية للخارصين $\rho = 5.964 \times 10^{-8}\ \Omega\ m$ ما مقاومة جديلة من هذا السلك طولها 10.0 m؟

r=1mm

خارصين: L=10m, r=1mm, $\rho = 5.964 \times 10^{-8}\ \Omega.m$

نحاس: L=10m, r_1=1mm, r_2=2mm, $\rho = 1.72 \times 10^{-8}\ \Omega.m$

$R = \frac{\rho L}{A}$



$R_{خارصين} = \frac{5.964 \times 10^{-8} \times 10}{\pi (1 \times 10^{-3})^2} = 0.19\ \Omega$

$R_{نحاس} = \frac{1.72 \times 10^{-8} \times 10}{\pi (0.002^2 - 0.001^2)} = 0.018\ \Omega$

$R_{eq} = \left(\frac{1}{0.19} + \frac{1}{0.018}\right)^{-1} = 0.016\ \Omega$

15

تم توصيل مقاومان في دائرة كهربائية ببطارية على التوالي ثم على التوازي، وقيست قيم التيار والجهد الكهربائي للمقاومين والبطارية أكمل الجدولين التاليين

Two resistors were connected in an electrical circuit to a battery in series and then in parallel, and the current and voltage values of the resistors and the battery were measured. Complete the following two tables

Table 1 الجدول 1

العنصر Element	I (A)	ΔV(V)
R_1	0.5A	3.0V
R_2	0.5 A	1-5V
البطارية battery	0.5	4.5 V
طريقة التوصيل Connection type	توالي	

Table2 الجدول 2

العنصر Element	I (A)	ΔV(V)
R_1	0-75 A	4.5 V
R_2	0.5 A	4.5V
البطارية battery	2-25 A	4.5 V
طريقة التوصيل Connection type	توازي	

$i_1 = \frac{\Delta V_1}{R_1} = \frac{4.5}{6.0} = 0.75A$

$R_1 = \frac{\Delta V_1}{i} = \frac{3.0}{0.5} = 6.0\ \Omega$

$R_2 = \frac{\Delta V_2}{i} = \frac{1.5}{0.5} = 3\ \Omega$