وزارة التربية نموذج (١) إجابة اختبار تجريبي الفصل الثاني المادة : الرياضيات
الإدارة العامة لمنطقة حولي التعليمية الصف السادس الزمن : ساعتان
التوجيه الفني للرياضيات العام الدراسي :٢٠٢٥ ــ ٢٠٢٦ عدد الأوراق : ٦ أوراق

١٢

القسم الاول : أسئلة المقال

السؤال الأول: تراعى الحلول الأخرى لجميع أسئلة المقال

(أ) أوجد الناتج:

١) $^{-}٨ + ^{-}٦ = ^{-}(٨ + ٦) = ^{-}١٤$

٢) $^{-}٣ - ^{-}٧ = ^{-}٣ + (^{+}٧) = ^{+}(٧ - ٣) = ^{+}٤$

٣) $^{+}٩ \times ^{+}٤ = ^{+}٣٦$

٤) $^{-}٤٢ \div ^{+}٧ = ^{-}٦$

٤

(ب) اشترك صديقان في مشروع وقد بلغت تكلفة المشروع ٩٠٠ دينار، فدفع الأول ٥٠٠دينار ودفع الثاني الباقي من التكلفة، وفي نهاية العام، بلغ ربح المشروع ١٨٠٠ دينار. فما نصيب كل منهما من الربح؟

الحل : دفع الأول ٥٠٠ دينار ، دفع الثاني = ٩٠٠ ــ ٥٠٠ = ٤٠٠ دينار

النسبة بين الأول والثاني ٥٠٠ : ٤٠٠ ٥ : ٤ في أبسط صورة

مجموع الأجزاء = ٥ + ٤ = ٩ أجزاء

مقدار الجزء الواحد من الربح = ٢٠٠

نصيب الأول من الربح = ٥ × ٢٠٠ = ١٠٠٠ دينار $\frac{\cancel{١٨٠٠}}{\cancel{٩}\ ١} = ٢٠٠$

نصيب الثاني من الربح = ٤ × ٢٠٠ = ٨٠٠ دينار

٥

(جـ)

أوجد حجم الشكل التالي:

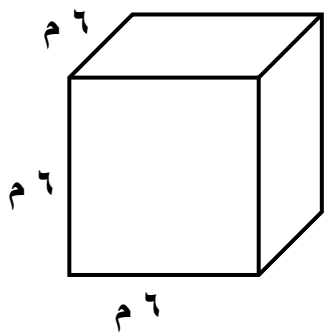

حجم المكعب = $ل^{٣}$

الحجم = ٦ × ٦ × ٦

الحجم = ٢١٦ $سم^{٣}$

٣

١٢

السؤال الثاني:

(أ) رتب الأعداد التالية ترتيبا تصاعديا:

$^{-}$٧ ، $^{-}$١١ ، $^{+}$٦ ، ٠

الترتيب التصاعدي : $^{-}$١١ ، $^{-}$٧ ، ٠ ، $^{+}$٦

٤

(ب) في الشكل المقابل:

△هـ وي ~ △ س ص ع ،

أوجد طول $\overline{\text{هـ ي}}$.

بما أن △هـ وي ~ △س ص ع ،

اذن الأضلاع المتناظرة متناسبة

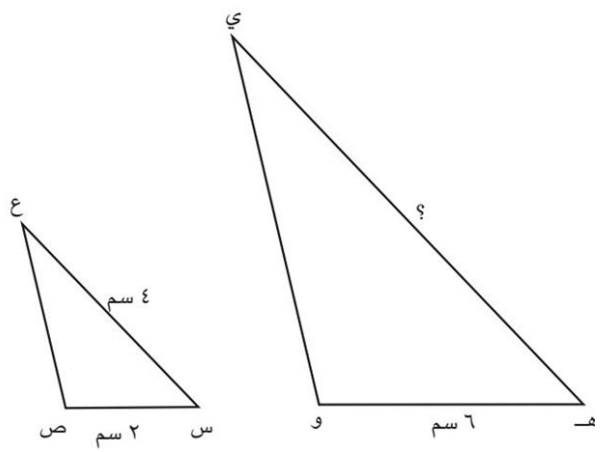

$\frac{\text{هـ و}}{\text{س ص}} = \frac{\text{هـ ي}}{\text{س ع}}$

$\frac{٦}{٢} = \frac{\text{هـ ي}}{٤}$

هـ ي = $\frac{٦ \times ٤}{٢}$ = ١٢ سم

٥

(جـ) أوجد محيط الشكل التالي:

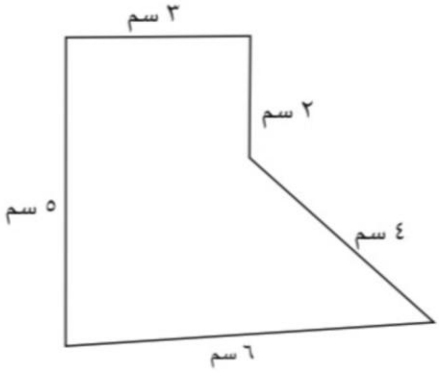

المحيط = مجموع أطوال أضلاع الشكل الخارجية

المحيط = ٣ + ٢ + ٤ + ٦ + ٥

المحيط = ٢٠ سم

٣

السؤال الثالث:

١٢

(أ) يجمع سالم بطاقات ألعاب إلكترونية. اشترى ٧ بطاقات جديدة، فأصبح عدد البطاقات التي معه ٢٩ بطاقة. اكتب معادلة لإيجاد عدد البطاقات التي كانت مع سالم في البداية، ثم حلها جبريا.

نفرض أن عدد البطاقات = س

المعادلة : س + ٧ = ٢٩

حل المعادلة س + ٧ – ٧ = ٢٩ – ٧

س = ٢٢

عدد البطاقات التي كانت مع سالم ٢٢ بطاقة

٣

(ب) أوجد المساحة الكلية للشكل التالي:

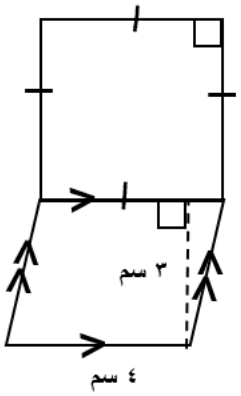

مساحة المنطقة المربعة = ل^{٢}

= ٤ × ٤ = ١٦ سم^{٢}

مساحة متوازي الأضلاع = ق × ع

= ٤ × ٣ = ١٢ سم^{٢}

المساحة الكلية للشكل = مساحة المنطقة المربعة + مساحة متوازي الأضلاع

= ١٦ + ١٢ = ٢٨ سم^{٢}

٥

(جـ) تجربة رمي حجر نرد مرة واحدة وملاحظة الوجه العلوي، أوجد احتمال:

١) ظهور عدد يقبل القسمة على ٣ $\frac{٢}{٦} = \frac{١}{٣}$

٢) ظهور العدد ٧ = ٠

٣) ظهور عدد من الأعداد المحصورة بين ٢ و ٦. $\frac{٣}{٦} = \frac{١}{٢}$

٤

السؤال الرابع:

١٢

(أ) حل المعادلة التالية ثم تحقق من صحة الإجابة:

$$\frac{-٨ ن}{-٨} = \frac{٤٨}{-٨}$$

ن = -٦

التحقق -٨ × -٦ = ٤٨ عبارة صحيحة

٣

(ب) أوجد المساحة الكلية لسطح شبه المكعب التالي:

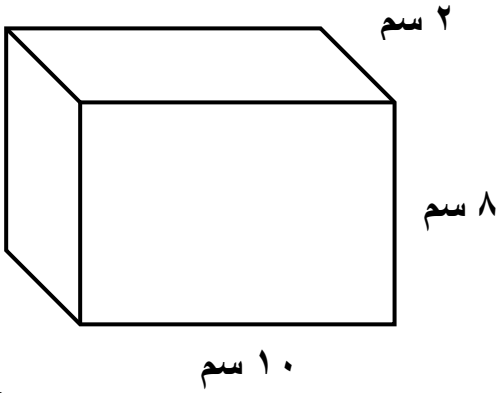

مساحة الوجه الأمامي = ١٠ × ٨ = ٨٠ سم^{٢}

مساحة الوجه العلوي = ١٠ × ٢ = ٢٠ سم^{٢}

مساحة الوجه الجانبي = ٨ × ٢ = ١٦ سم^{٢}

المساحة الكلية للسطح شبه المكعب =

= (٢ × ٨٠) + (٢ × ٢٠) + (٢ × ١٦)

= ١٦٠ + ٤٠ + ٣٢ = ٢٣٢ سم^{٢}

٤

(جـ) أوجد كلا مما يلي للبيانات التالية:

٢ ، ٣ ، ٥ ، ٢ ، ١، ٨ ، ٥ ، ٦

الترتيب: ١ ، ٢ ، ٢ ، ٣ ، ٥ ، ٥ ، ٦ ، ٨

المدى = أكبر قيمة - أصغر قيمة

= ٨ - ١ = ٧

المنوال= القيمة الأكثر تكرارا ٢ ، ٥

الوسيط= $\frac{٣ + ٥}{٢} = \frac{٨}{٢} = ٤$

المتوسط الحسابي= مجموع القيم على عددها ٣٢ ÷ ٨ = ٤

٥

١٢

القسم الثاني : البنود موضوعية

أولاً: في البنود من (١) إلى (٤) عبارات ظلل (أ) إذا كانت العبارة صحيحة ،
ظلل (ب) إذا كانت العبارة خاطئة

(١)	المعكوس الجمعي للعدد $^{+}١٢$ هو $^{-}١٢$	(أ)	(ب)
(٢)	٢٨ سم = ٢٨٠ مم	(أ)	(ب)
(٣)	$\lvert {}^{-}٨ \rvert = \lvert {}^{+}٨ \rvert$	(أ)	(ب)
(٤)	الرياضة المفضلة التي يتساوى فيها عدد المتعلمين في الصفين السادس والسابع هي كرة السلة 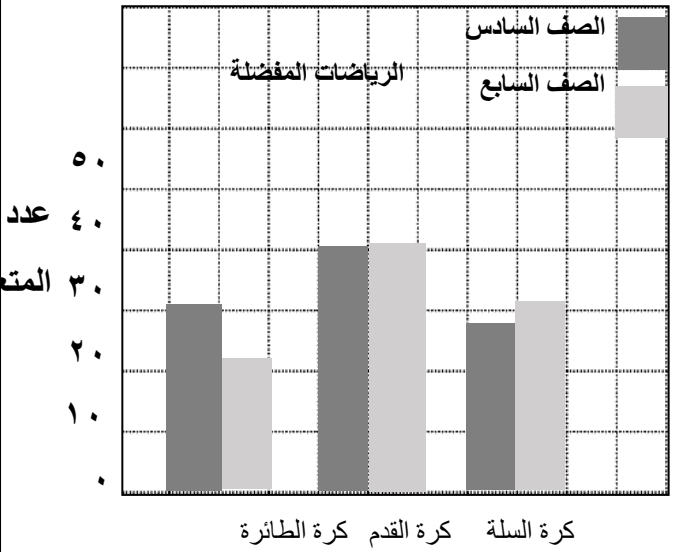	(أ)	(ب)

ثانيا: في البنود من (٥) إلى (١٢) لكل بند أربعة اختيارات واحد فقط منها صحيح.
ظلل الرمز الدال على الاختيار الصحيح .

(٥) إذا كان المتوسط الحسابي لأربع قيم هو ٢٠ ، فإن مجموع هذه القيم هو :

(أ) ٨٠ (ب) ٢٤ (جـ) ١٦ (د) ٥

(٦) التعبير الجبري لـ (عدد مطروحا منه ٢) هو :

(أ) س ÷ ٢ (ب) ٢س (جـ) ٢ – س (د) س - ٢

(٧) قيمة المتغير (ن) في التناسب $\frac{٢}{ن} = \frac{٧}{٢١}$ هي

أ) ٤٢ ب) ٦ ج) ٢١ د) ٣١

(٨) مربع العدد ٩ يساوي :

أ) ٩ ب) ١٨ ج) ٢٧ د) ٨١

(٩) توفيت سيدة عن زوج وولد وبنت ، وتركت ميراثا قدره ٣٦٠٠٠ دينار ، فإن نصيب الزوج من التركة يساوي : (علما بأن للزوج $\frac{١}{٤}$ التركة)

أ) ١٨٠٠٠ دينار ب) ٩٠٠٠ دينار ج) **٤٥٠٠ دينار** د) **٩٠٠ دينار**

(١٠) ناتج $\sqrt{٣٦}$ + ٤ يساوي :

أ) ٦ ب) ٨ ج) ١٠ د) ٤٠

(١١) في الشكل المقابل مساحة المنطقة المثلثة تساوي :

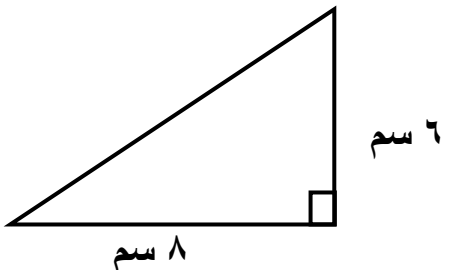

أ) ١٤ سم^{٢} ب) ٢٤ سم^{٢} ج) ٤٠ سم^{٢} د) ٤٨سم^{٢}

(١٢) $^{-}٨ \times {}^{-}٤ =$

أ) $^{-}٣٢$ ب) $^{-}٢$ ج) ٢ د) ٣٢

((انتهت الأسئلة))

وزارة التربية — نموذج اجابة اختبار تجريبي ٢ (الفصل الدراسي الثاني) — العام الدراسي :٢٠٢٥ / ٢٠٢٦ م

الإدارة العامة لمنطقة حولي التعليمية — للصف السادس — الزمن : ساعتان

التوجيه الفني للرياضيات — المجال الدراسي : الرياضيات — الاختبار في ٧ ورقات

السؤال الأول :

١٢

أ لمجموعة البيانات التالية :

٢ ، ٣ ، ٥ ، ٢ ، ١ ، ٨ ، ٥ ، ٦

أكمل

الترتيب ١ ، ٢ ، ٢ ، ٣ ، ٥ ، ٥ ، ٦ ، ٨

الوسيط = (٣+٥) ÷ ٢ = ٨÷٢= ٤

المنوال هو ٢ ، ٥

٤

المتوسط الحسابي = $\frac{١+٢+٢+٣+٥+٥+٦+٨}{٨} = \frac{٣٢}{٨} = ٤$

ب اوجد ناتج كل مما يلي :

١) $^{-}٨ - (^{-}٦) = ^{-}٨ + (^{+}٦) = ^{-}٢$

٢) $^{+}٢ + (^{-}٨) = ^{-}٦$

٣) $^{+}٧ \times (^{-}٨) = ^{-}٥٦$

٤) $^{-}٦٣ \div (^{-}٩) = ^{+}٧$

٥

ج أوجد حجم شبه المكعب الموضح بالشكل

حجم شبة المكعب = ل × ض× ع

= ٤ × ١٠× ٦

= ٢٤٠ سم^{٣}

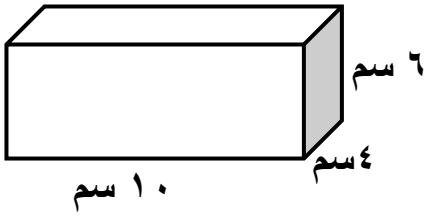

٣

السؤال الثاني :

١٢

أ) قسم العدد ١٥٠ إلي عددين النسبة بينهما ٤ : ١

النسبة = ٤ : ١

مجموع الاجزاء = ٤+١ = ٥ اجزاء

مقدار الجزء الواحد = $\frac{١٥٠}{٥}$ = ٣٠

العدد الاول = ٤×٣٠ = ١٢٠

العدد الثانى = ١× ٣٠ = ٣٠

٤

ب) حل التناسب :

$$\frac{٦}{١٢} = \frac{١٥}{ل}$$

٦ × ل = ١٢ × ١٥

$$\frac{٦ \times ل}{٦} = \frac{١٢ \times ١٥}{٦}$$

ل = ١٥ × ٢

ل = ٣٠

٤

جـ) أوجد حل المعادلة التالية

س – ($^{-}$٢) = $^{+}$١٠

س – ($^{-}$٢) + ($^{-}$٢) = $^{+}$١٠ + ($^{-}$٢)

س = $^{+}$١٠ + ($^{-}$٢)

س = $^{+}$٨

٤

السؤال الثالث:-

١٢

أ) في تجربة رمي حجر نرد مرة واحدة وملاحظه الوجة العلوي أوجد احتمال

١) ظهور عدد يقبل القسمة علي ٣ = $\frac{٢}{٦}$ = $\frac{١}{٣}$

٢) ظهور العدد ٧ = $\frac{٠}{٦}$ = ٠

٣) ظهور عدد من الاعداد المحصورة بين ٢ و ٦ = $\frac{٣}{٦}$ = $\frac{١}{٢}$

٤) ظهور عدد زوجي = $\frac{٣}{٦}$ = $\frac{١}{٢}$

٤

ب)

طابعة تطبع ٦ اوراق في الدقيقة ، فكم عدد الاوراق التي تطبعها الطابعة في نصف ساعة ؟

$\frac{\text{٦ اوراق}}{\text{١ دقيقة}}$ = $\frac{\text{س ورقة}}{\text{٣٠ دقيقة}}$

١ × س = ٦ × ٣٠

س = ١٨٠

فان عدد الاوراق التي تطبعها الطابعة في نصف ساعه = ١٨٠ ورقة

٣

جـ) أوجد مساحه الشكل التالي

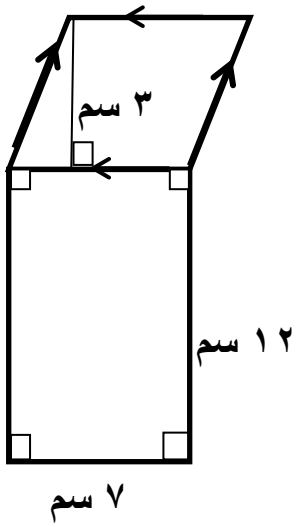

مساحة متوازي الاضلاع = ق × ع

= ٣ × ٧ = ٢١ سم^{٢}

مساحة المستطيل = ل × ض

= ١٢ × ٧ = ٨٤ سم^{٢}

المساحة الكلية للشكل = مساحة المستطيل + مساحة متوازي الاضلاع

= ٢١ + ٨٤ = ١٠٥ سم^{٢}

٥

السؤال الرابع:

١٢

أ) رتب الأعداد -٣ ، -٦ ، +٤ ، +١ ترتيباً تصاعدياً

الترتيب هو

-٦ ، -٣ ، +١ ، +٤

٤

ب) حل المعادلة ثم تحقق من صحة الأجابة :

ص ÷ ١٠ = ٢

$\frac{ص}{١٠} = ٢$

$\frac{ص}{١٠} \times ١٠ = ٢ \times ١٠$

ص = ٢٠

٤

التحقق ٢٠÷ ١٠ = ٢

جـ)

يبلغ البعد بين مدينتين في الحقيقة ٦٦ كم ، إذا كان مقياس الرسم علي الخريطة ١ سم : ١٠ كم فما البعد بين المدينتين علي الخريطة ؟

مقياس الرسم = $\frac{\text{الطول في الرسم}}{\text{الطول في الحقيقة}}$

$\frac{١ \text{ سم}}{١٠ \text{ كم}} = \frac{\text{س سم}}{٦٦ \text{ كم}}$

١٠× س = ١ × ٦٦

س= $\frac{٦٦}{١٠}$ = ٦,٦ سم

٤

فان البعد بين المدينتين علي الخريطة = ٦,٦ سم

السؤال الخامس : (السؤال الموضوعي)

أولاً : في البنود(١-٤) ظلل (أ) إذا كانت العبارة صحيحة ، وظلل (ب) إذا كانت العبارة خاطئة فيما يلي:

١	اذا كان مجموع خمس قيم هو ٤٥ فان متوسطها الحسابي = ٨	(أ)	ب
٢	٢٨ سم = ٢٨٠ مم	أ	(ب)
٣	النسبة ٢ إلي ٣ تكافئ النسبة ٤ إلي ٩	(أ)	ب
٤	$^{-}١٢ > {}^{-}٨$	(أ)	ب

ثانياً في البنود من(٥-١٠) لكل بند اربع اختيارات إحداها فقط صحيحة ظلل الدائرة الدالة على الاختيار الصحيحة :-

٥	التعبير الجبري ل (عدد مطروحا منة ٢) هو : (أ) س ÷ ٢ (ب) ٢س (جـ) ٢ – س د س – ٢
٦	ما احتمال اختيار حرف عشوائياً من حروف كلمة (كويت) أ $\frac{١}{٤}$ (ب) $\frac{٣}{٤}$ (جـ) $\frac{١}{٢}$ (د) $\frac{١}{٣}$
٧	مربع العدد ٩ يساوي : (أ) ٩ (ب) ١٨ (جـ) ٢٧ د ٨١
٨	٣,٨ طن تساوي : (أ) ٣٨ كجم (ب) ٣٨٠ كجم جـ ٣٨٠٠ كجم (د) ٠,٠٠٣٨ كجم

٩	توفيت سيدة عن زوج وولد وبنت ، وتركت ميراثاً قدرة ٣٦٠٠٠ دينار ، فإن نصيب الزوج من التركة يساوي (علما بأن للزوج $\frac{١}{٤}$ التركة) أ ١٨٠٠٠ دينار ب ٩٠٠٠ دينار ج ٤٥٠٠ دينار د ٩٠٠ دينار
١٠	إذا كان سعر ٨ العاب من النوع نفسة يساوي ١٦,٨٠٠ دينار ،فان سعر اللعبة الواحدة يساوي: أ ١,٢٠٠ دينار ب ٢,١٠٠ دينار ج ١,١٠٠ دينار د ٢,٢٠٠ دينار
١١	منطقة مربعة مساحتها ١٠٠ م^{٢} فان طول ضلعها يساوي: أ ١٠٠٠٠ م ب ١٠٠ م ج ٥٠ م د ١٠ م
١٢	المدي لمجموعه البيانات الاتية ١٢ ، ١٩ ، ٢٥ ، ٣٤ أ ٤٨ ب ٢٢ ج ٤٦ د ٢٠

$\frac{\quad}{١٢}$

وزارة التربية — **نموذج إجابة اختبار تجريبي الفترة الدراسية الثانية** — العام الدراسي : ٢٠٢٥/٢٠٢٦

الإدارة العامة منطقة حولي التعليمية — **نموذج ٣** — الصف : السادس

التوجيه الفني للرياضيات — الزمن : ساعتان وربع

السؤال الأول : (١٢)

(أ) حل المعادلة الآتية : س ـ ($^{+}$٣) = $^{-}$١١

الحل :

س ـ ($^{+}$٣) + ($^{+}$٣) = $^{-}$١١ + ($^{+}$٣)

س = $^{-}$٨

(٤)

(ب) استخدم البيانات الواردة في الجدول التالي لتصنـــع تمثيلاً بيانياً بالأعمدة المزدوجة :

قراءة القران الكريم بالدقائق		
الوقت / الاســم	قبل الظهر	بعد الظهر
يوسف	٢٠	١٠
فهد	٣٠	٦
سالم	١٥	٢٠
علي	٣٠	٤٠

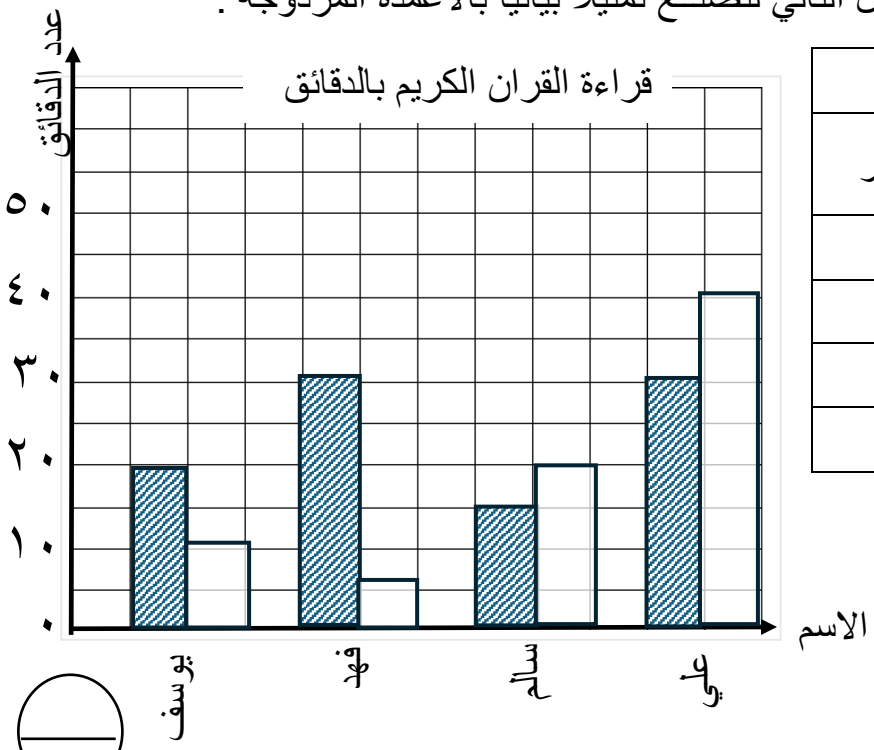

(٥)

(ج) أوجد حجم شبه المكعب المقابل :

الحجم = ل × ض × ع

= ٨ × ٣ × ٥

= ١٢٠ م^{٣}

(٣)

١٢

السؤال الثاني :

(أ) تُوفي رجل تاركاً أماً وولد وبنتين ، وبلغت تركته ٢٤٠٠٠ دينار، وتم توزيع الميراث كما يلي : $\frac{١}{٦}$ التركة للأم ، والباقي للأبناء ، أوجد نصيب كلاً من الورثة علماً بأن نصيب الولد ضعف نصيب البنت .

الحل : نصيب الأم = $\frac{١}{٦}$ × ٢٤٠٠٠ = ٤٠٠٠ دينار

الباقي من الميراث = ٢٤٠٠٠ ـ ٤٠٠٠ = ٢٠٠٠٠ دينار

ولد : بنت : بنت

٢ : ١ : ١

مجموع الأجزاء = ٢+١+١=٤

مقدار الجزء الواحد = ٢٠٠٠٠÷٤ = ٥٠٠٠ دينار

نصيب الولد = ٢× ٥٠٠٠ =١٠٠٠٠ دينار

نصيب كل بنت = ١ ×٥٠٠٠ = ٥٠٠٠ دينار

٥

(ب) أوجد ناتج كلاً مما يلي :

(١) $^{+}$٧ × ($^{-}$٨) = $^{-}$٥٦

(٢) $^{-}$٦٣ ÷ ($^{-}$٩) = $^{+}$٧

(٣) $^{-}$٣ ـ ($^{-}$٧) = $^{-}$٣ + ($^{+}$٧) = $^{+}$٤

(٤) $^{-}$٨ + ($^{-}$٦) = $^{-}$١٤

٤

(ج) أوجد مساحة الشكل المقابل :

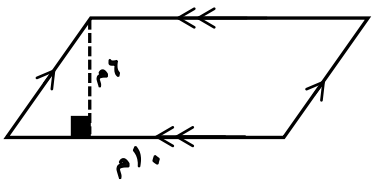

مساحة متوازي الأضلاع = ق × ع

= ١٠ ×٦

= ٦٠ م^{٢}

٣

١٢

السؤال الثالث :

(أ) رتب الأعداد التالية ترتيباً تصاعدياً .

$^{+}$٢١ ، $^{-}$٨ ، $^{+}$٣ ، $^{+}$٧ ، $^{-}$٣

الحل : الترتيب التصاعدي :

$^{-}$٨ ، $^{-}$٣ ، $^{+}$٣ ، $^{+}$٧ ، $^{+}$٢١

٣

(ب) في تجربة سحب بطاقة واحدة عشوائياً من ١٠ بطاقات مرقمة من ١ الى ١٠ ،والنظر إلى العدد المكتوب عليها .

أوجد كلاً مما يلي :

(١) ل (سحب بطاقة تحمل العدد ٧) = $\frac{١}{١٠}$

(٢) ل (سحب بطاقة تحمل عدد أصغر من ٥) = $\frac{٤}{١٠}$ = $\frac{٢}{٥}$

(٣) ل (سحب بطاقة تحمل عدداً فرديا) = $\frac{٥}{١٠}$ = $\frac{١}{٢}$

(٤) ل (سحب بطاقة تحمل أحد مضاعفات العدد ٤) = $\frac{٢}{١٠}$ = $\frac{١}{٥}$

(٥) ل (سحب بطاقة تحمل عدداً أولياً) = $\frac{٤}{١٠}$ = $\frac{٢}{٥}$

٥

(ج) أوجد المساحة الكلية لسطح المكعب في الشكل المقابل :

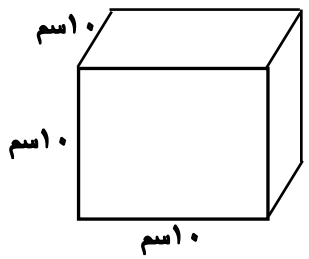

مساحة الوجه الواحد = ل^{٢} = (١٠)^{٢} = ١٠٠ سم^{٢}

المساحة الكلية لسطح المكعب = ٦ × مساحة الوجه الواحد

= ٦ × ١٠٠ =٦٠٠سم^{٢}

٤

١٢

السؤال الرابع :

(أ) حل المعادلة التالية :

ص ÷ (- ٢) = - ٤

الحل :

$\frac{ص}{-٢}$ = - ٤

-٢ × $\frac{ص}{-٢}$ = -٢ × -٤

ص = ٨

٣

(ب) حل التناسب (موضحاً خطوات الحل)

$\frac{ص}{١٢}$ = $\frac{٥}{٣}$

الحل : ٣ × ص = ٥ × ١٢

$\frac{٣ \times ص}{٣}$ = $\frac{٥ \times ١٢}{٣}$

ص = ٥× ٤

ص = ٢٠

٥

(ج) أوجد المساحة الكلية للشكل المقابل :

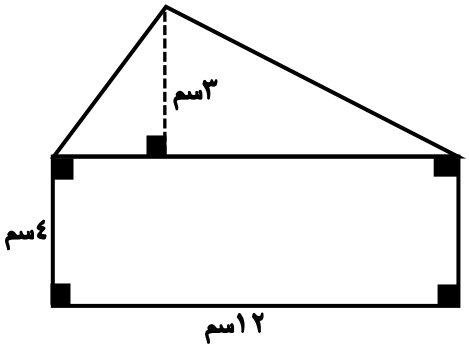

مساحة المنطقة المثلثة = $\frac{١}{٢}$ × ق × ع

= $\frac{١}{٢}$ × ١٢ ×٣

= ١٨ سم^{٢}

مساحة المنطقة المستطيلة = ل × ض = ١٢ × ٤ = ٤٨ سم^{٢}

المساحة الكلية للشكل = ٤٨ + ١٨ = ٦٦ سم^{٢}

٤

السؤال الخامس :

أولاً : البنود (١ ـ ٤)

ظلل (أ) اذا كانت العبارة صحيحة و ظلل (ب) اذا كانت العبارة غير صحيحة :

١	$\sqrt{٢٥٠٠}$ = ٥٠	●	(ب)
٢	٢٨ سم = ٢٨٠ مم	●	(ب)
٣	النسبة ٢ الى ٣ تكافئ النسبة ٤ الى ٩	(أ)	●
٤	| ـ ٩ | = ٩	●	(ب)

ثانياً: البنود (٥ ـ ١٢)

لكل بند أربع اختيارات ظلل في الورقة المخصصة للإجابة دائرة الاختيار الصحيح فقط :

٥	قيمة ص التي تحقق المعادلة ٤ × ص = - ١٢			
	(أ) -٤٨	● -٣	(ج) ٣	(د) ٤٨
٦	مربع العدد ٩ يساوي			
	(أ) ٩	(ب) ١٨	(ج) ٢٧	● ٨١
٧	التعبير الجبري لـ (عدد مطروح منه ٢) هو			
	(أ) س ÷ ٢	(ب)٢س	(ج)٢ ـ س	● س ـ ٢
٨	الوسيط لمجموعة البيانات التالية ١١ ، ٩ ، ٨ ، ٦ ، ١٠ هو			
	(أ) ٦	(ب) ٨	● ٩	(د) ١٠

تابع البنود (٥ ـ ١٢)

لكل بند أربع اختيارات ، ظلل في الورقة المخصصة للإجابة دائرة الاختيار الصحيح فقط :

٩	٣,٨ طن تساوي (أ) ٣٨ كجم (ب) ٣٨٠ كجم ● ٣٨٠٠ كجم (د) ٠,٠٠٣٨كجم
١٠	اذا كان المتوسط الحسابي لأربع قيم هو ٢٠ فان مجموع هذه القيم هو ● ٨٠ (ب) ٢٤ (ج) ١٦ (د) ٩٠
١١	منطقة مربعة مساحتها ١٠٠ م^{٢} فان طول ضلعها يساوي (أ) ١٠٠٠٠م (ب)١٠٠ م (ج) ٥٠ م ● ١٠ م
١٢	اذا كان سعر ٨ ألعاب من النوع نفسه يساوي ١٦,٨٠٠ دينار ، فان سعر اللعبة الواحدة يساوي (أ) ١,٢٠٠ دينار ● ٢,١٠٠ دينار (ج) ١,١٠٠ دينار (د) ٢,٢٠٠دينار

السؤال الخامس :

١	أ	ب		
٢	أ	ب		
٣	أ	ب		
٤	أ	ب		
٥	أ	ب	ج	د
٦	أ	ب	ج	د
٧	أ	ب	ج	د
٨	أ	ب	ج	د
٩	أ	ب	ج	د
١٠	أ	ب	ج	د
١١	أ	ب	ج	د
١٢	أ	ب	ج	د

١٢