مدرستي معكم
خطوة بخطوة
للنجاح والتفوق

مدرستي
الكويتية
حمل التطبيق

اضغط هنا

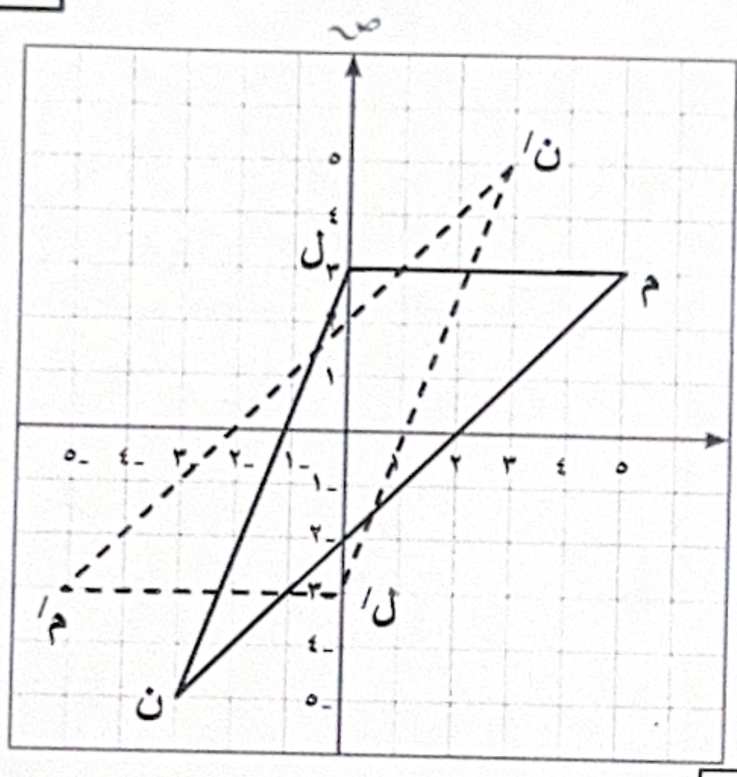
وزارة التربية الإدارة العامة للتعليم الخاص التوجيه الفني للرياضيات	نموذج إجابة امتحان الفترة الدراسية الثانية لمادة الرياضيات – الصف الثامن	العام الدراسي : ٢٠٢٤ / ٢٠٢٥ الزمـــن : ساعتان عدد الأوراق : (٦)

تراعى الحلول الأخرى لجميع الأسئلة المقالية

١٢

السؤال الأول :

(أ) إذا كان المثلث ل/ م/ ن/ هو صورة المثلث ل م ن بالانعكاس في نقطة الأصل (و) ، وكانت ل(٠ ، ٣) ، م(٥ ، ٣) ، ن(-٣ ، -٥) فعيِّن احداثيات الرؤوس ل/ ، م/ ، ن/ ، ثم ارسم المثلثين في مستوى الاحداثيات

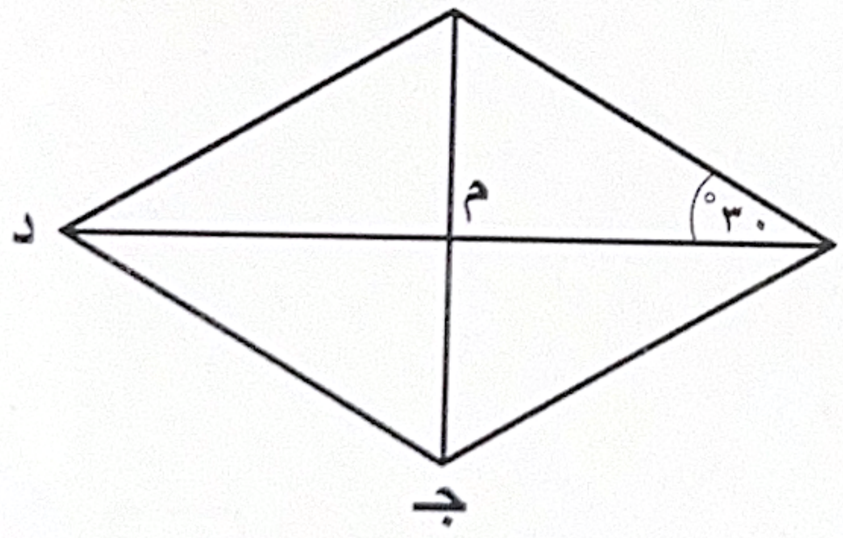


رسم المثلثين مع التوصيل ٢ درجة

٥

ل (٠ ، ٣) $\xleftarrow{\text{ع و}}$ ل/ (٠ ، -٣)	١
م (٥ ، ٣) $\xleftarrow{\text{ع و}}$ م/ (-٥ ، -٣)	١
ن (-٣ ، -٥) $\xleftarrow{\text{ع و}}$ ن/ (٣ ، ٥)	١

(ب) في الشكل المقابل أ ب جـ د معين ، أوجد مع ذكر السبب :



- ق (أ $\hat{ب}$ جـ) = ٦٠°

السبب : قطرا المعين ينصف زاويتي الرأس الواصل بينهما ½ ½

- ق (أ $\hat{د}$ جـ) = ٦٠°

السبب : كل زاويتان متقابلتان متطابقتان ½ ½

- ق (د $\hat{جـ}$ ب) = ١٨٠° - ٦٠° = ١٢٠° ½

السبب : كل زاويتان متتاليتان متكاملتان مجموعهما ١٨٠° ½

٣

وزارة التربية
الادارة العامة للتعليم الخاص
نموذج الاجابة

(جـ) أوجد مجموعة حل المعادلة ٤س^{٢} – ٥س = ٠ ، حيث س ∈ ص

س (٤ س – ٥) = ٠ ½

إما س = ٠ أو ٤ س – ٥ = ٠ ½ + ½

س = ٠ ∈ ص أو ٤ س = ٥ ½ + ½

أو س = $\frac{٥}{٤}$ ∉ ص ½

مجموعة الحل = { ٠ } ١

٤

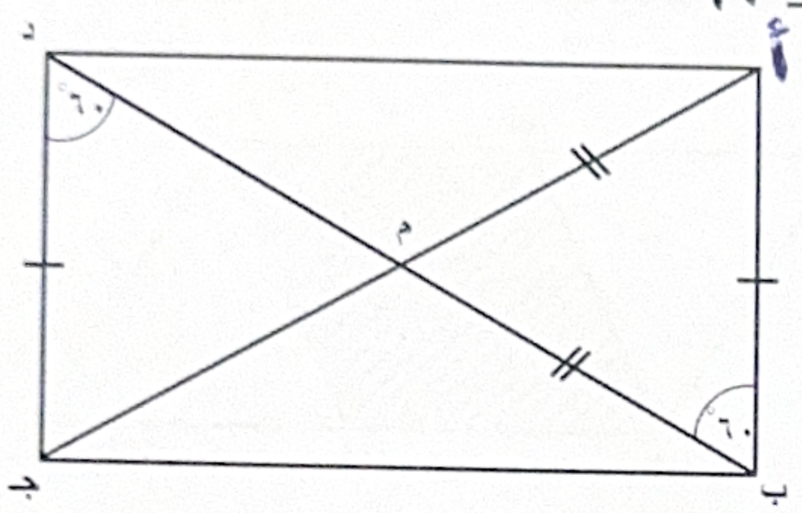
مدرستي الكويتية school-kw.com

١٢

السؤال الثاني :

(أ) أ ب جـ د شكل رباعي يتقاطع قطراه في م

أ ب = د جـ ، م ب = م أ ، ق (أ $\hat{B}$ د) = ق (جـ $\hat{D}$ ب) = ٦٠°



أثبت أنَّ : أ ب جـ د مستطيل

∵ ق (أ $\hat{B}$ د) = ق (جـ $\hat{D}$ ب) = ٦٠° (وهما في وضع تبادل)	١
∴ $\overline{أب}$ // $\overline{دجـ}$ (١)	½
∵ أ ب = د جـ (٢) (معطى)	½
∴ من (١) ، (٢) الشكل أ ب جـ د متوازي اضلاع (فيه ضلعان متقابلان متوازيان ومتطابقان)	١
∵ م ب = م أ (معطى)	½
∴ ب د = جـ أ (في متوازي الاضلاع القطران ينصف كل منهما الآخر)	½
∴ الشكل أ ب جـ د مستطيل (لأنه متوازي اضلاع قطراه متطابقان)	١

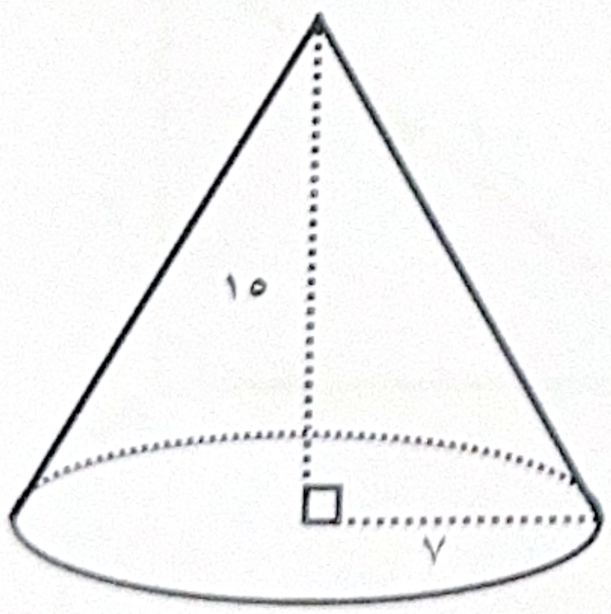
٥

(ب) أوجد ناتج قسمة : (١٥ س^{٢} ص^{٣} − ١٢ س^{٣} ص + ٩ س^{٤} ص^{٤}) على (٣ س^{٢} ص)

$\frac{١٥ س^{٢} ص^{٣} - ١٢ س^{٣} ص + ٩ س^{٤} ص^{٤}}{٣ س^{٢} ص}$	١
$= \frac{١٥ س^{٢} ص^{٣}}{٣ س^{٢} ص} - \frac{١٢ س^{٣} ص}{٣ س^{٢} ص} + \frac{٩ س^{٤} ص^{٤}}{٣ س^{٢} ص}$	١½
= ٥ ص^{٢} − ٤ س + ٣ س^{٢} ص^{٣}	١½

٤

(جـ) أوجد حجم المخروط المبيَّن في الشكل المجاور (اعتبر $\pi = \frac{٢٢}{٧}$)



حجم المخروط = $\frac{١}{٣} \times \pi$ نق^{٢} × ع	١
$= \frac{١}{٣} \times \frac{٢٢}{٧} \times ٧ \times ٧ \times ١٥$	١
= ٧٧٠ وحدة مكعبة	١

٣

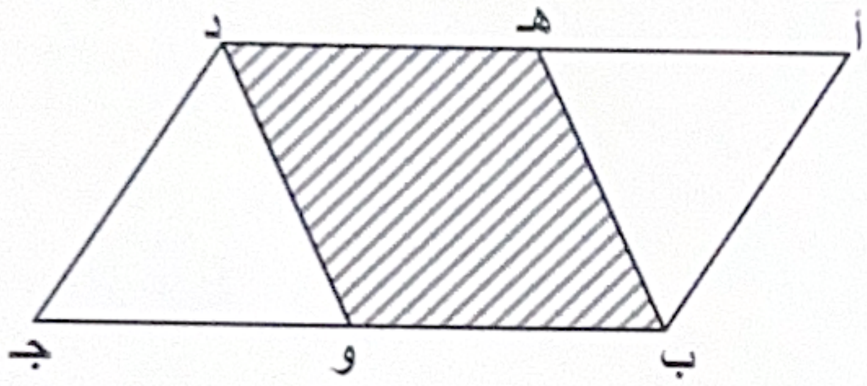
وزارة التربية
الإدارة العامة للتعليم الخاص
نموذج الاجابة

مدرستي الكويتية school-kw.com

السؤال الثالث :

١٢

(أ) إذا كان أ ب جـ د متوازي أضلاع فيه هـ منتصف $\overline{أ د}$ ، و منتصف $\overline{ب جـ}$
برهن أن الشكل الرباعي هـ ب و د متوازي أضلاع



∵ أ ب جـ د متوازي أضلاع — $\frac{1}{2}$
∴ أ د = ب جـ (من خواص متوازي أضلاع) — $\frac{1}{2}$
∴ $\frac{1}{2}$ أ د = $\frac{1}{2}$ ب جـ (من خواص المساواة) — $\frac{1}{2}$

∵ هـ منتصف $\overline{أ د}$ ، و منتصف $\overline{ب جـ}$ — $\frac{1}{2}$
∴ هـ د = ب و (١) — $\frac{1}{2}$

∵ $\overline{أ د}$ // $\overline{ب جـ}$ (من خواص متوازي أضلاع) — $\frac{1}{2}$

∵ هـ ∈ $\overline{أ د}$ ، و ∈ $\overline{ب جـ}$ — $\frac{1}{2}$

∴ $\overline{هـ د}$ // $\overline{ب و}$ (٢) — $\frac{1}{2}$

∴ من (١) ، (٢) ينتج أن الشكل هـ ب و د متوازي أضلاع — ١
(لأنه شكل رباعي فيه ضلعان متقابلان متطابقان ومتوازيان)

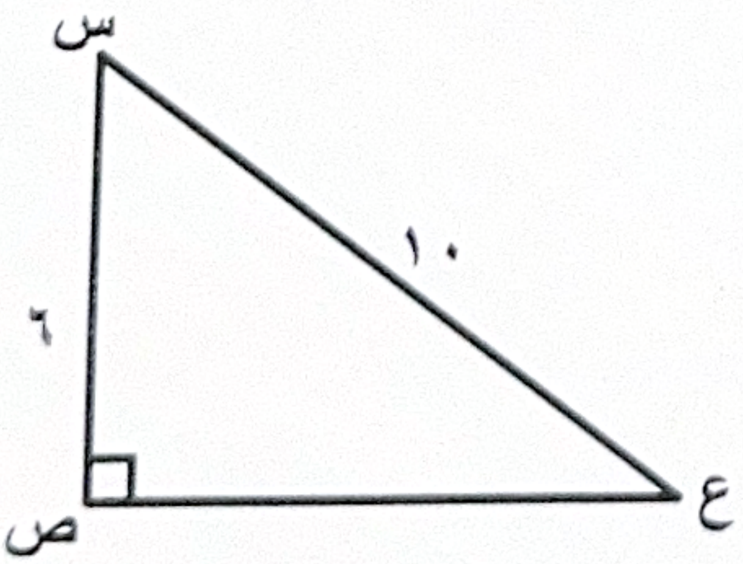
٥

(ب) حل المتباينة : ٢ ص + ٤ ≥ ٢٠ ، حيث ص ∈ ح

٢ ص + ٤ − ٤ ≥ ٢٠ − ٤ — $\frac{1}{2}$
٢ ص ≥ ١٦ — $\frac{1}{2}$
$\frac{٢ ص}{٢} \geq \frac{١٦}{٢}$ — $\frac{1}{2}$
ص ≥ ٨ — $\frac{1}{2}$
∴ حل المتباينة هو مجموعة الاعداد النسبية الأصغر من أو تساوي ٨ — ١

٣

(جـ) س ص ع مثلث قائم الزاوية في ص فيه:



س ص = ٦ وحدة طول ، س ع = ١٠ وحدة طول

أوجد ص ع

∵ △ س ص ع قائم الزاوية في ص
∴ (س ع)^{٢} = (س ص)^{٢} + (ص ع)^{٢} — ١
(١٠)^{٢} = (٦)^{٢} + (ص ع)^{٢} — $\frac{1}{2}$
(ص ع)^{٢} = (١٠)^{٢} - (٦)^{٢} — ١
(ص ع)^{٢} = ١٠٠ - ٣٦ = ٦٤ — $\frac{1}{2}$
∴ ص ع = $\sqrt{٦٤}$ = ٨ وحدة طول — ١

٤

مدرستي الكويتية school-kw.com

السؤال الرابع :

١٢

(أ) من (٤ هـ م^{٢} + ٣ هـ^{٣} م + ٧) اطرح (هـ^{٣} م + هـ م^{٢} + ٧)

المطروح هـ^{٣} م + هـ م^{٢} + ٧

المعكوس الجمعي للمطروح (- هـ^{٣} م - هـ م^{٢} - ٧)

٣ هـ^{٣} م + ٤ هـ م^{٢} + ٧	١ ½
- هـ^{٣} م - هـ م^{٢} - ٧	١ ½
٢ هـ^{٣} م + ٣ هـ م^{٢}	١

٤

(ب) حلل المقدار : ص^{٢} (ص + ١) – ٤ (ص + ١) تحليلاً تاماً :

ص^{٢} (ص + ١) – ٤ (ص + ١)	
= (ص + ١) (ص^{٢} – ٤)	١ ½
= (ص + ١) (ص – ٢) (ص + ٢)	½ + ½ + ½

وزارة التربية
الإدارة العامة للتعليم الخاص
نموذج الإجابة

٣

(ج) في تجربة لإلقاء حجر نرد مرة واحدة ، وملاحظة العدد الظاهر على وجهه

أوجد احتمال كل من الاحداث التالية :

• ظهور عدد زوجي	=	٣/٦ = ½ ١
• ظهور عدد أولي	=	٣/٦ = ½ ١
• ظهور عدد أكبر من ٧	=	صفر ١
• ظهور عدد أصغر من ٦	=	٥/٦ ١
• ظهور العدد ٤	=	١/٦ ١

٥

مدرستي الكويتية
school-kw.com

السؤال الخامس :

١٢

أولا" : في البنود (١ – ٤) ظلل (أ) إذا كانت العبارة صحيحة ،

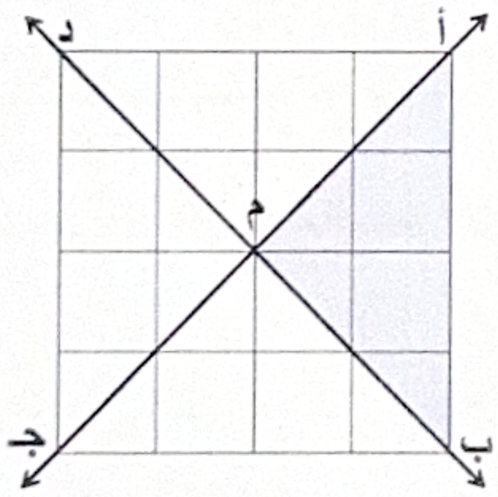
وظلل (ب) إذا كانت العبارة غير صحيحة :

		(أ)	(ب)
١	المربع هو معين إحدى زواياه قائمة	●	
٢	ناتج $\left(\frac{س^{٥}}{٢ س^{٥}}\right)^{٠}$ = ١ ، حيث س ≠ ٠		●
٣	العامل المشترك الأكبر (ع . م . أ) بين ٦س^{٢}ص ، ٢س^{٣}ص^{٢} هو ٦س^{٣}ص^{٢}	●	
٤	$ق_{٢}^{٥}$ = $ق_{٣}^{٥}$		●

ثانيا" : في البنود (٥ – ١٢) لكل بند أربعة اختيارات إحداها فقط صحيحة ، ظلل دائرة الرمز الدال على الإجابة الصحيحة :

٥) في الشكل المقابل : صورة △ أ م ب

تحت تأثير د (م ، ٢٧٠°) هي :



(أ) △ د م جـ (ب) △ ب م جـ

(جـ) △ د م أ (د) △ أ ب د

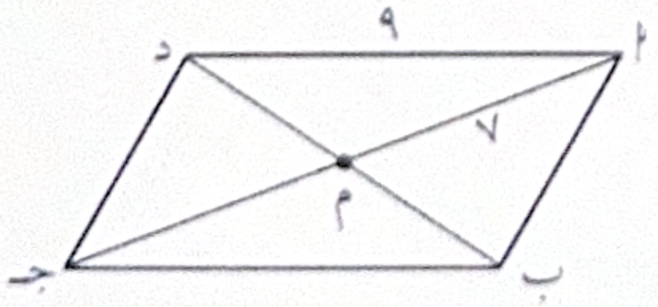
٦) صورة النقطة هـ (-٤ ، -١) باستخدام قاعدة الإزاحة

(س، ص) ⟵ (س + ٥ ، ص - ٤) هي :

(أ) هـ َ (١ ، ٣) (ب) هـ َ (١ ، -٥)

(جـ) هـ َ (٩ ، -٥) (د) هـ َ (٩ ، ٥)

٧) في متوازي الأضلاع المرسوم أجـ =



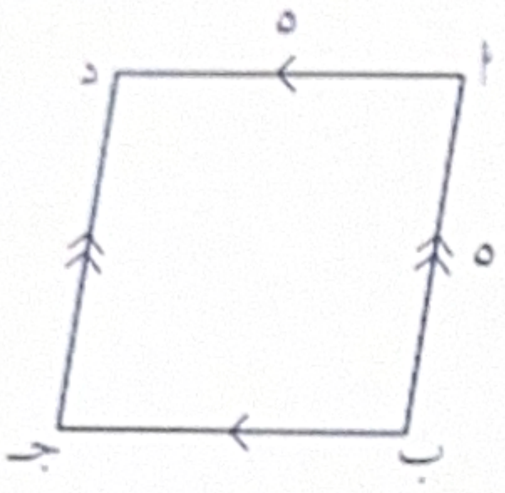
(أ) ٧ وحدة طول (ب) ٣ وحدة طول

(جـ) ١٤ وحدة طول (د) ٩ وحدة طول

وزارة التربية
الإدارة العامة للتعليم الخاص
نموذج الاجابة

مدرستي الكويتية school-kw.com

٨) في الشكل المقابل أ ب جـ د يمثل :



(أ) معين
(ب) مستطيل
(جـ) مربع
(د) شبة منحرف

٩) ٣ س (٢ س - ٥) =

(أ) ٦ س^{٢} - ٥
(ب) ٦ س - ١٥
(جـ) ٦ س^{٢} + ٥
(د) ٦ س^{٢} – ١٥ س

١٠) المقدار $\frac{٨ \text{ س}^{٥} \text{ ص}^{٢}}{٢ \text{ س}^{٥} \text{ ص}^{٧}}$ في ابسط صورة هو :

(أ) ٦ س^{٥} ص^{٥}
(ب) $\frac{٤}{\text{ص}^{٥}}$
(جـ) ٤ ص^{٥}
(د) ٦ ص^{٥}

١١) علبة بدون غطاء على شكل مكعب طول ضلعه س ، فإن المساحة السطحية للعلبة تساوي :

(أ) ٤ س^{٢}
(ب) ٥ س^{٢}
(جـ) ٦ س^{٢}
(د) س^{٢}

١٢) ٥ × ٤! =

(أ) ٢٠!
(ب) ٩!
(جـ) ٥!
(د) ٤٥!

انتهت الأسئلة

وزارة التربية
الإدارة العامة للتعليم الخاص
نموذج الإجابة

مدرستي الكويتية school-kw.com