الإدارة العامة للتعليم الخاص

التوجيه الفني للرياضيات

الاختبار التقويمي الثاني

للصف الأول

الفصل الدراسي الثاني 2023 / 2024

موعد الاختبار	مدة الاختبار	درجة الاختبار	توزيع درجات الاختبار		بنود الاختبار
الأسبوع ٦	لا تتجاوز ١٥ دقيقة من زمن الحصة	٥ درجات	موضوعي	مقال	من : (٨-١) إلى : (٨-٥)
			٢	٣	

إشراف الموجه الفني : أ. مها العنزي

نموذج١ اختبار تقويمي (٢)
في مادة الرياضيات للصف الأول
الفصل الدراسي الثاني للعام الدراسي ٢٠٢٣ /٢٠٢٤

٥

السؤال الأول :

(١) اطرح. اشطب.



١٦ ـ ٦ = _____

(٢) حُلَ

اشترت أسماء ٩

٣

١ ☐

كم عدد الكل ☐ طائر

السؤال الثاني : صل بالإجابة الصحيحة

١٥ ـ ٣ =	١٤
١٠ + ٤ =	١٣
	١٢

انـتـهت الأسئـلـة ،،،،

السؤال الأول :

(١) اطرح. اشطب.



١٦ ـ ٦ = ١٠

(٢) حُلَ

اشترت أسماء ٩

٣

+ ١

كم عدد الكل ١٣ طائر

السؤال الثاني: صل بالإجابة الصحيحة

١٥ ـ ٣ =	١٤
١٠ + ٤ =	١٣
	١٢

انتهت الأسئلة ،،،،

نموذج٢ اختبار تقويمي (٢)
في مادة الرياضيات للصف الأول
الفصل الدراسي الثاني للعام الدراسي ٢٠٢٣ /٢٠٢٤

٥

السؤال الأول :

(١) اجمع. ضُمَّ.

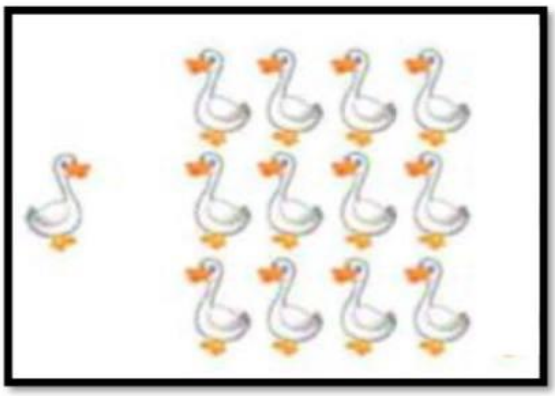

١٢ + ١ = _____

(٢) اطرح. اشطُب.



١٦ ـ ٥ = _____

السؤال الثاني : لون العبارة الصحيحة الممثلة

(١)

١٤ ـ٣ = ١١

١٣ ـ٣ = ١٠

(٢)

٤ + ٤ + ٤ = ١٥

٥ + ٥ + ٥ = ١٥

انـتـهت الأسئـلـة ، ، ،

السؤال الأول :

(١) اجمع. ضُمَّ.



١٢ + ١ = ١٣

(٢) اطرح. اشطُب.



١٦ ـ ٥ = ١١

السؤال الثاني : لون العبارة الصحيحة الممثلة

(١)

١٤ ـ ٣ = ١١

١٣ ـ ٣ = ١٠

(٢)



٤ + ٤ + ٤ = ١٥

٥ + ٥ + ٥ = ١٥

انتهت الأسئلة ،،،،

وزارة التربية
الإدارة العامة للتعليم الخاص
التوجيه الفني للرياضيات

نموذج٣ اختبار تقويمي (٢)
في مادة الرياضيات للصف الأول
الفصل الدراسي الثاني للعام الدراسي ٢٠٢٣ /٢٠٢٤

٥

التوجيه الفني للرياضيات

السؤال الأول :

(١) اطرح. بإمكانك استخدام ⬭ و ▦

١٤ - ٩ = _____

(٢) أوجد الناتج

١
٧
+ ٣

السؤال الثاني :

(١) لون الناتج المناسب

آحاد	عشرات
٨ - ١	١

(٢) حوط الناتج المناسب ٥ + ٥ + ٤ =

١٤ ١٩ ١٥

انتهت الأسئلة ،،،،

وزارة التربية
الإدارة العامة للتعليم الخاص
التوجيه الفني للرياضيات

إجابة نموذج٣ اختبار تقويمي (٢)
في مادة الرياضيات للصف الأول
الفصل الدراسي الثاني للعام الدراسي ٢٠٢٣ /٢٠٢٤

٥

التوجيه الفني للرياضيات

السؤال الأول :

(١) اطرح. بإمكانك استخدام ● و ▦

١٤ - ٩ = ٥

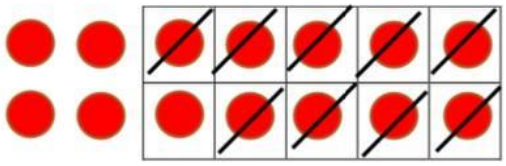

(٢) أوجد الناتج

١
٧
+ ٣
١١

السؤال الثاني :

(١) لون الناتج المناسب

آحاد	عشرات
٨ - ١	١

(٢) حوط الناتج المناسب ٥ + ٥ + ٤ =

١٥ ١٩ ١٤

انتهت الأسئلة ،،،