الأنشطة الاضافية لمادة الرياضيات
للصف الثالث
الفصل الدراسى الثانى



الوحدة السابعة

الأعداد الكلية الى العدد ١٠٠٠٠٠٠

اعداد المعلمة : نوره الرشود



الآلاف الكاملة

اكتب رمز العدد :

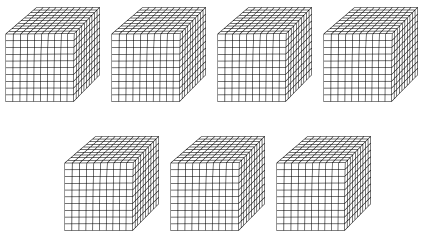

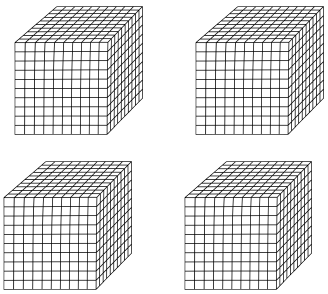

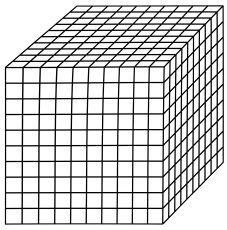

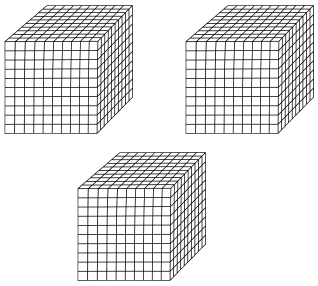

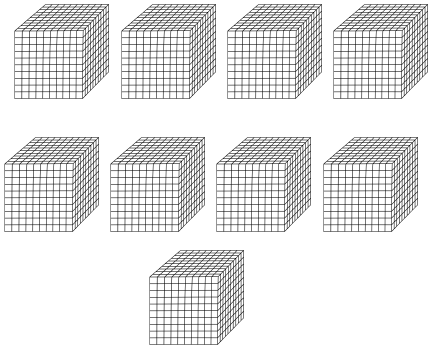

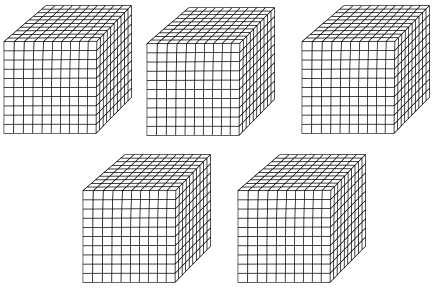

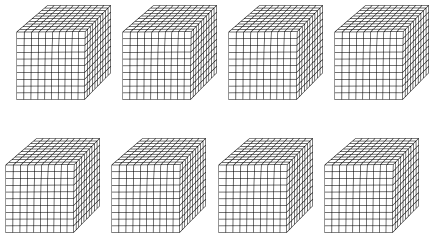

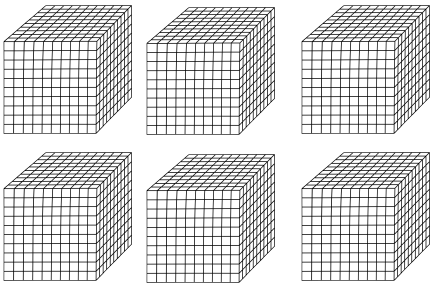

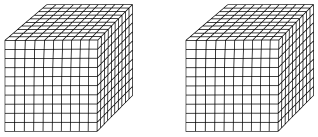

اعداد المعلمة : نوره الرشود



العدد المكون رمزه من ٤ أرقام

اكتب رمز العدد :

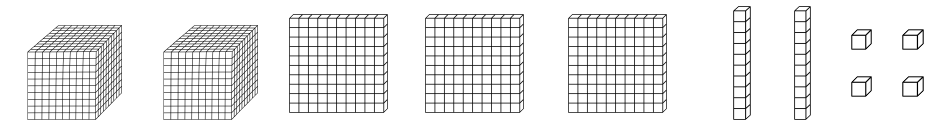	
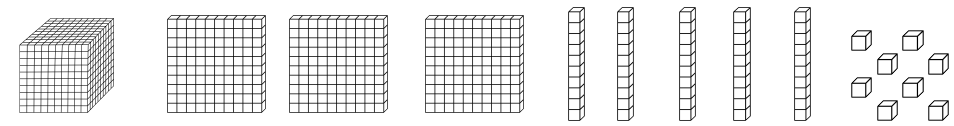	
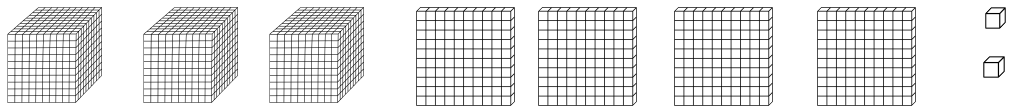	
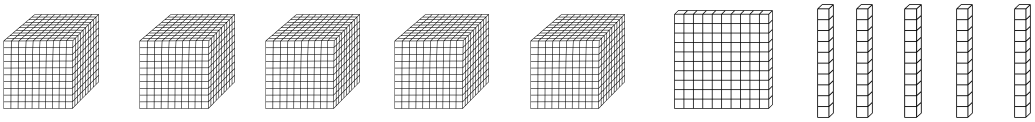	

اكتب القيمة المكانية للرقم الذي تحته خط :

٣٤٥٦ ـــــ ٥٠

٩٤٨٠ ـــــ

٣٥٦٤ ـــــ

١٠٢٩ ـــــ

٧٢٦٣ ـــــ

١٢٣٤ ـــــ

اكتب رمز العدد :

خمسة آلاف و ثمانمئة و خمسة و ستون	
سبعة آلاف و مئتان و أربعون	
ثلاثمئة اثنان و ستون	
ألف و ستمئة و تسعة و عشرون	
ألفان و مئة و خمسة	

اكتب الاسم المطول و رمز العدد لكل مما يأتي :

٣٢٤٧	
٧٦٠٥	
١٣٩٠	
	٢٠٠٠ + ٧٠٠ + ٧
	٤ + ٥٠ + ٨٠٠ + ٥٠٠٠

اعداد المعلمة : نوره الرشود

العدد المكون رمزه من ٥ أرقام



اكتب الاسم المطول و رمز العدد لكل مما يأتي ..

الاسم اللفظي	رمز العدد	الاسم المطول
ثلاثة عشر ألفاً و خمسمئة و ثلاثون	١٣٥٣٠	١٠٠٠٠ + ٣٠٠٠ + ٥٠٠ + ٣٠
أربعة و أربعون ألفاً و مئتان		
تسعة و ستون ألفاً و مئة و أربعة و تسعون		
واحد و خمسون ألفاً و ثلاثة		
سبعون ألفاً و خمسمئة و أربعة و ثلاثون		
ثمانية و ثمانون ألفاً و سبعون		
خمسة آلاف و واحد		
سبعة و ثلاثون ألفاً و مئتان و ثلاثة و عشرون		

اعداد المعلمة : نوره الرشود



الأعداد الى العدد ١٠٠٠٠٠٠

اكتب القيمة المكانية للرقم الذي تحته خط

٧٣٥٧٢٢	٣٠٠٠٠	٢٤٣٥١٦	
٥٢٩٤٦٠		٢٨٧٥٧	
١٠٠٩٢٨		١٧٨٦٣٨	
١٠٠٠٠٠٠		٨٧٣٥٥٥	
٥٤٦٣٧٢		٣٣٧٣	
٢٠٧٣٠٣		٣٨٢٦٣	
٢٠٢٠٢٠		٩٦٣٢٩٩	
١٢٥٤٣		٣٤٥٦٧٨	
١٣٢٧٧٦		٣١١١٣٣	
٣٩٨٦٣		٦٥٤٣	

اعداد المعلمة : نوره الرشود

العد التجاوزي



أكمل..

	١٢٤٢			١٢٣٦	١٢٣٤	
		٤٦٣٥			٤٦٢٠	٤٦١٥
	١٨٨		١٩٦		٢٠٤	٢٠٨
				٦٣٢٠	٦٣١٠	٦٣٠٠
	٤٩٠٠				٥٣٠٠	٥٤٠٠
			٧٤٠	٧٥٠		٧٧٠
			٥٤٨٢		٥٤٧٠	٥٤٦٤

اعداد المعلمة : نوره الرشود

مقارنة الأعداد

أكتب أعداداً من عندك أكبر من أو أصغر من
أو تساوي حسب رمز العلاقة المعطى

٢٣٤١ < ____	٨٣٤١ < ____
٨٧٢٦ > ____	٢٣٣٣ = ____
٨٤٣ < ____	٧٦٠ < ____
١٦٥٢ < ____	٣٢١١ < ____
٩٩٩ < ____	٤٥٠ < ____
٨٥٥ > ____	٣٦٦٢ > ____
١١٩ < ____	٢٤٥٤ < ____
٤٣٥٥ = ____	١٠٠٩ < ____
٢٧٧٦ > ____	٢٧٧٦ > ____



>	أكبر من
<	أصغر من
=	يساوي

اعداد المعلمة : نوره الرشود



ترتيب الأعداد

رتب الأعداد من الأصغر الى الأكبر (تصاعدياً) :

٤٣٥٤ ، ٥٤٢٤ ، ٤٢٨٧	٢٣٢٤٤ ، ٨٧٦٢ ، ١١١١٦
☐ ، ☐ ، ☐	☐ ، ☐ ، ☐
٩٩٨ ، ١١٢٣ ، ٤٣٢	٢٣٤٣٣ ، ٢٣١٣٣ ، ٥٤١٣١
☐ ، ☐ ، ☐	☐ ، ☐ ، ☐

رتب الأعداد من الأكبر الى الأصغر (تنازلياً) :

٢٧٦٥ ، ٥٤٢٣ ، ١٠٩٩٩	٤٤٣٣ ، ٤٣٤٤ ، ٤٤٣٧
☐ ، ☐ ، ☐	☐ ، ☐ ، ☐
٦٥٥٣ ، ٣٨٣٨ ، ٦٩٩٣	٢٣٤٣٣ ، ٢٣١٣٣ ، ٥٤١٣١
☐ ، ☐ ، ☐	☐ ، ☐ ، ☐

اعداد المعلمة : نوره الرشود

تقريب الأعداد



قرب الى أقرب مئة

٣٦٧ ≈ _____

٧٨١١ ≈ _____

١٢٧٠ ≈ _____

٨٨٩ ≈ _____

٦٤٠ ≈ _____

٤٢١١ ≈ _____

٥٧٢ ≈ _____

٦١ ≈ _____

٢٠١ ≈ _____

قرب الى أقرب ألف

٣٦٧١ ≈ _____

٧٨١ ≈ _____

١٢١٧ ≈ _____

٧٤٦٥ ≈ _____

٦٨٩٠ ≈ _____

٤٩١١ ≈ _____

٥٧٢١ ≈ _____

٦١٧١ ≈ _____

٢٠٢١ ≈ _____

اعداد المعلمة : نوره الرشود

استخدام البيانات

أنواع الأسماك المفضلة		
النوع	علامات العد	العدد

أنواع الأسماك المفضلة		
هامور	زبيدي	زبيدي
ميد	زبيدي	ميد
هامور	ميد	ميد
هامور	زبيدي	زبيدي
زبيدي	هامور	هامور
هامور	ميد	هامور
هامور	زبيدي	ميد
زبيدي	زبيدي	هامور
هامور	ميد	زبيدي
زبيدي	زبيدي	هامور
هامور	هامور	زبيدي
هامور	ميد	زبيدي

١) كم عدد الأشخاص الذين يفضلون الهامور ؟

.....

٢) ماهو نوع السمك الأكثر تفضيلا ؟

.....

٣) بكم يزيد عدد الذين يفضلون الهامور عن الذين يفضلون الميد ؟

.....

اعداد المعلمة : نوره الرشود



الوحدة الثامنة

جمع / طرح الأعداد الكلية

اعداد المعلمة : نوره الرشود

جمع عددين بناتج لا يزيد عن العدد ١٠٠٠

أوجد ناتج الجمع :

٩٦٧ + ٣٢	٥٦٣ + ١٣٨	
٥٣٠ + ٢٠٣	٥٦٢ + ٢٣٩	٥٦٩ + ٢٢
١١٥ + ٥٤٢	٦٧٤ + ٢٣٣	٧٨١ + ١٥٠
	٧١٦ + ٨١	٤٥٢ + ٣٢٢
		١٨٧ + ٤٦٧
		٢٤٤ + ٢٣١

اعداد المعلمة : نوره الرشود

تقدير ناتج الجمع

قدّر ثم أوجد الناتج التقديري

٧٦
+ ١٤

+

١٨٩
+ ٤٠٧

+

٥١٤
+ ٥٦

+

اعداد المعلمة : نوره الرشود

أنماط عملية الجمع

أوجد الناتج..

٢٠٠٠ + ١٠٠٠ =	٣٠٠ + ٤٠٠ =
١٠٠ + ٨٠٠ =	٤٠٠٠ + ٣٠٠٠ =
٢٠٠ + ٧٠٠ =	٥٠ + ٤٠ =
٨٠٠٠ + ٢٠٠٠ =	٩٠٠ + ٥٠٠ =
٤٠٠ + ٧٠٠ =	٧٠ + ٦٠ =

اعداد المعلمة : نوره الرشود

جمع عددين بناتج لا يزيد عن العدد ١٠٠٠٠ بدون اعادة التسمية

لون التفاح حسب لون الناتج الموجود على الشجرة

من ٢٠٠٠ إلى ٤٠٠٠ أخضر

من ٤٠٠٠ إلى ٦٠٠٠ أحمر

من ٦٠٠٠ إلى ٨٠٠٠ أصفر

من ٨٠٠٠ إلى ١٠٠٠٠ أزرق

٢٥٤٢ + ٣٢١١ =

٥٦٢٨ + ٣٣٠ =

٤٢٦١ + ٣٧٣٨ =

٤٠٢ + ٢٥٦٣ =

٦٠٢٣ + ٩٠٤ =

٥١٢ + ٩٣٤٦ =

٦٤٥١ + ٢٢٢٢ =

١٤٢٥ + ٧١٦٢ =

٣٣٠٣ + ٤٣٠٤ =

٨٨٠٠ + ١٠٠ =

٢٥٦ + ٢٣٤١ =

٨٩٤٢ + ١٠١١ =

٢٤٣٥ + ٦٤٣٢ =

٧٤١٢ + ٤٠٢ =

٦٥٤ + ٣٢٣٢ =

٤٠٠٣ + ٢١٨٤ =

١٢٧٤ + ١٥٢١ =

٤٥٣١ + ٤٣٧ =



اعداد المعلمة : نوره الرشود

جمع عددين بناتج لا يزيد عن العدد ١٠٠٠٠ مع اعادة التسمية

حل المسائل لتساعد الشاحنة في الوصول الى الكوخ ..



٦٥٤
+ ٣٢٧٢
_____



١٢٧٤
+ ١٥٨١
_____

٢٥٦
+ ٢٩٤١
_____

١٤٢٥
+ ٧٦٦٨
_____

٣٤٣٥
+ ٦٤٣٦
_____

٤٦٣١
+ ٤٣٧
_____

اعداد المعلمة : نوره الرشود

جمع ثلاثة أعداد بناتج لا يزيد عن العدد ١٠٠٠٠

أوجد الناتج..

٣٤٢	٤٤	١٦٦	٤٧	١٦	٥٤٢
٧٦	١٢	١٢٣	٦٥	١٢١	٢٢
+١٢٢	+٦٧	+٣١	+٧١٢	+٨٠٠	+٤١٣

٤٥٢	٨٨	٥٣٤	٢١٧	٦٦٤	١٥
٥٠	٢٠	٢١	٣٣٠	٢١٨	١٢
+٦٢٣	+٣٠٠	+٧٦	+١٢٥	+٢٠	+٢٤

٣٢٦	٥٢٧	١٠٠
٢١٨	١٠٢	٣٢١
+٤٠١	+٢	+٢٢٥



اعداد المعلمة : نوره الرشود



الطرح من أعداد لا تزيد عن العدد ١٠٠٠

حل المسائل لتصل الى نهاية السباق ..

البداية

٣٤٨ − ١٢٧	٨٧١ − ٢٦٣	٣٠٧ − ١٤٢	٦٤٩ − ٣٢٥	٥٢٥ − ٢٦٣
٧٩٨ − ٢٤٧				
٦٨٨ − ٤٤٤				
٣٥٦ − ٢٦٢				
٣٧٣ − ٢٨٢	٧٩٥ − ٣٧٢	٨٢٤ − ٥٠٣	٦٠٠ − ٢١٣	٤٧٢ − ٢٤١
٤٦١ − ٣٦٠				
٦٨٧ − ٦٣٥				
٩٤٣ − ٧١٠	٦٥١ − ٤٣٩	١٠٠ − ٥٠	٨٧٦ − ٣٤٤	

النهاية

اعداد المعلمة : نوره الرشود

تقدير ناتج الطرح

قدّر ثم أوجد الناتج التقديري

٧٦
- ١٤

٧١٦
- ٢٩٨

٤٦٥
- ٣٠١

اعداد المعلمة : نوره الرشود



أنماط عملية الطرح

أوجد الناتج..

٨٠٠ - ٥٠٠ =

٤٠٠٠ - ٢٠٠٠ =

١٢٠٠ - ٦٠٠ =

٩٠٠٠ - ٣٠٠٠ =

٤٠ - ١٠ =

١٩٠ - ٨٠ =

٧٠٠ - ٤٠٠ =

١٥٠٠ - ٨٠٠ =

٦٠٠٠ - ٤٠٠٠ =

٥٠٠ - ٢٠٠ =

اعداد المعلمة : نوره الرشود

الطرح من أعداد لا تزيد عن العدد ١٠٠٠٠ بدون إعادة التسمية



أوجد الناتج ثم لون مكعب الناتج الصحيح..

١	٦٧٨٥ - ٢٤٥٢	٤٥٢٤ ٤٣٣٣ ٤٥٢٤	٢ ٤١٤٥ - ٣١٢٢	١٠٢٣ ١٢٦٣ ١٥٦٢
٣	٧٤٥٢ - ١٣٤٠	٨٥٦٢ ٢٣٤١ ٦١١٢	٤ ٨٣٩٦ - ٤١٧٣	٤٥٦٧ ٤٢٢٣ ٤٢٥٣
٥	٤٧٢٨ - ٢٢٢٢	٣٤٥٦ ٢٤٥٣ ٢٥٠٦	٦ ٧٨٩٩ - ٢٥٦٣	٥٣٣٦ ٥٣٤٧ ٥٢٧٦
٧	٣٧٢١ - ١٠٠٠	٢٤٦٧ ٢٤٥٤ ٢٧٢١	٨ ٩٩٩٩ - ٨٧٦٥	٣٤٢٥ ٤٣٢١ ١٢٣٤
٩	٦٣٤٥ - ٥١٣٤	١٢١١ ١٧٦٥ ١٤٧٩	١٠ ٧٣٧٣ - ٢٢٤١	٥٤٣٢ ٥١٣٢ ٥٦٧١

اعداد المعلمة : نوره الرشود

الطرح من أعداد لا تزيد عن العدد ١٠٠٠٠ مع إعادة التسمية

أوجد الناتج..



٣٧٢١ - ١٨٣٠	٦٣٤٥ - ٢٢٥٨	٧٣٧٣ - ٢٢٤٨
٧٢٨١ - ٥٢١٢	٩٠٤٣ - ٦٢٦١	٥٩٦١ - ٢٢٤٨
٧٣٦٤ - ٥١٥٥	٣٣٥٦ - ٢٦٣٢	٨٤٩٣ - ٧٥٥٣
١٣٥٧ - ١٣١٨	٤٠٠٠ - ١٣٤٢	٩٧٨٢ - ٣٣٣٣

اعداد المعلمة : نوره الرشود

الحساب الذهني

استخدم الحساب الذهني
لإيجاد الناتج

٢٣ + ٢٧ = ☐	٤٣ - ٢٧ = ☐
٥٩ + ٦ = ☐	١٩ - ٨ = ☐
٦٨ + ١٢ = ☐	٧٢ - ١٩ = ☐
٣ + ٨٨ = ☐	٥١ - ٤٨ = ☐
١٩ + ٣٩ = ☐	٤٤ - ٣٩ = ☐

اعداد المعلمة : نوره الرشود

ايجاد العدد المجهول

أوجد العدد المجهول ..

٦	٣	
		+
٢	٩	

٨	١	+
٩	٤	

٥	٤	+
١	٧	

٩	٥	
		+
٤	٨	

٣	٢	
		+
٦	٤	

٠	٥	+
٠	٨	

٤	١	
		+
٨	٨	

٣	٤	+
٧	٧	

٨	٣	
		+
٢	٥	

اعداد المعلمة : نوره الرشود



الوحدة التاسعة

ضرب الأعداد بناتج لا يزيد عن العدد ١٠٠٠

اعداد المعلمة : نوره الرشود

الضرب في ١٠ ، ١٠٠ و مضاعفاتهما ..

صل كل مبنى بالمفتاح المناسب له ..

المخبز

٣ x ٣٠٠ =

الخضار و الفواكه



٥٠ x ٢ =

البنك

٤٠ x ٤ =

المطار

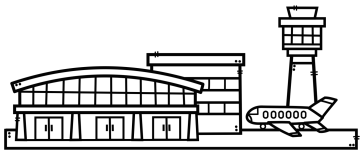

٧ x ٩٠ =

محل البيتزا

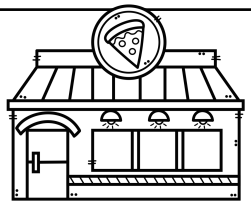

١٠٠ x ١٠ =

المصبغة

٦٠ x ٦ =

محطة الوقود



٣ x ٢٠٠ =

طبيب الأسنان



٣٠ x ٤ =

١٠٠

٦٣٠

٩٠٠

٣٦٠

١٠٠٠

١٢٠

١٦٠

٦٠٠

اعداد المعلمة : نوره الرشود

الضرب باستخدام النواتج الجزئية

أوجد الناتج باستخدام النواتج الجزئية..

٤٩
x ٢

٦٥
x ٢

٢١
x ٢

٣٢
x ٤

٦٧
x ١

٤٢
x ٢

٢٣
x ٤

٣٣
x ٣

٢٥
x ٤

١٥
x ٣

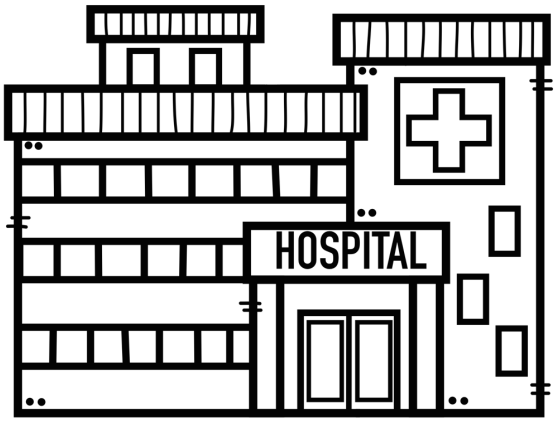

اعداد المعلمة : نوره الرشود

ضرب عدد مكون رمزه من رقم واحد في عدد مكون رمزه من رقمين بدون اعادة التسمية

أوجد الناتج



١١
x ٤
_____

١٢
x ٣
_____

٢٤
x ٢
_____

٣٣
x ٣
_____

٢١
x ٣
_____

٣٤
x ٢
_____

٢٢
x ٢
_____

٣١
x ٣
_____

١١
x ٨
_____

٣٠
x ٢
_____

٤٢
x ٢
_____

٤٤
x ٢
_____



اعداد المعلمة : نوره الرشود

ضرب عدد مكون رمزه من رقم واحد في عدد مكون رمزه من رقمين مع اعادة التسمية

أوجد الناتج .. ثم لون السمكة باللون المناسب حسب الناتج

٤٥
x ٢
_____

٢٤
x ٣
_____

٤٦
x ٤
_____

٣٥
x ٥
_____

٤٧
x ٣
_____

١٣
x ٦
_____

٢٩
x ٢
_____

١٧
x ٥
_____

١٧٥ أزرق	١٨٤ أخضر	٧٨ أصفر	١٤١ أحمر	٥٨ أبيض
٨٥ بنفسجي	٧٢ برتقالي	٩٠ وردي		

اعداد المعلمة : نوره الرشود

الضرب في عدد مكون رمزه من ٣ أرقام

أوجد الناتج..



٤١٣ x ٦	٣٥٢ x ٣	٩٠٧ x ٢
١٣٥ x ٥	٧٤٦ x ٤	٨٥١ x ٧
٢٩٠ x ٩	٥٠٧ x ٨	٢٣٤ x ٢
٢٧٤ x ٦	٣٢٠ x ١	٤٥٥ x ٥

اعداد المعلمة : نوره الرشود



ضرب ٣ أعداد

أوجد الناتج..

٨ x ٠ x ٣ = ☐	٣ x ٣ x ٣ = ☐
٥ x ٥ x ١٠ = ☐	٢ x ٢ x ٥ = ☐
٤ x ٣ x ٥ = ☐	١ x ٢ x ٣ = ☐
٢ x ٩ x ١ = ☐	٦ x ٣ x ٠ = ☐
٢ x ٤ x ١٠ = ☐	١ x ٨ x ٧ = ☐
٠ x ٨ x ٨ = ☐	٣ x ٩ x ١٠ = ☐

اعداد المعلمة : نوره الرشود

ترتيب العمليات



أوجد الناتج..

٥ x (٠ + ٣) = ☐	٢٧ ÷ (١ + ٢) = ☐
٤ + ١ x ٣ = ☐	٧ x ٤ + ٧ = ☐
٢ x ٣ + ٧ = ☐	٨ + ٣ x ٤ = ☐
١٥ ÷ (٨ - ٥) = ☐	٠ x (٩ + ٨) = ☐
٦ x (٣ + ٣) = ☐	١٠ ÷ ٥ + ٥ = ☐
٩ - ٢ x ٢ = ☐	٠ x ٨ + ٤ = ☐

اعداد المعلمة : نوره الرشود



الوحدة العاشرة

القسمة

اعداد المعلمة : نوره الرشود



أنماط القسمة

أوجد الناتج..

٣٥٠ ÷ ٥ =

٧٠٠ ÷ ٧ =

٩٠٠ ÷ ٣ =

٥٦٠ ÷ ٨ =

٢٠٠ ÷ ٤ =

٦٣٠ ÷ ٩ =

١٦٠ ÷ ٤ =

١٢٠ ÷ ٣ =

١٨٠ ÷ ٢ =

١٥٠ ÷ ٥ =

اعداد المعلمة : نوره الرشود

العلاقة بين عمليتي الضرب و القسمة

اكتب عائلة الحقائق للأعداد









اعداد المعلمة : نوره الرشود



التعرف على القسمة مع وجود باقٍ

أوجد ناتج القسمة و الباقي

ب ☐ ٥) ٢٧	ب ☐ ٦) ١٥	ب ☐ ٧) ٢٤
ب ☐ ٢) ١٨	ب ☐ ٤) ٢٦	ب ☐ ٨) ٣٢
ب ☐ ٥) ٣٩	ب ☐ ٦) ٤٣	ب ☐ ٩) ٢٨
ب ☐ ٣) ١١	ب ☐ ٧) ٩	ب ☐ ٣) ١٧

اعداد المعلمة : نوره الرشود

القسمة على عدد مكون رمزه من رقم واحد بدون اعادة التسمية و بدون باقٍ

أوجد الناتج..



٦ ٩ | ٣

٢ ٦ | ٢

٧ ٧ | ٧

٨ ٤ | ٤

اعداد المعلمة : نوره الرشود



القسمة على عدد مكون رمزه من رقم واحد مع اعادة التسمية و بدون باقٍ

أوجد الناتج..

٣) ٧٥	٤) ٦٤
٧) ٩٨	٦) ٩٠

اعداد المعلمة : نوره الرشود



القسمة على عدد مكون رمزه من رقم واحد مع وجود باقٍ

أوجد الناتج..

٩ ٦ ٤ ٣ ب

٨ ٠ ٧ ٥ ب

٩ ٩ ٦ ٦ ب

٣ ٥ ٩ ٢ ب

اعداد المعلمة : نوره الرشود

الأعداد الزوجية و الأعداد الفردية



ساعد المحقق في تصنيف الملفات .. لوّن الأعداد الزوجية باللون الأزرق و الأعداد الفردية باللون الأحمر

٤٣١	٥٦	٩٨	٢٢٩	١٨٨
٥٣٤	١١٧	٤٥	٤٤	٧٦٣
٧٨	٣٤٥	٩٩٠	٨٦	٢١
٣٠	٤٦٧	٦٢		
٢٣	٣٨	٥١		
٦١٦	٥٢٩			



الأعداد الزوجية باللون الأزرق

الأعداد الفردية باللون الأحمر

اعداد المعلمة : نوره الرشود



ايجاد العدد المجهول

أوجد العدد المجهول .. أكمل كما في المثال

٦ × ٧ = ٤٢ ٤٢ ÷ ٦ = ٧	٤ × ☐ = ٢٨ ___ ÷ ___ = ___
☐ × ٧ = ١٤ ___ ÷ ___ = ___	٥ × ☐ = ٤٠ ___ ÷ ___ = ___
٣ × ☐ = ٢١ ___ ÷ ___ = ___	☐ × ٩ = ٣٦ ___ ÷ ___ = ___
☐ × ٦ = ٢٤ ___ ÷ ___ = ___	٨ × ☐ = ٥٦ ___ ÷ ___ = ___

اعداد المعلمة : نوره الرشود



الوحدة الحادية عشرة

الوقت

اعداد المعلمة : نوره الرشود

الوقت لأقرب دقيقة



اكتب الوقت بطريقتين مختلفتين ..







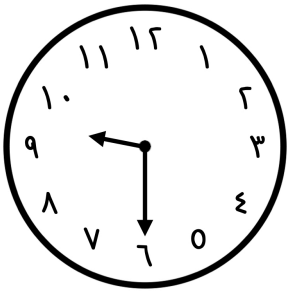





اعداد المعلمة : نوره الرشود

قراءة الساعة

الساعة التاسعة إلاّ ربعاً	الساعة الخامسة و الثلث	الساعة الثالثة
الساعة العاشرة و الثلث	الساعة الثانية و الربع	الساعة السادسة و النصف

اعداد المعلمة : نوره الرشود

قراءة الوقت الى ١٢ ساعة / ٢٤ ساعة













اعداد المعلمة : نوره الرشود



الوحدة الثانية عشرة

القياس

اعداد المعلمة : نوره الرشود

قياس الطول باستخدام المتر و السنتيمتر

استخدم خريطة المدينة للاجابة عن الأسئلة التالية

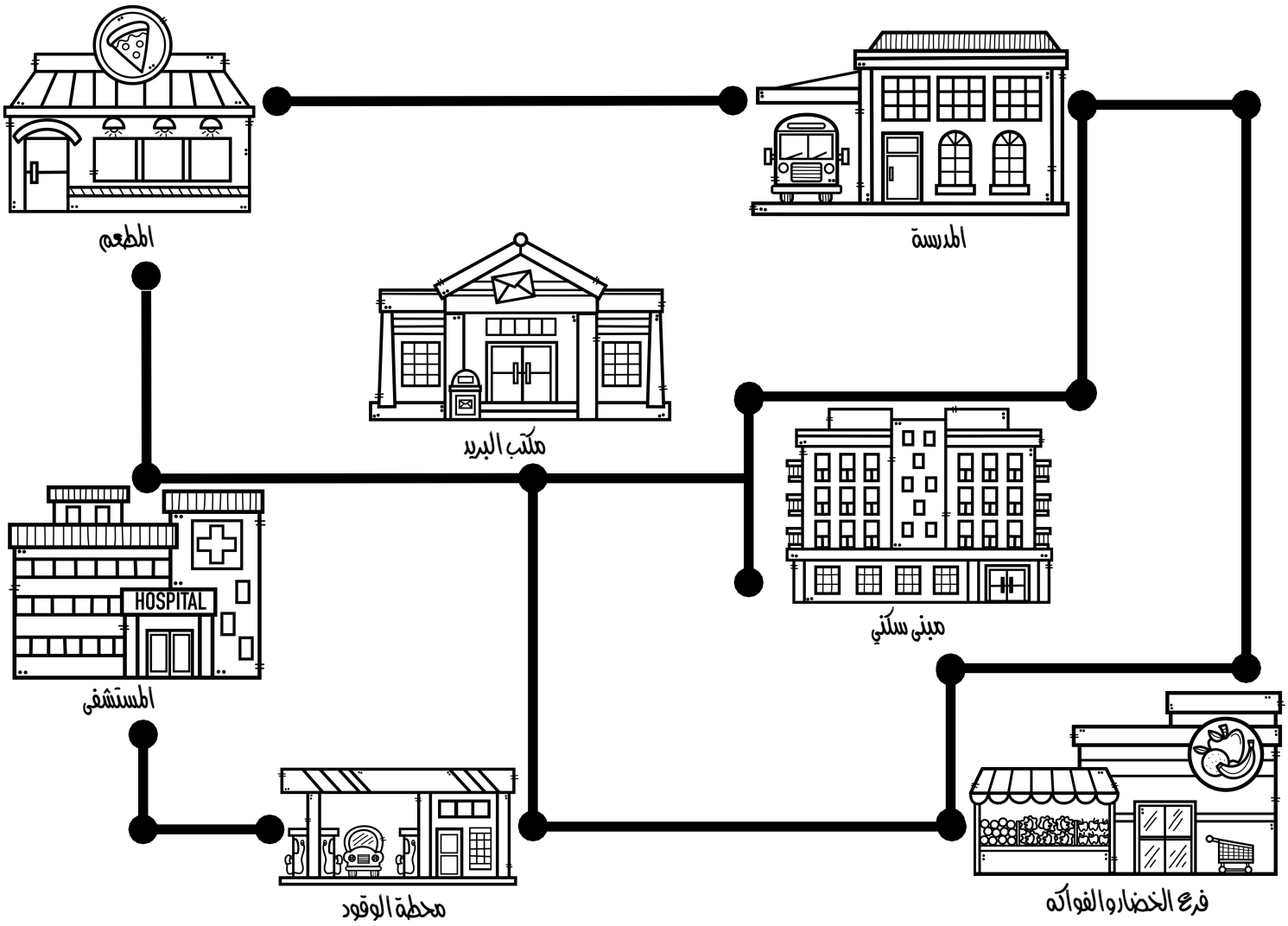

١ - ماهي المسافة بين المطعم و المدرسة على الخريطة ؟ _____ سم
٢ - أيهما أقرب للمدرسة مكتب البريد أم فرع الخضار و الفواكه ؟ _____
٣ - أيهما أبعد عن المستشفى المطعم أم محطة الوقود ؟ _____
٤ - ماهي المسافة بين المطعم و محطة الوقود على الخريطة ؟ _____ سم
٥ - ماهي المسافة بين المستشفى و محل الخضار و الفواكه على الخريطة ؟ _____ سم

اعداد المعلمة : نوره الرشود

الديسيمتر و المليمتر

لوّن أفضل وحدة لقياس الأبعاد الحقيقية ..

	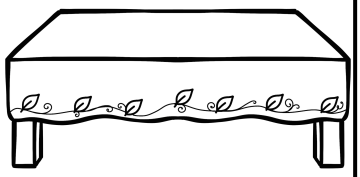		
مم / دسم	م / مم	دسم / مم	مم / م
			
م / سم	دسم / مم	سم / م	م / سم
			
سم / دسم	مم / دسم	م / دسم	دسم / مم
	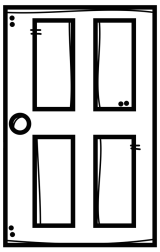		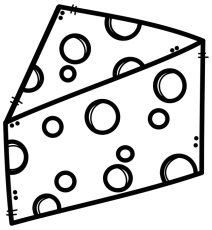
سم / م	م / دسم	دسم / مم	مم / م

الكيلومتر



أكمل..

٨ كم = ـــــــ م

ـــــ كم = ٢٠٠٠ م

ـــــ كم = ٩٠٠٠ م

٦ كم = ـــــــ م

٣ كم = ـــــــ م

ـــــ كم = ٧٠٠٠ م

١٠ كم = ـــــــ م

ـــــ كم = ١٠٠٠ م

٨ م = ـــــــ سم

ـــــ م = ٣٠٠ سم

٤ م = ـــــــ سم

٢ م = ـــــــ سم

ـــــ م = ٩٠٠ سم

ـــــ م = ١٠٠٠ سم

٦ م = ـــــــ سم

ـــــ م = ٧٠٠ سم

اعداد المعلمة : نوره الرشود

الوزن

اختر التقدير الأفضل لوزن كل مما يلي ..

			
٧ كجم	٧ جم	١٢ كجم	١٢ جم
			
١١ كجم	١١ جم	٥ كجم	٥ جم
			
٣٠٠٠ كجم	٣٠٠٠ جم	١٥ كجم	١٥ جم

السعة

اختر التقدير الأنسب لسعة كل مما يلي ..

			
٣٠٠ مل	٣٠٠ لتر	٥ مل	٥ لتر
			
٢ مل	٢ لتر	٢٥٠ مل	٢٥٠ لتر
			
٥٠ مل	٥٠ لتر	١٠٠ مل	١٠٠ لتر

الزمن



صل كل حدث بالشهر المناسب له ..

الحج	●	●	ديسمبر
بداية العام الدراسي	●	●	صفر
اليوم الوطني	●	●	ذو الحجة
الشهر الثاني من الأشهر الهجرية	●	●	محرم
بداية العام الهجري	●	●	فبراير
الشهر الخامس من الأشهر الميلادية	●	●	شوّال
عيد الفطر	●	●	مايو

اعداد المعلمة : نوره الرشود



النقود المعدنية

عد.. اكتب قيمة الكل

	____ فلساً
	____ فلساً
	____ فلساً
	____ فلساً
	____ فلساً
	____ فلساً
	____ فلساً
	____ فلساً

اعداد المعلمة : نوره الرشود

النقود الورقية

حوط القطع التي تتناسب مع الثمن



٣٥٠ فلس

٦ دنانير و ربع



دينار و ١٣٠ فلس

١١ دينار و ٧٥٠ فلس

اصدار المعلمة : نوره الرشود