walmejbel

مادة العلوم
الصــف الـســـابع

نماذج اختبار الورقة التقويمية الأولى
هذا العمل اجتهاد شخصي ولا يغني عن الكتاب المدرسي

تذكر:

ليس العيب في أن نخطئ، العيب أن نخاف من المحاولة

أ. وضحة فاضل المجبل
٢٠٢٥-٢٠٢٦م

اضغط للدخول لقناة التيلغرام

walmejbel

مادة العلوم
الصـف الـسـابع

السؤال	نمط السؤال	عدد البنود	درجة البند	الدرجة الكلية
الأول (الموضوعي)	* اختيار نمطين من الأسئلة الموضوعية: - اختر العبارة الصحيحة لكل من العبارات التالية وضع علامة (√) في المربع المقابل لها. - اكتب بين القوسين كلمة (صحيحة) أمام العبارة الصحيحة وكلمة (خطأ) أمام العبارة غير الصحيحة لكل مما يلي. - اكتب بين القوسين المصطلح أو الأسم العلمي الذي تدل عليه كل من العبارات التالية. - أكمل كل من العبارات التالية بما يناسبها علميا من كلمات. - اختر من عبارات المجموعة (ب)، واكتب رقمها أمام ما يناسبها من عبارات المجموعة(أ).	2	1 × 2	(2) درجتان
الثاني (المقالي)	* اختيار نمطين من الأسئلة المقالية: - تحليل العلاقات البيانية. - حل المسألة الرياضية. -علل لما يلي تعليلا علميا سليما. - أي مما يلي لا ينتمي للمجوعة، مع ذكر السبب. - صنف كلا مما يلي كما هو موضح في الجدول التالي. - قارن بين كلا مما يلي كما هو موضح في الجدول التالي. - ادرس الرسومات التالية جيدا، ثم أجب عن المطلوب. - ماذا يحدث لكل حالة من الحالات التالية مع ذكر السبب. - نمط من أنماط دراسة الاتجاهات الدولية في العلوم والرياضيات (TIMSS)، بمستويات معرفيه عليا.	2	2 × 2	(4) درجتان
المجمـــــــــــوع الكلي				(6) درجات

توزيعة درجة الاختبار القصير وأنماط الأسئلة حسب التوجيه الفني للعلوم

أ. وضحة فاضل المجبل

٢٠٢٥-٢٠٢٦م

اضغط للدخول لقناة التيلغرام

walmejbel

وزارة التربية منطقة العاصمة التعليمية

اختبار تجريبي الورقة التقويمية الأولى الصف السابع	الاسم: ..... الصف: السابع / ..... نموذج (١) الدرجة النهائية: ..... / ٦

السؤال الأول: (أ) اختر العبارة الصحيحة لكل من العبارات التالية وضع علامة (✓) في المربع المقابل لها:

١- كائنات مجهرية تعيش في الماء وتبدو أحيانا كالنبات وأحياناً كالحيوان

أ) الطلائعيات ب) البدائيات ج) الفطريات د) الحيوانات

/ ١

٢- الشكل المقابل يمثل البكتيريا الرقم (١) يشير إلى:

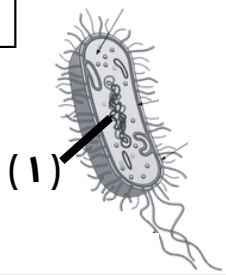

أ) جدار الخلية ب) غشاء الخلية ج) سيتوبلازم د) المادة الوراثية

(ب) اكتب بين القوسين كلمة (صحيحة) أمام العبارة الصحيحة وكلمة (خاطئة) أمام العبارة الخاطئة:

١) يشمل الاسم العلمي للكائن الحي على جنسه ونوعه ( )

٢) الترتيب الصحيح لمراحل تكاثر الفيروس (الالتصاق - نزع الغلاف - الاختراق - التكاثر - التحرر - التجميع) . ( )

/ ١

السؤال الثاني: أجب عن الأسئلة التالية:

(أ) علل لما يلي تعليلاً علمياً سليماً:

١- تحتوي الطحالب البنية على مثانات هوائية.

_____

٢- الفيروس الذي يصيب الكبد لا يصيب الكلى في الإنسان.

_____

/ ٢

(ب) قارن بين كل مما يلي كما هو موضح بالجدول التالي

وجه المقارنة	الجدري	داء الكلب
النسيج المصاب		
الأعراض		

/ ٢

walmejbel

وزارة التربية منطقة العاصمة التعليمية

اختبار تجريبي الورقة التقويمية الأولى الصف السابع	الاسم: ..... الصف: السابع / ..... نموذج (٢) الدرجة النهائية: ..... / ٦

السؤال الأول: (أ) اختر العبارة الصحيحة لكل من العبارات التالية وضع علامة ( ) في المربع المقابل لها:

١- الوحدة الأساسية للتصنيف:

أ) المملكة ب) النوع ج) الشعبة د) الطائفة

٢- يمثل الرسم في الشكل المقابل فيروس:

أ) آكل البكتيريا ب) االنفلونزا ج) شلل الأطفال د) الكورونا

/ ١

(ب) اكتب بين القوسين المصطلح أو الاسم العلمي الذي تدل عليه كل من العبارات العلمية التالية:

١) مرض بكتيري في الفم يتسبب بألم وصعوبة البلع وارتفاع درجة الحرارة. (.....)

٢) كائنات حية دقيقة تعيش في الأماكن الرطبة والبرك والتربة ومياه المحيط. (.....)

/ ١

السؤال الثاني: أجب عن الأسئلة التالية:

(أ) علل لما يلي تعليلاً علمياً سليماً:

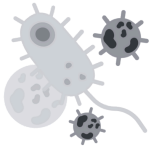

١- لا تعد الفيروسات من الكائنات الحية.

.....

٢- للبكتيريا دور مهم في البيئة.

.....

/ ٢

(ب) قارن بين كل مما يلي كما هو موضح بالجدول التالي

وجه المقارنة	الطلائعيات	الفطريات
التغذية		

/ ٢

walmejbel

وزارة التربية منطقة العاصمة التعليمية

اختبار تجريبي الورقة التقويمية الأولى الصف السابع	الاسم: ..... الصف: السابع / ..... نموذج (٣) الدرجة النهائية: ..... / ٦

السؤال الأول: (أ) اختر من عبارات المجموعة (ب) واكتب رقمها أمام ما يناسبها من عبارات المجموعة (أ) : ١ /

( ) ( )	أعلى مستوى تصنيفي في علم التصنيف تضم مجموعة كبيرة الكائنات الحية. المتستوى الثاني في تصنيف الكائنات الحية مثل الفقاريات.	(١) الشعبة (٢) الرتبة (٣) المملكة

(ب) اكمل كل من العبارات التالية بما يناسبها علمياً: ١ /

١) يصنف العلماء الكائنات الحية بهدف ..... .

٢) نوع من الطلائعيات تتحرك بواسطة امتدادات من السيتوبلازم تسمى الأقدام الكاذبة هي .....
.

السؤال الثاني: أجب عن الأسئلة التالية:

(أ) عبر بالرسم عن العلاقة بين عدد المصافحات ومعدل انتشار الفيروس ١ /

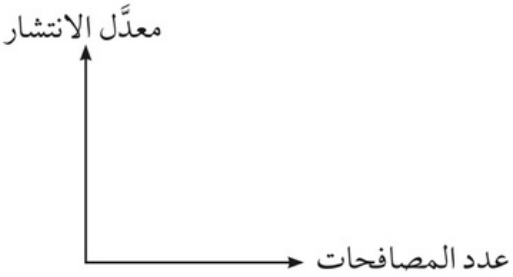

- كلما زاد عدد المصافحات .....
  معدل انتشار الفيروس بين الأفراد .

(ب) ما ذا يحدث في الحالة التالية مع ذكر السبب ١ /

١- عند عدم تغطية الطعام وتركه مكشوفاً.

الحدث: .....

(ج) قارن بين كل مما يلي كما هو موضح بالجدول التالي ٢ /

وجه المقارنة	الحيوانات	البدائيات
الخلايا		
التكاثر		