تم تحميل الملف
من موقع حلول

حلول
الحلول اون لاين

hulul.online

حلول الكتب - اختبارات الكترونية . مراجعات وتدريبات
والمزيد من الملفات التعليمية للمناهج السعودية

بسم الله الرحمن الرحيم

أوراق عمل لقياس المهارات

استعن بالله أولا – ابدأ بالبسملة – لا تتسرع في الإجابة – تأكد أنك أجبت على كل الأسئلة

الصف : الصف الرابع الابتدائي المادة : العلوم اسم الطالب :.....

أوراق عمل



الصف الرابع الابتدائي

الفصل الدراسي الأول



أ

و

ر

اق عمل

ليس عيبا أن نخطئ و لكن العيب أن نستمر في الخطأ

أتقن :

لم يتقن :

توقيع ولي الأمر :

بسم الله الرحمن الرحيم

أوراق عمل لقياس المهارات

اسعن بالله أولا – ابدأ بالبسملة – لا تسرع في الإجابة – تأكد أنك أجبت على كل الأسئلة

الصف : الصف الرابع الابتدائي المادة : العلوم اسم الطالب :.....

الفصل الأول

ورقة عمل رقم 1

ضع علامة صح √ أمام العبارات الصحيحة أو خطأ × أمام العبارات الخطأ

1- الْخَلِيَّةُ أكبر وَحْدَةٍ في بِنَاءِ الْمَخْلُوقاتِ الْحَيَّةِ

2- .جسمِي يَتَكَوَّنُ مِنْ خَلايَا ، وكذلك أَجْسامُ النَّمْلِ ونَباتُ البَصَلِ.

3- قَدْ يَتَكَوَّنُ الْمَخْلُوقُ الْحَيُّ من مَلايينِ الْخَلايَا ، أَوْ مِنْ خَلِيَّةٍ وَاحِدَةٍ،

4- تَحْتاجُ جَمِيعُ المَخْلُوقاتِ الحَيَّةِ إِلَى الْماءِ ، والْغِذاءِ ، وَإِلى مَكانٍ لِتَعِيشَ فيهِ ، كَما أَنَّها تَحْتاجُ إِلَى النيتروجين وَهُوَ غازٌ مَوْجُودٌ فِي الْهَواءِ.

5- الهضم ، وَهُوَ إِنْتاجُ مَخْلُوقاتٍ حَيَّةٍ جَديدَةٍ مِنْ نَوْعِهِ.

6- تَحْصُلُ الْمَخْلُوقَاتُ الْحَيَّةُ عَلَى الطَّاقَةِ مِنَ الماء الَّذِي نشربه

7- تَسْتَجِيبُ المخلوقات الْحَيَّةُ لِتَغَيُّرَاتِ الْبِيئَةِ مِنْ حَوْلِهَا :فَالنَّبَاتَاتُ تَنْمُو بعيدا عن اتِّجَاهِ الضَّوْءِ.

8- الْخَلايَا النَّبَاتِيَّةُ تَحْتوِي الخَلايَا النَّباتيَّةُ عَلَى الكلوروفيل وَهُيَ الْمَادَّةُ الخَضْرَاءُ الَّتِي تُسَاعِدُ النَّبَاتَ عَلَى صُنْعِ غِذَائِه

9- الْخَلِيَّةُ الْحَيَوانيَّةُ تَحْتَوِي عَلَى الْكُلُورُوفِيلِ .

2- أختر الإجابة الصحيحة من بين الأقواس

(جَهَازًا - الأنسجة - الجِهَازِ الدَّوْرِيّ - مَجَاهِرَ - النَّسِيجُ)

1- ----------تكوّنُ أعْضَاءً

2- :----------مَجْمُوعَةٌ مِنَ الْخَلايَا الْمُتَماثِلَةِ تَجْتَمِعُ مَعًا.

3- تَعْمَلُ الأَعْضَاءُ مَعًا لِتُكَوِّنَ---------- تَقُومُ بِوَظَائِفَ حَيَوِيَّةٍ مُحَدَّدَةٍ،

4- ---------- الَّذِي يَنْقُلُ الدَّمَ إِلَى جَمِيعِ أَجْزَاءِ الْجِسْمِ.

5- لِكَيْ نَرَى الْخَلايا فَإِنَّنَا نَحْتَاجُ إِلى ----------.

بسم الله الرحمن الرحيم

أوراق عمل لقياس المهارات

اسعن بالله أولا – ابدأ بالبسملة – لا تسرع في الإجابة – تأكد أنك أجبت على كل الأسئلة

الصف : الصف الرابع الابتدائي المادة : العلوم اسم الطالب :.....

الفصل الأول ورقة عمل رقم 2

1- أختر الإجابة الصحيحة من بين الأقواس

(مَخْلُوقاتٌ حَيَّةٌ - الغذاء - الْخَلِيَّةُ - التكاثر - الأكسجين)

1- النَّبَاتَاتُ والحَيَوانَاتُ---------- ، تَتَكَوَّنُ مِنْ خَلايَا.

2- ---------- هي أصغر وَحْدَةٍ في بِنَاءِ الْمَخْلُوقاتِ الْحَيَّةِ

3- تَحْتاجُ جَمِيعُ المَخْلُوقاتِ الحَيَّةِ إِلَى الْماءِ ، والْغِذاءِ ، وَإِلى مَكانٍ لِتَعِيشَ فيهِ ، كَما أَنَّها تَحْتاجُ إِلَى وَهُوَ غازٌ---------- مَوْجُودٌ فِي الْهَواءِ.

4- ---------- ، وَهُوَ إِنْتاجُ مَخْلُوقاتٍ حَيَّةٍ جَديدَةٍ مِنْ نَوْعِهِ.

5- تَحْصُلُ الْمَخْلُوقَاتُ الْحَيَّةُ عَلَى الطَّاقَةِ مِنَ ---------- الَّذِي تأكله

2- ضع علامة صح √ امام العبارات الصحيحة أو خطأ × أمام العبارات الخطأ

1- هُناكَ جِدَارٌ صُلْبٌ يُحِيطُ بالْخَلِيَّةِ النباتية يُسَمَّى الْجِدار الْخَلَوِيَّ، يُعْطِيها شَكْلاً يُشْبِهُ الصُّنْدُوقَ

2- يَتَحَكَّمُ في نشَاطَاتِ الْخَلِيَّةِ الْحَيَوَانِيَّةِ وَالْخَلِيَّةِ النَّباتيَّةِ جُزْءٌ يُوجَدُ دَاخِلَ الْخَلِيَّةِ يُسَمَّى البلاستيدة

3- .يُحِيطُ بالنواة سَائِلٌ يُسَمَّى السَّيْتُوبْلازْمَ.

4- الخَلايَا العضلية الَّتِي تَنْقُلُ إِشَارَاتٍ(مَعْلُومَاتٍ)بَيْنَ أَجْزَاءِ جِسْمِكَ .

5- الخلايا تكوّنُ أعْضَاءً

6- النَّسِيجُ :مَجْمُوعَةٌ مِنَ الْخَلايَا الْمُتَماثِلَةِ تَجْتَمِعُ مَعًا.

7- تَعْمَلُ الآنسجة مَعًا لِتُكَوِّنَ جَهَازًا تَقُومُ بِوَظَائِفَ حَيَوِيَّةٍ مُحَدَّدَةٍ،

8- الجِهَازِ الدَّوْرِيِّ يَنْقُلُ الدَّمَ إِلَى جَمِيعِ أَجْزَاءِ الْجِسْمِ.

9- مُعْظَمُ الخَلايا كبيرة جدًّا، يُمْكِنُ رُؤْيَتُهُ بالْعَيْنِ المُجَرَّدَةِ،

10- لِكَيْ نَرَى الْخَلايا فَإِنَّنَا نَحْتَاجُ إِلى مَجَاهِرَ.

3- أكمل البيانات علي الرسم

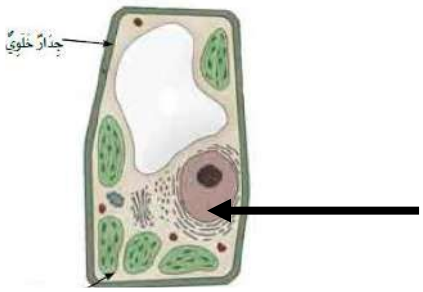

الرسم يوضح خلية ------

أتقن : لم يتقن :

ليس عيبا أن نخطئ و لكن العيب أن نستمر في الخطأ

توقيع ولي الأمر :

بسم الله الرحمن الرحيم

أوراق عمل لقياس المهارات

اسعن بالله أولا – ابدأ بالبسملة – لا تسرع في الإجابة – تأكد أنك أجبت على كل الأسئلة

الصف : الصف الرابع الابتدائي المادة : العلوم اسم الطالب :.....

ورقة عمل رقم (3)

أكمل الشكل الآتي

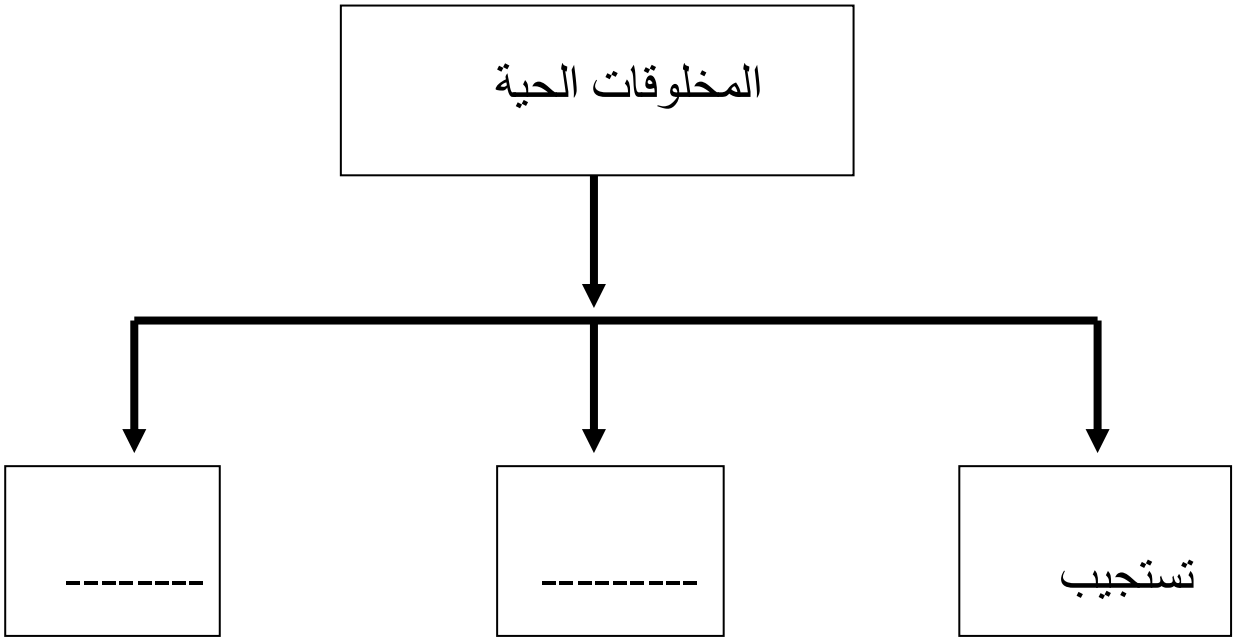

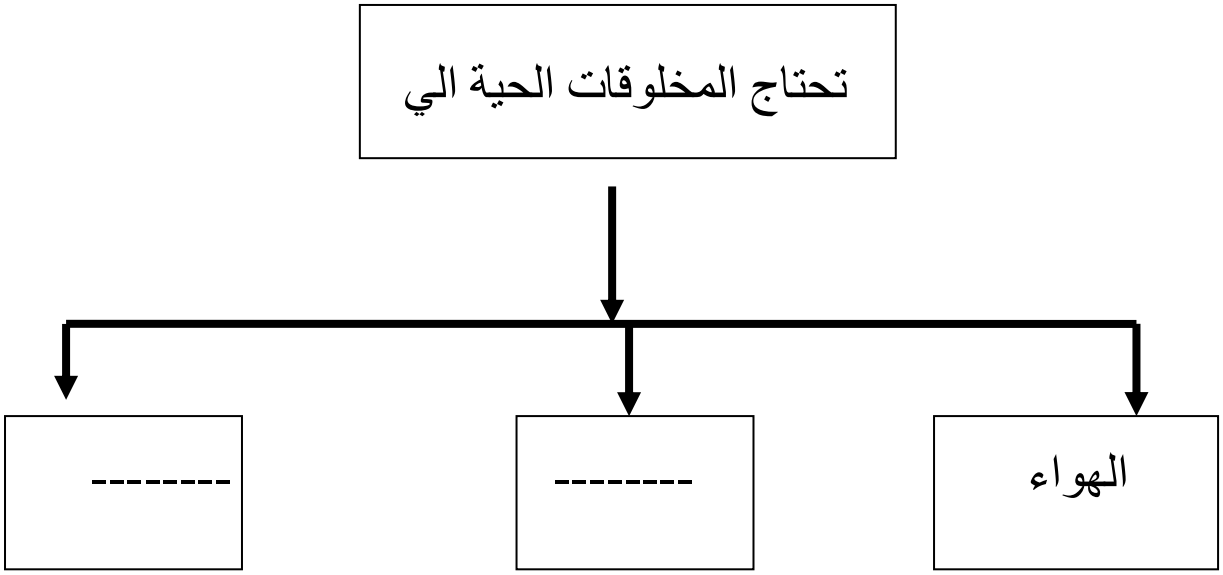

بسم الله الرحمن الرحيم

أوراق عمل لقياس المهارات

اسعن بالله أولا – ابدأ بالبسملة – لا تسرع في الإجابة – تأكد أنك أجبت على كل الأسئلة

الصف : الصف الرابع الابتدائي المادة : العلوم اسم الطالب :.....

ورقة عمل رقم 4

أكمل الجمل الاتية مستعينا بالكلمات الآتية

(الاكسجين — ثاني اكسيد الكربون — الغذاء)

1- يحتاج معظم المخلوقات الحية إلي غاز----------

2- النباتات تحتاج إلي غاز---------- والماء وضوء الشمس لتصنع -------

2- أكمل الجدول آلاتي كما في المربع الاول

	الجذر	الساق	الأوراق
يثبت النبات في التربة	√		
تحمل الأوراق			
تستخدم الهواء وضوء الشمس لتصنع الغذاء			

3- أكمل :-

1- أجزاء النبات هي الجذور - الساق ، الأوراق ---------- و----------

2- نأكل من نبات الخس ----------

3- عندما آكل الجزر فإني آكل ----------

بسم الله الرحمن الرحيم

أوراق عمل لقياس المهارات

اسعن بالله أولا – ابدأ بالبسملة – لا تسرع في الإجابة – تأكد أنك أجبت على كل الأسئلة

الصف : الصف الرابع الابتدائي المادة : العلوم اسم الطالب :.....

الفصل الاول الدرس الثاني

1- ضع علامة √ امام العبارات الصحيحة وعلامة خطأ امام العبارات الخطأ

2- .الْمَمَالِكُ السِّتُّ هِيَ :مَمْلَكَةٌ لِلنَّباتاتِ، وأُخْرَى لِلْحَيَواناتِ، ومَمْلَكَتَانِ لِلْبكْتِيرْيَا مَمْلَكَةٌ للطَّلائِعِيَّاتِ، وأُخْرَى للفطْرِيَّات

3- قَسَّمَ العُلَمَاءُ الْمَمالِكَ إِلَى مَجْمُوعَاتٍ أصْغَرَ يُسَمَّى كُلٌّ مِنْهَا شعبة وَاحِدَةٍ عَلَى الأقَلِّ

4- كُلُّ طائِفَةٍ تَضُمُّ مَجْمُوعاتٍ أَصْغَرَ تُسَمَّى الرُّتَبَ.

5- الفُطْرِيَّاتُ مَخْلُوقاتٌ حَيَّةٌ دَقِيقَةٌ تَحْمِلُ بَعْضَ صِفَاتِ النَّبَاتَاتِ، فَخَلايَاها لَها جُدْرَانٌ خَلَوِيَّةٌ، ولَكِنَّهَا لا تَحْتَوِي عَلَى كُلُورُوفِيل؛ لِذَلِكَ فَهِيَ لا تَسْتَطِيعُ أَنْ تَصْنَعَ غِذَاءَها بِنَفْسِها

6- الْبرَامِيسْيُومِ من الطَّلائِعِيَّاتُ

اختر الإجابة الصحيحة

1- اتَّفقَ العُلَماءُ عَلَى تَقْسِيمِ الْمَخْلُوقَاتِ الْحَيَّةِ إِلَى -------- مَمالِكَ

أ- 3 ب- 5 ت- 6 ث- 8

2- ---------- هِيَ الْمَجْمُوعَةُ الكُبْرَى الَّتِي تُصَنَّفُ إِلَيْهَا الْمَخْلُوقَاتُ الْحَيَّةُ،

أ- الطائفة ب- المملكة ت- الشعبة ث- النوع

3- .الْمَمَالِكُ السِّتُّ هِيَ :مَمْلَكَةٌ ----------، وأُخْرَى لِلْحَيَواناتِ، ومَمْلَكَتَانِ لِلْبكْتِيرْيَا مَمْلَكَةٌ للطَّلائِعِيَّاتِ، وأُخْرَى للفطْرِيَّات

أ- النباتات ب- الحيوانات ت- الأسماك ث- الزواحف

4- وتَضُمُّ الشُّعْبَةُ مَجْمُوعاتٍ أَصْغَرَ تُسَمَّى ----------

ا- رتب- ب- انواع ت- شعب ث- طوائف

5- أَصْغَرُ مَجْمُوعَةٍ فِي التَّصْنِيفِ هِيَ مَجْمُوعَةُ ----------،

ا- الجنس ب- انواع ت- شعب ث- طوائف

6- ---------- أبْسَطُ وأصغرُ الْمَخْلُوقَاتِ الْحَيَّةِ الدَّقِيقَةِ، وَهِيَ المخْلُوقُ الحَيُّ الوَحِيْدُ الَّذي لا يَحْتَوِي عَلَى نَوَاةٍ.

أ- الْبَكْتِيرْيَا ب- الفطريات ت- الحيوانات ت- البناتات

7- تُعَدُّ ---------- مِنْ أَكْثَرِ الفُطْرِيَّاتِ استِعْمَالاً، فَهِيَ الَّتِي تُسبِّبُ انْتِفَاخَ الْعَجِينِ.

ا- الْبَكْتِيرْيَا ب- الحيوانات ت- الخميرة ت- البناتات

بسم الله الرحمن الرحيم

أوراق عمل لقياس المهارات

اسعن بالله أولا – ابدأ بالبسملة – لا تسرع في الإجابة – تأكد أنك أجبت على كل الأسئلة

الصف : الصف الرابع الابتدائي المادة : العلوم اسم الطالب :.....

الفصل الأول - الدرس الثالث ورقة عمل رقم ( )

ضع علامة صح (√) امام العبارات الصحيحة وخطأ(×) امام الخطأ

1- يُمْكِنُ تَصْنِيْفُ النَّبَاتاتِ بِناءً عَلَى مَا إذا كانَتَ تُنْتِجُ أوْ لا تُنْتِجُ بُذُوراً.

2- تَمْتَصُّ السيقان الْمَاءَ وَالْمَوادَّ الْمُغَذِّيَةَ مِنَ التُّرْبَةِ، كَمَا تُثَبِّتُ النَّبَاتَ أَيْضًا فِيهَا.

3- تَنْمُو السِّيقَانُ فَوْقَ سَطْحِ التُّرْبَةِ، وَتَنْقُلُ الْمَاءَ وَالْغِذَاءَ إِلَى أَجْزَاءِ النَّبَاتِ كَافَّةً.

4- النَّبَاتَاتُ تُنْتِجُ غِذَاءَهَا فِي الأَوْرَاقِ مِنْ خِلالِ عَمْلِيَّةِ التنفس

5- تَسْتَعْمِلُ النَّباتَاتُ طَاقَةَ الكهرباء لِتَصْنَعَ الْغِذَاءَ مِنَ الْمَاءِ وَثَانِي أُكْسِيدِ الكَرْبُونِ .وَتُسَمَّى هَذِهِ العَمَلِيَّةُ الْبِنَاءَ الضَّوْئِيَّ،

6- عَنْدمَا يَمْتَصُّ الْكُلُورُوفِيلُ طَاقَةً كَافِيةً يَتَّحِدُ الْمَاءُ وَثَانِي أُكْسِيدِ الكَرْبُونِ مَعًا لإِنْتَاجِ السُّكَّرِ وَغَازِ النتروجين الَّذِي تَطْرَحُه الخَلايَا خَارِجًا.

7- يَخْرُجُ الْمَاءُ الزَّائِدُ مِنَ الْوَرَقَةِ، وتُسَمَّى هَذِهِ العَمَلِيَّةُ النَّتْحَ

8- الطماطم نَباتَ لا بَذْرِيَّ، لَيْسَ لَهَ جُذُورٌ وَلاسِيقَانٌ وَلاأَوْرَاقٌ، وتَيَكَاثَرُ بَوسَاطَةِ الأَبْوَاغِ.

9- البُوغُ خَلِيَّةٌ فِي النَّبَاتاتِ اللاَّبَذْرِيَّةِ تَنْمُو لإِنْتَاجِ نَبَاتٍ جَدِيدٍ

10- الْخَسُّ وَالسَّبانِخُ نَبَاتَاتٌ تُؤْكَلُ أَوْرَاقُها .

11- إِذَا أَكَلْنا الْجَزَرَ أَوِ الْفِجْلَ فَإِنَّنا نَأكُلُ البذور.

اختر الإجابة الصحيحة

-1

مَا جُزْءُ النَّبَاتِ الَّذِي يُؤْكَلُ فِي الصُّورَةِ ؟

أ. سَاقٌ.

ب. جَذْرٌ.

جـ. ثَمَرَةٌ.

د. وَرَقَةٌ.

بسم الله الرحمن الرحيم

أوراق عمل لقياس المهارات

استعن بالله أولا – ابدأ بالبسملة – لا تسرع في الإجابة – تأكد أنك أجبت على كل الأسئلة

الصف : الصف الرابع الابتدائي المادة : العلوم اسم الطالب :.....

2- يَحتاجُ الإنسانُ إلى جميعِ الأشياءِ التّاليةِ ليَبقى حيًّا، ما عدا واحدًا منها، هو:

أ- الضّوء. ب- ثاني أكسيد الكربون.

ج- الماء. د- الأكسجين.

3- أيُّ أجزاءِ النّباتِ يحدثُ فيه معظمُ عمليّةِ البناءِ الضّوئيّ؟

أ- السّيقانُ الخشبيّةُ. ب- الأوراق.

ج- الشّعيراتُ الجذريّةُ. د- الجذور.

4- اكمل البيانات الناقصة

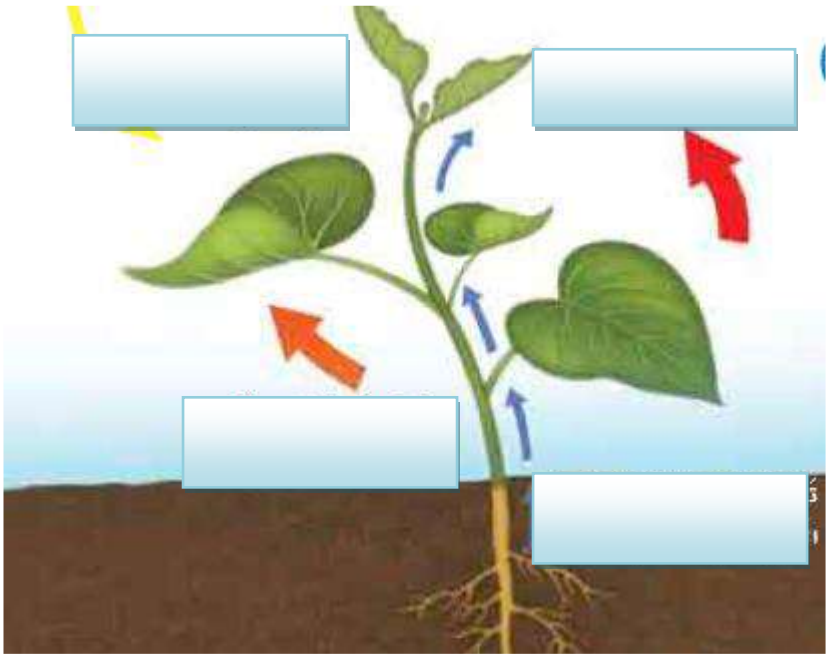

بسم الله الرحمن الرحيم

أوراق عمل لقياس المهارات

اسعن بالله أولا – ابدأ بالبسملة – لا تسرع في الإجابة – تأكد أنك أجبت على كل الأسئلة

الصف : الصف الرابع الابتدائي المادة : العلوم اسم الطالب :.....

الفصل الثاني درس 1 ورقة عمل رقم ( )

اختر الإجابة الصحيحة

1- الحيوانات التي لَهاُ عَمُودٌ فَقَرِيٌّ تسمي----------
أ- الفقاريات ب- اللافقاريات ت – الحشرات

2- الحيوانات التي لَهاُ لَيْسَ لَهُ عَمُودٌ فَقَرِيٌّ----------
ب- الفقاريات ب- اللافقاريات ت – الأسماك

3- كل مما ياتي من الحيوانات اللا الفقارية ماعدا--------
ا- الرخويات ب- الجلد شوكيات ت- الزواحف

4- --------أَبْسَطُ اللاّفَقاريّاتِ ، ومُعْظَمُها لهُ شَكْلٌ يُشْبِهُ الكِيسَ لهُ فُتْحَةٌ في أَعْلاهُ
ا- الاسفنجيات ب- الجلد شوكيات ت- المفصليات

5- ---------- :حَيَواناتٌ لها أَجزاءٌ تُسَمَّى لَوَامِسَ تُشْبِهُ الأَذْرُعَ يَنْتَهِي كُلٌّ مِنْها بخَلايَا لاسِعَةٍ مِثْلِ قِنْديلِ البَحْرِ.
ا- الاسفنجيات ب- الجلد شوكيات ت- اللاسعات

6- ---------- مِن الرَّخويّاتِ الوَحيدَةِ الَّتِي تَستَطيعُ العَيْشَ عَلَى اليابِسَةِ
ا- الأسماك ب- الحلزون ت- الجلد شوكيات

7- ----------أَكْبَرُ مَجْمُوعَةٍ في اللاَّفَقَارِيَّاتِ،
ا- المفصليات ب- الحلزون ت- الجلد شوكيات

8- دودة الأرض من الديدان ----------
أ- الأسطوانية ب- المسطحة ت- الحلقية

اكتب المصطلح العلمي :-

1- مجموعة حيوانات لها عمود فقري
2- :أَكْبَرُ مَجْمُوعَةٍ في اللافقاريات لها أَرْجُلٌ مِفْصَلِيَّةٌ ، وَأَجْسَامُهَا مُقَسَّمَةٌ إِلَى أَجْزاءٍ مِثْلِ السَّرَطان مِثْلِ الْحَشَرات والعَنْاكِبِ

بسم الله الرحمن الرحيم

أوراق عمل لقياس المهارات

اسعن بالله أولا - ابدأ بالبسملة - لا تسرع في الإجابة - تأكد أنك أجبت على كل الأسئلة

الصف : الصف الرابع الابتدائي المادة : العلوم اسم الطالب :.....

فصل 2 درس 2 ورقة عمل رقم ( )

أكمل ما يلي

1-تُقَسَّمُ الفَقَارِيَّاتُ إِلَى سَبْعِ طَوَائِفَ، هِيَ:الأَسْمَاكُ العَدِيمةُ الفَكِّ(اللاَّفِكِّيَّةُ)، والأَسْمَاكُ الغُضْرُوفِيَّةُ، والأَسْمَاكُ العَظْمِيَّةُ، و----------و---------، و---------، والثَّدْيِيَّاتُ.

2- تَنْقَسِمُ الأَسْمَاكُ إِلى ثَلاَثِ طَوَائِفَ هِيَ :الأَسماكُ عَدِيمَةُ الفَكِّ، والأَسماكُ ----------، والأَسماكُ ----------

3-الأَسْمَاكُ الغُضْرُوفِيَّةُ تَحْتَوِي هَيَاكِلُها عَلَى مَادَّةٍ مَرِنَةٍ تُسَمَّى ----------

4----------حيوانات فقارية تقضي جُزْءًا من دَوْرَةِ حَياتِها في المَاءِ وَتَقْضِي الجُزْءَ الآخَرَ عَلَى اليابِسَةِ.

5- تَنْتَمي السَّحَالِي وَالثَّعَابِينُ والسَّلاحِفُ إِلَى ----------

6- .---------- مِنَ الْحَيَوَانَاتِ المُتَغَيِّرَةِ دَرَجَةِ الْحَرَارَةِ ، الَّتِي تَعِيشُ عَلَى اليابِسَةِ، وجِلْدُها مُغَطًّى بِحراشِفَ أَو صَفائِحَ تَحْميها من فُقْدانِ

7---------- حَيَوَاناتٌ فَقَارِيَّةٌ ثَابِتَةُ دَرَجَةِ الْحَرَارَةِ ، لها ريشٌ خَفيفٌ يُبْقيها دافِئَةً وجافَّةً ، ولها مَناقِيرُ ورِجْلانِ تَنْتَهيانِ بِقَدَمَيْنِ لَهُما مَخَالِبُ ، ويُوجَدُ عَلَى أَقْدامِها حَراشِفُ.

ضع علامة صح أو خطا

1- الأسد من الحيوانات ثابتة درجة الحرارة

2- الطيور من اللافقاريات

3- الجهاز العضلي عبارة عن عضلات

4- العضو الرئيس في الجهاز الدوري هو الرئة

5- من أنواع الأسماك اسماك غضروفية وعظمية وذيلية

بسم الله الرحمن الرحيم

أوراق عمل لقياس المهارات

اسعن بالله أولا – ابدأ بالبسملة – لا تسرع في الإجابة – تأكد أنك أجبت على كل الأسئلة

الصف : الصف الرابع الابتدائي المادة : العلوم اسم الطالب :.....

فصل 2 درس 3 ورقة عمل رقم ( )

أكمل ما يلي

1-----حيوانات لها القَدِرَةُ عَلَى الطَّيَرانِ لها عِظامٌ خَفِيفةٌ مَجَوَّفَةٌ، وَرِئاتٌ فَعَّالَةٌ قَوِيَّةٌ، كَمَا أَنَّ شَكْلَ أَجْنِحَتِها وعَضَلاتِها القَوِيَّةَ يُساعِدانِها عَلَى الطَّيَرانِ.

2----- حَيَواناتٌ فَقَارِيَّةٌ من ذَواتِ الدَّمِ الحارِّ .لها شَعْرٌ وَفِراءٌ يَكْسُو جِسْمَها

3- تتعاونُ ثَلاثَةُ أجهِزَةٍ مَعاً لتساعِدَ الحيواناتِ عَلَى الحَرَكَةِ والاستجَابَةِ للمؤثِّراتِ الخَارِجَيةِ. و هِيَ : الْجَهَازُ -------، وَالْجَهَازُ ----------، والْجَهَازُ ----------

4- تُكَوِّنُ عِظامُ الفَقَارِيَّاتِ الْجَهازَ ---------- الَّذِي يَدْعَمُ الْجِسْمَ ويَحْمِي الأَعْضَاءَ الدَّاخِلِيَّةَ.

5- يَعْمَلُ الجَهازُ الهَيْكَلِيُّ مَعَ الجَهازِ ---------- لِمُساعَدَةِ الحَيَوانِ عَلَى الْحَرَكَةِ.

6- يَتَكَوَّنُ الجَهازُ العَضَلِيُّ من ----------، وهي نَسيجٌ عَضَلِيٌّ قَوِيٌّ يُحَرِّكُ العِظَامَ.

7- الْجَهَازُ الَّذِي يَتَحَكَّمُ فِي جَميعِ أَجْهِزَةِ الجِسْمِ هُوَ الجَهَازُ ---------- .ويَتَكَوَّنُ من خَلايا عَصَبِيَّةٍ .

8- يُساعِدُ الجَهازُ ---------- عَلَى نَقْلِ الأُكْسجينِ إِلَى الدَّمِ وتَخْليصِهِ من الفَضَلاتِ مثلِ غاز ثاني أُكْسيدِ الكَرْبونِ.

اكمل الجدول

	الحيوانات ثابتة درجة الحرارة	الحيوانات متغيرة درجة الحرارة
درجة حرارة الجسم		
مثال	الطّيُور و----------	الأسْمَاكُ و--------- و-------

من انا

1- جهاز يهضم الطعام ----------
2- جهاز عبارة عن عضلات يساعد في الحركة ----------
3- جهاز يقوم بإخراج الفضلات من الجسم ----------
4- جهاز يتحكم في جميع اجهزة الجسم ----------
5- جهاز يتكون من الرئات او الخياشيم ----------
6- جهاز يتكون من الدم والقلب الاوعية ----------

بسم الله الرحمن الرحيم

أوراق عمل لقياس المهارات

اسعن بالله أولا – ابدأ بالبسملة – لا تسرع في الإجابة – تأكد أنك أجبت على كل الأسئلة

الصف : الصف الرابع الابتدائي المادة : العلوم اسم الطالب :.....

الفصل الثاني : ورقة عمل رقم ( )

س1:- اكمل ما ياتي

(الإخراجي - الخياشيم - الدوري – القلب – الهضمي)

1-تتنفس الاسماك بـ----------

2- يَتَكَوَّنُ الْجَهَازُ ---------- مِن القَلْبِ والدَّمِ والأَوْعِيَةِ الدَّمَويَّةِ.

3- يُعَدُّ ---------- العُضْوَ الرَّئيسَي في الجَهازِ الدوري، ولَهُ عَضَلاتٌ قَويّةٌ لِضَخِّ الدَّمِ إلى جَميعِ أَجْزَاءِ الْجِسْمِ.

4- عَنْدما تُحَلِّلُ الخَلايا الطَّعامَ يَنْتُجُ عَن ذَلِكَ فَضَلاتٌ يَقُومُ الجَهازُ ---------- بالتَّخَلُّصِ مِنها.

5- يُساعِدُ الجَهازُ ---------- عَلَى تَحْليلِ الطَّعامِ

س2:- صل بين المتشابهين

ما يغطي جسمه	الحيوان
يغطي جسم الحيوان الريش	الزواحف
يغطي جسم الحيوان الشعر والفرو	الطيور
يغطي جسم الحيوان القشور	البرمائيات
يغطي جسم الحيوان الجلد الرطب	الطيور
يغطي جسم الحيوان حراشيف او صفائح تحميه من الحر	الثدييات

س 3:- من أنا

1- حيوان يتنفس بالخياشيم ومن الفقاريات

2- حيوان يطير وله ريش واجنحة قوية

3- حيوان يعيش في الماء ثم يعيش علي اليابسة

4- نوع من الآسماك هيكله ليس من العظام

بسم الله الرحمن الرحيم

أوراق عمل لقياس المهارات

اسعن بالله أولا – ابدأ بالبسملة – لا تسرع في الإجابة – تأكد أنك أجبت على كل الأسئلة

الصف : الصف الرابع الابتدائي المادة : العلوم اسم الطالب :.....

فصل 3 درس 1 ورقة عمل رقم ( )

س1:- اكمل بكلمة مناسبة

1- ---------- مَكانٌ يَعِيشُ فيهِ الْمَخْلُوقُ الْحَيُّ.

2- ---------- هي جَميعِ الْمَخْلوقاتِ الْحَيَّةِ في الْبيئَةِ .بِمَا في ذَلِكَ النَّباتَاتُ، والْحَيَواناتُ والبكْتِيرْيَا، بَلْ الإِنْسَانُ أَيْضًا.

3- يتشكل ----------من مجموعة من العوامل الحيوية والعوامل اللاحيوية

س2: ضع علامة صح أو خطأ

1- الْجَماعَةُ الحْيَوِيةُّ هِيَ جَمِيعُ أَفْرادِ النَّوْعِ الوَاحِدِ الَّتِي تَعِيشُ في نِظامٍ بِيئِيٍّ ، مِثْل جَماعَةِ زَنابِقِ الْماءِ الَّتِي تَعيشُ في بِرْكَةٍ ، وكَذَلِكَ جَماعَةُ الضَّفادِعِ.

2- جَمِيعُ الْجَماعاتِ في النِّظامِ البيئيِّ فَتُشَكِّلُ الموطن

3- أَهَمُّ الأَنْظِمَةِ الْبِيئِيَّةِ الْمَائِيَّةِ الْبِرَكُ وَالْبُحَيْرَاتُ والمصاطب وَالْبِحَارُ و الجبال

بسم الله الرحمن الرحيم

أوراق عمل لقياس المهارات

اسعن بالله أولا – ابدأ بالبسملة – لا تسرع في الإجابة – تأكد أنك أجبت على كل الأسئلة

الصف : الصف الرابع الابتدائي المادة : العلوم اسم الطالب :.....

فصل 3 درس 1 ورقة عمل رقم ( )

اختر الإجابة الصحيحة

1- جَمِيعُ الْجَماعاتِ في النِّظامِ البيئيِّ فَتُشَكِّلُ----------
أ- الْمُجْتَمَعَ الْحَيَوِيَّ
ب- الموطن
ت- المنزل
ث- الحديقة

2- أمثلة للمناطق البيئية كل مما ياتي ما عدا----------
ا- مِنْطَقَةُ الصَّحْرَاءِ الرَّمْلِيَّةِ
ب - الْمِنْطَقَةُ الْعُشْبِيَّةُ ،
ت- وَمَنَاطِقُ الْغَابَاتِ(الغابات متساقطة الأوراق)
ث- الفضاء الخارجي

3- أَهَمُّ الأَنْظِمَةِ الْبِيئِيَّةِ----------الْبِرَكُ وَالْبُحَيْرَاتُ وَالأَنْهَارُ وَالْبِحَارُ وَالْمُحِيطَاتُ.
أ- المائية
ب- الصخرية
ت- الصحراوية

4- أي المناطق الجيوية بها أشجار أكثر----
أ- الصحراء
ب- الغابة
ت- المنطقة العشبية
ث- المنطقة القطبية

ضع علامة صح أو خطأ

1- الْجَماعَةُ الْحَيَوِيَّةُ هِيَ جَمِيعُ أَفْرادِ النَّوْعِ الوَاحِدِ الَّتِي تَعِيشُ في نِظامٍ بِيئِيٍّ ، مِثْل جَماعَةِ زَنابِقِ الْماءِ الَّتِي تَعيشُ في بِرْكَةٍ ، وكَذَلِكَ جَماعَةُ الضَّفادِعِ.

2- جَمِيعُ الْجَماعاتِ في النِّظامِ البيئيِّ فَتُشَكِّلُ الموطن

3- أَهَمُّ الأَنْظِمَةِ الْبِيئِيَّةِ الْمَائِيَّةِ الْبِرَكُ وَالْبُحَيْرَاتُ والمصاطب وَالْبِحَارُ و الجبال

4- المنطقة الحيوية هي نظام بيئي كبير له نباتاته وحيواناته وتربته الخاصة به

5- معظم الوطن العربي ينتمي الي مناطق حيوية تسمي الغابات

بسم الله الرحمن الرحيم

أوراق عمل لقياس المهارات

اسعن بالله أولا – ابدأ بالبسملة – لا تسرع في الإجابة – تأكد أنك أجبت على كل الأسئلة

الصف : الصف الرابع الابتدائي المادة : العلوم اسم الطالب :.....

الفصل الثالث الدرس الأول ورقة عمل رقم ( )

اختر الإجابة الصحيحة

1- الْعَوامِلِ الحَيَوِيَّةِ هي جَميعِ الْمَخْلوقاتِ الْحَيَّةِ في الْبيئَةِ .بِمَا في ذَلِكَ----------

أ- الْمَاءِ وَالصَّخْرِ

ب- وَالتُّرْبَةِ وَالنبات

ت- الْقَلَمِ. والحيوان

ث- النَّباتَاتُ ، والْحَيَواناتُ والبكْتِيرْيَا ،و الإنْسَانُ.

2- الْعَوَامِلِ غَيْرِ الْحَيَوِيَّةِ هي الأَشْيَاءَ غَيْرَ الْحَيَّةِ فِي الْبِيئَةِ مِثْلِ----------

ا- الْمَاءِ وَالصَّخْرِ

ب- وَالتُّرْبَةِ وَالنبات

ت- الْقَلَمِ. والحيوان

أكمل الجمل الاتية

3- جَمِيعُ الْجَماعاتِ في النِّظامِ البيئيِّ فَتُشَكِّلُ ---------- كَما هُوَ الْحَالُ فِي مُجْتَمَعِ الْبِرْكَةِ الَّذِي يَتَكَوَّنُ مِن ضَفادِعَ، وأَسْمَاكٍ وزَنابِقَ وحَشَراتٍ.

4- من أمثلة للمناطق البيئية مِنْطَقَةُ ---------- -ومنطقة ---------- وَمَنَاطِقُ ----- ----

5- أَهَمُّ الأَنْظِمَةِ الْبِيئِيَّةِ الْمَائِيَّةِ ----------و----------و----------

ليس عيبا أن نخطئ و لكن العيب أن نستمر في الخطأ

أتقن :

لم يتقن :

توقيع ولي الأمر :

بسم الله الرحمن الرحيم

أوراق عمل لقياس المهارات

اسعن بالله أولا – ابدأ بالبسملة – لا تسرع في الإجابة – تأكد أنك أجبت على كل الأسئلة

الصف : الصف الرابع الابتدائي المادة : العلوم اسم الطالب :.....

الفصل الثالث درس 2 ورقة عمل رقم ( )

اختر الإجابة الصحيحة

1- ---------- هي مَخْلوقاتٌ حَيَّةٌ ، وَمِنْهَا النَّبَاتَاتُ ، قادِرَةٌ عَلَى صنْعِ الْغِذاءِ.

أ- اَلْمُنْتِجَاتُ
ب- المستهلكات
ت- المحللات

2- أَهَمُّ الْمُنْتِجاتِ على الْيَابِسَةِ النَّباتاتُ الْخَضْراءُ من مِثْلِ----------.

أ- الأسماك
ب- الطيور
ت- الأَشْجارِ والأَعْشابِ

1- أهَمُّ الْمُنْتِجاتِ الْمُحِيطاتِ والْبُحَيْراتِ هي ----------.

أ- الأسماك
ب- الطَّحالِبُ
ت- الأَشْجارِ والأَعْشابِ

2- اَلْمَخْلُوقاتُ الْحَيَّةُ الَّتِي لا تَستَطِيعُ صُنْعَ غِذَائِها بِنَفْسِها تُسَمَّى ----------

أ- الْمُنْتِجاتُ
ب- المستهلكات
ت- المحللات

3- الطيور والثدييات من ----------

أ- الْمُنْتِجاتُ
ب- المستهلكات
ت- المحللات

4- من آكلات الأعشاب------و----------

أ- الأسد والنمر
ب- الفيل والصقر
ت- الْقَوَارِضِ، والأَرانِبِ، وَالْغِزْلانِ

5- آكلات الأعشاب تأكل ------

أ- الْمُنْتِجاتُ
ب- المستهلكات
ت- المحللات

ليس عيبا أن نخطئ و لكن العيب أن نستمر في الخطأ

أتقن :

لم يتقن :

توقيع ولي الأمر :

بسم الله الرحمن الرحيم

أوراق عمل لقياس المهارات

استعن بالله أولا – ابدأ بالبسملة – لا تتسرع في الإجابة – تأكد أنك أجبت على كل الأسئلة

الصف : الصف الرابع الابتدائي المادة : العلوم اسم الطالب :.....

6- بَعْضُ الْحَيَواناتِ تَتَغَذَّى عَلَى الْمُنْتِجاتِ والْمُستَهْلِكاتِ وتُسَمَّى ----------

أ- مُزْدَوِجَةَ التَّغْذِيَةِ (القوارت)

ب- آكلات أعشاب

ت- آكلات لحوم

7- تَقومُ بَعْضُ الْمَخْلوقاتِ بِتَحْليلِ الْمَوادِّ الْمَيِّتَةِ، وتُسَمَّى ----------

أ- الْمُنْتِجاتُ

ب- المستهلكات

ت- المحللات

بسم الله الرحمن الرحيم

أوراق عمل لقياس المهارات

اسعن بالله أولا – ابدأ بالبسملة – لا تسرع في الإجابة – تأكد أنك أجبت على كل الأسئلة

الصف : الصف الرابع الابتدائي المادة : العلوم اسم الطالب :.....

الفصل الثالث درس 2 ورقة عمل رقم ( )

اختار الإجابة الصحيحة

1- انتقال الطَّاقَةُ مِن مَخْلُوقٍ إِلى آخَرَ يسمي----------
أ- السِّلْسِلَةَ الْغِذائِيَّةَ
ب- الشبكة الغذائية
ت- هرم الطاقة

2- ---------- تُوَضِّحُ كَيْفَ تَرْتَبِطُ جَميعُ سَلاسِلِ الْغِذاءِ في النِّظامِ الْبيئيِّ.
أ- السِّلْسِلَةَ الْغِذائِيَّةَ
ب- الشبكة الغذائية
ت- هرم الطاقة

3- ---------- هو نَمُوذَجٌ يُوَضِّحُ كَمِّيَّةَ الطَّاقَةِ فِي كُلِّ مُستوًى مِنْ شَبَكَةِ الغذاءِ.
أ- السِّلْسِلَةَ الْغِذائِيَّةَ
ب- الشبكة الغذائية
ت- هرم الطاقة

4- ----------هُوَ آكِلُ اللُّحوم الَّذِي يَصْطادُ لِيَحْصُلَ عَلَى طَعامِهِ.
أ- الْمُفْتَرِسُ
ب- الفريسة
ت- المحلل

5- الْمَخْلوقُ الْحَيُّ الَّذِي تَمَّ اصْطِيادُه فَهُوَ ----------.
أ- الْمُفْتَرِسُ
ب- الفريسة
ت- المحلل

6- ---------- هو صِراعٌ بَيْنَ الْمَخْلوقاتِ الْحَيَّةِ عَلَى الطَّعامِ والْماءِ وجَميعِ احْتياجاتِها الأُخْرى.
أ- التَّنافُسُ
ب- هرم الطاقة
ت- شبكة الغذاء

7- الدِّيدانُ والبَكْتِيريا والفُطْرِيّاتُ من ----------
أ- الْمُنْتِجاتُ
ب- المستهلكات
ت- المحللات

كون سلسلة غذائية من المخلوقات التالية

ضفدع - حشرة - نبات - ثعبان - نسر - كائن محلل

بسم الله الرحمن الرحيم

أوراق عمل لقياس المهارات

اسعن بالله أولا – ابدأ بالبسملة – لا تسرع في الإجابة – تأكد أنك أجبت على كل الأسئلة

الصف : الصف الرابع الابتدائي المادة : العلوم اسم الطالب :.....

الفصل الثالث درس 3 التغيرات في الأنظمة البيئية
ورقة عمل رقم ( )

أختر الإجابة الصحيحة

1- من الظَوَاهِرُ الطَبِيعيَّةُ
أ- الْبَرَاكِينُ
ب- وَالأَعَاصِير
ت- وَالأَمْطَارُ
ث- كل مما سبق

2- كل مما يأتي يغير النظام البيئي ما عدا
أ- اَلْمَخْلوقاتُ الْحَيَّةُ
ب- الظَوَاهِرُ الطَبِيعيَّةُ
ت- الناس
ث- الفضاء

3- كَيفَ يُغَيِّرُ النَّاسُ النِّظَامَ الْبِيئِيَّ؟
أ- إزالَةُ الْغاباتِ
ب- الاكْتِظاظُ السُّكّانيُّ
ت- التَّلَوُّثُ هُوَ إضافَةُ أَشْياءَ ضَارَّةٍ إِلَى الْماءِ ، والْهَواءِ أو الأَرْضِ
ث- كل ما سبق

4- يمكننا حماية النظام البيئي بواسطة----------
أ- إعادَةِ تَدْوِيرِ
ب- تَرَشِّيدُ استِهْلاكَ الْماءِ
ت- زرع أشجار جديدة
ث- كل ما سبق

5- - كلا مما ياتي من الظواهر الطبيعية ما عدا ---
أ- البراكين
ب- الأعاصير
ت- الأمطار
ث- الحيوانات

اكمل الجمل مستعينا ما بين الأقواس

(.الْمُوَاءَمةَ - الأنقراض - التَّلَوُّثُ)

1- ----------هُوَ إضافَةُ أَشْياءَ ضَارَّةٍ إِلَى الْماءِ ، والْهَواءِ أو الأَرْضِ

2- ----------. هي استِجابَةُ الْحَيَوانِ لِلتَّغَيُّرِ الْحَادِثِ فِي بِيئَتِهِ

3- ----------هو موت أفراد النوع كلها

ليس عيبا أن نخطئ و لكن العيب أن نستمر في الخطأ

أتقن :

لم يتقن :

توقيع ولي الأمر :

بسم الله الرحمن الرحيم

أوراق عمل لقياس المهارات

اسعن بالله أولا – ابدأ بالبسملة – لا تسرع في الإجابة – تأكد أنك أجبت على كل الأسئلة

الصف : الصف الرابع الابتدائي المادة : العلوم اسم الطالب :.....

الفصل الرابع الدرس الأول ورقة عمل رقم ( )

أختر الإجابة الصحيحة من الكلمات بين الأقواس

(الْمَعْدِنُ - الصخْرُ المُتَحَوِّلُ- الْمِيَاهُ الْجَوْفِيَّةُ- التَّلَوُّثُ - الصخْرُ الناريُّ - الصخر الرسوبي)

1- ----------مادَّةٌ طَبِيعيَّةٌ غَيْرُ حَيَّةٍ، تُوجَدُ عادَةً، فِي حَالَتِهَا الطَّبِيعِيَّةِ، فِي قِشرَةِ الأَرْض.

2- ----------صخْرٌ تَكَوَّنَ من أَنْواعٍ أُخْرَى مِنَ الصخُورِ بِفِعْلِ الضغْطِ والحَرارَةِ.

3- ----------مصطَلَحٌ يُطْلَقُ عَلَى الْمَاءِ المَخْزُونِ في الفَرَاغَاتِ بَيْنَ الصخُورِ تَحْت سَطْحِ الأَرْض.

4- ----------هو إضافَةُ مَادَّة ضارَّةٍ أَوْ غَيْرِ مَرْغُوبٍ فِيها إِلَى الْبِيئَةِ.

5- ----------هو صخْرٌ يَتَكَوَّنُ عَنْدَما تَبْرُدُ الصخُورُ المُنْصهِرَةُ.

6- ----------هو صخْرٌ يَتَكَوَّنُ من قِطَع أو طَبَقاتٍ رُسوبيَّة مُتَلاصقٍ بَعْضها بِبَعْض.

السؤال الثاني :- **صل بين العمود الأول ما يناسبه في العمود الثاني**

.

	العمود الأول		العمود الثاني
1	قابِلِيَّةُ أَنْ يَخْدشَ أَحَدُ المَعادِنِ مَعْدِنًا آخَرَ أَوْ أَنْ تَخْدشَهُ مَعادِنُ أُخْرَى	أ	الحُكَاكَةُ
2	الْكَيْفِيَّةِ الَّتِي يَعْكِسُ بِها سَطْحُ المَعْدِنِ الضَّوْءَ السَّاقِطَ عَلَيْهِ	ب	القَساوَةُ
3	عَنْدَما نَحُكُّ مَعْدِنًا بِقِطْعَةٍ خَزَفِيَّةٍ بَيْضاءَ، يَتْرُكُ المَعْدِنُ مَسْحُوقًا عَلَى القِطْعَةِ .	ت	الْبَرِيقُ

السؤال الثالث ضع علامة صح امام العبارة الصحيحة و خطا امام العبارة الخطأ

1- الصُّخُورُ وَالمَعادِنُ ليست مِنْ مَوَارِدِ الأَرْضِ.

بسم الله الرحمن الرحيم

أوراق عمل لقياس المهارات

اسعن بالله أولا – ابدأ بالبسملة – لا تسرع في الإجابة – تأكد أنك أجبت على كل الأسئلة

الصف : الصف الرابع الابتدائي المادة : العلوم اسم الطالب :.....

الفصل الرابع الدرس الأول ورقة عمل رقم ( )

أختر الإجابة الصحيحة من الكلمات بين الأقواس

(الصُّخُورُ النَّارِيَّةُ - الحَجَرِ الرَّمْلِيِّ – المَاجْمَا - اللاَّبَا - الصُّخُورُ الْمُتَحَوِّلَةُ)

1- عِنْدَمَا تَبْرُدُ هَذِهِ الصُّخُورُ المنصَهِرَةُ سَوَاءً بَاطِنِ الأَرْضِ أوْ فَوْقَ سَطْحِهَا فَإِنَّهَا تُكَوِّنُ ----------

2- - ---------- من الصُّخورُ الرُّسوبيَّةُ.

3- فَإِذَا خَرَجَتْ إلى سَطْحِ الأرْضِ فَإِنَّها تُسَمَّى----------

4- الصُّخُورُ المُنْصَهِرَةُ في باطِنِ الأرْضِ تُسَمَّى--------

5- الصُّخُورُ المتَكَوِّنَة مِنْ صُخُورٍ أُخْرى بِفِعْلِ الضَّغْطِ والْحَرارَةِ تُسَمَّى ----------.

السؤال الثاني :- **صل بين العمود الأول ما يناسبه في العمود الثاني**

	العمود الأول		العمود الثاني
1	صَخْرٌ نَارِيٌّ صُلْبٌ يُقاوِمُ التَّجْوِيَةَ والتَّعْرِيَةَ، وَهذِهِ الخَصائِصُ تَجْعَلُهُ مُناسِبًا لِبِناءِ المَدارِسِ وَالمُنْشَآتِ الأُخْرَى	أ	الجرانيت
2	صَخْرٌ رُسُوبِيٌّ يُستَخْدَمُ عَادَةً في صِناعَةِ الطَّباشِيرِ، كَما يَدْخُلُ صِناعَةِ الإسمَنْت	ب	الرُّخامُ
3	-------- صَخْرٌ مُتَحَوِّلٌ ، يُستَخْدَمُ في صِناعَةِ الْبَلاطِ والأعْمِدَةِ الحَجَرِيَّةِ ومَوَاقِدِ النَّارِ	ت	وَالْحَجَرُ الجيري

السؤال الثالث :- ضع علامة صح امام العبارة الصحيحة و خطا امام العبارة الخطأ

1- . الأُوبْسِيدْيَان و الجرانيت وَالْبَازَلْتُ صُخُورٌ متحولة

2- خَصائِصَ المعدن مُخْتَلِفَةٍ، مِنْهَا اللَّوْنُ وَالْقَسَاوَةُ وَالْبَرِيقُ و الحكاكة.

3- من خصائص التربة هِيَ اللون الملمس ، الفَرَاغَاتُ و النَّفَاذِيَّةُ

4- في مقياس القساوة يُشِيرُ الرَّقْمُ 1 إلى المعدن الأَكْثَرِ قَساوَةً

بسم الله الرحمن الرحيم

أوراق عمل لقياس المهارات

اسعن بالله أولا – ابدأ بالبسملة – لا تسرع في الإجابة – تأكد أنك أجبت على كل الأسئلة

الصف : الصف الرابع الابتدائي المادة : العلوم اسم الطالب :.....

الفصل الرابع الدرس الثاني الماء

ورقة عمل رقم

السؤال الأول ضع علامة صح √ امام العبارات الصحيحة أو خطأ امام العبارات الخطا

1- تُجَمَّعُ المياهُ المُستَعْمَلَةُ المُسَمّاةُ المياهَ العادِمَةَ من المُدُنِ، من خِلالِ نِظامِ المجاري المُسَمّى بِنظامِ الصَّرْفِ الصِّحيّ

2- .أَطْلُبُ إلى وَالِدِي إصْلاحَ أَعْطالِ المَغاسِلِ وصَنابيرِ المِياهِ.

3- الطَّرِيقَةُ الأَكْثَرُ شُيُوعًا لِلْوُصُولِ إِلَى الْمِيَاهِ الْجَوْفِيَّةِ هِيَ حَفْرُ الآبَارِ

اختار الإجابة الصحيحة مما يلي

1- من مصادر الماء

أ- الماء المالح

ب-الماء العذب

ت-المياه الجوفية

ث-كلا مما سبق

2- الماء ---------- غير صالح للشرب

أ- العذب

ب-المالح

ت-المطر

3- ----------هي الأماكن التي يتجمع فيها الماء

أ- الخزانات

ب- المياه الجوفية

ت- كلا مما سبق

4- ----------هو عملية توصيل الماء إلي الترب

أ- الري

ب- الرش

ت- التبخير

فسر لماذا يعالج الماء في محطات تنقية الماء

بسم الله الرحمن الرحيم

أوراق عمل لقياس المهارات

اسعن بالله أولا – ابدأ بالبسملة – لا تسرع في الإجابة – تأكد أنك أجبت على كل الأسئلة

الصف : الصف الرابع الابتدائي المادة : العلوم اسم الطالب :.....

الفصل الرابع الدرس الثاني الماء

ورقة عمل رقم

السؤال الأول ضع علامة صح √ امام العبارات الصحيحة أو خطأ امام العبارات الخطا

1- أُغْلِقُ الصُّنْبورَ بَعْدَ الاستِعْمالِ
2- تحْتَوِي مَاءُ البَحْرِ ومَاءُ المُحِيطِ عَلَى كَمِّيَّةٍ كَبِيرَةٍ مِن الأَمْلاحِ ؛ لذا فَهُوَ غَيْرُ صَالِحٍ لِلشُّرْبِ أَوِ الزِّرَاعَةِ.
3- لا يَتِمُّ تَزْويدُ النَّاسِ بِالْمَاءِ قَبْلَ التَّأَكُّدِ مِنْ سَلامَةِ استِعْمالِهِ ؛ لذا يُعَالَجُ فِي مَحَطّاتِ التَّنْقِيَةِ

اختار الإجابة الصحيحة

1- تغطي المحيطات والبحار ما يقرب من ---
أ- ربع سطح الأرض
ب-نصف سطح الأرض
ت-ثلاثة أرباع سح الأرض
ث-كلا مما سبق

2- ----------هو الماء المخزون في الفراغات بين الصخور تحت سطح الأرض
أ- الماء المالح
ب-الماء العذب
ت-المياه الجوفية
ث-كلا مما سبق

3- ----------هو ثقب يحفر في الأرض ليصل إلي المياه الجوفية
أ- البئر
ب- السدود
ت- الخزانات

اذكر بعض استخدامات الماء

ليس عيبا أن نخطئ و لكن العيب أن نستمر في الخطأ

أتقن :

لم يتقن :

توقيع ولي الأمر :