1-تقع دولة قطر في منتصف ساحل الخليج العربي::

أ- الغربي ب- الشرقي ج-الجنوبي د- الشمالي

2- تبلغ مساحة دولة قطر نحو :

أ- 10650كم2 ب- 11610 كم 2 ج-12610 كم 2 د- 13650 كم2

3—تتصل دولة قطر مع المملكة السعودية بريا من جهة :

أ- الشمال ب- الجنوب ج- الغرب د- الشرق

4-الطيات المحدبة ينتج عنها تكون:

أ- المنخفضات ب- البحار ج- المرتفعات د- الخراسيع

5-شبه جزيرة قطر تعد طية محدبة ظهرت خلال الزمن الجيولوجي :

أ- الأول ب- الثاني ج- الثالث د- الرابع

6-تكونت الدحول في الزمن الجيلوجي الرابع نتيجة إذابة الأمطار للصخور :

أ- الجرانيتية ب- البازلتية ج- الكربونية د- الجيرية

7-يغلب على تركيب طبقات الأرض في دولة قطر الصخور :

أ- الجرانيتية ب- البازلتية ج- البركانية د- الجيرية

8-من الطيات المقعرة في دولة قطر طية :

أ- دخان ب- أبروق ج- قطر د- زكريت

9-يطلق على الأراضي التي يقل مستواها عن مستوى الأجزاء المحيطة بها اسم

أ- المنخفضات ب- الكثبان ج- الطعوس د- الفشوت

10- أرض منخفضة نسبيا عما يجاورها من أراض وتصلح للاستقرار البشري والزراعة .

أ- المنخفضات ب- الروضات ج- الكثبان الدحول

11- يطلق على التجمعات الرملية التي تكونها الرياح

أ- الخراسيع ب- الدحول ج- الكثبان الرملية د- الاودية الجافة

12- من السبخات الداخلية في دولة قطر سبخة :

أ- الخور ب- الخفوس ج- العديد مسيعيد

13- يطلق على الأرصفة والكتل المرجانية التي تنتشر أمام السواحل القطرية اسم :

أ- الفشوت ب- الروضات ج- الكثبان د- الدحول

14- قطعة من اليابس تحيط بها المياه من جميع الجهات هي :

أ- الروضة ب- الجزيرة ج- الدوحة د- الخليج

15- من أمثلة الرؤوس الأرضية على الساحل الشرقي لدولة قطر:

د- رأس ركن ج- رأس أبو عبود ب- رأس أبروق أ- رأس دخان

17(وصف حالة الجو لفترة زمنية طويلة قد تكون فصلا أو سنة .)هذا التعريف السابق يشير إلى :

أ- الطقس ب- الرياح ج- الاعصار د- المناخ

18- تقع دولة قطر ضمن الأقليم المناخي :

أ- الاستوائي ب- المداري ج- الصحراوي د- الصيني

19- يتصف مناخ دولة قطر بأنه مناخ :

أ- قاري ب- جزري ج- مداري د- موسمي

20- تنخفض درجة الحرارة في دولة قطر لأدنى معدلاتها في في شهر :

أ- يناير ب- مارس ج- ابريل د- مايو

21-تنخفض درجة الحرارة في دولة قطر لأدنى معدلاتها بسبب تعامد الشمس على مدار :

أ- الجدي ب- الاستواء ج- السرطان د- جرينتش

22-ترتفع درجة الحرارة في دولة قطر لأعلى معدلاتها بسبب تعامد الشمس على مدار :

أ- الجدي ب- الاستواء ج- السرطان د- جرينتش

23--تتأثر دولة قطر بهبوب الريا ح التجارية الجافة (الدائمة) التي تهب من جهة :

أ- الجنوب الشرقي ب- الجنوب الغربي ج- الشمال الشرقي د- الشمال الغربي

24-تسمى الأمطار التي تسقط على دولة قطر في فصل الشتاء أمطار:

أ- موسمية ب- تجارية ج- تضاريسية د- إعصاريه

25- تسقط الأمطار شتاء على دولة قطر بسبب هبوب الرياح :

أ- الموسمية ب- السهيلي ج- الكوس د- العكسية

26- تتسبب المنخفضات الجوية القادمة من البحر المتوسط في سقوط الأمطار :

أ- التصاعدية ب- التضاريسية الإعصارية د- االإنقلابية

27- كمية بخار الماء الموجود في الهواء يطلق عليه :

أ- الرطوبة ب- التكاثف ج- التساقط د- المطر

28-من النباتات المعمرة بدولة قطر :

أ- الكحل ب- القريص ج- السمر د- اللبان

29-توجد نباتات تتحمل نسبة الملوحة في التربة القطرية مثل

أ- القرم ب- السدر ج- الرشا د- الثمام

30- موارد المياه الجوفية غير المتجددة تكون في داخل الأرض على أبعاد :

أ- بسيطة ب- سطحية ج- قريبة د- عميقة

31 -ترتفع نسبة الملوحة والتكوينات الكبريتية بدولة قطر في حوض المياه الجوفي :

أ- الشمالي ب- الجنوبي ج- الشرقي د- الغربي

32-ساعد على سهولة الحركة وإقامة شبكات الطرق :

أ- الرؤوس الأرضية ب- وجود الدوحات ج- استواء السطح د- الكثبان الرملية

33- أول منطقة استقرت فيها قبيلة آل ثاني بعد دخول قطر هي :

أ- الزبارة ب- الرويس ج- الدوحة د- العديد

34-أطلق لقب شيخ الدوحة عام 1863م على الشيخ :

أ- محمد بن ثاني ب- جاسم بن محمد ج- عبد الله بن جاسم د-على بن عبدالله

35- حدد الترتيب الصحيح لحكام أسرة آل ثاني من الأقدم للأحدث .

أ-الشيخ جاسم بن محمد - الشيخ محمد بن ثاني - الشيخ على بن عبدالله

ب- الشيخ على بن عبدالله - الشيخ جاسم بن محمد - الشيخ محمد بن ثاني

ج- الشيخ جاسم بن محمد - الشيخ على بن عبدالله - الشيخ محمد بن ثاني

د- الشيخ محمد بن ثاني - الشيخ جاسم بن محمد - الشيخ على بن عبدالله

36-أطلق على الشيخ محمد بن ثاني لقب :

أ -أمير البلاد ب- رئيس القبائل ج- شيخ الدوحة د- الأمير الوالد

37- في عام 1871م وصلت الى قطر الحامية :

أ- الفرنسية ب- البريطانية ج- الامريكية د – العثمانية

-38-ولد الشيخ جاسم بن محمد في مدينة :

أ- فويرط ب- الزبارة ج- الدوحة د- الرويس

39- تولى الشيخ جاسم بن محمد بن ثاني الحكم في قطر في 18 ديسمبر عام :

أ- 1870م ب- 1874م ج- 1878م د- 1882م

40- من أسباب معركة الوجبة :

أ- التدخل البريطاني في الزبارة . ب- زيادة عدد الجنود الفرنسيين في الدوحة .

ج- فتح مكاتب للبريد في الرويس ودخان. د- محاولة تعيين وكيل عثماني للشيخ جاسم .

41-بعد حدوث معركة الوجبة :

أ- انسحب الوالي العثماني الى الاحساء. ب- تدخلت بريطانيا لإقرار الصلح.

ج- ساءت علاقة السلطان العثماني بالشيخ جاسم . د- تم اعتقال الشيخ أحمد بن محمد ال ثاني .

42- من الصعوبات التي واجهت الشيخ جاسم :

أ- الاطماع البريطانية ب- الاطماع العثمانية ج- تجارة الرقيق ج – تجارة السلاح

42- الخصائص والسمات التي يتصف بها كل مجتمع وتميزه عن غيره . يقصد بهذا التعريف السابق :

أ- الديمقراطية ب- الحضارات ج- الهوية الوطنية ج – الثقافة العربية

43-انضمت دولة قطر الى جامعة الدول العربية في عام :

أ- 1945 م ب- 1960 م ج- 1969 م د- **1971 م**

44- انضمت دولة قطر الى منظمة التعاون الاسلامي في عام :

أ- 1950 م ب- 1972م ج- 1970 م د- 1971م

45-صنفت منظمة الأمم المتحدة (اليونسكو)مدينة في دولة قطر كموقع تراثي ضمن التراث العالمي في عام 2013م هي مدينة :

أ- الزبارة ب- دخان ج- أم باب د- الدوحة

46-مركز تربوي في دولة قطر يسهم في تنمية الشباب باستثمار وقت فراغهم في أنشطة متصلة بالتراث القطري هو مركز :

أ- نوماس ب- وجدان الحضاري ج- قطر الخيرية د- قطر الثقافي الإسلامي

47-نادي ثقافي اجتماعي يهدف الى المحافظة على التراث والعادات الشعبية القطرية. هو نادي:

أ- الريان ب- السد ج- السيلية د- الجسرة

س1/ ميز بين (الأهمية الأستراتيجية لموقع دولة قطر) و(أهمية دراسة التركيب الجيولوجى لدولة قطر)؟

الأهمية الأستراتيجية لموقع دولة قطر	أهمية دراسة التركيب الجيولوجي لدولة قطر
-1 -2 -3	-1 -2

س2/ ميز بين (أهمية الفشوت) و(أهمية النبات الطبيعي)في دولة قطر ؟

أهمية الفشوت	أهمية النبات الطبيعي
-1 -2 -3	-1 -2 -3 -4

س3/ ميز بين(مشاكل المياه الجوفية وأهمية مياه الصرف الصحي المعالجة) ؟

مشاكل المياه الجوفية	وأهمية مياه الصرف الصحي المعالجة
-1 -2 -3	-1 -2 -3

س4/ ميز بين (العوامل التي تساعد على تشكيل المنخفضات والفشوت والعوامل المؤثرة في المناخ في دولة قطر ؟

العوامل التي تساعد على تشكيل المنخفضات	العوامل المؤثرة في المناخ	العوامل التي ساعدت على تكوين الفشوت
-1 -2 -3	-1 -2 -3	-1 -2 -3

س6/ ميز بين(أنواع الحدود في دولة قطر وأنواع السبخات) ؟

أنواع الحدود في دولة قطر	وأنواع السبخات
-1 -2	-1 -2

س7/ ميز بين(أنواع الرياح وأنواع الأمطار في دولة قطر) ؟

أنواع الرياح	وأنواع الأمطار
-1	-1
-2	-2
-3	-3

س8/ ميز بين(أقسام المياه الجوفية وأنواع النبات الطبيعي في دولة قطر) ؟

أقسام المياه الجوفية	أنواع النبات الطبيعي
-1	-1
-2	-2
-3	-3

س9/ قارن بين (تأثير الخليج العربي في مناخ دولة قطر و أسباب اتجاه دولة قطر لتحلية مياه البحر و دور دولة قطر في المحافظة على الحياة القطرية) ؟

قلة تأثير الخليج العربي في مناخ قطر	أسباب اتجاه قطر لتحلية مياه البحر	جهود دولة قطرللمحافظة على الحياة القطرية
-1	-1	-1
-2	-2	-2
-3	-3	-3

*** رتب خط سير اسرة أل ثاني من شبه الجزيرة العربية إلى الدوحة ؟**

-1 -2 -3 -4 -5 -6

*** رتب تسلسل حكام أسرة أل ثاني من القديم للحديث ؟**

- -2 -3 -4 -5 -6

س1/ ميز بين (بنود معاهدة 1868 إجراءات قائد الحامية العثمانية في قطر)؟

بنود معاهدة 1868	إجراءات قائد الحامية العثمانية في قطر
-1	-1
-2	-2
-3	-3

س2/ قارن بين (نتائج معاهدة 1868 ونتائج معركة الوجبة 1893)؟

نتائج معاهدة 1868	نتائج معركة الوجبة 1893
-1	-1
-2	-2
	-3

س3/ ميز بين (جهود الشيخ جاسم في تاسيس دولة قطر) و (الصعوبات التي واجهت الشيخ جاسم في تاسيس الدولة) ؟

جهود الشيخ جاسم في تأسيس دولة قطر	الصعوبات التي واجهت الشيخ جاسم في تأسيس الدولة
-1	-1
-2	-2
	-3

**** ميز بين (أسباب هجرة القبائل العربية إلى دولة قطر وأسباب ترحيب الشيخ جاسم بالعثمانيين)؟**

أسباب هجرة القبائل العربية إلى دولة قطر	أسباب ترحيب الشيخ جاسم بالعثمانيين
-1	-1
-2	-2

**** ميز بين (أسباب توتر العلاقات القطرية البريطانية في عهد الشيخ جاسم وأسباب معركة الوجبة) ؟**

أسباب توتر العلاقات القطرية البريطانية في عهد الشيخ جاسم	أسباب معركة الوجبة
-1	-1
-2	-2

**** قارن بين (ألقاب كلا من الشيخ محمد والشيخ جاسم)؟**

ألقاب الشيخ محمد	ألقاب الشيخ جاسم

**** قارن بين (أبعاد الهوية الوطنية القطرية ومقومات الهوية الوطنية القطرية) ؟**

أبعاد الهوية الوطنية القطرية	مقومات الهوية الوطنية القطرية
-1	-1
-2	-2
-3	-3

**** قارن بين دور كلا من (مركز قطر للتراث والهوية & مركز قطر الثقافي & قطر الخيرية) ؟**

إنجازات قطر في الحفاظ على التراث الوطني	مركز قطر الثقافي الاسلامي	نادي الجسرة
-1	-1	-1
-2	-2	-2
-3	-3	-3

8/ قارن بين (مظاهر الاهتمام بثوابت الهوية الوطنية والعربية ودور منظمات المجتمع المدني في الحفاظ على التراث) ؟

مظاهر اهتمام المواطن بثوابت الهوية الوطنية والعربية	دور منظمات المجتمع المدني في الحفاظ على التراث :
-1	-1
-2	-2

/ قارن بين (إنجازات دولة قطر في البعد العالمي واهم المبادرات والمساعدات التي قامت بها قطر ؟

إنجازات دولة قطر في البعد العالمي	واهم المبادرات والمساعدات التي قامت بها قطر :
-1	-1
-2	-2

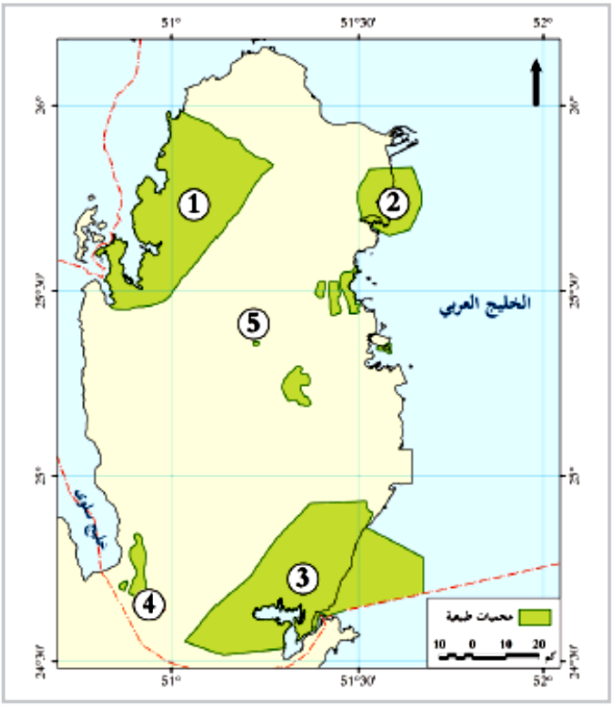

(1) محمية

.....

(2) محمية

.....

(3) محمية

.....

(4) محمية

.....

(5) محمية

.....

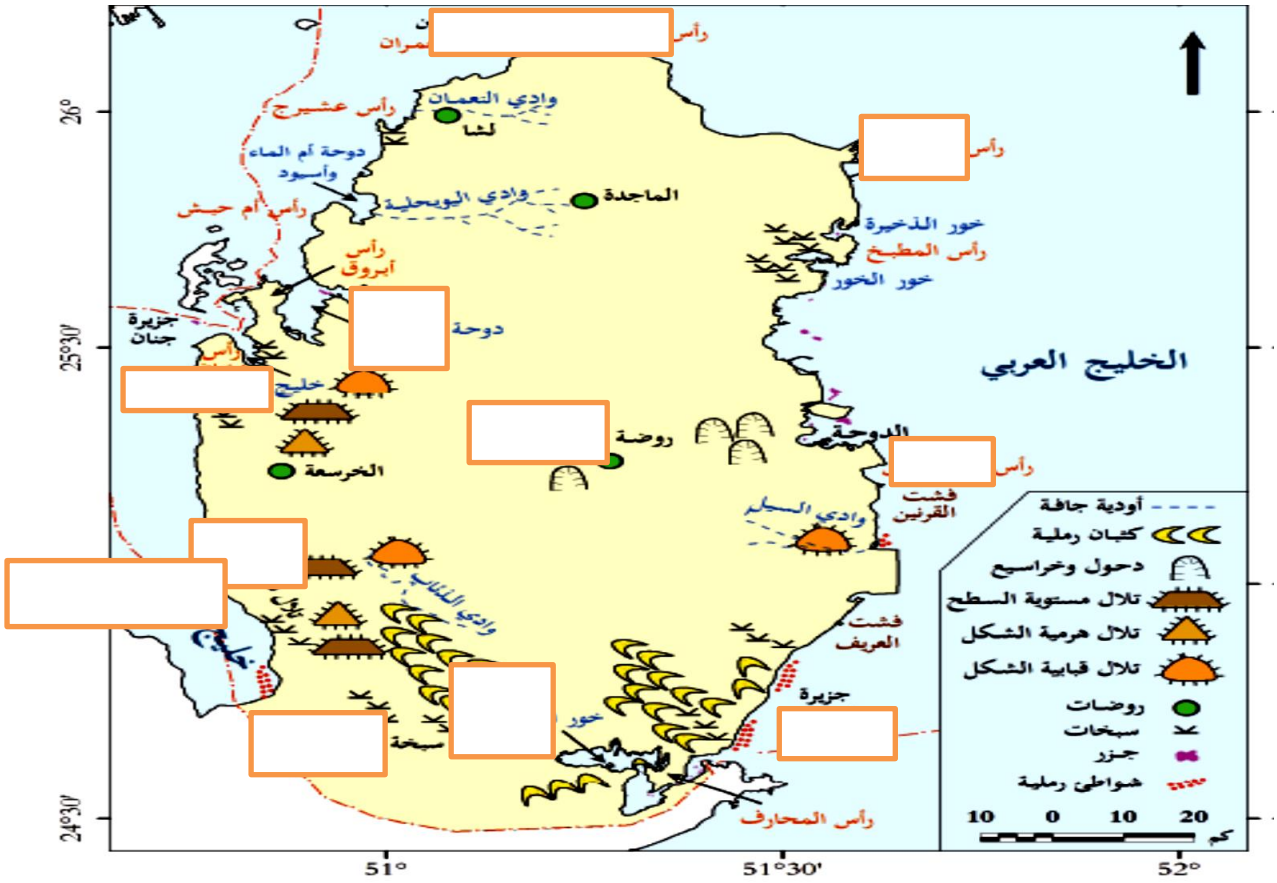

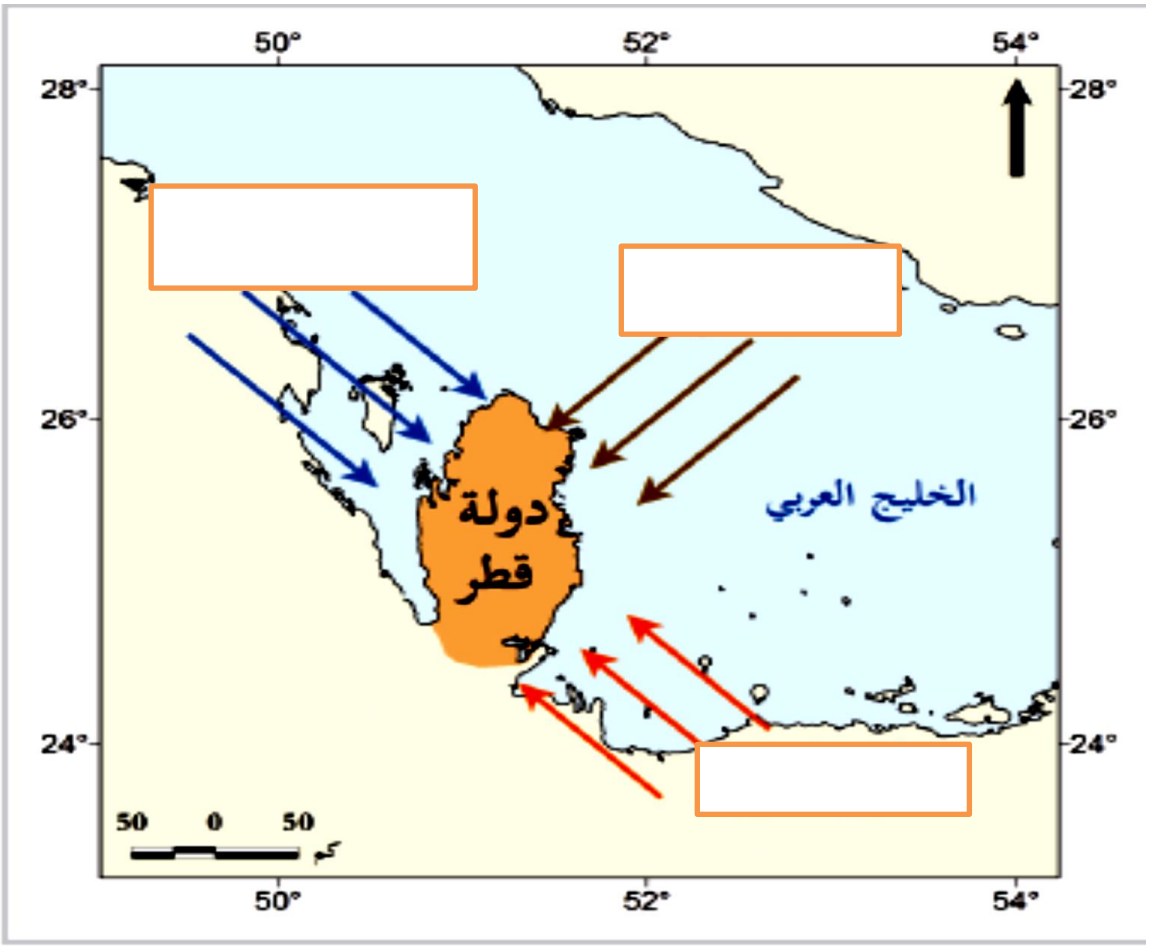
50°
52°
54°
28°
26°
24°
دولة قطر
الخليج العربي
50 0 50
كم

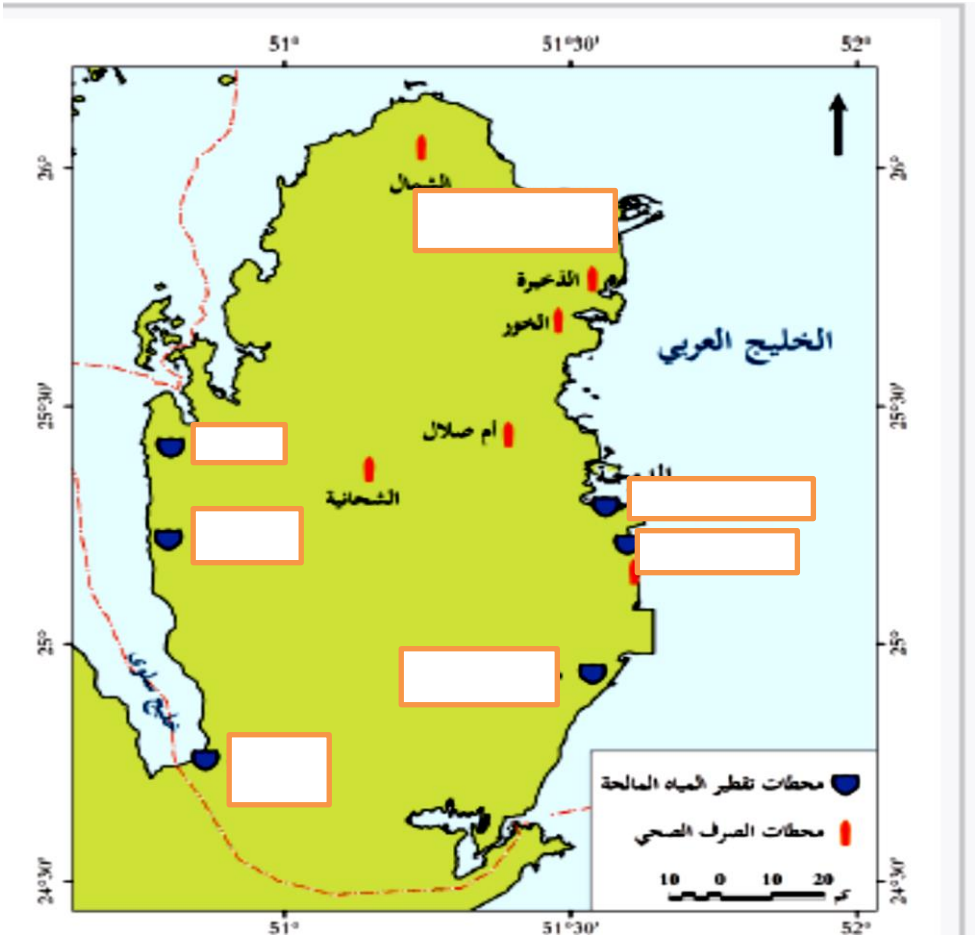
51°
51°30'
52°
26°
25°30'
25°
24°30'
الشمال
الذخيرة
الخور
الخليج العربي
أم صلال
الشحانية
محطات تقطير المياه المالحة
محطات الصرف الصحي
10 0 10 20
كم