# الصف الثاني عشر

# دولة قطر

# الفصل الدراسي الاول

# العام الدراسي 2020-2021

# مادة الجغرافيا

# اعداد / الأستاذ

# M . G

| | |
|---|---|
| الدرجة | |
| | 40 |

# تجريبي 6

**1-أي الطبقات التالية الأهم للكائنات الحية ؟**

**أ- التربوسفير**

**ب- الثرموسفير**

**ج- الستراتوسفير**

**د- الاكسوسفير**

**2-في أي الأقاليم التالية تكثر السحب ؟**

**أ- القطبية**

**ب- الموسمية**

**ج- الاستوائية**

**د- الصحراوية**

**3-أي المحيطات التالية ينفرد بضخامة المياه العذبة ؟**

**أ- الهادي**

**ب- الهندي**

**ج- الاطلنطي**

**د- القطبي الشمالي**

**4-أي المحيطات التالية يصب فيها نهر الأمازون ؟**

**أ- الهادي**

**ب- الهندي**

**ج- الاطلنطي**

**د-القطبي الجنوبي**

**5-أطول الأنهار الجليدية يوجد في القارة الجنوبية و يسمي نهر :**

**أ- بيرنج**

**ب- لامبرت**

**ج- باتاجونيا**

**د- انتارتيكيا**

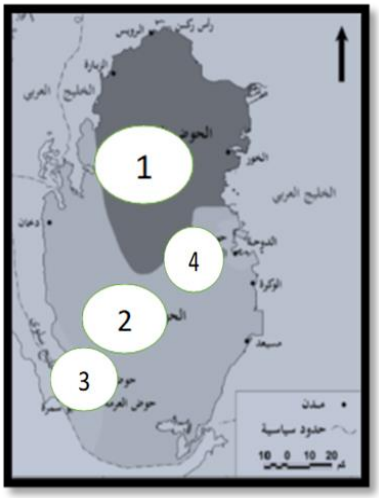


**6-يشير الرقم ( 4 ) الي حوض ؟**

**أ- الدوحة**

**ب- العائلات**

**ج- الشمالي**

**د- الجنوبي**

**7-تساعد الاجسام الصلبة علي :**

**أ- التكاثف**

**ب- تلوث المصانع**

**ج- الانفجارات الكونية**

**د- الانفجارات الأرضية**

**8-تكونت بحيرة تانا نتيجة ؟**

**أ- الجليد**

**ب- البراكين**

**ج- الزلازل**

**د- الحركات التكتونية**

**9-" كرات من الجليد تحدث في سحب الركام المزني " يشير التعريف الي مفهوم ؟**

**أ- البرد**

**ب- الندي**

**ج-السحب**

**د- الضباب**

**10-أي من الاتي اكثر الاملاح انتشارا في البحار و المحيطات ؟**

**أ- الماغنسيوم**

**ب- البوتاسيوم**

**ج- الصوديوم**

**د- الكالسيوم**

**:11**

**1-اجب عن الاتي :**

**1-ما المقصود بالخوانق؟.....**

**2-وضح خصائص المحيط الاطلنطي ؟**

**1-.....**

**2-.....**

**ب-لاحظ الشكل الذي امامك ثم اجب؟**

**أ-ما اسم الامطار في الصورة؟**

**.....**

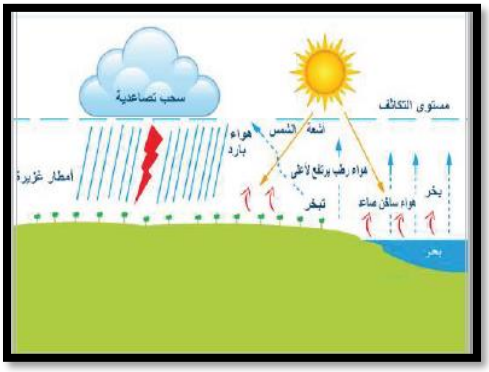


**ب-وضح خصائص تلك الامطار**

**1-.....**

**2-.....**

**ج- عدد اسماء احواض المياه الجوفية في دولة قطر؟**

**1-.....**

**2-.....**

**3-.....**

**4-.....**

**:12**

**أ-اجب عن الاتي :**

**1-عرف ما المقصود بالغلاف الجوي؟.....**

**2-دلل علي : جهود قطر في تنمية مواردها المائية ؟**

**1-.....**

**2-.....**

**3-.....**

**ب عدد مصادر تلوث المياه الجوفية الناتج من النشاط البشري؟**

**1-.....**

**2-.....**

ج- - في جدول قارن بين كلا من مرحلتي الشباب و الشيخوخة من حيث ( الخصائص – المظاهر )

| وجه المقارنة | مرحلة الشباب | مرحلة النضج |
|---|---|---|
| الخصائص | ..... | ..... |
| | ..... | ..... |

أ- وضح خصائص طبقة الثرموسفير؟

أ-.....

ب-.....

**:13**

1-بم تفسر... الاهمية الاقتصادية للرصيف القاري؟

أ-.....

ب-.....

2- وضح العوامل المؤثرة في لون و شفافية مياه البحار و المحيطات؟

أ-.....

ب.....

ج- اجب عن الاتي :

1- وضح افضلية المياه الجوفية ؟

أ-.....

ب-.....

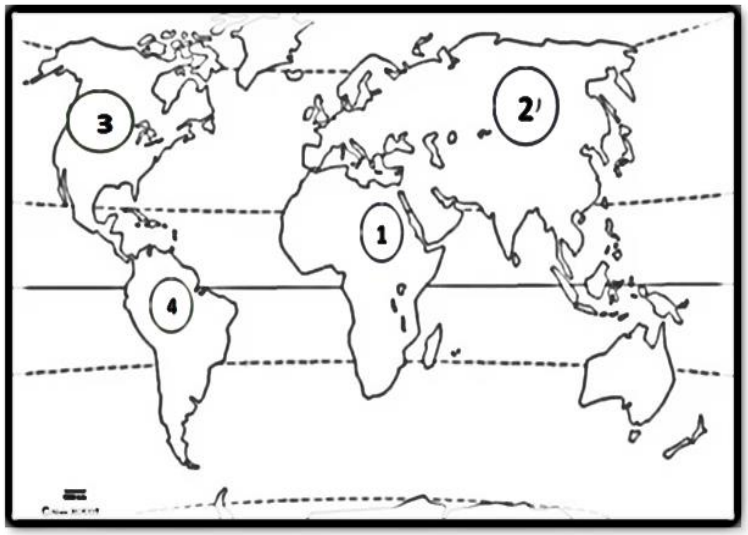


2- اكتب ما تدل عليه الأرقام في الشكل الذي امامك؟

1-نهر:.....

2-بحيرة:.....

3-بحيرة:.....

4-نهر:.....