نهاية ف1
22-21

1

علوم

تدريبات دعم وإثراء

1443 هـ & 21-22م

خطط رفع كفاءة الطلاب

الاسم/ الصف/1-

(النموذج الأول)

السؤال الأول :	اختر الإجابة الصحيحة بوضع علامة (X) داخل المربع :-

1 الصورة التي أمامك توضح خاصية من خصائص الكائنات الحية ما هي ؟



A الحركة

B التكاثر

C النمو

2 أي من الآتي من الأشياء غير الحية ؟

A 

B

C

3 أي من الكائنات الحية الآتية يخرج من البيضة؟

A

B

C

4 ما اسم المرحلة الناقصة في دورة حياة الفراشة؟

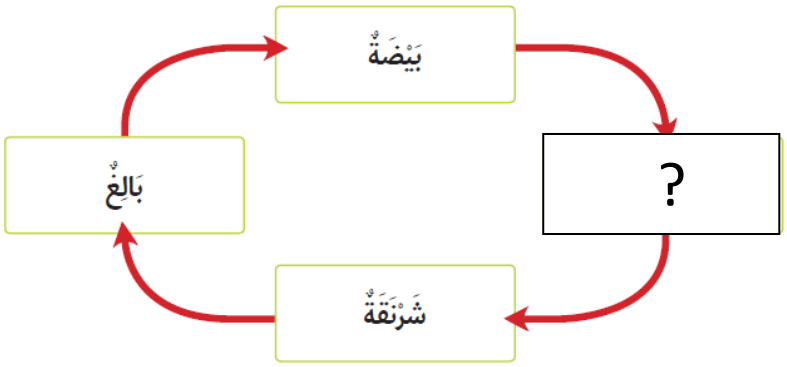

A رضيع

B فرخ

C يرقة

5 أي من الأشياء الآتية تحتاج مساعدة كي تتحرك ؟

A

B

C

6 ما نوع الحركة في الصورة المقابلة ؟

A يقفز

B يركض

C يمشي

7 ما نوع الحركة على المسار المقابل ؟

A في مسار منحني

B في مسار متعرج

C في مسار مستقيم

8 أي من الأشياء الآتية مصنوع من البلاستيك ؟

A

B

C

9 أي من الأشياء الآتية ملمسه ناعم ؟

A

B

C

10 أي من الأشياء الآتية مصنوع من المعدن ؟

A

B

C

11 أي من الآتي صنع من أكثر من مادة ؟

A

B

C

12 ما خصائص المادة التي صنعت منها هذه الطاولة ؟

A لينة

B صلبة

C طرية

السؤال الثاني:	أكمل الفراغ بالكلمة المناسبة من صندوق الكلمات:

(أ):

الحقيبة – الصقر – إنزلاق - الدولفين

1- - من الكائنات الحية التي تتكاثر عن طريق البيض .....

2- من الأشياء التي لا تتحرك .....

3- من الأشياء التي تتحرك بطرق متشابهة السمكة و.....

4 – نوع الحركة على الزلاقة .....

(ب) :

الناعم – المطاط - قاسية

1- يصنع إطار السيارة من مادة .....

2- أستخدم حاسة اللمس في التمييز بين الخشن و .....

3- من خصائص المادة التي تصنع منها المطرقة.....

السؤال الثالث صل ما في العمود (1) بما يناسبه من العمود (2).

العمود (1)	العمود (2)
1- من الأشياء التي تتحرك بمساعدة المحرك .	
2- من الأشياء التي تتحرك عن طريق الدحرجة .	
3- من الأشياء التي تصنع من الطين .	
4- من الأشياء التي تصنع من مادة الزجاج.	

السؤال الرابع:	ضع علامة (√) أمام العبارة الصحيحة و علامة (×) أمام العبارة الخطأ.

1- - الدجاجة تتكاثر عن طريق البيض. ( )

2- **في سباق الهجن تمشي الجمال ببطء.** ( )

3- **الطائرة الورقية تحتاج إلى محرك كي تتحرك** ( )

.

4- **تصنع المناشف من مادة طرية.** ( )

5- **تصنع القفازات من مادة صلبة.** ( )

السؤال الخامس :	أجب عن الأسئلة التالية**:**

أ. بعض الأشياء تحتاج مساعدة كي تتحرك.

اكتب اسم أحد هذه الأشياء.

_____

ب. تستخدم المواد في صنع الأشياء.

اكتب اسم المادة التي تستخدم في صنع الملابس.

_____

(النموذج الثاني)

السؤال الأول :	اختر الإجابة الصحيحة بوضع علامة (X) داخل المربع :-

1 **الصورة التي أمامك توضح خاصية من خصائص الكائنات الحية ما هي ؟**

A **الحركة**

B **التكاثر**

C **التنفس**

2 **أي من الآتي من الأشياء غير الحية ؟**

A

B 

C

3 **أي من الكائنات الحية الآتية ينمو داخل جسم أمه قبل أن يولد؟**

A

B

C

4 ما اسم هذه المرحلة في دورة حياة النبات؟

A بادرة

B نبات صغير

C شتلة

5 أي من الأشياء الآتية يتحرك من تلقاء نفسه ؟

A

B 

C

6 ما نوع الحركة في الصورة المقابلة ؟

A انزلاق

B إلى الخلف

C إلى الأمام

7 ما نوع الحركة على المسار المقابل ؟

A في مسار منحني

B في مسار متعرج

C في مسار مستقيم

8 أي من الأشياء الآتية مصنوع من الورق ؟

A

B

C

9 أي من الأشياء الآتية ملمسه ناعم ؟

A

B

C

10 أي من الأشياء الآتية مصنوع من المطاط ؟

A

B

C

11 أي من الآتي صنع من مادة واحدة فقط ؟

A

B

C

12 ما خصائص المادة التي تصنع منها الملابس ؟

A طرية

B قاسية

C صلبة

السؤال الثاني:	أكمل الفراغ بالكلمة المناسبة من صندوق الكلمات:

(أ):

الحبل – البقرة – الزلاقة - السفينة

1- - من الكائنات الحية التي تتكاثر عن طريق الولادة .....

2- من الأشياء التي تحتاج مساعدة كي تتحرك .....

3- من الأشياء التي تتحرك بمساعدة المحرك .....

4 - من الأشياء التي نتحرك عليها عن طريق الانزلاق.....

(ب) :

لينة – المعدن - اللمس

1- تصنع المطرقة من.....

2- أميز بين القاسي و الطري عن طريق حاسة .....

3- من خصائص المادة التي تصنع منها القفازات.....

السؤال الثالث صل ما في العمود (1) بما يناسبه من العمود (2).

العمود (1)	العمود (2)
1- من الأشياء التي تتحرك من تلقاء نفسها .	
2- من الأشياء التي تتحرك بعجلات.	
3- من الأشياء التي تصنع من المعدن .	
4- من الأشياء التي تصنع من مادة البلاستيك.	

السؤال الرابع:	ضع علامة (√) أمام العبارة الصحيحة و علامة (×) أمام العبارة الخطأ.

1- - المها تتكاثر عن طريق الولادة. ( )

2- **عربة التسوق تتحرك من تلقاء نفسها.** ( )

3- **القطار يحتاج إلى محرك كي يتحرك** ( )

.

4- **تصنع عدسة النظارة من الزجاج.** ( )

5- **تصنع الملابس من مادة قاسية.** ( )

السؤال الخامس :	أجب عن الأسئلة التالية**:**

أ. بعض الأشياء تتحرك بمساعدة المحرك.

اكتب اسم أحد هذه الأشياء.

ب. تستخدم المواد في صنع الأشياء.

اكتب اسم المادة التي تستخدم في صنع الدفاتر والكتب.