الزعيم – الثامن- 8 – نهاية الفصل الأول مجابة

الزعيم

في الدراسات الاجتماعية

2021 - 2022م

المستوى الثامن (8)

نهاية الفصل الدراسي الأول

الزعيم

إعداد / D R - H

الزعيم - الصف الثامن - تدريبات إثرائية مجابة - وفق معايير ونتاجات

المادة: دراسات اجتماعية نهاية الفصل الأول 21 الصف: الثامن .

الوحدة الأولى : الجغرافيا

أولاً: اختر الإجابة الصحيحة للعبارات التالية:

(1) - الطبقة التي تقع أسفل القشرة الأرضية مباشرة :

○ النواة الداخلية. ○ النواة الخارجية . ● الوشاح العلوي . ○ لوشاح السفلي .

(2) - إحدى طبقات الأرض رقيقة السمك:

○ النواة. ○ الكسوة . ● القشرة . ○ الوشاح.

(3) - تمثل طبقة السيما:

○ قمم الجبال. ● قيعان المحيطات. ○ النواة الداخلية. ○ النواة الخارجية.

(4) أكثر الطبقات سُمكًا:

○ النواة. ○ الكسوة . ○ القشرة . ● الوشاح.

(5) - يتركز الحديد والنيكل في طبقة:

● النواة. ○ الكسوة . ○ القشرة . ○ الوشاح.

(6) – من أنواع الصخور النارية:

○ النيس. ○ الشيست. ● الجرانيت. ○ الطين .

(7) –من الصخور التي تحتوي على حفريات:

○ النارية. ○ المتحولة . ● الرسوبية. ○ البركانية .

(8) – الوسط الذي تعيش فيه الكائنات الحية يُعرف بالغلاف:

● الحيوي. ○ الصخري. ○ الجوي. ○ الغازي .

(9) – أكبر المحيطات مساحة ، المحيط:

● الهادي. ○ الهندي . ○ الأطلنطي. ○ المتجمد الشمالي.

السؤال الثاني: - أجب عن الأسئلة التالية:-

1 - عدّد طبقات الأرض الرئيسة.

1 – القشرة. 2 - الوشاح. 3 - النواة

2 – اذكر مصادر المعلومات عن تركيب باطن الأرض.

1 – البراكين: (ما يخرج من باطن الأرض أثناء البركان).

2 – الزلازل: (تسبب موجات كلمات وصلت إلى طبقة من طبقات الأرض فإنها تنعكس) .

3 – بم تفسّر: أهمية الغلاف المائي.

1 – مصدر للماء العذب.

2 – مستودع للغذاء- الاملاح – العناصر المعدنية.

3 – تسهم المياه في تشكيل سطح الأرض.

4 – تسهم في قيام الأنشطة الاقتصادية (الزراعة – الصناعة – النقل البحري)

4 - عدّد أنواع صخور القشرة الأرضية.

1 –نارية. 2 – رسوبية. 3 – متحولة.

5 – بم تفسّر: أهمية الغلاف الصخري.

1 –مصدر للمعادن المختلفة. 2- مصدر للطاقة.

3 – مصدر للصخور. 4 - مصدر للتربة.

6 – أكتب عن : أهمية الغلاف الجوي للحياة على سطح الأرض.

1 –تتم فيه كل مظاهر الطقس والمناخ.

2 – يحتوي على الغازات الأساسية اللازمة للحياة.

3 – يوجد به طبقة الأوزون التي تحمي الأرض من الاشعة فوق البنفسجية.

4 – يحمي الأرض من الشهب والنيازك.

7 – عدّد طبقات الغلاف الجوي.

1 –التربوسفير. 2 – الاستراتوسفير. 3 – الميزوسفير. 4 – الثيرومسفير.

8 – ما النتائج المترتبة على: وجود طبقة الأوزون في الغلاف الجوي.

– تحمي الأرض من الأشعة فوق البنفسجية الضارة.

9 – أكتب فقرة موجزة عن : طبقة الوشاح.

1 –أكثر طبقات الأرض سمكاً (2900 كم).

2 – ينقسم إلى طبقتين (وشاح علوي – وشاح سفلي).

10 – ما الفرق بين كل من :

أ - النواة الداخلية والخارجية.

أ-النواة الخارجية: سائلة تتراوح حرارتها ما بين (2200-5000م)

ب-النواة الداخلية: صلبة تصل حرارتها إلى 5500م.

ب- طبقة السيال والسيما.

أ- طبقة السيما: تُكون قاع المحيطات وهي ذات كثافة عالية.

ب- طبقة السيال: تُكون اليابس وهي ذات كثافة قليلة.

11 – ما النتائج المترتبة على: ارتفاع نسبة المياه المالحة على سطح الأرض.

1 – حماية سطح الأرض من التعفن. 2 – حمايتها من تكون الجراثيم والميكروبات فيها.

12 – عرِّف ما يلي:

أ - الغلاف الصخري:

يقصد به قشرة الأرض أو الطبقة الخارجية وتتمثل في القارات وقيعان البحار والمحيطات.

ب – الغلاف الجوي

هو الطبقة الغازية التي تحيط بكوكب الأرض إحاطة تامة.

13 – اذكر أقسام الغلاف الحيوي

1- الانسان. 2 – الحيوان. 3 – النبات

4 – التربة. 5 - الكائنات العضوية الدقيقة.

14 –من الشكل التالي وضح ما تشير إليه الأرقام الآتية؟

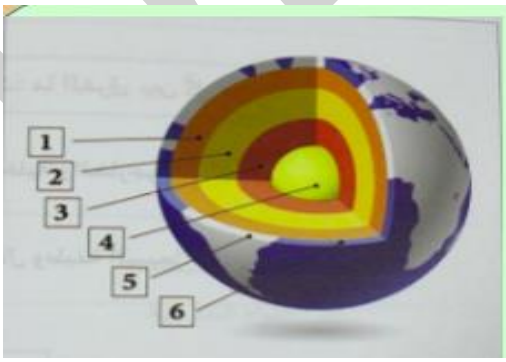

1- طبقة : الوشاح العلوي :
2- طبقة الوشاح السفلي:
3 - طبقة النواة الخارجية:
4 - طبقة النواة الداخلية:
5 - طبقة القشرة القارية :
6 - طبقة القشرة المحيطية:

15 – قارن بين : أنواع صخور القشرة الأرضية من خلال الجدول التالي :

نوع الصخور	النارية	الرسوبية
الشكل	كتل	طبقات
المميزات	شديدة الصلابة – غير مسامية – ليس بها حفريات	قليلة الصلابة شديدة المسامية – بها حفريات
الأمثلة	الجرانيت - البازلت	الحجر الرملي – الحجر الجيري

16 – قارن بين: أقسام الغلاف المائي من خلال الجدول التالي :

الأقسام	المياه العذبة	المياه المالحة
النسبة %	%2.5	%97.5
الأمثلة	الأنهار – الجليد - المياه الجوفية	البحار - المحيطات

17 – أمامك خريطة للعالم وضح ما تدل عليه الأرقام:

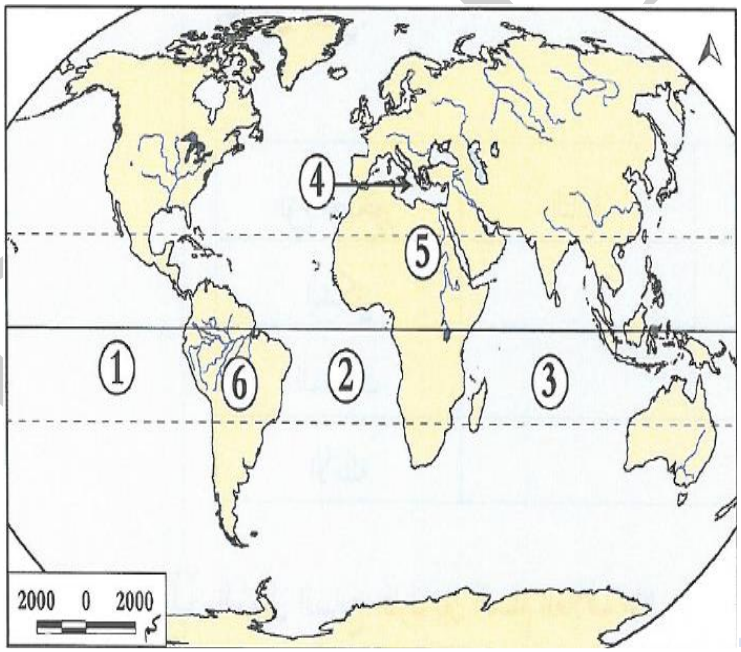

1. المحيط..... الهادي
2. المحيط..... الأطلنطي
3. المحيط..... الهندي
4. البحر..... المتوسط
5. نهر..... النيل
6. نهر..... الأمازون

الوحدة الثانية: التاريخ

أولاً: اختر الإجابة الصحيحة للعبارات التالية:

(1) – أطلق عصر بناة الأهرامات بالحضارة المصرية القديمة على الدولة :

○ العصر العتيق. ○ الحديثة. ● القديمة. ○ الوسطى.

(2) – تمَّ توحيد القطرين الشَّمَالي والجنوبي لمصر على يد الملك:

● نارمر. ○ خوفو. ○ زوسر. ○ سنفرو.

(3) – من النساء اللاتي كان لهن دور في مواجهة الهكسوس:

○ نفرتيتي. ○ حتشبسوت. ● إياح حتب. ○ مريت أتون.

(4) – تميزت مصر بالرخاء الاقتصادي في عصر الدولة:

○ القديمة. ● الوسطى. ○ الحديثة. ○ العتيق.

(5) - أقدم الصناعات في الحضارة المصرية القديمة الصناعات:

● الحجرية. ○ المعدنية. ○ الخشبية. ○ الورقية.

(6) – من الصناعات القائمة على نبات البردي

○ الأثاث. ● الورق. ○ المنسوجات. ○ التيجان.

(7) – الملك الذي قام بطرد الهكسوس من مصر هو:

○ أخناتون. ○ حور محب. ● أحمس. ○ سنوسرت الثالث.

(8) – الكتابة المصرية القديمة عرفت باسم

○ الأوردية. ○ المسمارية. ○ السنسكريتية . ● الهيروغليفية.

(9) – تم فتح مصر في عهد الخليفة الراشد :

○ أبو بكر الصديق. ● عمر بن الخطاب. ○ عثمان بن عفان. ○ علي بن أبي طالب.

ثانياً أجب عن الأسئلة التالية:

(1) - **فسرَّ: أطلق على المجتمع المصري القديم اسم المجتمع الهرمي.**

1 - لأنه تكون من عدة طبقات على شكل هرمي.
2 – طبقة عليا (الفرعون وأسرته – الوزير – كبار الكهنة – كبار الموظفين)
3- الطبقة الوسطى (صغار الموظفين – صغار الفنانين والحرفيين)
4 – الطبقة الدنيا (العمال – الخدم)

(2) - **برهن بالأدلة على : براعة المصريين القدماء في مجال النحت.**

1 - نحت التماثيل من الحجر (أبو الهول) أو من المعدن.
2 - نحت المسلات: من الجرانيت

(3) – **عـدد: أهم خصائص الديانة المصرية القديمة.**

1 - تعدد المعبودات 2 - الاعتقاد في البعث والخلود. 3 - الاعتقاد بالحساب بعد الموت.

(4) **ما العلاقة بين : نهر النيل و قيام الحضارة المصرية القديمة.**

1 - ساعد على استقرار المصريين القدماء. 2 - أقاموا الزراعة على ضفافه
3 - استغلوه في النقل 4 - وفرة المحاصيل الزراعية

(5) – **رتب الأحداث التالية من الأقدم إلى الأحدث على الخط الزمني التالي:**

(دخول عمرو بن العاص مصر – توحيد القطرين – طرد الهكسوس من مصر – بناء سد اللاهون)

(6) **برع المصريون القدماء في العلوم . وضح ذلك.**

1 – **علم الحساب:** استخدموا الجمع والطرح والضرب والقسمة، وعرفوا الكسور العادية.
2 – **علم الطب:** كان هناك أطباء متخصصون، واستخرجوا الأدوية من الأعشاب الطبيعية
3 – **علم الفلك:** عرفوا مواقع النجوم والكواكب، وابتكروا تقويماً شمسياً.

(7) – **عدد: عوامل قيام الحضارة المصرية القديمة.**

1 – الموقع الجغرافي. 2 – نهر النيل. 3 – المناخ المعتدل.
4 – الموارد الطبيعية. 5 – العوامل البشرية.

(8) - **بم تفسر: – ضعف واضطراب مصر عقب نهاية الدولة الحديثة.**

1 - ساءت أحوال البلاد الاقتصادية.
2 - سيطرة قوى خارجية على البلاد (الفرس)
3 - ساد البلاد حالة من الفوضى والتفكك

(9) **اذكر:- أهم أنواع الصناعات في مصر القديمة .**

1 – الصناعات الحجرية. 2 – الصناعات المعدنية.
3 – الصناعات الخشبية. 4 – الصناعات القائمة على نبات البردي.

الوحدة الثالثة: المواطنة

أولاً: اختر الإجابة الصحيحة للعبارات التالية:

(1) – **أي مما يأتي من واجباتنا تجاه الوطن:**

● اتباع الأنظمة والقوانين. ○ توفير فرص العمل. ○ تطوير الخدمات الصحية. ○ المساواة مع الآخرين.

(2) – **أول منظمة خيرية تطوعية بدولة قطر:**

○ إحسان. ● جمعية الهلال الأحمر القطري. ○ طموح. ○ نماء.

(2) – **تلبية احتياجات أجهزة الدولة الحكومية والخاصة من المتطوعين، من أهداف مؤسسة:**

○ نماء. ● طموح. ○ وفاق. ○ دريمة.

(3) – **تمكين كبار السن ورعايتهم من أهداف:**

○ الشفلح. ● إحسان. ○ دريمة. ○ أمان.

(4) –(**انتماء الفرد للوطن الذي يعيش فيه) يشير المفهوم إلى تعريف :**

○ الانتماء. ● المواطنة. ○ التطوع. ○ الهوية.

(5) – **تهدف جمعية الهلال الأحمر القطري إلى:**

○ رعاية كبار السن. ○ تمويل المشاريع الصغيرة. ● تقديم مساعدات للفئات المتضررة. ○ رعاية الشباب.

(6) – جمعيات غير ربحية مستقلة عن الحكومة ينشئها أشخاص بغرض خدمة المجتمع وتحقيق أهدافه) يشير هذا التعريف إلى :

- مؤسسات محلية.
- مؤسسات بحثية.
- مؤسسات اقتصادية.
- مؤسسات المجتمع المدني.

ثانياً أجب عن الأسئلة التالية:

(1) - بم تفسر: أهمية المواطنة.

1 - تنمية شعور الفرد بالانتماء، وتعزيز هويته الوطنية.
2 – تنمية معارف الفرد، وقدراته، وقيمه، واتجاهاته.
3 - تعريف الفرد بحقوقه وواجباته.
4 – إعداد الفرد لمواجهة الظروف والمتغيرات الدولية.

(2) - عدّد: مقومات المواطنة.

1 – المساواة وتكافؤ الفرص.
2 – الولاء والانتماء.
3 – المشاركة والمسؤولية.
4 – وجود ضمانات دستورية وقانونية.

(3) – اذكر: مجالات مشاركة الفرد في هيئات المجتمع المدني .

1 –معرفة الخدمات التي تقدمها المؤسسات.
2– المساهمة في الأعمال التطوعية.
3 – النشر والتوعية بدور تلك المؤسسات بما يحقق توسعها وانتشارها.

(4) – أجب : ما أهداف جمعية الهلال الأحمر القطري.

1 – تقديم مساعدات مالية وعينية للفئات الضعيفة لتغطية مصاريف المعيشة.
2– تقديم محاضرات ودورات تدريبية وورش عمل لأفراد المجتمع ومؤسساته.
3 – نشر ثقافة العمل التطوعي واستقطاب المتطوعين.

(5) — اذكر: أثراً لمشاركة الفرد في هيئات المجتمع المدني .

1 –تعزيز الروابط الاجتماعية بين أفراد المجتمع
2– ترسيخ القيم (التعاون - التسامح – احترام الآخر).
3 – ممارسة الفرد لحقوقه وواجباته.

(6) **وضح الجهة (المؤسسة) التي تتوجّه لها في حال أردْت التطوع بأحد الأعمال التالية:**

العنصر	العمل التطوعي	الجهة (المؤسسة)
(أ)	تقديم مساعدات مالية وعينية للفئات الضعيفة لتغطية مصاريف المعيشة.	جمعية الهلال الأحمر القطري
(ب)	مساعدة كبار السن ورعايتهم للتمتع بحياة كريمة وآمنة ومنتجه.	مركز تمكين ورعاية كبار السن (إحسان)



الوحدة الرابعة : الجغرافيا

السؤال الاول: اختر البديل الصحيح من بين البدائل الآتية:

(1) – **الجهة المسؤولة عن إجراء التَّعْدَادات السُكَّانيَّة بدولة قطر هي:**

○ الاقتصاد والتجارة. ○ الثقافة والرياضة. ○ التعليم والتعليم العالي. ● جهاز التخطيط والإحصاء.

(2) – **من مصادر البيانات السُّكانية:**

● المسح بالعينة. ○ الوزارات. ○ الكتب. ○ الدوريات.

(3) – **أكثر الدول انخفاضا في معدلات الوفيات على مستوى العالم :**

○ الصومال. ● قطر. ○ اليمن. ○ صربيا.

(4) – **يوجد ما يقرب من نصف سكان العالم في شرق وجنوب شرق قارة :**

● آسيا. ○ إفريقيا. ○ أوروبا. ○ أستراليا.

(5) – **أكثر جهات القارة الأوروبية ارتفاعاً في الكثافة :**

○ الشرق. ● الغرب. ○ الشمال. ○ الجنوب.

(6) – **من الدول التي تشهد معدلات مواليد مرتفعة دولة :**

● النيجر. ○ أوكرانيا. ○ إيطاليا . ○ البرتغال.

السؤال الثاني: - أجب عن الأسئلة التالية:-

(1) **عدِّد الخصائص التي يجب توافرها في التَّعْدَاد الشامل للسُكَّان.**

1 – الفردية. 2 - الشمولية. 3 – الآنية. 4. - الدورية

2 – **بم تفسر:** **أ – يوفر استخدام أسلوب المسح بالعينة مميزات عديدة:**

1- توفير الوقت والجهد والنفقات.
2- تساعد العينة على معرفة مدى دقة التعداد.

ب – النطاق الآسيوي أكبر الأقاليم السكانية في العالم.

1- الخصوبة السكانية المرتفعة. 2 – انتشار حرفة الزراعة .3- وفرة المياه.

ج – أهمية واستخدامات البيانات السُّكَّانيَّة:

1 – أغراض التخطيط والتنمية.
2–تقدير مصادر وحجم القوى العاملة.
3 –تحديد دور المرأة ووضعها الاقتصادي والاجتماعي.
4 – الاطلاع على أوضاع المجموعات الخاصة.
5 – استخدامها لأغراض اقتصادية.

(3) – **أجب عما يلي : تركز السكان في منطقة شمال وشرق الولايات المتحدة الأمريكية.**

1 – خصوبة التربة. 2 – اعتدال المناخ. 3 – تركز الصناعة بها.
4 -أول منطقة عُمرت في القارة بواسطة المهاجرين من أوروبا.

(4) – **عدِّد طرق إجراء التعداد السكاني**

1- طريقة العد الفعلي 2- طريقة العد النظري. 3- الطرق الإلكترونية.

(5) -**اذكر أهم نطاقات التركز السكاني في العالم :**

1- النطاق الأسيوي. 2- النطاق الأوروبي. 3- النطاق الأمريكي. 4 – النطاق الإفريقي.

(6) -**لماذا يندر السكان في شمال أسيا وأمريكا الشمالية :**

1- انخفاض درجة الحرارة. 2- شدة البرودة.

(5) -**عرف المفاهيم التالية:** **أ – التعداد السكاني :**

العملية الشاملة لجمع وتحليل البيانات الإحصائية التفصيلية عن السكان في تاريخ محدد وزمن معين.

ب– الإحصاءات الحيوية:

جمع وتسجيل البيانات الخاصة بالمواليد، والوفيات، وحالات الزواج، والطلاق.

.

الوحدة الخامسة: التاريخ

السؤال الاول: اختر البديل الصحيح من بين البدائل الآتية:

(1) –السلطان العثماني الذي أسس جيش الإنكشارية هو:

○ بايزيد الأول ● أورخان. ○ محمد الثاني. ○ سليمان الأول.

(2) –السبب في هجرة القبائل التركمانية إلى الأناضول:

○ هجوم البيزنطيين عليهم ● هجوم المغول على تركستان ○ هجوم السلاجقة على تركستان

(3) – سيطرت الدولة العثمانية على بلاد المغرب العربي ما عدا:

○ تونس. ○ الجزائر. ● مراكش. ○ طرابلس.

(4) – وصلت الفتوحات الإسلامية أقصى اتساع لها في أوروبا عند مدينة:

○ روما. ● فيينا. ○ باريس. ○ البندقية.

(5) – السلطان الذي اتخذ من أسكي شهر عاصمة لدولته هو:

○ بايزيد الأول ● عثمان الأول. ○ محمد الثاني. ○ سليمان الأول.

(6) – اتجهت الدولة العثمانية إلى البلاد العربية في القرن الميلادي:

○ الرابع عشر. ○ الخامس عشر. ● السادس عشر. ○ السابع عشر.

(7) –الحدث التاريخي الذي يشكل حداً فاصلاً بين العصور الوسطى والحديثة

○ فتح فيينا. ○ هجرة العثمانيين من التركستان. ○ سن سليمان للقوانين. ● فتح القسطنطينية.

(8) –قام السلطان مراد الأول بنقل العاصمة إلى مدينة :

● أدرنة. ○ صوفيا. ○ بورصة. ○ إسطنبول.

(9) – أصبح العراق كله تحت السيطرة العثمانية في عهد السلطان:

○ بايزيد الأول ○ عثمان الأول. ○ محمد الثاني. ● سليمان القانوني.

(10) – ترتب على إكتشاف رأس الرجاء الصالح:

○ احتلال البرتغاليين لمصر ● ضعف دولة المماليك سياسياً واقتصادياً. ○ المواجهة العسكرية بين الاسبان والدولة العثمانية.

السؤال الثاني: - أجب عن الأسئلة التالية: – (1) اذكُر أهم أعمال عثمان

1– أسس الدولة العثمانية. 2 – اتخذ من مدينة أسكي شهر عاصمة له.

3 – توسع على حساب أراضي الدولة البيزنطية.

2 - رتب الأحداث التالية من الأقدم إلى الأحدث على الخط الزمني التالي:

{ضم اليمن - ضم العراق – ضم بلاد المغرب العربي }

(1) اُذكُر عوامل توسُّع وتطوُّر الدولة العثمانية

1– وقوة السلاطين. 2 – قوة جيش الإنكشارية.
3 – ضعف الدولة البيزنطية. 4 - الرغبة في نشر الإسلام.

(2) بم تفسر: " يُعد عصر السلطان سليمان القانوني هو العصر الذهبي للدولة العثمانية".

1 – بلغت الدولة في عهده أقصى اتساع لها.
2 - بلغت جيوشه أسوار فيينا عاصمة النمسا .
3 – نجح في هزيمة ملك المجر.
4- نظم شؤون الحياة في دولته الكبيرة
5 - ووضع القوانين ولقب بالقانوني لاهتمامه بوضع القوانين.

(3) – اذكر: دوافع الدولة العثمانية للتوجُّه نحو البلاد العربية.

1 – دوافع دينية. 2 – دوافع سياسية. 3 – دوافع اقتصادية.

(4) ما العوامل التي دفعت محمد الثاني إلى فتح القسطنطينية.

1 - كانت القسطنطينية مركز الدسائس والمؤامرات ضد الدولة العثمانية.
2 - الرغبة في تأمين طرق المواصلات بين أملاك الدولة.
3 – تحقيق بشارة رسول الله (ﷺ) بفتح القسطنطينية.

(5) – ما النتائج المترتبة على : أ –: ضم الدولة العثمانية لمصر.

1 – أصبحت مصر ولاية عثمانية.
2 - انتهت الدولة المملوكية.
3 – أصبحت الدولة العثمانية زعيمة العالم الإسلامي

ب - فتح مدينة القسطنطينية.

1 – توحيد أراضي الخلافة العثمانية في آسيا وأوروبا.
2 – شكل الفتح العثماني للقسطنطينية الحد التاريخي الفاصل بين العصور الوسطى والعصور الحديثة.
3 – أصبحت الدولة العثمانية قوة بحرية هائلة، ومركزاً تجارياً هاماً.).

ج – معركة مرج دابق 1516 م.

1 – انتصار العثمانيين بقيادة السلطان سليم الأول.
2 – قتل السلطان المملوكي ودخول مدينة دمشق.

(6) – **قارن في الجدول : أ - قارِنْ بين: معركة جالديران ومعركة الريدانية من حيث:**

أ – الأطراف . ب - الأسباب ج - النتائج.

أوجه المقارنة	معركة جالديران	معركة الريدانية
الأطراف	الدولة العثمانية x الصفويين	الدولة العثمانية x المماليك
الأسباب	تحالف الصفويون مع البرتغاليين	رفض طومان باي اعلان ولائه للدولة العثمانية
النتائج	ضم شمال العراق	أصبحت مصر ولاية عثمانية

ب - قارِنْ بين: معركة مرج دابق ومعركة الريدانية من حيث: أ - التاريخ. ب - النتائج.

أوجه المقارنة	معركة مرج دابق	معركة الريدانية
التاريخ	1516 م.	1517 م.
النتائج	انتصار العثمانيين على المماليك بقيادة قنصوه الغوري، ودخل العثمانيون دمشق.	انتصار العثمانيين على المماليك بقيادة طومان باي، وأصبحت مصر ولاية عثمانية

(7) – **اذكر أهم المعارك التي خاضها السلطان سليم الأول.**

1 – جالديران [1514] 2 – مرج دابق [1516] 3 – الريدانية [1517]

الوحدة السادسة: المواطنة

السؤال الاول: اختر البديل الصحيح من بين البدائل الآتية:

(1) – أي من التالي من مقومات الأمن الاجتماعي القطري:
- توفر الموارد المالية
- توفر الموارد البشرية.
- سيادة القانون.
- انفتاح قطر على العالم الخارجي.

(2) – وضع السياسات العامة في المجالات الاقتصادية من مهام:
- جهاز قطر للاستثمار.
- قطر للتنمية الصناعية.
- المجلس الأعلى للشؤون الاقتصادية والاستثمار.

(3) – الجهة التي تسهم في خلق وتوجيه الرأي العام:
- الإعلام
- النوادي.
- المساجد.
- الجامعات.

(4) – المؤسسة التي تتولى إعداد النشئ اجتماعياً ونفسياً ومعرفياً:
- الأمنية
- التربوية.
- الدينية.
- الجامعات.

(5) – الجهة التي تعمل علي المشاركة في تمويل المشروعات الصناعية في دولة قطر:
- جهاز قطر للاستثمار.
- بنك قطر للتنمية.
- وزارة الطاقة والصناعة.
- وزارة البلدية والزراعة.

(6) – الجهة التي تعمل على المشاركة في تمويل المشروعات الصناعية في دولة قطر:
- جهاز قطر للاستثمار.
- بنك قطر للتنمية.
- وزارة الطاقة والصناعة.
- وزارة البلدية والزراعة.

السؤال الثاني: - أجب عن الأسئلة التالية: –

(1) – " عدد: مقومات الأمن الاجتماعي في دولة قطر.

1- سيادة القانون. 2- المواطنة. 3 – التعايش.
4- التعاون الاقتصادي 5- التكافل الاجتماعي 6 – الشعور بالمسؤولية.

(2) – " وضح: دور المؤسسات الوطنية في تحقيق الأمن الاجتماعي في دولة قطر.

1- المؤسسات التربوية. 2- الأجهزة القضائية والأمنية.
3 – المؤسسات الدينية. 4 – النوادي والجمعيات الشبابية.
5 – أجهزة الإعلام. 6- مؤسسات المجتمع المدني.

(3) – " اذكر: مقومات الأمن الاقتصادي في دولة قطر.

1- توافر مصاد الطاقة (البترول – الغاز الطبيعي).
2- توافر الموارد المالية لتنفيذ المشاريع. 3 - توافر الموارد البشرية الوطنية المدربة.
4 – انفتاح دولة قطر بفضل قيادتها الحكيمة على العالم الخارجي.

(4) – " وضح: دور المؤسسات الاقتصادية في تحقيق الأمن الاقتصادي.

1- وضع السياسات العامة. 2- تعزيز النشاط الاقتصادي
3 – الاستثمار في الأسواق العالمية. 4 – المشاركة في تمويل المشروعات الصناعية.
5 – النهوض بالقطاع الزراعي وتطويره.

(5) عدد آثر الاعتزاز بالهوية الوطنية في تحقيق الأمن الاقتصادي.

1- دعم قيم الولاء والانتماء 2- مواجهة العادات والقيم الدخيلة
3- التفاعل الإيجابي مع الثقافات الأخرى. 4 - تنوع الاقتصاد القطري وضمان استقراره
5- إيجاد توازن بين اقتصاد الطاقة والمعرفة 6- احترام حقوق الانسان وسيادة القانون.

أولاً : الموضوعات الاثرائية :
الوحدة السادسة : الأمن الوطني والتغير الاجتماعي
- الدرس الثاني: التغيُّر الاجتماعي و أثره في المجتمع القطري

الزعيم في الدراسات الاجتماعية الصف: الثامن نهاية الفصل الاول / شرح كامل / اسئلة وفق النتاجات التعليمية / اجوبة نموذجية / توقعات للأشكال والخرائط / اسئلة اثرائية متميزة / خبراء متخصصون في المجال / أسأل زملائك السابقين عن الزعيم في الدراسات الاجتماعية ليلة الاختبار خير رفيق& والحصول على أعلى الدرجات$$ //☑ DR – H

مع أطيب المُنى وأرق تحياتي

DR - H

DR- HAMDY DEWIB