مدرسة القطوف النموذجية
تأسست في ١٤١٣ هـ / ١٩٩٣ م

ملزمة مراجعة

اجتماعيات

الصف الخامس

للفصل الدراسي الأول

العام الدراسي 2020/2019

مدرسة القطوف النموذجية

هذه الأسئلة لا تغني عن الكتاب المدرسي

السؤال الأول : **أكمل العبارات التالية بما يناسبها**:

1. تبلغ مساحة المياه على سطح الأرض هو **70%**
2. تبلغ مساحة اليابس على سطح الأرض هو **30%**
3. تطل بلادي الكويت على مسطح مائي يسمى **الخليج العربي.**
4. يبلغ عدد المحيطات في العالم **خمس محيطات**
5. يبلغ عدد القارات في العالم **سبع قارات**.
6. أكبر قارات العالم من حيث المساحة وعدد السكان هي **أسيا.**
7. أصغر قارات العالم من حيث المساحة هي **أستراليا .**
8. القارات التي تقع بها بلادي الكويت هي **آسيا .**
9. القارة غير المأهولة بالسكان هي **القارة القطبية الجنوبية**
10. الجهة التي تقع فيها بلادي الكويت بالنسبة لشبه الجزيرة العربية هي **الشمالية الشرقية**
11. يبلغ عدد دول الخليج العربية **6 دول**.
12. المضيق الذي يربط بين الخليج العربي وخليج عمان هو **مضيق هرمز**.
13. يبلغ عدد دول الوطن العربي **22 دولة .**
14. الجهة التي تقع فيها بلادي الكويت بالنسبة للوطن العربي هي **الجهة الشرقية**
15. يمتد الوطن العربي في قارتين هما **آسيا وافريقيا**

هذه الأسئلة لا تغني عن الكتاب المدرسي

مدرسة القطوف النموذجية

16. البحر الذي يفصل بين دول الوطن العربي في قارة آسيا ودول الوطن العربي في قارة أفريقيا هو **البحر الأحمر**

17. اكبر القارات التي يوجد بها عدد من الدول الإسلامية هي **آسيا**

18. اقل القارات التي يوجد بها عدد من الدول الإسلامية هي **أمريكا الجنوبية**

19. عدد الدول الإسلامية في قارة آسيا هي **27**

20. عدد الدول الإسلامية في قارة أفريقيا هي **26**

21. عدد الدول الإسلامية في قارة أوروبا هي **2**

22. عدد الدول الإسلامية في قارة أمريكا الجنوبية هي **واحدة**

23. الإقليم المناخي الذي تقع ضمنه بلادي الكويت هو **الصحراوي**

24. مميزات الإقليم الصحراوي صيفا هي **ارتفاع الحرارة الجفاف وفقر التربة**.

25. مميزات الإقليم الصحراوي شتاءا هي **شدة البرودة وقلة الأمطار**

26. أنواع النباتات الطبيعية هي **نباتات حولية ونباتات معمرة**

27. أمثلة النباتات المعمرة هي **العرفج والرمث .**

28. أمثلة النباتات الحولية هي **الربلة والخزامي**.

29. النباتات الطبيعية السائدة في دولة الكويت من النوع **الصحراوي**

30. المحميات الطبيعية في بلادي الكويت مثل **محمية صباح الأحمد ومحمية جابر الكويت البحرية**

هذه الأسئلة لا تغني عن الكتاب المدرسي

31. مناطق تربية حيوانات الرعي والدواجن هي **الصليبية/ الشقايا/الوفرة/كبد**

32. طرق صيد الأسماك قديما مثل **الحظرة / القرقور/ الشباك**

33. تتركز استزراع الأسماك في بلادي الكويت في منطقتين هما **الوفرة والعبدلي**

34. الهيئة المشرفة على زراعة الأسماك في دولة الكويت تسمى **الهيئة العامة لشئون الزراعة والثروة السمكية**

35. أهم الأسماك التي تم استزراعها في بلادي الكويت مثل **الشعم والهامور**

36. أكبر الحقول النفطية في الكويت وثاني أكبر الحقول في العالم **هو برقان**

37. النسبة التي يشكلها النفط ومنتجاته البتروكيماوية من قيمة الصادرات الكويتية **هي 94%**

38. نسبة احتياطي النفط الكويتي بالنسبة للإحتياطي العالمى **هي 10%**

39. اكتشف النفط في بلادي الكويت في عهد الشيخ **احمد الجابر**

40. تم اكتشاف حقل برقان عام **1938**

41. تم اكتشاف حقل بحرة عام **1936**

42. العام الذي تم فيه تصدير أول شحنة من النفط الكويتي **هو 1946**

43. الميناء الذي تم منه تصدير أول شحنة من النفط الكويتي هو **ميناء الاحمدي**

44. العام الذي تم فيه حرق الابار النفطية الكويتية **هو 1991**

45. تم حرق الابار النفطية الكويتية في عهد الشيخ **جابر الأحمد**

هذه الأسئلة لا تغني عن الكتاب المدرسي

مدرسة القطوف النموذجية

46. أحرقت الابار النفطية الكويتية على **يد القوات العراقية**

47. اكتشف النفط الخفيف عالي الجودة في بلادي الكويت في حقل يسمى **الصابرية**

48. _العام الذي اكتشف فيه النفط الخفيف عالي الجودة في بلادي الكويت **هو 2005**

49. العام الذي تم فيه تصدير أول شحنة من النفط الخفيف عالي الجودة في بلادي الكويت **هو 2018**

50. _حاكم الكويت الذي تم في عهده تصدير أول شحنة من النفط الخفيف عالي الجودة في بلادي الكويت **هو الشيخ صباح الأحمد**

51. حاكم الكويت الذي تم في عهده تصدير أول شحنه من النفط الكويتي هو **الشيخ أحمد الجابر**

52. أقدم مصادر الطاقة التي عرفها الإنسان **هي الرياح**

53. أهم محطات طاقة الرياح في بلادي الكويت هي **محطة الشقايا**

54. العام الذي تم فيه اكتشاف الغاز الحر في الكويت **2006**

55. أهم حقول الغاز الحر في بلادي الكويت حقل **الصابرية وأم نقا**

56. نسبة طلب الكويت من الكهرباء من خلال الطاقة المتجددة تمثل **15%**

هذه الأسئلة لا تغني عن الكتاب المدرسي

السؤال الثاني : **ضع علامة (√) أو (x) أمام العبارات التالية:**

1. تقع دول الخليج العربية على الساحل الغربي للخليج العربي (√)
2. يقع وطننا العربي في وسط العالم (√)
3. تقع بلادي الكويت وسط العالم الإسلامي (√)
4. ظهر النفط في ثلاثينيات القرن العشرين (√)

السؤال الثالث : ارسم دائرة حول الخيار الصحيح من بين الخيارات التي تلي كل عبارة :

1- الدائرة التي تمثل نسبة عدد المسلمين في العالم الإسلامي بالنسبة لسكان العالم

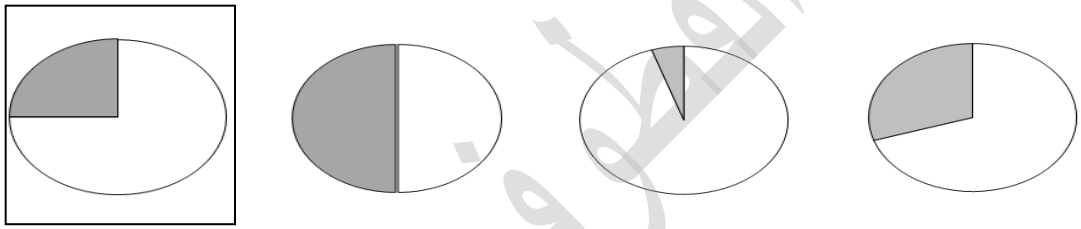

2- الدائرة التي تمثل نسبة مساحة العالم الإسلامي بالنسبة لمساحة الكرة الأرضية

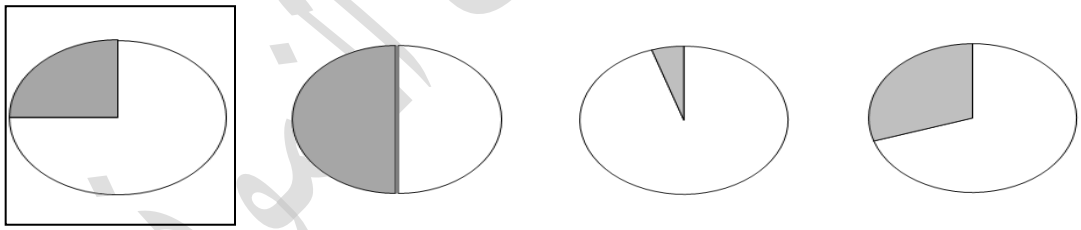

3- الدائرة التي تمثل نسبة اعتماد دولة الكويت على النفط :

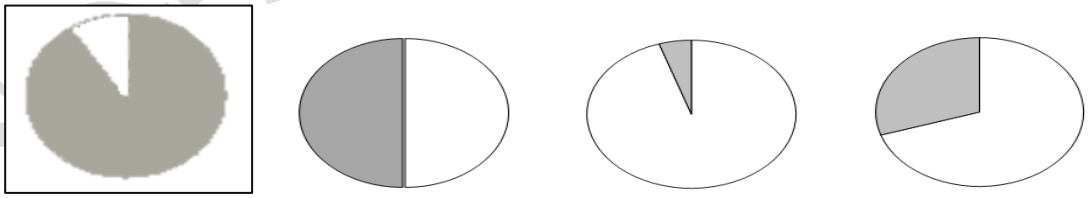

4- الدائرة التي تمثل نسبة احتياطي النفط في دولة الكويت بالنسبة لاحتياطي العالمي:

هذه الأسئلة لا تغني عن الكتاب المدرسي

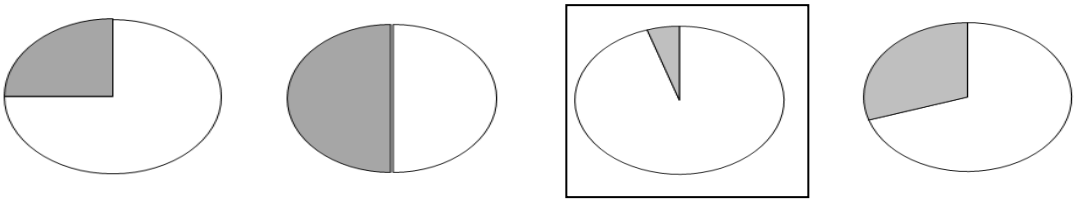

5- الصورة التالية تمثل نبات معمر هو:

النخيل - **العرفج** - الرمث - الخزامي

6- الصورة التالية تمثل نبات معمر هو:

النخيل - العرفج - الرمث - **الخزامي**

مدرسة القطيف النموذجية

هذه الأسئلة لا تغني عن الكتاب المدرسي

السؤال الرابع: **أملا الفراغات في المخططات السهمية التالية**:

1- الدول الخليجية التي تطل على مسطح مائي واحد

- **الكويت**
- **البحرين**.
- **قطر**

2- الدول الخليجية التي تطل على أكثر من مسطح مائي

- **الإمارات**
- **عمان**
- **السعودية**

3-السمات المشتركة بين دول الوطن العربي

- **الدين/ اللغة**
- **التراث**
- **التاريخ**
- **الأهداف المشتركة**

4- المضايق التي يطل عليها الوطن العربي

- **مضيق هرمز**
- **مضيق باب المندب**
- **مضيق جبل**
- **قناة السويس**

هذه الأسئلة لا تغني عن الكتاب المدرسي

5- القارات التي يمتد بها العالم الإسلامي

- **آسيا**
- **أفريقيا**
- **أوروبا**
- **أمريكا الجنوبية**

6- أنواع الموارد الطبيعية

- **موارد حية**
- **موارد غير حية**

7- الموارد الحية

- **نباتات**
- **حيوانات**
- **اسماك**

8- موارد غير حية

- **الشمس**
- **الماء**
- **الرياح**
- **النفط**
- **الغاز الطبيعي**

هذه الأسئلة لا تغني عن الكتاب المدرسي

9- أنواع الطاقة

- **طاقة متجددة**
- **طاقة غير متجددة**

10- مصادر الطاقة المتجددة

- **الرياح**
- **الماء**
- **الشمس**

11- مصادر الطاقة غير المتجددة

- **الفحم**
- **النفط**
- **الغاز الطبيعي**

12- محطات منطقة الشقايا

- **الشقايا للطاقة الشمسية الحرارية**
- **الشقايا للطاقة الكهروضوئية**
- **الشقايا لطاقة الرياح**

مدرسة القطر النموذجية

هذه الأسئلة لا تغني عن الكتاب المدرسي

السؤال الخامس :اكتب ما تعرفه عن:

1. أهمية موقع الوطن العربي.

- **يقع وسط العالم/ يطل على العديد من المسطحات المائية**
- **يشرف على العديد من المضايق/له أهمية كبيرة في الملاحة والتجارة العالمية**

2. أهمية موقع العالم الإسلامي.

- **يحتل موقعا وسطا بالنسبة للعالم**
- **يشغل مساحة واسعة شبه متصلة من اليابس**

3. مميزات العالم الإسلامي

- **عدد المسلمين في العالم الإسلامي ربع سكان العالم**
- **مساحة العالم الإسلامي ربع مساحة الكرة الأرضية**
- **كثرة الموارد الطبيعية**
- **يطل العالم الإسلامي على 18 بحرا ويشرف على 3 محيطات والعديد من المضائق المائية**

4. أهمية الموارد الطبيعية.

- **الغذاء**
- **لازمة لاستمرار حياة الإنسان على وجه الأرض**

هذه الأسئلة لا تغني عن الكتاب المدرسي

مدرسة القطوف النموذجية

5. أهمية النباتات الطبيعية:

- **يستفاد منها في رعي الحيوانات**
- **الحصول على الأخشاب**
- **صناعة الأدوية الصابون**

6. المشكلات التي يواجهها النبات الطبيعي

- **تلوث التربة**
- **الرعي الجائر**
- **قطع الأشجار والنباتات**
- **التوسع في بناء المدن والمصانع**

7. جهود الدولة في المحافظة على النبات الطبيعي

- **سن القوانين لمنع إتلاف وتدمير وقطع النباتات الطبيعية**
- **إنشاء المحميات الطبيعية**
- **تحديد موسم التخييم في فصل الربيع**

مدرسة القطوف النموذجية

هذه الأسئلة لا تغني عن الكتاب المدرسي

8.وسائل تكيف حيوانات الحياة الفطرية مع ظروف البيئة القاسية.

– مقاومة الجفاف

– تخزين الماء

–تلون غطاء أجسامها

9.المشكلات التي تواجه الحيوانات في البيئة الفطرية

– تلوث البيئة

–الصيد الجائر

– الاتجار غير القانوني

10.جهود الدولة في المحافظة على الحيوانات في الحياة الفطرية

– حظر صيد الحيوانات والطيور في موسم تكاثرها

– إنشاء محميات للحيوانات والطيور مثل محمية صباح الأحمد ومحمية جابر الكويت البحرية

11. جهود الكويت في تشجيع الثروة الحيوانية

_ تربية الحيوانات في مزارع خاصة

–توفير الرعاية البيطرية

– الدعم المادي

– توفير الأعلاف بأسعار رمزية

هذه الأسئلة لا تغني عن الكتاب المدرسي

مدرسة القطوف النموذجية

12. المشكلات التي تتعرض لها الثروة السمكية.

– نفوق الأسماك

–تلوث البحر بسبب رمي المخلفات

13 . جهود الكويت في المحافظة على الثروة السمكية

–تحديد مواسم الصيد

– منع الدولة لبعض أنواع أدوات صيد الأسماك لتأثيرها السلبي على البيئة البحرية

– سن قوانين لمنع رمي المخلفات في البحر

–الاهتمام باستزراع الأسماك

14.أهمية النفط

– مصدر الطاقة الأساسي والأول في العالم

–تعتمد الصناعات ووسائل النقل على وجوده

15 .استخدامات النفط

–الإضاءة والتدفئة

– مشتقاته مثل البنزين والكيروسين تستخدم في تشغيل المصانع وتحريك وسائل النقل

–يدخل في الصناعات الكيميائية

هذه الأسئلة لا تغني عن الكتاب المدرسي

مدرسة القطوف النموذجية

16. مراحل تكوون النفط

– موت الكائنات الحية

– تحلل الكائنات بعد دفنها

– الضغط والحرارة والزمن يشكل النفط

17. جهود الدولة في المحافظة على الثروة النفطية

– إنشاء مشاريع جديدة تساهم في المحافظة على النفط والبيئة مثل مشروع الوقود البيئي ومشروع الطاقة البديلة

18– كيفية المحافظة على الموارد الطبيعية

–العمل التطوعي

–التدوير

–ترشيد الاستهلاك

19– النتائج المترتبة على الممارسات السلبية للإنسان ضد البيئة

–الإخلال بالتوازن البيئي

– ظهور الأمراض والأوبئة

مدرسة القطوف النموذجية

هذه الأسئلة لا تغني عن الكتاب المدرسي

20- مميزات الطاقة المتجددة

-غير ملوثة للبيئة

-متواجده بشكل دائم

-اقتصادية

-بديلة عن الطاقة غير المتجددة

21- مميزات الطاقة غير المتجددة

- متوافرة حاليا بكميات كبيرة

- تنتج طاقة حرارية كبيرة جدا

22-استخدامات طاقة الرياح قديما في بلادي الكويت

- **تسيير السفن الشراعية**
- **تجفيف الحبوب**
- 23- استخدامات طاقة الرياح حديثا في بلادي الكويت
- **توليد الكهرباء**
- **تسخين المياه**

مدرسة القطوف النموذجية

هذه الأسئلة لا تغني عن الكتاب المدرسي

24- مميزات طاقة الرياح

-نظيفة غير ملوثة للبيئة

-دائمة التجدد

25- مميزات الغاز الطبيعي

-امن جدا وصديق للبيئة

-يعد من الغازات غير السامة

- أكثر أنواع الطاقة استخداما

-ليس له رائحة ولا لون

26- استخدامات الغاز الطبيعي

-الطبخ

-التدفئة

-تعبئة الثلاجات

-تحلية مياه البحر

27- التشابه بين الغاز الطبيعي والنفط

- يتشابه الغاز الطبيعي مع النفط في التواجد بين طبقات الصخور العميقة بباطن الأرض

مدرسة القطوف النموذجية

هذه الأسئلة لا تغني عن الكتاب المدرسي

28- الهدف من إقامة مشروع محطة الشقايا

-استغلال طاقة الشمس والرياح في توليد الكهرباء

29- نماذج استثمار الطاقة الشمسية في دولة الكويت

-المساجد مثل مسجد فاطمة العوضي

-الجمعيات التعاونية مثل جمعية العديلية وجمعية الزهراء

-مطار الكويت الدولي الجديد مبنى الركاب (2)

- مركز الشيخ عبد الله السالم الثقافي

مدرسة القطوف النموذجية

هذه الأسئلة لا تغني عن الكتاب المدرسي

السؤال السادس : عرف ما يأتي:

1. الخليج: **بحر ضيق يمتد طوليا بين اليابس**
2. البحر : **مسطح مائي أصغر من المحيط يفصل بين القارات**
3. المحيط: **مسطح مائي كبير جدا من الماء المالح**
4. القارة: **هي مساحة كبيرة من اليابسة يحيط بها الماء**
5. المضيق : **منفذ أو ممر ضيق من الماء يفصل بين مسطحين مائيين**
6. الوطن العربي: **مجموعة من الدول التي تجمعها سمات مشتركة مثل اللغة والدين والتراث والتاريخ والأهداف المشتركة وتمتد بين قارتي آسيا وافريقيا.**
7. القناة: **ممر مائي صناعي يشق للربط ما بين مسطحين مائيين**
8. العالم الإسلامي: **مجموعة من الدول التي يكون فيها عدد المسلمين 50% فأكثر من مجموع السكان**
9. الموارد الطبيعية: **كل ما أوجدة الله في الطبيعة دون أن يكون للإنسان دخل في وجودها**
10. النبات الطبيعي: **النباتات الذي ينمو دون تدخل الإنسان**
11. النباتات المعمرة: **نباتات تنمو طول العام وجذورها عميقة تساعدها على الاستفادة من الماء**
12. النباتات الحولية: **هي حشائش تنبت بعد سقوط المطر وتموت بسرعة**
13. المحمية الطبيعية: **أماكن تخصصها الدولة لحماية الحيوانات والنباتات المهددة بالانقراض**

هذه الأسئلة لا تغني عن الكتاب المدرسي

14. استزراع الأسماك: **تربية الأسماك بأنواعها المختلفة تحت ظروف محكمة وتحت سيطرة الإنسان**

15. النفط: **سائل أسود كثيف اللون قابل للاشتعال يتواجد في أعماق الأرض تكون نتيجة تحلل الكائنات الحية بسبب الضغط والحرارة عبر ملايين السنين**

16. إنتاج النفط: **كمية النفط التي يتم استخراجها للاستفادة منها**

17. احتياطي النفط: **كمية النفط المخزونة في باطن الأرض**

18. تصدير النفط:**نقل النفط الخام من الدول المنتجة إلى الدول المستوردة**

19. العمل التطوعي:**الانضمام إلى جمعيات ومراكز تهتم بالبيئة**

20. التدوير : **تحويل أي منتج غير مفيد إلى منتج آخر يستفاد منه**

21. ترشيد الاستهلاك: **استخدام الموارد المتاحة بالشكل الأمثل**

22. البيئة: **المكان الذي نعيش فيه ونمارس فيه نشاطاتنا المختلفة**

23. **الطاقة: هي القدرة على القيام معمل معين**

24. **الطاقة المتجددة : هي التي لا تنتهي ولا تنفذ وتسمى بالطاقة النظيفة**

25. **الطاقة غير المتجددة : هي التي تنتهي ولا يمكن تعويضها في زمن قصير**

26. **دوارة الرياح:أداه تحول حركة الرياح إلى طاقة**

27. **الغاز الحر: هو الغاز الذي يوجد في بئر منفصل عن النفط**

هذه الأسئلة لا تغني عن الكتاب المدرسي

السؤال السابع : **علل لما يلي:**

1- تسمية دول الخليج العربية بهذا الاسم.

- **لانها تطل على مسطح مائي هو الخليج العربي**

2- يسود النبات الصحراوي في بلادي الكويت

- **لشدة الحرارة/ قلة الأمطار/فقر التربة**

3- إنشاء المحميات الطبيعية.

لحماية النباتات والحيوانات المهددة بالإنقراض

4- أهمية حيوانات الرعي والدواجن.

يسد جزء من حاجة البلاد من الغذاء وخاصة البيض واللحوم والألبان

5- اعتماد الكويتيون على الأسماك كغذاء رئيسي

بسبب فقر البيئة الصحراوية

موقع الكويت على ساحل الخليج العربي

6- تسمية النفط بالذهب الأسود.

نظرا لأهميته وقيمته الكبيرة فهو غالي الثمن مثل الذهب

7- تسمية الطاقة المتجددة بالطاقة النظيفة

- **لأنها غير ملوثة للبيئة**

8- اختيار منطقة الشقايا كمحطة لتوليد الكهرباء

هذه الأسئلة لا تغني عن الكتاب المدرسي

- **لأنها تتميز بشدة الحرارة / سطوع الشمس/حركة الرياح طوال العام/ اتساع الأراضي المفتوحة/سهولة التضاريس**

السؤال التاسع :

أ- لاحظ خريطة الكويت التي أمامك ثم أكتب ما تشير إليه الأرقام التالي:-

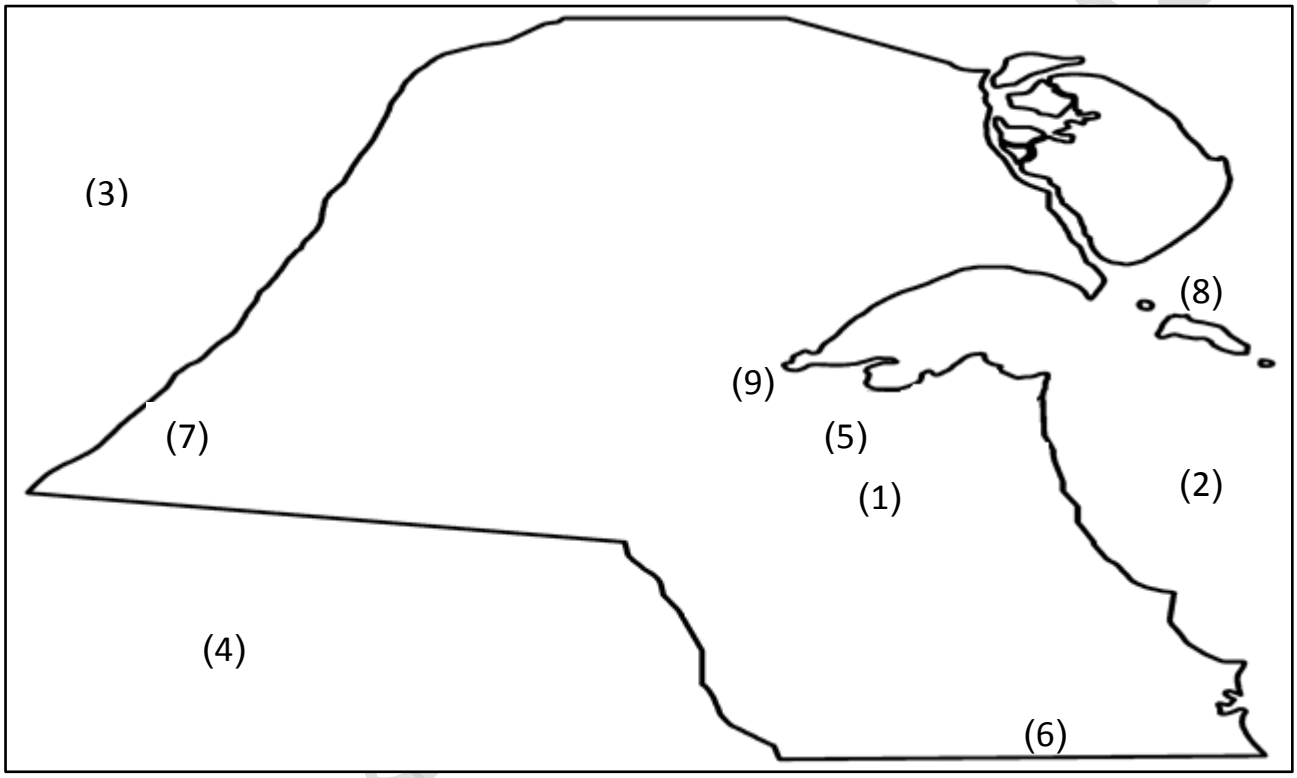

الرقم (1) علي الخريطة يشير إلي منطقة لتربية الثروة الحيوانية **كبد**

الرقم (2) علي الخريطة يشير إلي **الخليج العربي**

الرقم (3) علي الخريطة يشير إلي دولة **العراق**

الرقم (4) علي الخريطة يشير إلي دولة **السعودية**

الرقم (5) علي الخريطة يشير إلي منطقة لتربية الثروة الحيوانية **الصليبية**

الرقم (6) علي الخريطة يشير إلي منطقة لتربية الثروة الحيوانية **الوفرة**

الرقم (7) علي الخريطة يشير إلي لتربية الثروة الحيوانية **الشقايا**

هذه الأسئلة لا تغني عن الكتاب المدرسي

ب- لاحظ خريطة الكويت التي أمامك ثم أكتب الرقم الدال على العبارات التالية:-

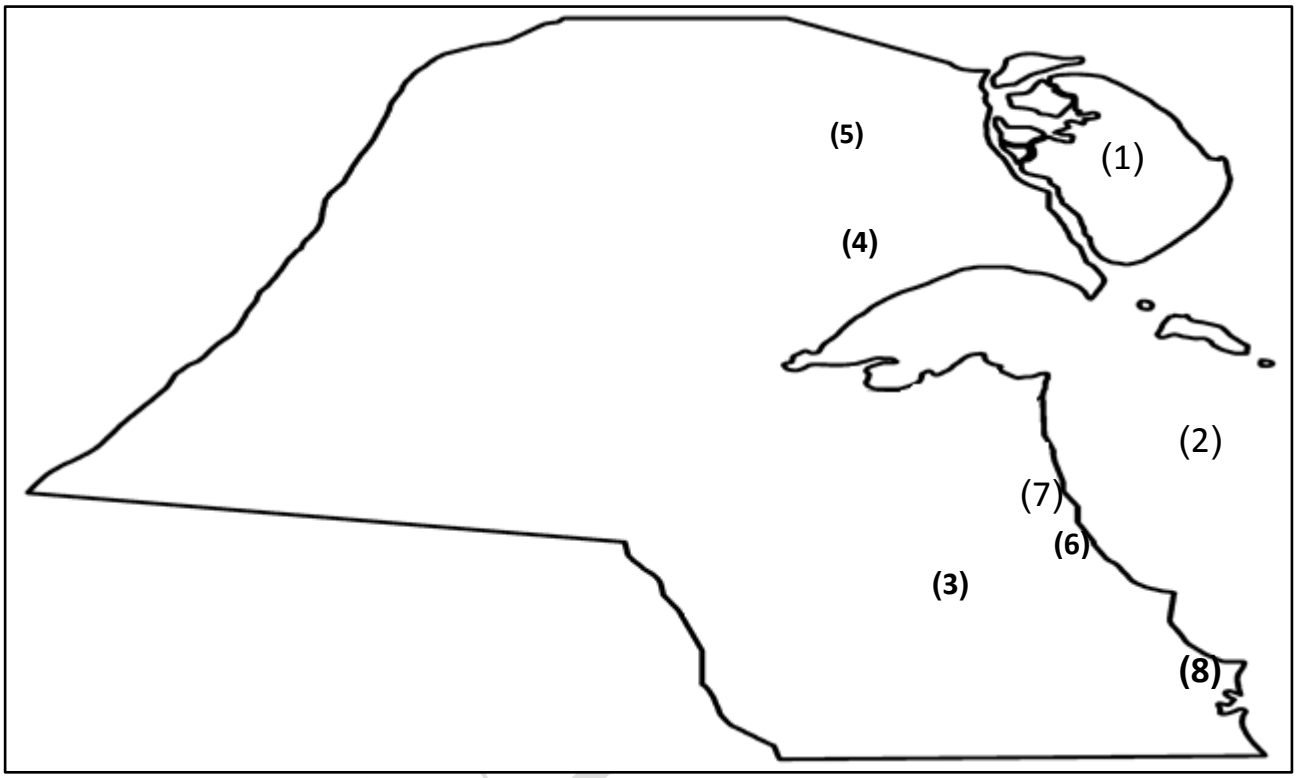

حقل الصابرية يحمل علي الخريطة الرقم (5)

حقل برقان يحمل علي الخريطة الرقم (3)

حقل بحرة يحمل علي الخريطة الرقم (4)

ميناء عبد الله يحمل علي الخريطة الرقم (6)

ميناء الزور يحمل علي الخريطة الرقم (8)

ميناء الأحمدي يحمل على الخريطة الرقم (7)

هذه الأسئلة لا تغني عن الكتاب المدرسي

ج - بعد دراسة (خريطة العالم) نفذ ما يلى:

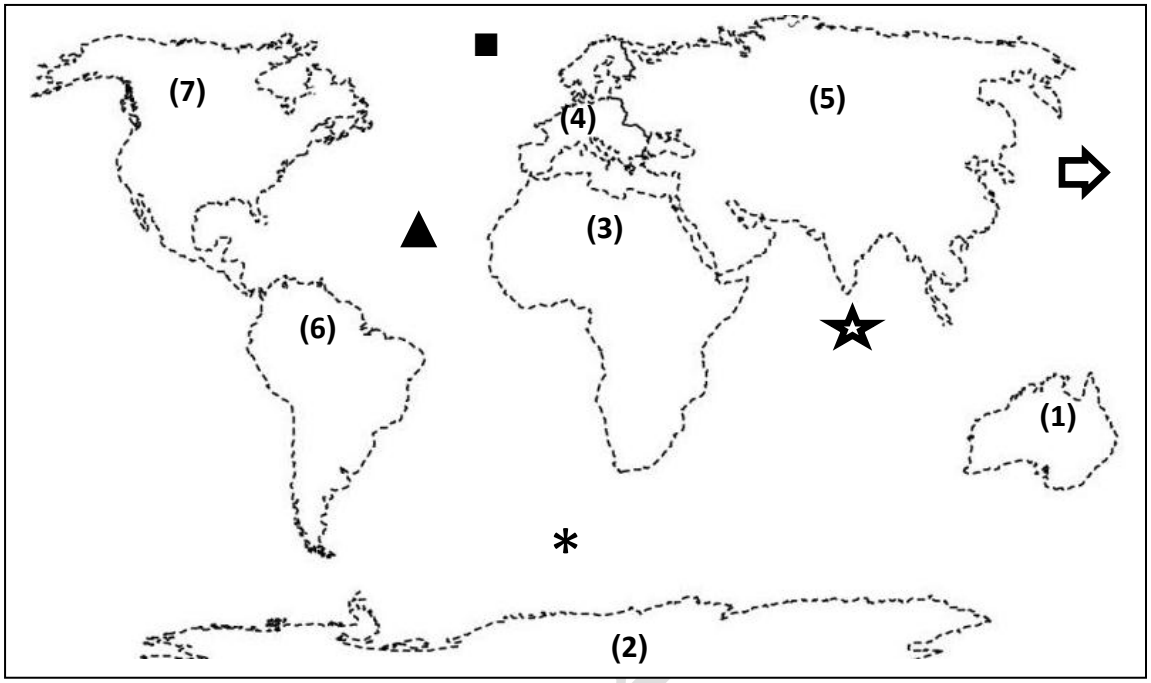

- الرقم(1)على الخريطة يشير إلى قارة استراليا
- الرقم (2)على الخريطة يشير إلى القارة القطبية الجنوبية
-- الرقم (3)على الخريطة يشير إلى قارة إفريقيا
- الرقم (4)على الخريطة يشير إلى قارة أوروبا
- الرقم (5)على الخريطة يشير إلى قارة آسيا
- الرقم (6)على الخريطة يشير إلى قارة أمريكا الجنوبية
- الرقم (7)على الخريطة يشير إلى قارة أمريكا الشمالية

- الرمز ⇨ على الخريطة يشير إلى المحيط الهادي

- الرمز ☆ على الخريطة يشير إلى المحيط الهندي

- الرمز ▲ على الخريطة يشير إلى المحيط الأطلسي

الرمز * على الخريطة يشير إلى المحيط المتجمد الجنوبي

الرمز ■ على الخريطة يشير إلى المحيط المتجمد الشمالي

هذه الأسئلة لا تغني عن الكتاب المدرسي

السؤال العاشر:- **اكتب ما تدل علية الصور التالية:-**

هذه الأسئلة لا تغني عن الكتاب المدرسي

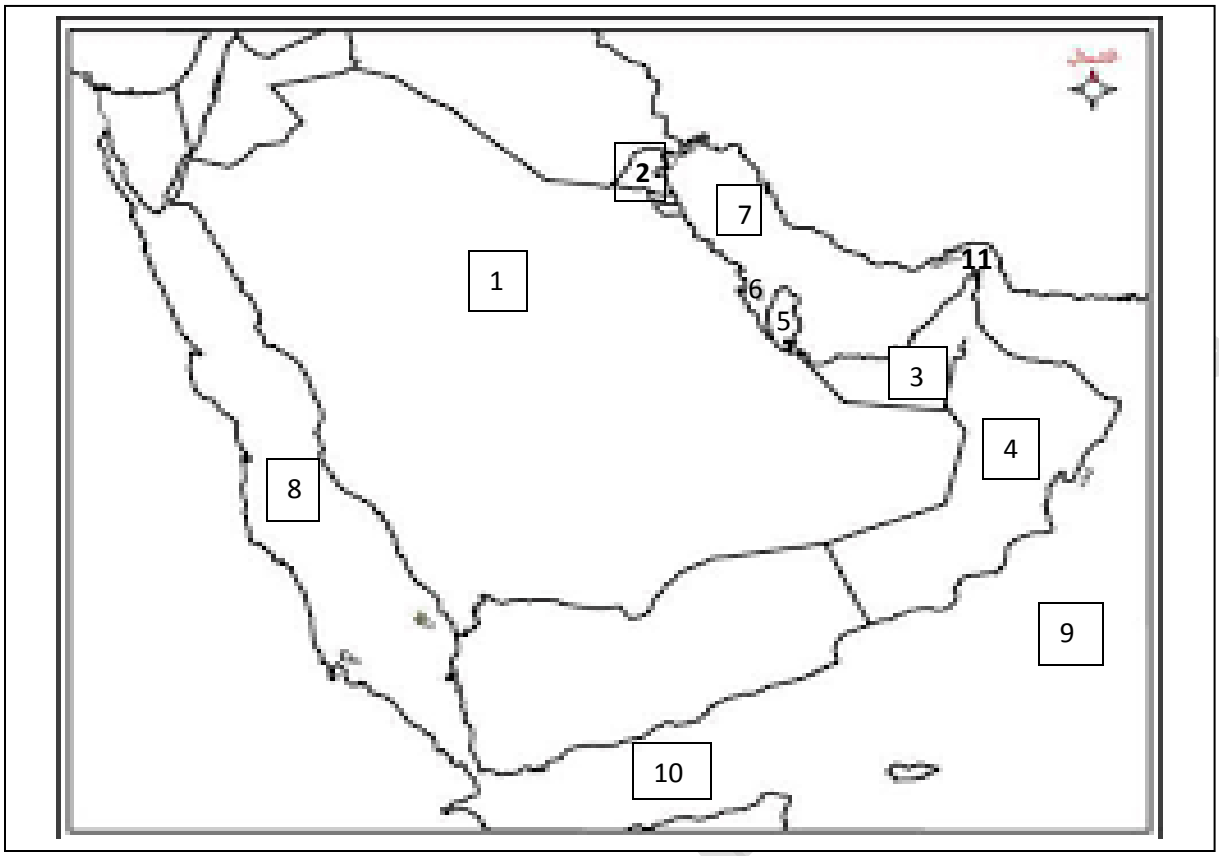

الرقم(1)على الخريطة يشير إلى المملكة العربية السعودية
- الرقم (2)على الخريطة يشير إلى دولة الكويت
-- الرقم (3)على الخريطة يشير إلى الأمارات العربية المتحدة
- الرقم (4)على الخريطة يشير إلى سلطنة عمان
- الرقم (5)على الخريطة يشير إلى دولة قطر
- الرقم (6)على الخريطة يشير إلى مملكة البحرين
- الرقم (7)على الخريطة يشير الخليج العربي
الرقم (8) على الخريطة يشير إلى البحر الأحمر
الرقم (9) على الخريطة يشير إلى بحر العرب
الرقم (10) على الخريطة يشير إلى خليج عدن
الرقم (11) على الخريطة يشير إلى مضيق هرمز

هذه الأسئلة لا تغني عن الكتاب المدرسي