أوراق عمل

للصف الثاني

الوحدة الأولى

الفصل الدراسي الأول

تم التحميل من :
شبكة ياكويت
http://www.ykuwait.net
TELEGRAM: @ykuwait_net_home

وزارة التربية
الإدارة العامة لمنطقة الأحمدي التعليمية
مدرسة صهيب بن سنان أ . بنين

ورقة عمل للصف الثاني
الوحدة الأولى
نموذج (أ)

الاسم : .....
الصف : .....

السؤال الاول : من خلال التمثيل البياني بالصور :-

اللعب المفضلة	

كل ☺ تمثل ١ متعلم

- اختر الاجابة الصحيحة بوضع (√) :

* ما اللعبة التي يحبها جميع المتعلمين :

◯ ◯ ◯

* كم عدد المتعلمين الذين يحبون سكوتر :

٤ ◯ ١ ◯ ٣ ◯

- أكمل الجدول التالي :

الالعاب المفضلة	علامات العدد	العدد

السؤال الثاني : صل :-

أمام

خلف

فوق

تحت

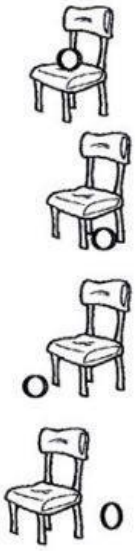

السؤال الثالث : لون الكرة :



السؤال الرابع :- حوط الشكل الذي يكمل النمط :-



وزارة التربية
الإدارة العامة لمنطقة الأحمدي التعليمية
مدرسة صهيب بن سنان أ . بنين

ورقة عمل للصف الثاني
الوحدة الأولى
نموذج (ب)

الاسم : .....
الصف : .....

السؤال الاول : من خلال التمثيل البياني بالصور :-

الفاكهة المفضلة	

كل
تمثل ١ متعلم

- اختر الاجابة الصحيحة بوضع (√) :

* ما الفاكهة التي يحبها جميع المتعلمين :

* كم عدد المتعلمين الذين يحبون العنب :

٤ ١ ٣

- أكمل الجدول التالي

الفاكهة المفضلة	علامات العدد	العدد

السؤال الثاني : صل :-

أمام

خلف

فوق

تحت

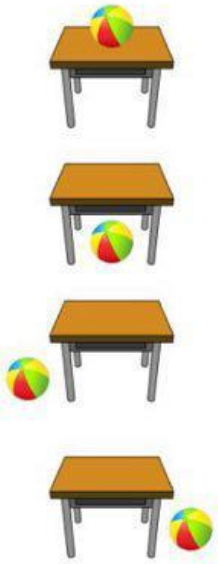

السؤال الثالث : لون الزرافة :



السؤال الرابع :- أكمل النمط :-

□ △ △ □ △ △ □ .....

وزارة التربية
الإدارة العامة لمنطقة الأحمدي التعليمية
مدرسة صهيب بن سنان أ . بنين

ورقة عمل للصف الثاني
الوحدة الأولى
نموذج (ج)

الاسم : .....
الصف : .....

السؤال الاول : من خلال التمثيل البياني بالصور :-

الرياضة المفضلة	

كل
تمثل ١ متعلم

- اختر الاجابة الصحيحة بوضع (√) :

* ما الرياضة التي يحبها جميع المتعلمين :

○ ○ ○

* كم عدد المتعلمين الذين يحبون كرة القدم:

٤ ١ ٣

○ ○ ○

أكمل الجدول التالي :

الالعاب المفضلة	علامات العدد	العدد

السؤال الثاني : صل :-

أمام

خلف

فوق

تحت

السؤال الثالث : لون الكرة :



السؤال الرابع :- أكمل النمط :-

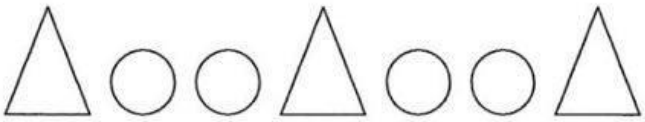

.....

أوراق عمل

للصف الثاني

الوحدة الثانية

الفصل الدراسي الأول

وزارة التربية
منطقة الأحمدي التعليمية
مدرسة مهيب بن سنان الابتدائية بنين

ورقة عمل للصف الثاني
الوحدة الثانية
نموذج (أ)

الإسم :.....
الصف :.....

السؤال الأول: اكتب رمز العدد ؟

١-

عشرات	وحدات

٢- تسعة وعشرون

السؤال الثاني: أكمل:

١-

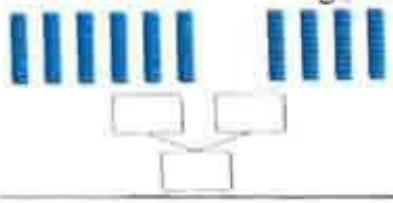

أكمل السلسلة :

٢-

٤١	٤٢	٤٣			

السؤال الثالث :حوط ما يأتي

١- العدد الأكبر :

٨ ، ٦٦

٢- العدد الزوجي :

٤ ، ٥

السؤال الرابع :اختر الاجابه الصحيحة بوضع ✓

١- القيمة المكانية للرقم ٥ فى العدد ٥٢ هي:

٥ ◯ ٥٠ ◯ ٢ ◯

٢- العدد الناقص ليكمل الترتيب:

٧٦	٧٧	ـــــ

٦٩ ◯ ٥٧ ◯ ٧٨ ◯

٣-العدد ٤٩ أقرب الى العدد ـــــ

٥٠ ٤٩ ٤٨ ٤٧ ٤٦ ٤٥ ٤٤ ٤٣ ٤٢ ٤١ ٤٠

٥٠ ◯ ٤٠ ◯ ٣٠ ◯

وزارة التربية
منطقة الأحمدي التعليمية
مدرسة صهيب بن سنان الابتدائية بنين

ورقة عمل للصف الثاني
الوحدة الثانية
نموذج (ب)

الإسم :.....
الصف :.....

السؤال الأول: اكتب رمز العدد ؟

١-

عشرات	وحدات

٢- ثلاثة عشر

السؤال الثاني: أكمل:

١-

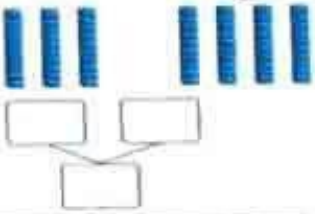

أكمل السلسلة :

٢-

			٥٣	٥٢	٥١

السؤال الثالث :حوط ما يأتي

١- العدد الأكبر :

٣٧ ، ٩

٢- العدد الزوجي :

٥ ، ٦

السؤال الرابع :اختر الاجابه الصحيحة بوضع ✓

١- القيمة المكانية للرقم ٥ في العدد ٥٢ هي:

٥ ◯ ٥٠ ◯ ٢ ◯

٢- العدد الناقص ليكمل الترتيب:

٦٧	٦٨	ـــــ

٦٩ ◯ ٥٧ ◯ ٧٨ ◯

٣-العدد ٤٢ أقرب الى العدد ـــــ

٥٠ ٤٩ ٤٨ ٤٧ ٤٦ ٤٥ ٤٤ ٤٣ ٤٢ ٤١ ٤٠

٥٠ ◯ ٤٠ ◯ ٣٠ ◯

وزارة التربية
منطقة الأحمدي التعليمية
مدرسة صهيب بن سنان الابتدائية بنين

ورقة عمل للصف الثاني
الوحدة الثانية
نموذج (ج)

الإسم :.....
الصف :.....

السؤال الأول: اكتب رمز العدد ؟

١-

عشرات	وحدات

٢- أربعة وثلاثون

السؤال الثاني: أكمل:

١-

٢- أكمل السلسلة :

٦١	٦٢	٦٣			

السؤال الثالث :حوط ما يأتي

١- العدد الأصغر :
٨ ، ٧٧

٢- العدد الزوجي :
٤ ، ٥

السؤال الرابع :اختر الاجابه الصحيحة بوضع ✓

١- القيمة المكانية للرقم ٥ فى العدد ٥٢ هي:

٥ ◯ ٥٠ ◯ ٢ ◯

٢- العدد الناقص ليكمل الترتيب:

٧٦	٧٧	ـــــ

٦٩ ◯ ٥٧ ◯ ٧٨ ◯

٣-العدد ٤٩ أقرب الى العدد ـــــ

٥٠ ٤٩ ٤٨ ٤٧ ٤٦ ٤٥ ٤٤ ٤٣ ٤٢ ٤١ ٤٠

٥٠ ◯ ٤٠ ◯ ٣٠ ◯

أوراق عمل

للصف الثاني

الوحدة الرابعة

الفصل الدراسي الأول

وزارة التربية
الادارة العامة لمنطقة الاحمدي التعليمية
مدرسة صهيب بن سنان الابتدائية -بنين

ورقة عمل للصف الثاني
الوحدة الرابعة
نموذج (أ)

الاسم : .....

الصف : .....

السؤال الاول : اتبع القاعدة و اكمل

القاعده :	اجمع ٢
٢	٤
٩	
١٠	

السؤال الثاني : اوجد الناتج

احاد	عشرات
٤	٢
٥ +	١

احاد	عشرات
☐	☐
٢	٧
٨	٢

٥ ١
٢ ١
٥ + ٢

السؤال الثالث : اختار الاجابة الصحيحة :

١) ناتج ١٣ هو :
+ ٤٠

أ) ٤٣ ب) ٥٠ ج) ٥٣

---

٢) ناتج ٩٩ هو :
_ ٩

أ) ٩٩ ب) ٩٠ ج) ٩٥

---

٣) العدد المجهول : ٢٠ هو :
+ ☐
٧٠

أ) ٥٥ ب) ٣٠ ج) ٥٠

وزارة التربية
الادارة العامة لمنطقة الاحمدي التعليمية
مدرسة صهيب بن سنان الابتدائية -بنين

الاسم : .....
الصف : .....

ورقة عمل للصف الثاني
الوحدة الرابعة
نموذج (ب)

السؤال الاول : اتبع القاعدة و اكمل

القاعده :	اجمع ٣
٢	٥
٩	
١٠	

السؤال الثاني : اوجد الناتج

احاد	عشرات
٤	٢
+ ٣	١

احاد	عشرات
☐	☐
٢	٧
٨	٢

١ ٨
١ ٢
+ ٢ ٥

السؤال الثالث : اختار الاجابة الصحيحة :

١) ناتج ١٣ هو :
+ ١٠

أ) ٢٣ ب) ٢٠ ج) ١٠

---

٢) ناتج ٨٨ هو :
− ٨

أ) ٨٨ ب) ٨ ج) ٨٠

---

٣) العدد المجهول : ١٠ هو :
+ ☐
٦٠

أ) ٣٠ ب) ٥٠ ج) ٤٠

وزارة التربية
الادارة العامة لمنطقة الاحمدي التعليمية
مدرسة صهيب بن سنان الابتدائية -بنين

الاسم : .....
الصف : .....

ورقة عمل للصف الثاني
الوحدة الرابعة
نموذج (ج)

السؤال الاول : اتبع القاعدة و اكمل

القاعده :	اجمع ٢
١	٣
٨	
٩	

السؤال الثاني : اوجد الناتج

احاد	عشرات
٤	٢
+ ٤	١

احاد	عشرات
٢	٧
− ٨	٢

١ ٩
١ ٢
+ ١ ٢

السؤال الثالث : اختار الاجابة الصحيحة :

١) ناتج ١٧ هو :
+ ١٠

أ) ٧٠ ب) ٢٧ ج) ١٠

---

٢) ناتج ٤٤ هو :
− ٤

أ) ٤٠ ب) ٤٤ ج) ٤

---

٣) العدد المجهول : ٣٠ هو :
+ □
٨

أ) ٥٠ ب) ٣٠ ج) ٦٠