وزارة التربية
التوجيه الفني العام للاجتماعيات

امتحان الفترة الدراسية الأولى
لمادة دولة الكويت والعالم الإسلامي
الصف الثامن
نموذج (١) تجريبي

العام الدراسي: ٢٠١٨/٢٠١٩م
الـزمـــــن: ساعة و٤٥ دقيقة
عـدد الأوراق: ٤ أوراق

السؤال الأول: (إجباري) ويتكون من (أ – ب – ج - د – هـ) : (كل نقطة درجة)

(أ) أكمل العبارات التالية بما يناسبها فيما درست:

١. العام الذي اعتمدت فيه الجمعية العامة للأمم المتحدة اللغة العربية ضمن اللغات الرسمية هو.....م
٢. الداعية الكويتي البارز في مجال العمل الإنساني والخيري اسمه الدكتور.....
٣. المكان الذي اجتمع فيه المسلمين بعد وفاة الرسول لاختيار خليفة لهم يسمى.....
٤. المدينة التي اقامت فيها الحضارة الإسلامية ديواناً للماء تسمى.....
٥. الجهة المسؤولة في الوقت الحالي عن الوقف في دولة الكويت تسمى.....
٦. عدد الكتب التي ألفها العالم المسلم الجاحظ تقدر بنحو .....مؤلفاً
٧. الدولة الإسلامية الوحيدة التي تقع في قارة أمريكا الجنوبية اسمها.....

(ب): ضع خطاً تحت الخيار الصحيح من بين الخيارات التي تلي كل عبارة:

١. السهل الذي يقع جنوب دولة الكويت :
أ- اللياح ب- كراع المرو ج- وارة د- جال الزور

٢. المرتفعات التي تحجز سهل تهامة في الغرب عن هضبة نجد في الشرق:
أ- عسير ب- الحجاز ج- اليمن د- زاجروس

٣. أولى دول العالم الإسلامي إنتاجاً لمعدن اليورانيوم حسب إحصاء عام ٢٠١٤م:
أ- كازاخستان ب- أوزباكستان ج- طاجيكستان د- قيرغيزستان

٤. العالم المسلم صاحب كتاب (الجبر والمقابلة):
أ- البيروني ب- الخوارزمي ج- الكندي د- الرازي

٥. نسبة مساحة العالم الإسلامي من جملة مساحة العالم :
أ- ١٢مليون كم٢ ب- ٢٢مليون كم٢ ج- ٣٢مليون كم٢ د-٤٢مليون كم٢

٦. أصغر دول العالم الإسلامي من حيث المساحة:
أ- جزر المالديف ب- جزر القمر ج- البحرين د- قطر

٧. نسبة احتياطي العالم الإسلامي من النفط من إجمالي الاحتياطي العالمي يمثله الجزء المظلل بالأسود من الدائرة:

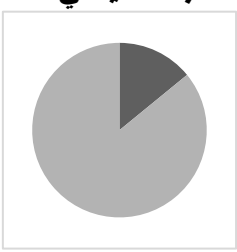
أ

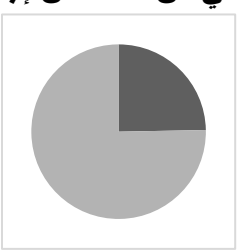
ب

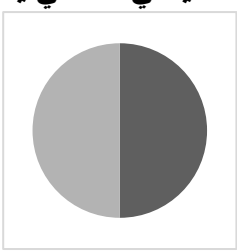
ج

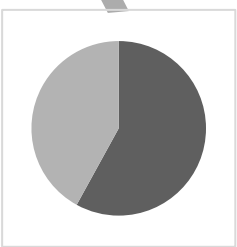
د

إعداد الأستاذ/ ناصر الجندي

(ج): لاحظ خريطة شبه الجزيرة العربية ثم أجب عن الأسئلة التالية:

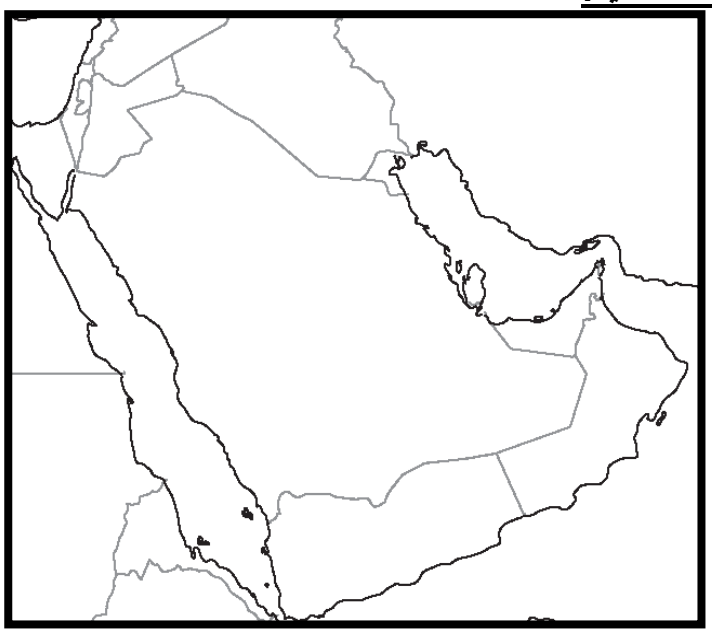

١.حدد المدينة المنورة باستخدام الرمز ▲

٢.حدد الدولة التي يوجد بها بيت الحكمة بالرمز ●

٣.حدد الدولة التي يوجد بها المسجد الأموي بالرمز ◆

٤.حدد جبال عسير باستخدام الرمز ★

(د): صحح ما تحته خط فيما يلي كل عبارة مع وضع الإجابة الصحيحة بين القوسين:

م	العبارة	الإجابة الصحيحة
١	- العالم المسلم صاحب كتاب (الصيدلة في الطب) يسمى *الخوارزمي*	(.....)
٢	- الخليفة الراشد الذي استحدث منصب المحتسب هو *علي بن أبي طالب*	(.....)
٣	- ظهرت الحضارة الإسلامية خلال القرن *التاسع* الميلادي	(.....)
٤	- الطراز المعماري الذي صمم عليه المسجد الكبير في الكويت هو *الطراز الأمريكي*	(.....)
٥	- أكبر الأقاليم المناخية انتشاراً في دول العالم الإسلامي اسمه *الإستوائي*	(.....)
٦	- العالم المسلم الذي يرجع له الفضل في تطوير الكاميرا هو *الكندي*	(.....)
٧	- المدينة التي يوجد بها المسجد الأموي تسمى *القاهرة*	(.....)
٨	- القارة التي يقع بها جبال الألب الدينارية اسمها *أفريقيا*	(.....)

(هـ): انسب القصور والمساجد التالية طبقاً لمؤسسها بالجدول التالي:

١. قصر عمرة ٢. قصر الخضراء ٣. المسجد الكبير ٤. قصر الرصافة

معاوية بن أبي سفيان	يزيد بن معاوية	هشام بن عبد الملك	الشيخ جابر الأحمد
-	-	-	-

درجة السؤال الأول .....

٣٠

إعداد الأستاذ/ ناصر الجلاي

السؤال الثاني: (إجباري) ويتكون من (أ – ب – ج)

(أ) أقرأ الفقرة التالية جيداً ثم أجب عما يليها من أسئلة

(تعد الثروة الزراعية في العالم الإسلامي المصدر الرئيسي لإنتاج الغذاء ويعمل بها ٧٠% من سكان العالم الإسلامي ومن أهم المحاصيل الزراعية في العالم الإسلامي الحبوب والغلات النقدية)

١. **عرف ما تحته خط**

(.....)

٢. **عدد العوامل التي ساعدت على زيادة الإنتاج الزراعي في دول العالم الإسلامي.**

- .....
- .....
- .....

(ب) أكتب فيما يلي مما درست:

١. **قصر الحمراء**

–.....
–.....
–.....

٢. **المسجد الكبير بدولة الكويت**

- .....
- .....
- .....

(ج) علل ما يلي:

١. **تسمية الحضارة الإسلامية بهذا الاسم**

–.....
–.....

٢. **قلة عدد السكان في المناطق الجبلية في دول العالم الإسلامي.**

–.....
–.....

٣. **تسمية الزكاة بهذا الاسم**

–.....

درجة السؤال الثاني .....

١٥

إعداد الأستاذ/ ناصر الجندي

السؤال الثالث: (إجباري) ويتكون من (أ – ب – ج)

(أ) لاحظ الصورة المقابلة ثم أجب عما يليها من أسئلة

١. **العالم المسلم صاحب الخريطة المقابلة يسمى:**

(.....)

٢. **عدد أهم المراكز العلمية فى الحضارة الإسلامية.**

-.....

-.....

٣. **عدد العوامل التى أدت إلى ازدهار العلم وظهور العلماء**

-.....

-.....

(ب) فرق بين كل من:

صادرات العالم الاسلامي	واردات العالم السلامي
-..... -	-..... - .....

الحبوب في دول العالم الإسلامي	الغلات النقدية في دول العالم الإسلامي
-..... -	-..... - .....

(ب) عرف ما يلى :

١. **((الحضارة)):** .....

٢. **((الهضبة)):** .....

٣. **((الجزية)):** .....

٤. **((الفسيفساء)):** .....

٥. **((المساجد)):** .....

٦. **((الإقليم المناخى)):** .....

درجة السؤال الثالث .....

١٥

انتهت الأسئلة مع تمنياتنا لكم بالتوفيق.....

أعداد الأستاذ/ ناصر الجندي