وزارة التربية
مدرسة القطوف النموذجية
الإسم : ----------

ورقة عمل لمادة الرياضيات
الصف الأول الابتدائي الفصل الدراسي الثاني
للعام الدراسي ٢٠١٨ / ٢٠١٩

الصف / -------

السؤال الأول : ١) أوجدي الناتج :

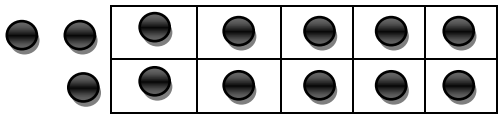

١٣ - ٤ = _____

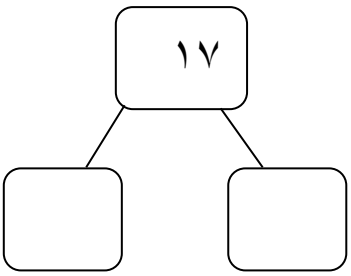

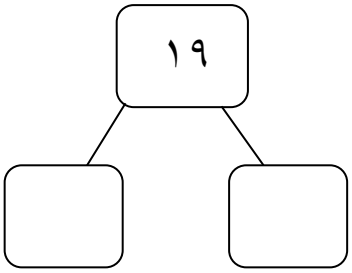

٢) أوجدي الناتج :

١٣
+ ٣
_____
[ ]

٥
٨
+ ٢
_____
[ ]

١٦
- ٥
_____
[ ]

اكتبي رمز العلاقة المناسب :
> أو < أو = :

١٨ ◯ ١٨

١٠ ◯ ١٧

رتبي الأعداد التالية تنازليا :

١٥ ، ١٢ ، ٢٠

[ ] [ ] [ ]

السؤال الثاني :أوجدي الناتج :

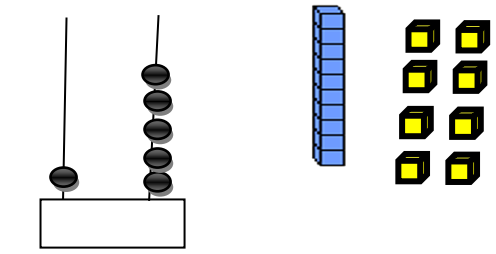

[ ] [ ]

كان مع ريم ١٥ ☆ ، أخذت أختها منها ٤ ☆
كم بقي مع ريم ؟

_____ ◯ _____ = _____

لدى جنى ١٣ ♡ ، أعطتها أمها ٦ ♡
كم عدد الكل ♡ ؟

_____ ◯ _____ = _____

٢) اكتبي عبارة الطرح ذات الصلة :

٩ + ٣ = ١٢
[ ]

٧ + ٧ = ١٤
[ ]

أوجدي العدد المجهول :

٩ + [ ] = ١٥