ورقة الاسئلة

الدَّرْسُ الأَوَّلُ: رِحْلَةُ المَعْرِفَةِ
خُطوطُ الطُّولِ وَدَوائِرُ العَرْضِ

الوحدة الأولى

رابع – الدراسات الإجتماعية والتربية الوطنية

صلي المصطلح بالمعنى المناسب:-

الموقع النسبي		أي موقع جسم ما على سطح الكرة الأرضية.
الموقع الجغرافي		موقع المكان بالنسبة لخطوط الطول ودوائر العرض.
خطوط الطول		هو خط الطول الرئيسي [خط الصفر] ويقسم العالم إلى نصفين متساويين.
خط جرينيتش		هي عبارة عن خطوط وهمية ترسم على نموذج الكرة الأرضية وتبدو على شكل دوائر تامة.
الموقع الفلكي		هو دائرة العرض الرئيسية، وتقسم العالم إلى نصفين
دوائر العرض		هي خطوط طولية يوازي بعضها البعض.
خط الاستواء		موقع المكان بالنسبة لليابسة والماء.

ضعي إشارة (√) عند الإجابة الصحيحة وإشارة (x) عند الإجابة الخاطئة:

1. ( ) اللون الأخضر يمثل اليابسة في الكرة الأرضية.
2. ( ) اللون الأزرق يمثل البحار والمحيطاة في الكرة الأرضية.
3. ( ) المجموعة الشمسية: هي جميع الأجسام التي تدور حول القمر.
4. ( ) تقسم الخطوط الطولية للأرض إلى 180 خطاً شرقاً و 180 غرباً.
5. ( ) يقسم العالم إلى 24 منطقة زمنية اعتماداً على خط جرنيتش.
6. ( ) يقع مدار السرطان في جنوب خط الاستواء عند دائرة عرض 23.5 جنوباً.
7. ( ) يقع مدار الجدي في شمال خط الاستواء عند دائرة عرض 23.5 شمالاً.

أم دانة أحمد

ضعي الإجابة الصحيحة ما بين القوسين في المكان المناسب في الرسمة التالية: (الشمال – الشرق – الغرب – الجنوب)

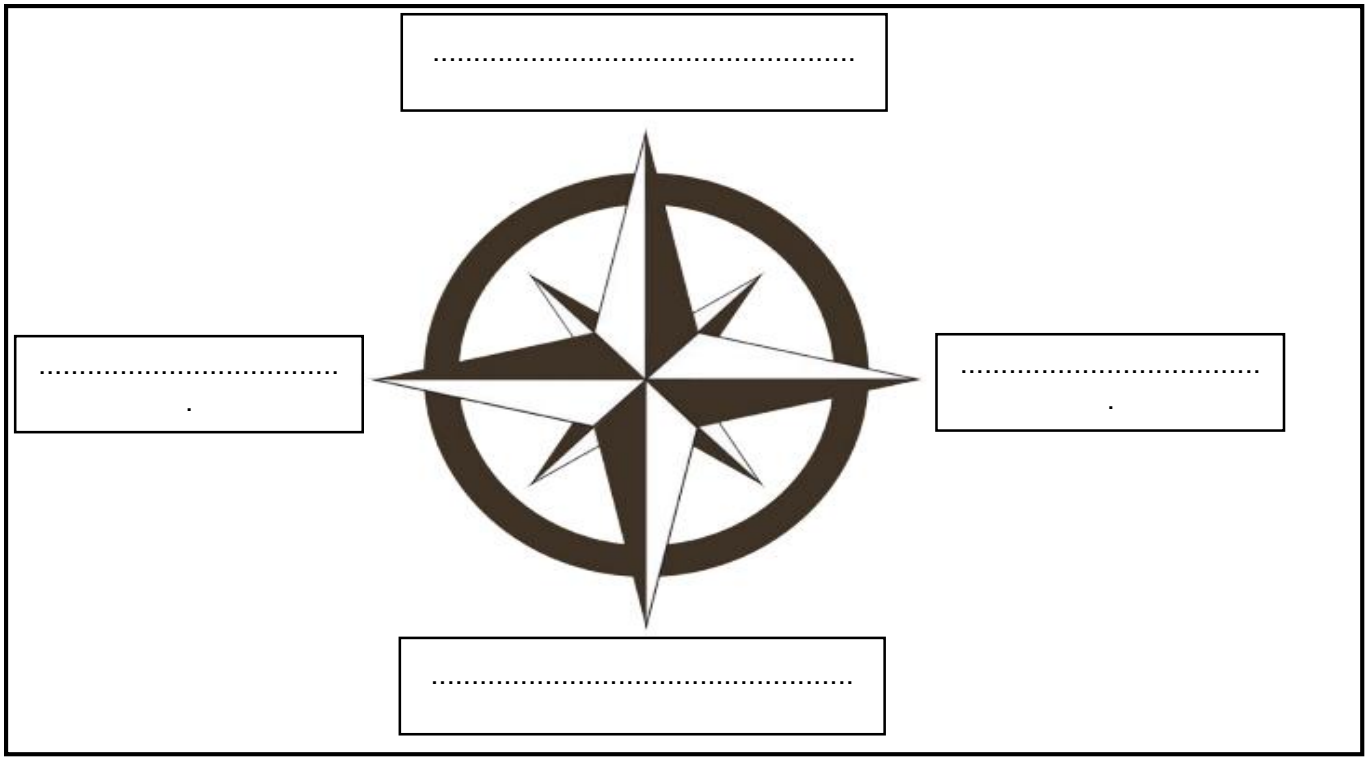

إختاري الإجابة الصحيحة:

1. ..... هي نقاط الاستدلال الجغرافية الأربع وهي الشمال والجنوب والشرق والغرب.

(الموقع النسبي – خطوط الطول – الجهات الأصلية)

2. تقسم خطوط الطول على الأرض إلى ..... خط طول.

(360 – 180 – 120)

3. يقسم ..... العالم إلى نصفين متساويين.

(الموقع النسبي – خطوط الطول – خط جرينتش)

4. .....هي عبارة عن خطوط وهمية ترسم على نموذج الكرة الأرضية وتبدو على شكل دوائر تامة.

(الموقع النسبي – خطوط الطول – دوائر العرض)

أم دانة أحمد

5. .....هو دائرة العرض الرئيسية، وتقسم العالم إلى نصفين.

(الموقع النسبي – خط الاستواء– خط جرينتش)

6. يقع مدار السرطان عند دائرة عرض .....

(23.5 شمالاً – 23.5 جنوباً – 90 شمالا – 90 جنوباً)

7. يقع مدار الجدي عند دائرة عرض .....

(23.5 شمالاً – 23.5 جنوباً – 90 شمالا – 90 جنوباً)

عددي الجهات الفرعية؟

1.	2. .....
3.	4. .....

لوني الإجابة الصحيحة:- يقسم خط جرينتش العالم إلى نصفين متساويين هما:

شمالي	شرقي
غربي	جنوبي

لوني الإجابة الصحيحة:- يقسم خط الاستواء العالم إلى نصفين متساويين هما:

شمالي	شرقي
غربي	جنوبي

أم دانة أحمد

- أُلَوِّنُ القارّاتَ باللَّوْنِ ● والبِحَارَ والمُحِيطاَتَ باللَّوْنِ ● عَلَى خريطَةِ العَالَمِ.

خَريطَةُ العالم

- أَسْتَكْمِلُ أَسْماءَ القَارَاتِ والمحيطاتِ وِفْقَ الجدولِ الآتي:

العَدَدُ	القارّاتُ	المُحيطاتُ
1	القَارَّةُ القُطْبِيَّةُ الجَنُوبِيَّةُ	المُحيطُ المُتَجَمِّدُ الشَّماليُّ
2		
3		
4		
5		
6		
7		
المَجْموعُ	عَدَدُ القارّاتِ	عَدَدُ المُحيطاتِ .....

أم دانة أحمد

أُلاحِظُ وأَستَكْشِفُ

- أَتَأَمَّلُ الخَريطَةَ السِّياسِيَّةَ لِقارَةِ آسْيا، ثُمَّ أُجيبُ عَمَّا يَأْتي:

خَريطَةُ آسْيا السِّياسِيَّةِ

1- تَقَعُ اليابانُ في قارَّةِ .....

2- يَحِدُّ قَارَةَ آسْيا مِنَ جِهَةِ الشَّمالِ المُحِيطَ .....

3- تَطِلُّ الهِنْدُ مِنْ جِهَةِ الجَنوبِ عَلَى المُحيطِ .....

4- تُجاوِرُ دَوْلَةَ الصِّينِ مِنْ جِهَةِ الشَّمالِ دَوْلَةَ .....

- أَستَنْتِجُ أَهَمِّيةُ الخَريطَةِ السِّياسِيَّةِ:

.....

.....

.....

أم دانة أحمد

أَخْتَبِرُ مَعْلوماتي

- أَسْتَكْمِلُ الأَشْكَالَ الآتِيَةَ بِالكَلِماتِ المُناسِبَةِ لَها: **[جرينتِش - الطُّولُ - المَوْقِعُ الفَلَكِيُّ]**

يُسَمَّى مَوْقِعُ المَكانِ بِالنِّسْبَةِ إِلى خُطوطِ الطُّولِ وَدوائِرِ العَرْضِ بِـ .....

يُعْرَفُ خَطُّ الطُّولِ الرَّئيسِ بِخَطِّ .....

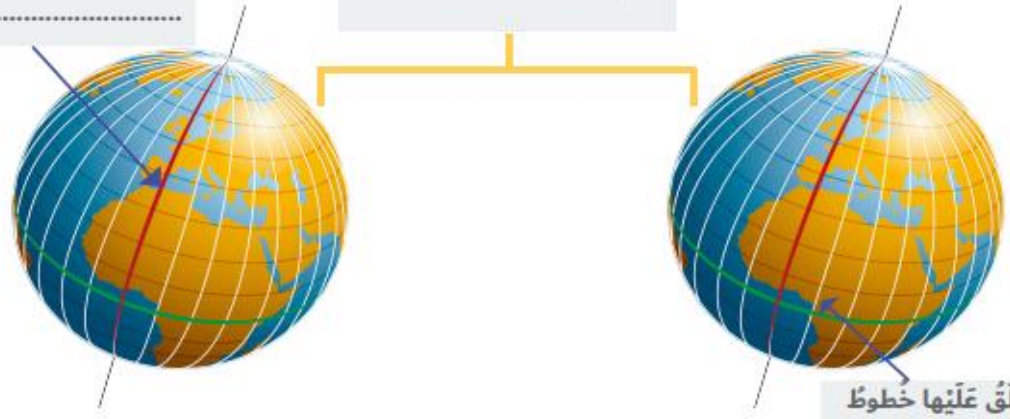

يُطْلَقُ عَلَيْها خُطوطُ .....

أُحَدِّدُ وَأُلَوِّنُ

- أُحَدِّدُ عَلَى الخَريطَةِ:
- خَطَّ الطُّولِ الرَّئيسِ باللَّونِ

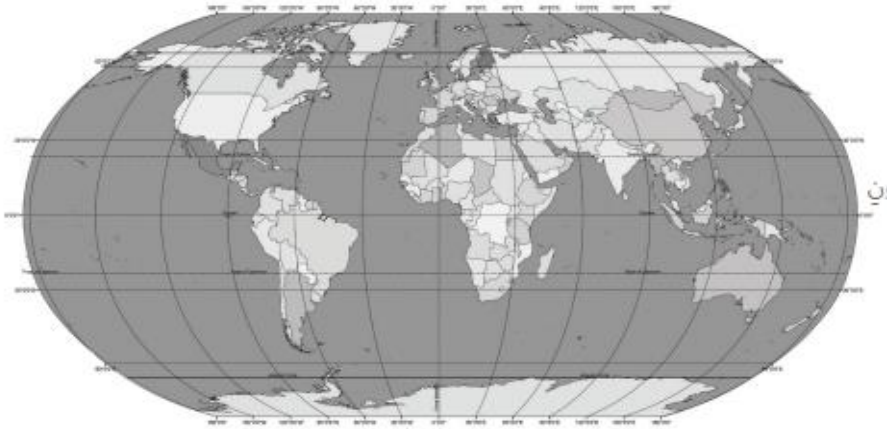

خَريطَةُ العالَمِ

أُفَكِّرُ وَأَحْسِبُ

- أَتَوَصَّلُ إِلى العَمَلِيَّةِ الحِسابِيَّةِ الآتِيَةِ:
- أَجْمَعُ خُطوطَ الطُّولِ: **180** خَطًّا شرقًا

\+

180 خَطًّا غربًا

المَجْموعُ ..... خَطًّا طوليًّا

ما أهمية خطوط الطول؟

.....

.....

أم دانة أحمد

ضعي الإجابة الصحيحة ما بين القوسين في المكان المناسب في الرسمة التالية: (دوائر العرض – خط الاستواء)

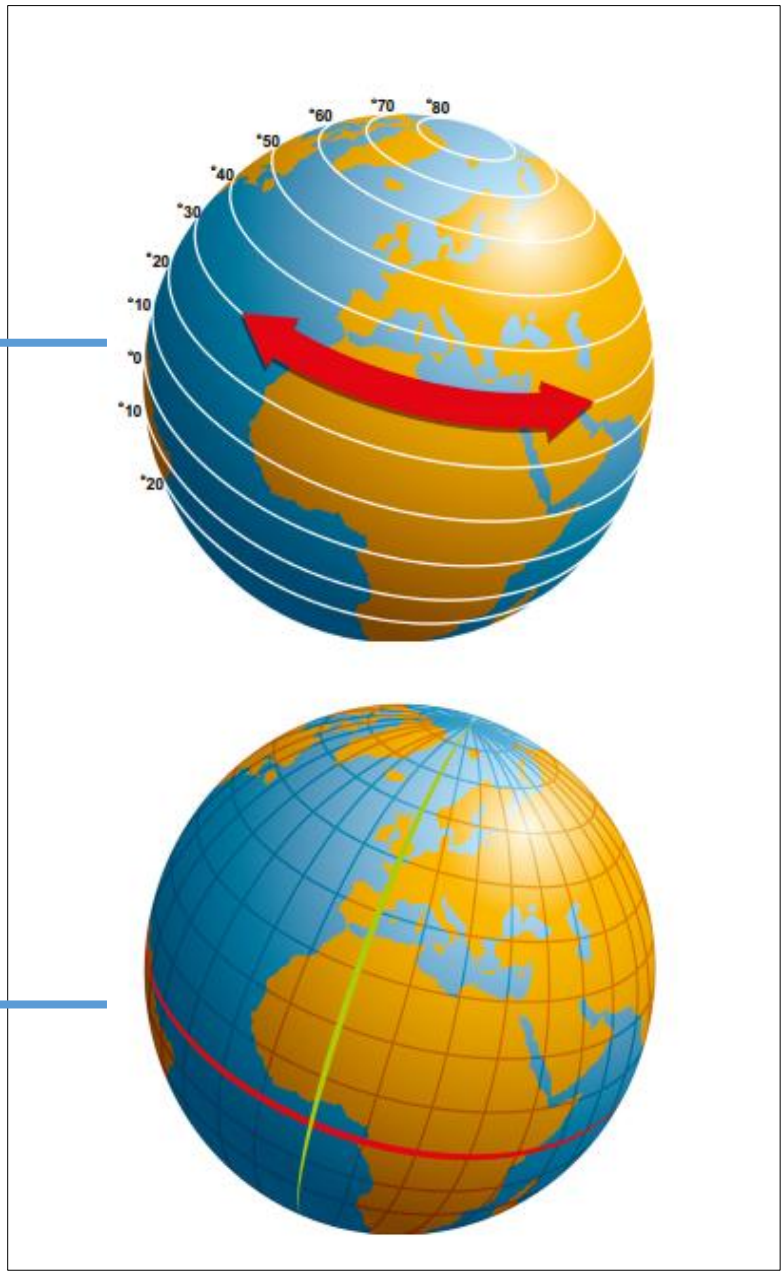

.....

.....

ما أهمية دراسة دوائر العرض؟

.....

.....

أم دانة أحمد

ألاحِظُ وأُجيبُ

- أَضَعُ عَلامَةَ (√) أَمامَ العِبارةِ الصَّحيحَةِ وَعَلامَةَ (×) أَمامَ العِباراتِ غَيرِ الصَّحيحَةِ فَيما يَلي:

1- يَقَعُ مَدَارُ السَّرَطانِ في نِصْفِ الكُرَةِ الجَنوبيِّ. [ ]

2- يُقَسِّمُ خَطُّ الاسْتِواءِ الكُرَةَ الأَرْضِيَّةَ إِلى نِصْفَيْنِ شَماليّ وَجَنوبيّ. [ ]

3- مَدارُ الجِدي يَقَعُ شَمَال خَطِّ الاسْتِواءِ. [ ]

4- تُعْرَفُ دائِرَةُ العَرْضِ الرَّئيسَةِ بِخَطِّ جرينتش. [ ]

5- يَمُرُّ خَطُّ الاسْتِواءِ عِنْدَ دائِرَةِ عَرْضِ صِفْر. [ ]

6- القُطْبُ الشَّماليُّ عِنْدَ دائِرَةِ عَرْضِ 23,5 شَمالاً. [ ]

ضعي الإجابة الصحيحة ما بين القوسين في المكان المناسب في الرسمة التالية: (مدار السرطان- مدار الجدي – الدائرة القطبية الشمالية – الدائرة القطبية الجنوبية – خط الاستواء)

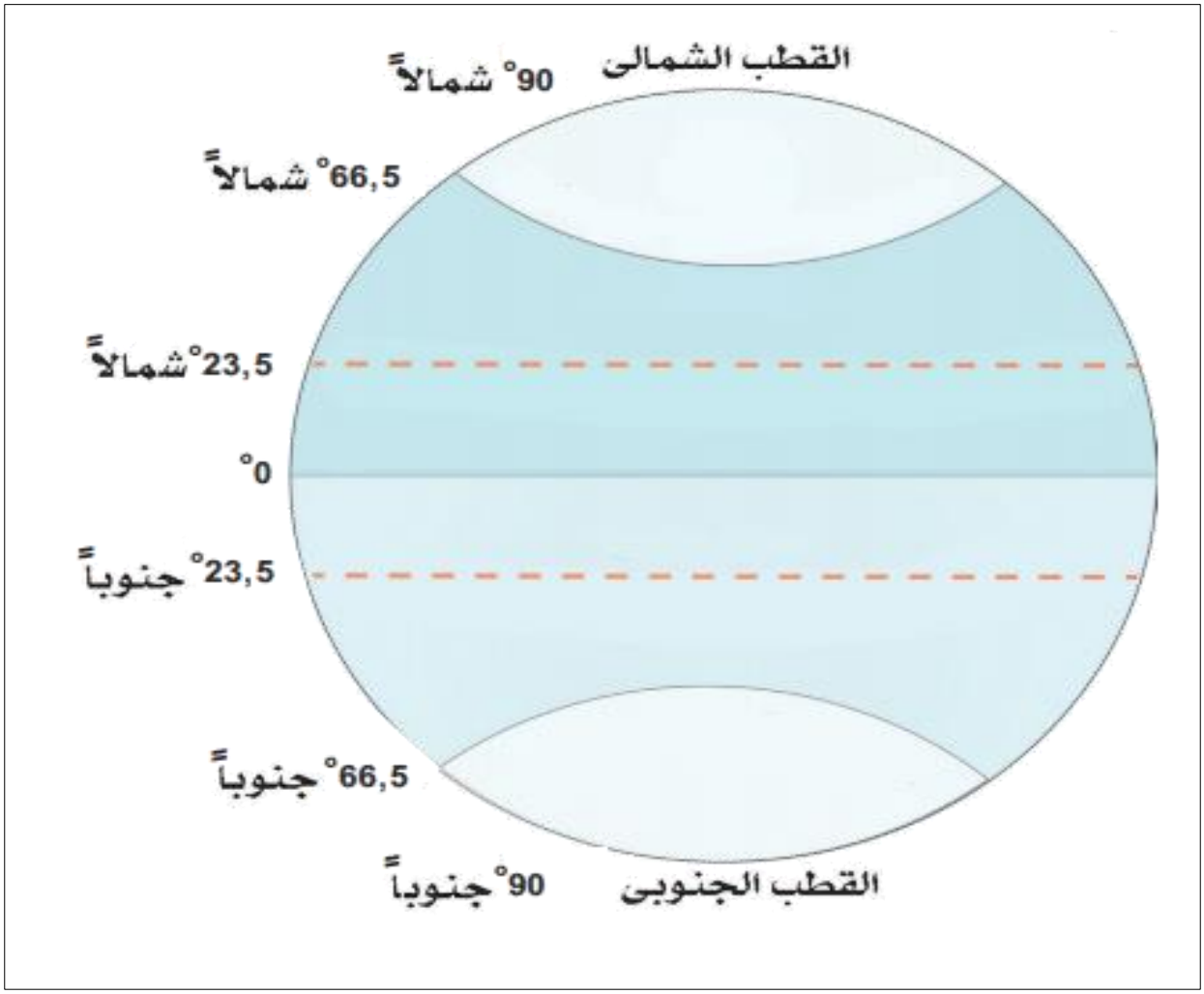

أم دانة أحمد

أَخْتَبِرُ مَعْلوماتِيَ

- أَسْتَكْمِلُ المُخَطَّطَ الذِّهْنِيَّ الآتِيَ:

المَوْقِعُ الجُغْرافِيُّ

المَوْقِعُ النِّسْبِيُّ هُوَ:
مَوْقِعُ المَكانَ بِالنِّسْبَةِ إِلى

المَوْقِعُ الفَلَكِيُّ هُوَ:
مَوْقِعُ المَكانَ بِالنِّسْبَةِ إِلى

.....

.....

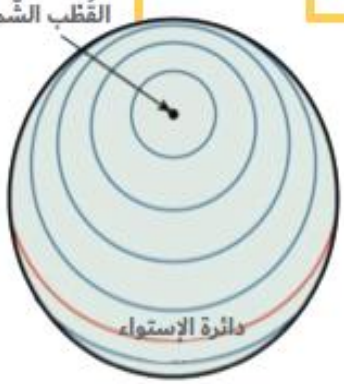

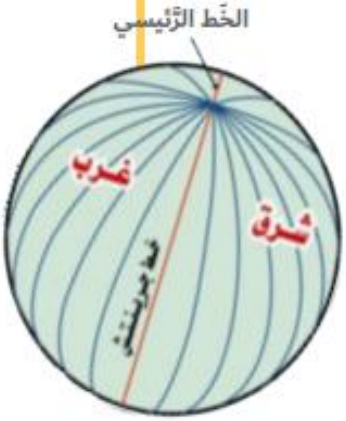

دَوائِرُ .....

خُطوطُ .....

أم دانة أحمد

أكملي الجدول بما يلي:-

عاصمة دولة الإمارات العربية المتحدة:	.....
المساحة:	.....
اللغة الرسمية:	.....
التأسيس:	.....
الرئيس:	.....

إختاري الإجابة الصحيحة:

1. ..... هو عناصر الثقافة التي يتناقلها الخلف من السلف.

(التراث – العادات – التقاليد)

2. ..... منطقة من اليابس محاطة بالماء من ثلاث جهات.

(الجزيرة – شبه الجزيرة)

3. ..... خطوط حددها الإنسان، ورسمت حتى تفصل بين حدود دولة ودولة أخرى، وهي تشكل المدى الذي تمارس فيه الدولة سيادتها.

(الحدود السياسية – الحدود الإقليمية)

4. تشرف دولة الإمارات العربية المتحدة بحدودها على مسطحين مائيين هما: .....و .....

(المحيط الهادي والمحيط الهندي – الخليج العربي والمحيط الهندي – الخليج العربي و بحر عمان)

5. ..... لسان كبير من الماء محاط باليابس من ثلاث جهات.

(الخليج – البحر – المحيط)

6. تقع دولة الإمارات العربية المتحدة في أقصى شرق ..... وتطل على ..... وبحر عمان.
7. تجارة ..... تعني أن تستورد السلع ثم تعيد تصديرها إلى دول العالم.

أم دانة أحمد

(شبه الجزيرة العربية ، الخليج العربي – الخليج العربي ، شبه الجزيرة العربية)

8. ..... هي كل جهد قام به الإنسان لتحسين ظروف حياته.

(التعليم – الحضارة)

ضعي إشارة (√) عند الإجابة الصحيحة وإشارة (x) عند الإجابة الخاطئة:

1. ( ) تعد دولة الإمارات العربية المتحدة دولة اتحادية عصرية تتكون من تسع إمارات.
2. ( ) برزت دولة الإمارات على الخريطة السياسية للعالم في عام 1970م.
3. ( ) تقع دولة الإمارات العربية المتحدة بين دائرتي عرض (22 و 26.5 درجة شمال خط الاستواء) وخط طول (51 و 56.5 درجة شرق خط غرينتش).
4. ( ) يمر مدار السرطان في الجزء الشمالي من دولة الإمارات العربية المتحدة.
5. ( ) تعرف شبه الجزيرة بأنها منطقة من اليابس محاطة بالماء من أربع جهات.
6. ( ) دولة الإمارات دولة تمتع بالتجانس وحسن الجوار مع شقيقاتها الدول العربية المجاورة ودول العالم.
7. ( ) قامت على أرض دولة الإمارات العديد من الحضارات.

لوني أهم الحضارات التي ظهرت على أرض دولة الإمارات العربية المتحدة:

حضارة ماجان	حضارة دلمون	أم النار
حضارة مزون	حضارة ملوخا	حضارة العبيد

صلي الحضارة بالمنطقة التي ظهرت فيها:

حضارة ماجان		أبوظبي
حضارة أم النار		الشارقة
حضارة ملوخا		الإمارات وعمان

أم دانة أحمد

• أُطَبِّقُ ما تَعَلَّمْتُ

أُفَكِّرُ وَأُسَجِّلُ

- أَسْتَكْمِلُ الجَدْولَ الآتِيَ مِنْ خِلالِ تَوْصيلِ المَجْموعَةِ (أ) بالمَجْموعَةِ (ب):

أ	ب
• تُسَمَّى عاصِمَةَ دَوْلَةُ الإمارات العربيةِ المتحدةِ	• خليفة بن زايد آل نهيان
• تَبْلُغُ مَساحَةَ دَوْلَةُ الإمارات العربية المتحدة	• أبوظبي
• تَأَسَّسَتْ دَوْلَةِ الإمارات العربية المتحدة في	• 83,600 كم^2
• يَحْكُمُ دَوْلَةَ الإمارات العربية المتحدة صَاحِبُ السُّمُوِّ الشَّيْخُ	• 2ديسمبر 1971م

أُلاحِظُ وأَسْتَكْشِفُ

- أَقْرَأُ خَريطةَ دولةَ الإماراتِ العربيةِ المتحدةِ، ثُمَّ أَسْتَكْمِلُ الآتِيَ:

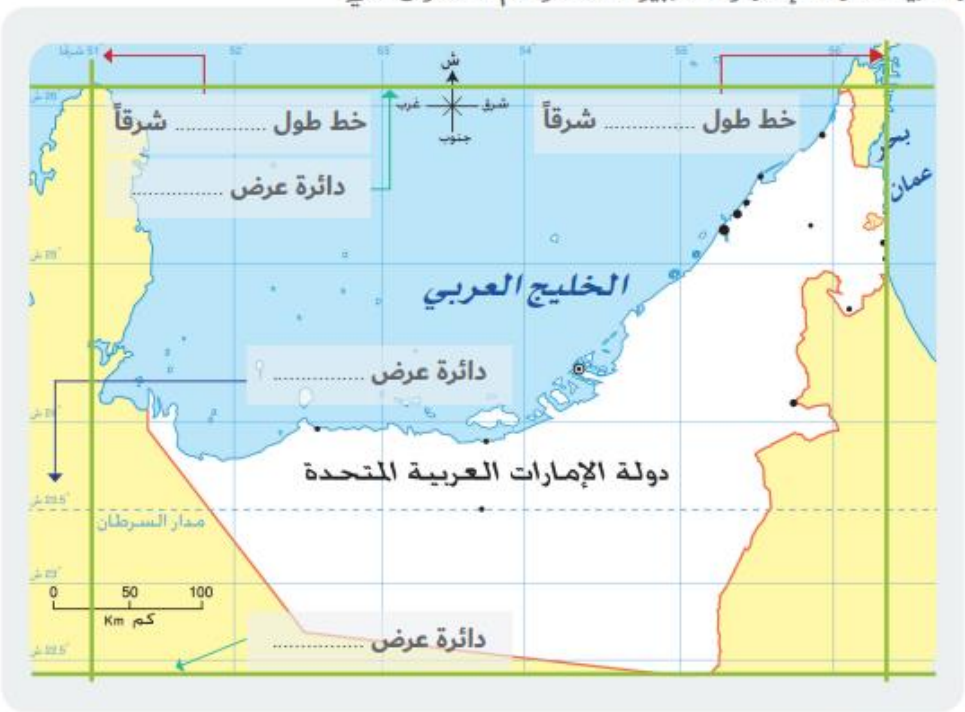

اربط مع الرِّياضِيات

أُفَكِّرُ وَأَحْسِبُ

- أَتَوَصَّلُ إلى العَمَلِيَّةِ الحسابِيَّةِ الآتِيَةِ:

26.5 شَمالاً
+ 22 شَمالاً

- عَدَدُ دوائرِ العَرْضِ الّتي تَقَعُ عَلَيْها دَولةَ الإماراتِ العربيةِ المتحدةِ: **المجموعُ** ..... دائرةً عرضيةً

أم دانة أحمد

أهمية الموقع النسبي لدولة الإمارات العربية المتحدة؟

.....

.....

.....

.....

لوني قلب العالم القديم:-

آسيا	أسترليا	أوروبا
أمريكا الجنوبية	أفريقيا	أمريكا الشمالية

خريطة الوطن العربي

أبحث: في أيِّ قارّاتِ العالمِ تَمْتَدُّ الدُّولُ العَرَبِيَّةُ؟

.....

.....

أم دانة أحمد

• أُطَبِّقُ ما تَعَلَّمْتُ

أَخْتَبِرُ مَعْلوماتي

- أُكَوِّنُ حَقائِقَ جُغْرافِيَّةً مِنْ خِلالِ وَضْعِ الكَلِماتِ الآتِيَةِ بِمَكانِها المُناسِبِ:

[الشرقيّةُ - شِبْهُ الجَزيرةِ العربيةِ - وَسَطُ]

تَقَعُ دَوْلَةُ الإماراتِ العَرَبيةِ المُتَّحِدةِ في ..... العالَمِ.

تَمْتَدُّ دَوْلَةُ الإماراتِ العربيةِ المتحدة في شَرْقِ .....

تَقَعُ دَوْلَةُ الإماراتِ العربيةِ المتحدةِ في النّاحِيةِ ..... مِنَ الوَطَنِ العَرَبِيِّ.

أم دانة أحمد

أَتَتَبَّعُ وَأُجيبُ

- أُسَجِّلُ حُدودَ دَوْلَةِ الإِمارات العربيةِ المتحدةِ في الخَرِيطَةِ الآتِيَةِ:

الخَليجُ .....

دَوْلَةُ .....

بَحْرُ .....

دَوْلَةُ .....

دولة .....

ما هي الأهمية الإقتصادية بالنسبة لموقع دولة الإمارات العربية المتحدة؟

.....

.....

.....

.....

أم دانة أحمد

أُلاحِظُ وَأُصَنِّفُ

- اسْتَخْلِصْ أَهَمِّيَةَ المَوْقِعِ الجُغْرافِيِّ بِناءً على الصُّورِ الآتِيَةِ:

.....

.....

.....

أُفَكِّرُ وَأُجيبُ

- ما المَقْصودُ بِتِجارةِ الترانزيتِ؟

.....

أَخْتَبِرُ مَعْلوماتي

- مِنْ خِلالِ دراسَتِكَ لأَهَمِّيَةِ المَوْقِعِ الجُغْرافِيِّ لِدَوْلَةِ الإماراتِ العَرَبِيَّةِ المُتَّحِدَةِ، اسْتَخْرِجْ ما يأْتي:

1- حَقيقةً جغرافية: .....

2- حقيقة اقتصادية: .....

3- حقيقة تاريخية: .....

4- نِعْمَةٌ نَشْكُرُ اللهَ عَلَيْها: .....

أم دانة أحمد

الدَّرْسُ الأَوَّلُ: رِحْلَةُ المَعْرِفَةِ

خُطوطُ الطُّولِ وَدَوائِرُ العَرْضِ

ورقة الإجابة

الوحدة الأولى

رابع – الدراسات الإجتماعية والتربية الوطنية

صلي المصطلح بالمعنى المناسب:-

الموقع النسبي		أي موقع جسم ما على سطح الكرة الأرضية.
الموقع الجغرافي		موقع المكان بالنسبة لخطوط الطول ودوائر العرض.
خطوط الطول		هو خط الطول الرئيسي [خط الصفر] ويقسم العالم إلى نصفين متساويين.
خط جرينيتش		هي عبارة عن خطوط وهمية ترسم على نموذج الكرة الأرضية وتبدو على شكل دوائر تامة.
الموقع الفلكي		هو دائرة العرض الرئيسية، وتقسم العالم إلى نصفين
دوائر العرض		هي خطوط طولية يوازي بعضها البعض.
خط الاستواء		موقع المكان بالنسبة لليابسة والماء.

ضعي إشارة (√) عند الإجابة الصحيحة وإشارة (x) عند الإجابة الخاطئة:

1. (√) اللون الأخضر يمثل اليابسة في الكرة الأرضية.
2. (√) اللون الأزرق يمثل البحار والمحيطاة في الكرة الأرضية.
3. (×) المجموعة الشمسية: هي جميع الأجسام التي تدور حول القمر.
4. (√) تقسم الخطوط الطولية للأرض إلى 180 خطاً شرقاً و 180 غرباً.
5. (√) يقسم العالم إلى 24 منطقة زمنية اعتماداً على خط جرنيتش.
6. (×) يقع مدار السرطان في جنوب خط الاستواء عند دائرة عرض 23.5 جنوباً.
7. (×) يقع مدار الجدي في شمال خط الاستواء عند دائرة عرض 23.5 شمالاً.

أم دانة أحمد

ضعي الإجابة الصحيحة ما بين القوسين في المكان المناسب في الرسمة التالية: (الشمال – الشرق – الغرب – الجنوب)

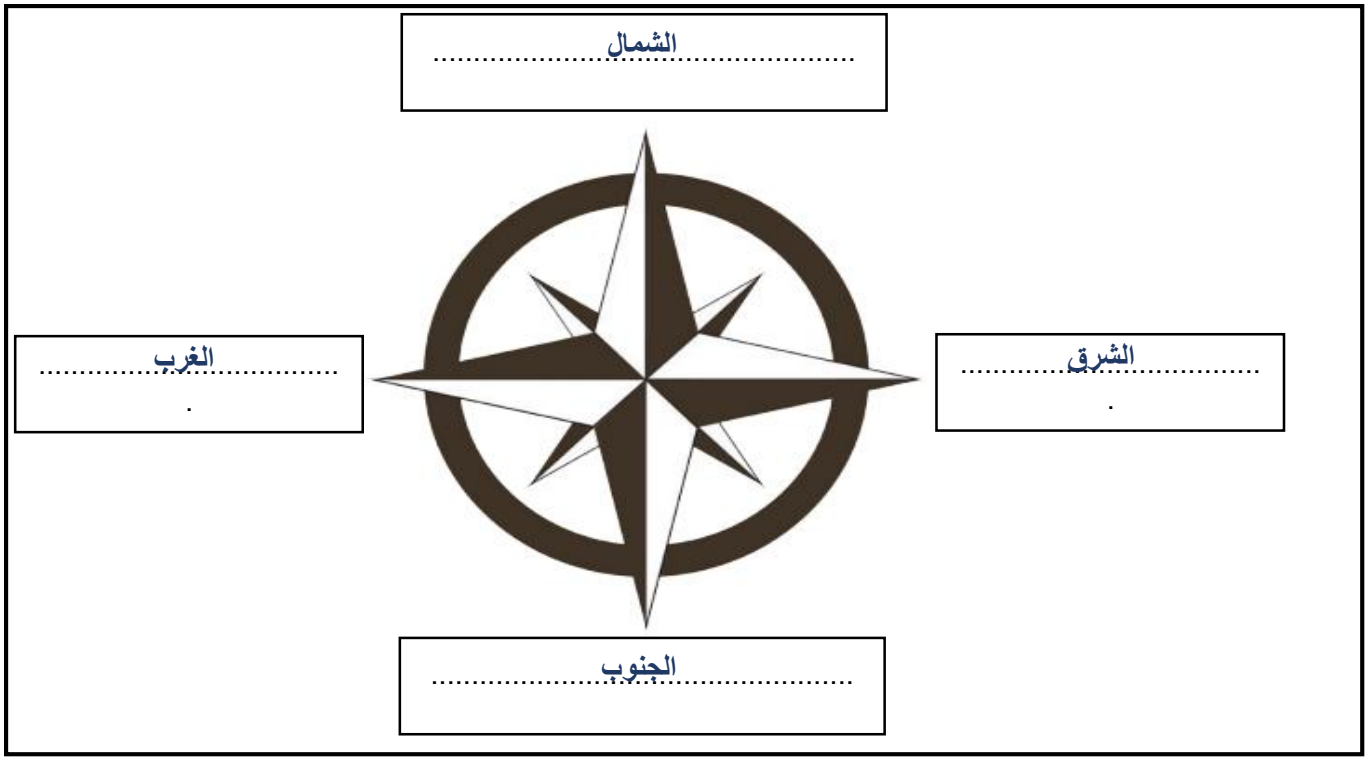

إختاري الإجابة الصحيحة:

1. ..... هي نقاط الاستدلال الجغرافية الأربع وهي الشمال والجنوب والشرق والغرب.

(الموقع النسبي – خطوط الطول – الجهات الأصلية)

2. تقسم خطوط الطول على الأرض إلى ..... خط طول.

(120 – 180 – 360)

3. يقسم ..... العالم إلى نصفين متساويين.

(الموقع النسبي – خطوط الطول – خط جرينتش)

4. .....هي عبارة عن خطوط وهمية ترسم على نموذج الكرة الأرضية وتبدو على شكل دوائر تامة.

(الموقع النسبي – خطوط الطول – دوائر العرض)

أم دانة أحمد

5. .....هو دائرة العرض الرئيسية، وتقسم العالم إلى نصفين.

(الموقع النسبي – خط الاستواء– خط جرينتش)

6. يقع مدار السرطان عند دائرة عرض .....

(23.5 شمالاً – 23.5 جنوباً – 90 شمالا – 90 جنوباً)

7. يقع مدار الجدي عند دائرة عرض .....

(23.5 شمالاً – 23.5 جنوباً – 90 شمالا – 90 جنوباً)

عددي الجهات الفرعية؟

1. .....الشمال الشرقي.....	2. .....الشمال الغربي.....
3. .....الجنوب الشرقي.....	4. .....الجنوب الغربي.....

لوني الإجابة الصحيحة:- يقسم خط جرينتش العالم إلى نصفين متساويين هما:

شمالي	شرقي
غربي	جنوبي

لوني الإجابة الصحيحة:- يقسم خط الاستواء العالم إلى نصفين متساويين هما:

شمالي	شرقي
غربي	جنوبي

أم دانة أحمد

- أُلَوِّنُ القارّاتَ باللَّوْنِ ● والبِحَارَ والمُحِيطاَتَ باللَّوْنِ ● عَلَى خريطَةِ العَالَمِ.

خَريطَةُ العالم

- أَسْتَكْمِلُ أَسْماءَ القَارَاتِ والمحيطاتِ وِفْقَ الجدولِ الآتي:

العَدَدُ	القارّاتُ	المُحيطاتُ
1	القَارَّةُ القُطْبِيَّةُ الجَنُوبِيَّةُ	المُحيطُ المُتَجَمِّدُ الشَّماليُّ
2	قارة آسيا	المحيط الهادي
3	قارة أوروبا	المحيط الهندي
4	قارة أفريقيا	المحيط الأطلسي
5	قارة أمريكا الشمالية	
6	قارة أمريكا الجنوبية	
7	قارة أستراليا	
المَجْموعُ	عَدَدُ القارّاتِ 7.....	عَدَدُ المُحيطاتِ 4.....

أم دانة أحمد

أُلاحِظُ وأَستَكْشِفُ

- أَتَأَمَّلُ الخَريطَةَ السِّياسِيَّةَ لِقارَةِ آسْيا، ثُمَّ أُجيبُ عَمَّا يَأْتي:

خَريطَةُ آسْيا السِّياسِيَّةِ

1- تَقَعُ اليابانُ في قارَّةِ آسيا

2- يَحِدُّ قَارَةَ آسْيا مِنَ جِهَةِ الشَّمالِ المُحِيطَ المتجمد الشمالي

3- تَطِلُّ الهِنْدُ مِنْ جِهَةِ الجَنوبِ عَلَى المُحيطِ الهندي

4- تُجاوِرُ دَوْلَةَ الصِّينِ مِنْ جِهَةِ الشَّمالِ دَوْلَةَ منغوليا

- أَستَنْتِجُ أَهَمِّيةُ الخَريطَةِ السِّياسِيَّةِ:

لتعرف على أسماء الدول وحدودها

أم دانة أحمد

أَخْتَبِرُ مَعْلوماتي

- أَسْتَكْمِلُ الأَشْكَالَ الآتِيَةَ بِالكَلِماتِ المُناسِبَةِ لَها: [جرينتِش - الطُّولُ - المَوْقِعُ الفَلَكِيُّ]

يُسَمَّى مَوْقِعُ المَكانِ بِالنِّسْبَةِ إِلى خُطوطِ الطُّولِ وَدوائِرِ العَرْضِ بالموقع الفلكي.....

يُعْرَفُ خَطُّ الطُّولِ الرَّئيسِ بِخَطِّ جرينتش.....

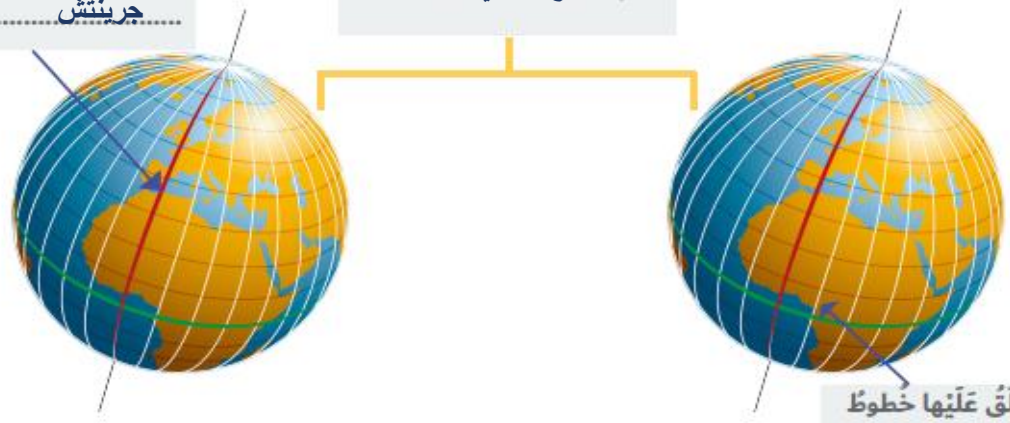

يُطْلَقُ عَلَيْها خُطوطُ الاستواء.....

أُحَدِّدُ وَأُلَوِّنُ

- أُحَدِّدُ عَلَى الخَريطَةِ:
- خَطَّ الطُّولِ الرَّئيسِ باللَّونِ

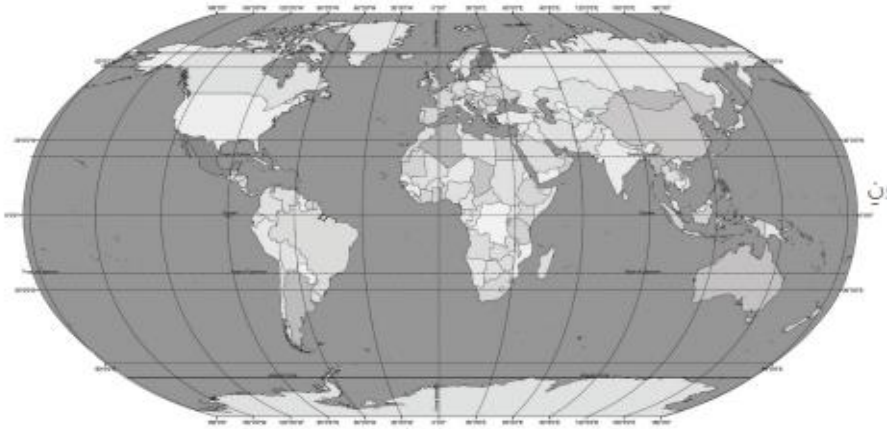

خَريطَةُ العالَمِ

أُفَكِّرُ وَأَحْسِبُ

- أَتَوَصَّلُ إِلى العَمَلِيَّةِ الحِسابِيَّةِ الآتِيَةِ:
- أَجْمَعُ خُطوطَ الطُّولِ: 180 خطًّا شرقًا

\+

180 خطًّا غربًا

المَجْموعُ .....360..... خَطًّا طوليًّا

ما أهمية خطوط الطول؟

تساعدنا في تحديد المواقع الجغرافية والزمن.....

.....

أم دانة أحمد

ضعي الإجابة الصحيحة ما بين القوسين في المكان المناسب في الرسمة التالية: (دوائر العرض – خط الاستواء)

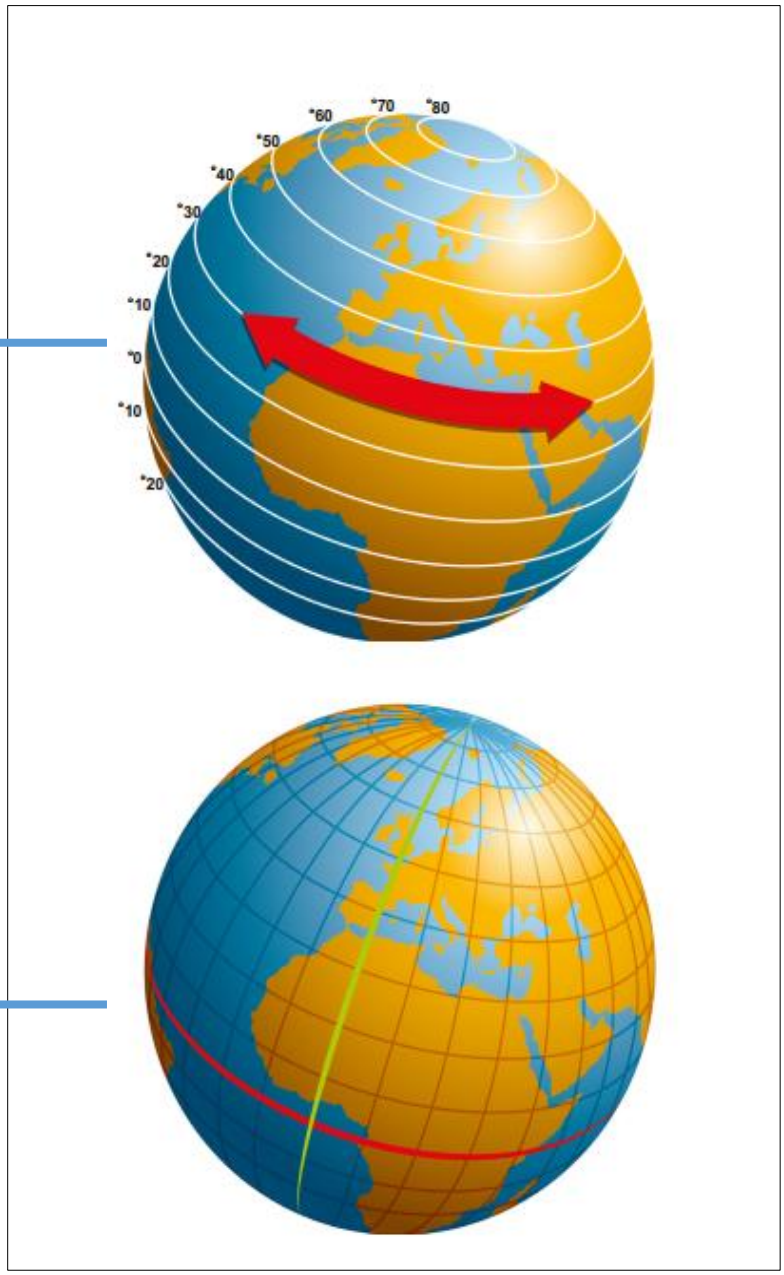

دوائر العرض .....

خط الاستواء .....

ما أهمية دراسة دوائر العرض؟

نستطيع من خلالها أن نحدد مواقع الدول والمناطق المختلفة، ونتعرف على المناخ والنبات الطبيعي.

.....

.....

أم دانة أحمد

ألاحِظُ وأُجيبُ

- أَضَعُ عَلامَةَ (√) أَمامَ العِبارةِ الصَّحيحَةِ وَعَلامَةَ (×) أَمامَ العِباراتِ غَيرِ الصَّحيحَةِ فَيما يَلي:

1- يَقَعُ مَدَارُ السَّرَطانِ في نِصْفِ الكُرَةِ الجَنوبيِّ. [×]

2- يُقَسِّمُ خَطُّ الاسْتِواءِ الكُرَةَ الأَرْضِيَّةَ إِلى نِصْفَيْنِ شَماليّ وَجَنوبيّ. [√]

3- مَدارُ الجِدي يَقَعُ شَمَال خَطِّ الاسْتِواءِ. [×]

4- تُعْرَفُ دائِرَةُ العَرْضِ الرَّئيسَةِ بِخَطِّ جرينتش. [×]

5- يَمُرُّ خَطُّ الاسْتِواءِ عِنْدَ دائِرَةِ عَرْضِ صِفْر. [√]

6- القُطْبُ الشَّماليُّ عِنْدَ دائِرَةِ عَرْضِ 23,5 شَمالاً. [×]

ضعي الإجابة الصحيحة ما بين القوسين في المكان المناسب في الرسمة التالية: (مدار السرطان- مدار الجدي – الدائرة القطبية الشمالية – الدائرة القطبية الجنوبية – خط الاستواء)

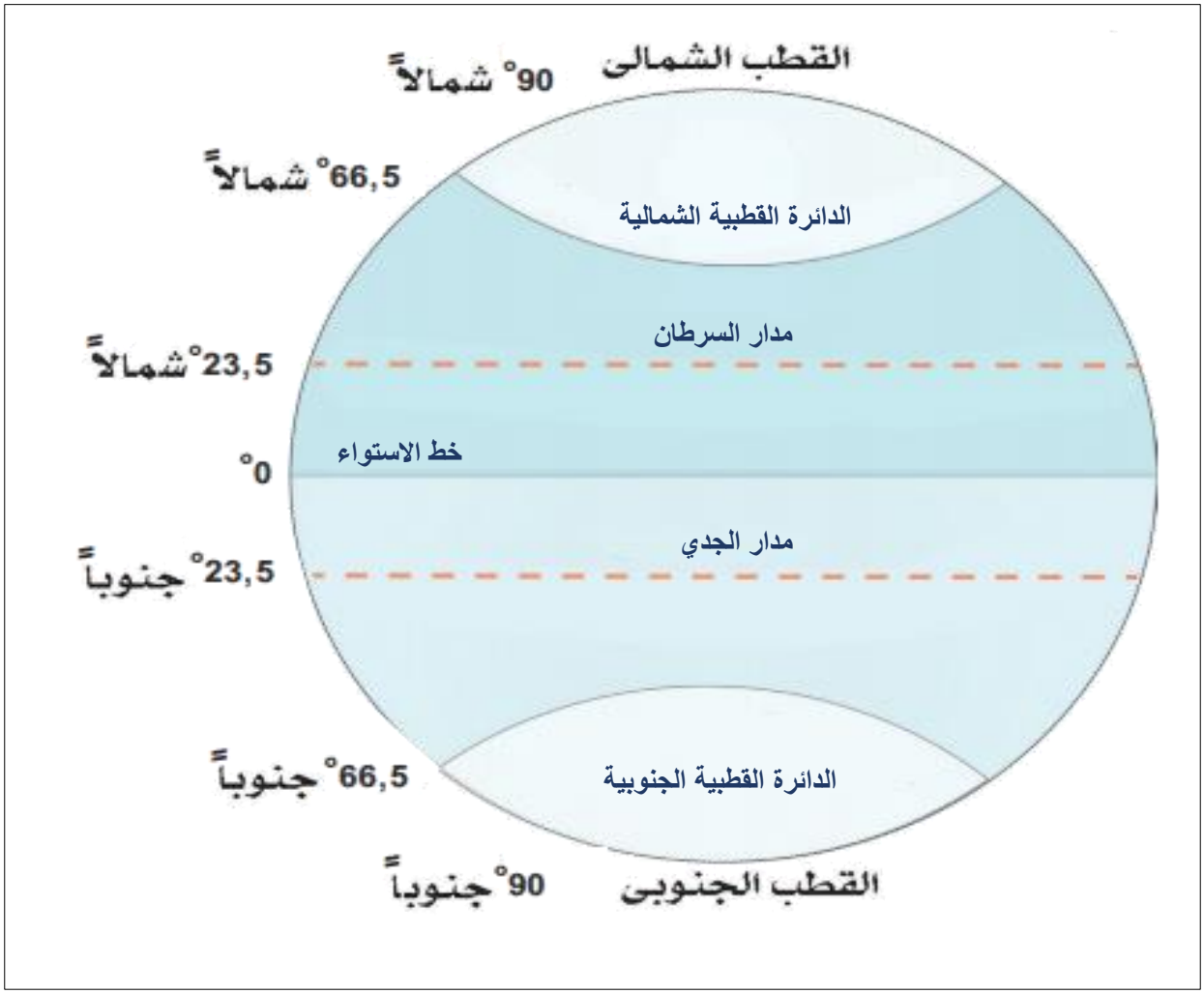

أم دانة أحمد

أَخْتَبِرُ مَعْلوماتِيَ

- أَسْتَكْمِلُ المُخَطَّطَ الذِّهْنِيَّ الآتِيَ:

المَوْقِعُ الجُغْرافِيُّ

المَوْقِعُ النِّسْبِيُّ هُوَ:
مَوْقِعُ المَكانَ بِالنِّسْبَةِ إِلى

المَوْقِعُ الفَلَكِيُّ هُوَ:
مَوْقِعُ المَكانَ بِالنِّسْبَةِ إِلى

القارات .....

الدول .....

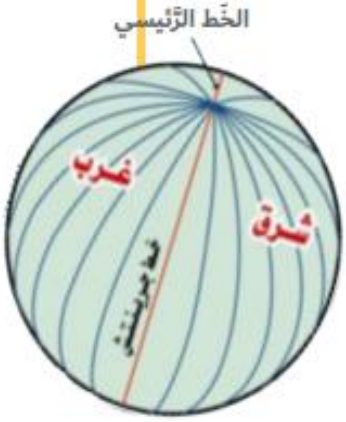

خُطوطُ الطول .....

دَوائِرُ العرض .....

أم دانة أحمد