مراجعة رياضيات

حوط الاجابة الصحيحة :

1- شكل ثنائي الأبعاد لديه 4 أضلاع لها نفس الطول :

2- شكل ثنائي الأبعاد لديه 3 أضلاع و 3 رؤوس :

3- الأشكال المنحنية:

4- الأشكال التي لها 3 رؤوس و 3 أضلاع



5- الأشكال التي لها 4 أضلاع :

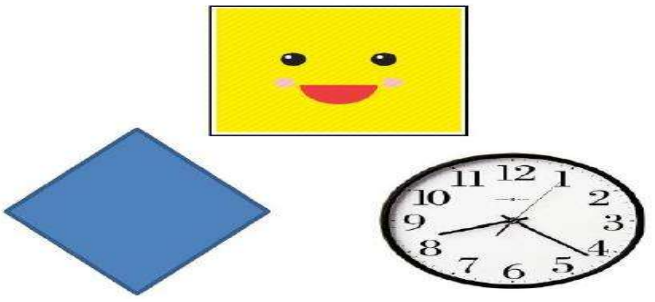

6- الأشكال التي لها 0 رؤوس

7- اكتب عدد الأضلاع والرؤوس:

_____ أضلاع

_____ رؤوس

_____ أضلاع

_____ رؤوس

8- ارسم دائرة حول الأشياء المطابقة للشكل الهندسي :



9- أنا شكل ثنائي الأبعاد لدي أقل من 4 أضلاع وكل أضلاعي مستقيمة . فمن أنا ؟

مستطيل　　مثلث　　مربع

9- جمعت سارة شكلين معا . فكونت الشكل التالي . فما الشكلان اللذان جمعتهما ؟

مثلثان　　مربعان　　دائرتان