دولة الإمارات العربية المتحدة دائـــرة التعليـــم والمعرفـــة		المـــــادة : رياضيات التاريـــخ : 16 / 5 / 2018
الإسم : ..... الصف:الثاني ،الشعبة:	العام الدراسي 2017-2018 الفصل الدراسي الثالث	الموضوع : الأطوال والأحجام ورقة عمل رقم (4) المعلمة : نها قلعه جي

مؤشرات الأداء: 1- أن يميز الأشياءالتي تقاس المسطرة المترية أوالمسطرة السنتيمترية .
2- أن يتمكن من مقارنة الأطوال المترية .
3- أن يميز حجم السوائل باالكوب واللتر.

السؤال الأول : أختار الإجابة الأكثردقة :

1- يبلغ طول الغرفة 500 سنتيمتر. فكم يبلغ طول الغرفة بالأمتار .
أ- 50 متر ب- 5 متر ج- 500 متر

2- ثمانية أمتار تساوي ..... سنتيمتر
أ- 80 ب- 8 ج- 800

3- 2متر + 200سنتيمتر .....
أ- 220سنتيمتر ب- 4أمتار ج- 40 متر

4- مشى علي 70 متراً ومشى يحيى 80 متراً. فما المسافة التي مشاها يحيى أكثر من علي ؟
أ- 40 متر ب- 10متر ج – 100 سنتيمتر

5- 75متراً + 12 متراً = ...
أ- 87 متراً ب- 17 متراً 37 متراً

6 - 37 سنتيمتراً + 27 سنتيمتراً = ...
أ- 54 سنتيمتر ب- 64 سنتيمتر ج- 74 سنتيمتر

7- عندما نقيس الأجسام الطويلة نستخدم .....

أ- مسطرة مترية ب- كوب ج- مسطرة سنتيمترية

8 - يبلغ طول قلم الألوان:

أ- 10 سنتيمتر ب- 10 متر ج- 1متر

9- 3 متريساوي :

أ- 100 سنتيمتر ب- 30سنتيمتر ج- 300سنتيمتر

10 - يركض صالح سباق 100 مرتين . كم يبلغ عدد الأمتار التي ركضها إجمالاً؟

أ- 700 ب- 200 ج - 400

11- يبلغ طول الباب 200 سنتيمتر . فكم يبلغ طوله بالأمتار ؟

أ- 200 متر ب- 2 متر ج- 4 متر

12- قارن أيهما أكبر :

كوب ◯ ليتر

3 أكواب ◯ 1 ليتر

4 أكواب ◯ 1ليتر

13 – يبلغ طول الشجرة 4 أمتار ويبلغ طول شجرة أخرى 3 أمتار . كم يزيد طول الشجرة الأولى على طول الشجرة الثانية ؟

الحل :

14 – طول سحر 115 سنتيمتر وطول أخوها 110 سنتيمتر .كم يقصر طول أخوها عنها ؟
الحل:

15- سبح علي 50 متراً في الصباح وسبح80 متراً في المساء . فكم عدد الأمتار التي سبحها إجمالاً؟
الحل :

..... متراً

السؤال الثاني : أ تمعن المخطط الخطي وأجيب عن الأسئلة التالية :

أطوال أقلام التلوين

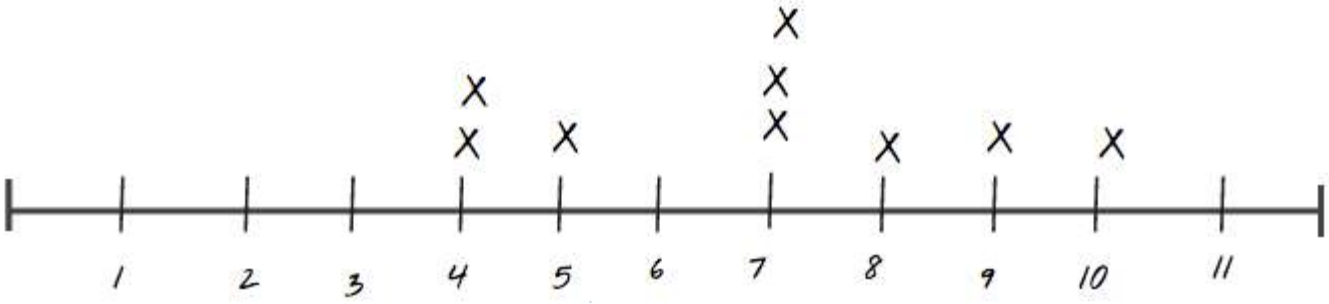

1- كم يبلغ طول معظم أقلام التلوين ؟ .....

2- كم يبلغ طول أطول قلم ؟.....

3- كم يبلغ طول أقصر قلم ؟.....

4- كم عدد الطلاب الذين يملكون أقلام تلوين بطول 5 سنتيمتر ؟.....

5- كم عدد جميع الأقلام ؟.....

السؤال الثاني :

يبين مخطط خطي أن 4 فتيات يبلغ طول شعرهن 9 سنتيمتر و 5 فتيات يبلغ طول شعرهن 15 سنتيمتر و3 فتيات يبلغ طول شعرهن 8 سنتيمتر 6 فتيات يبلغ طول شعرهن 6 سنتيمتر،ماهو طول شعر الفتيات الأكثر تكراراً ؟

الحل :

طول الشعرالأكثر تكراراً.....

السؤال الثالث: أوجد قياس الأشياء الموجودة بالصورة بعدَ المكعبات ؟

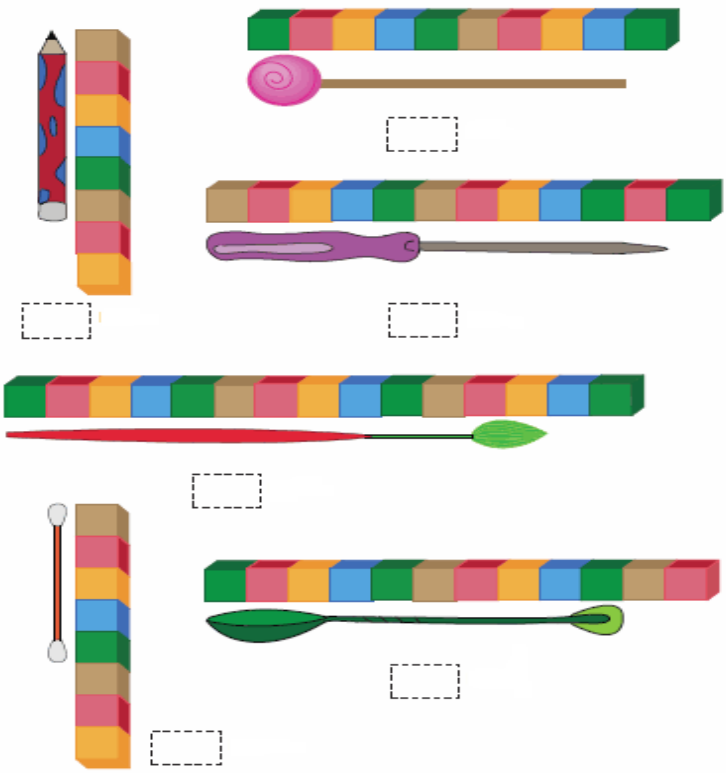

السؤال الرابع: أتمعن الصورة وأجيب عن الأسئلة التالية :

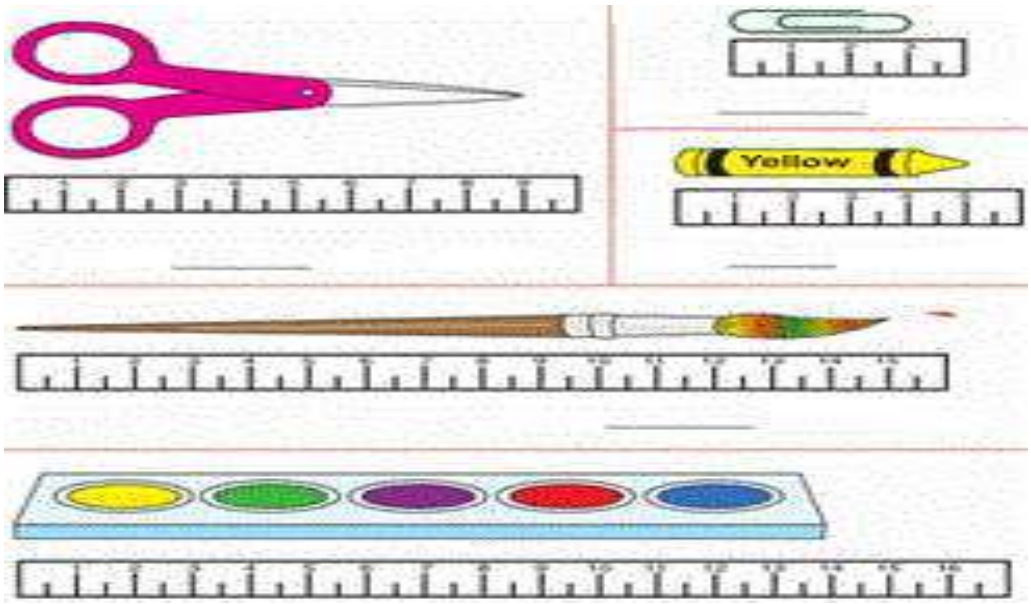

1- كم يبلغ طول المقص ؟ .....

2- أيهما أطول المقص أم علبة الألوان المائية ؟ .....

3- كم يبلغ طول المشبك ؟.....

4- كم يبلغ طول المشبك وقلم التلوين إجمالاً ؟.....

5- أذكر أسم أطول الأشياء ؟.....

6- بكم يقصر المقص عن الفرشاة ؟.....

7- أجمع طول المشبك والمقص وقلم الأوان معاً ؟ .....

السؤال الخامس : أحوط الأشياء التي تقاس بالمسطرة السنتيمترية ؟
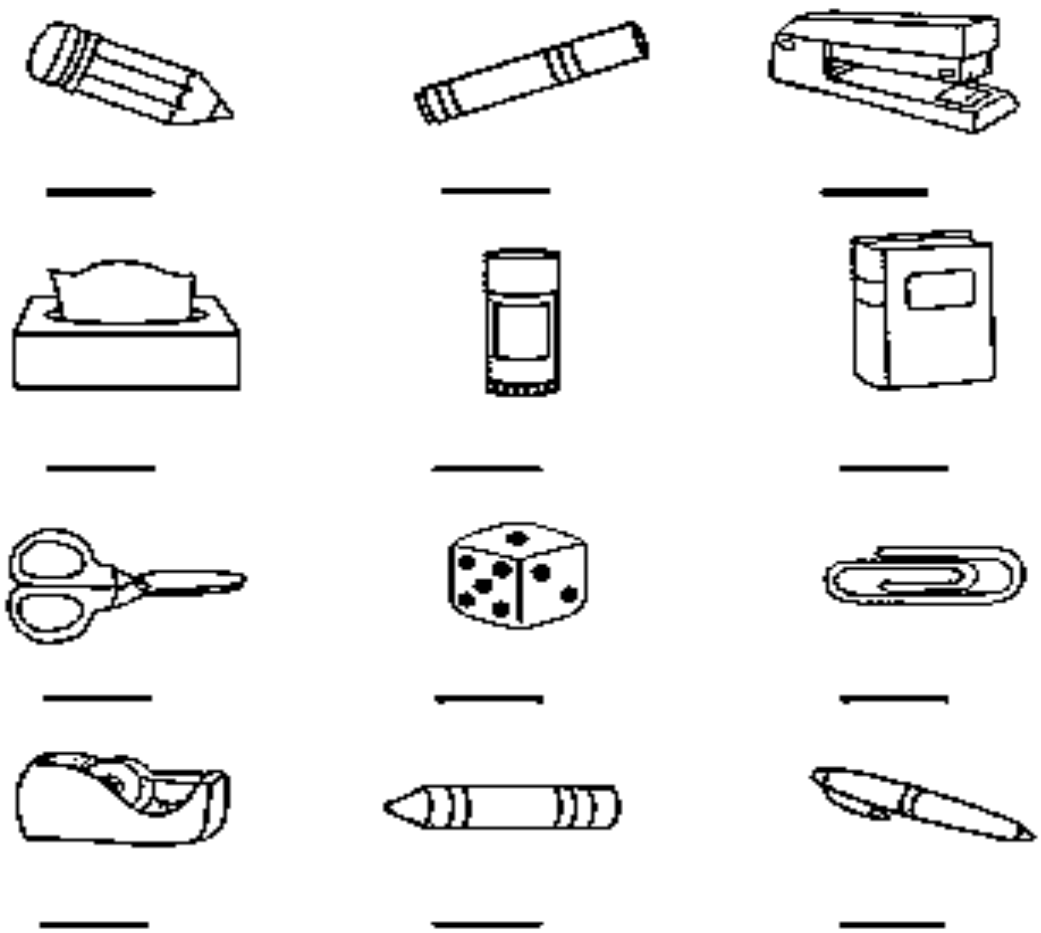
السؤال السادس : أقدر أطوال الأشياء الموجودة في الصورة بالسنتيمترات :