1- أوجد المساحة الكلية لسطح الأسطوانة – قرب الناتج لاقرب جزء من عشرة

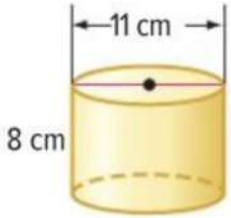

2- اوجد المساحة الكلية لسطح الأسطوانة – قرب الناتج لاقرب جزء من عشرة

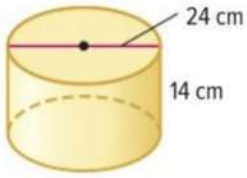

3- اوجد المساحة الجانبية لسطح الأسطوانة – قرب الناتج لاقرب جزء من عشرة

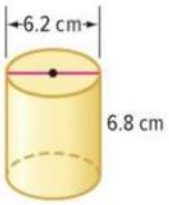

4- اوجد مساحة السطح الكلية لخزان مياه ارتفاعه 10 امتار وقطره 10 امتار –
قرب الناتج لاقرب جزء من عشرة

5- اوجد مساحة ملصق علبة رقائق من البطاطس اسطوانية الشكل نصف قطرها 7.5 سم وارتفاعها ي22 سم –

قرب الناتج لاقرب جزء من عشرة