ملزمة تدريب لمادة التربية الوطنية

الفصل الدراسي الأول 2019-2020

الصف الثاني

اسم الطالب\ـة	.....		
الشعبة	.....		
دروس الاختبار	الوحدة الأولى: كوكب الأرض + القارات والمحيطات + موقع بلادي الوحدة الثانية: بلادي قبل الاتحاد + اتحاد بلادي + بطولة وفداء		
عدد الصفحات	من صفحة 14 إلى 99	موعد الاختبار	الاثنين 25-11-2019

ورقة تدريب:الوحدة 1- الدرس 1 – كوكب الأرض

*** ضع علامة (√) أو (x) فيما يلي :**

1-( ) يظهر القمر في النهار.

2-( ) الكرة الأرضية تشبه الشكل المربع.

3-( ) الكرة الأرضية لونها أبيض وأسود.

4-( ) تتساقط أوراق الأشجار في الخريف.

*** من أنا؟**

1- أنا كوكب.....

2- شكلي .....

يعيش على سطحي الكائنات .....



***اختر الإجابة الصحيحة مما بين القوسين**

(الكرة الأرضية – الشتاء – الأزرق - الصيف - اليابسة)

1- تسقط الأمطار في فصل.....

2- الكرة التي يعيش عليها الإنسان هي.....

3-لون الماء هو اللون.....

4-أذهب إلى البحر في فصل.....

5-يتكون كوكب الأرض من ..... والماء.

*** من أنا؟**

1- أنا ..... سر الحياة في كوكب الأرض.



***صنف الكلمات في المجموعة المناسبة:**

الإنسان – الجبال – الحشرات – الطيور – المنازل – النبات – الصحراء – الطرق

كائنات حية	كائنات غير حية
1-.....	1-.....
2-.....	2-.....
3-.....	3-.....
4-.....	4-.....

اعداد معلمة التربية الوطنية: أ. نورة الزعابي

الاسم:..... الصف ( )

***أوصل بين العبارة وما يناسبها من الفصول الأربعة:**

الفصول الأربعة		الحقيقة
الشتاء		جوي معتدل وشمسي مشرقة.
الربيع		تتساقط في فصلي أوراق الأشجار.
الخريف		الناس تذهب إلى الشواطئ للعب والأستمتاع
الصيف		مطري غزير وخيري وفير.

***أكتب اسم الفصول الأربعة أسفل الصورة المناسبة:**

.....



.....



.....

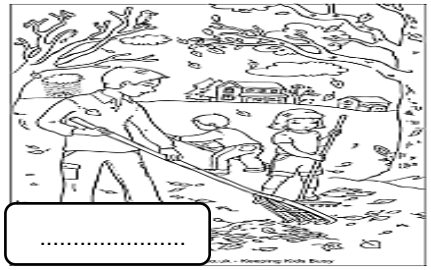

.....

***أكتب الكلمات التالية في مكانها الصحيح**

(ينامُ - الشمس – يستيقظ - النهار – الليل – الفصول الأربعة - القمر)

1- ينتج من دوران الأرض حول نفسها ..... والنهار.

2- ينتج من دوران الأرض حول الشمس .....

3- أبدأ عند طلوع الشمس فأنا .....

4- أنا..... ....أنير الأرض ليلاً.

5- .....الإنسان في الليل، و.....

في النهار للعمل والدراسة.

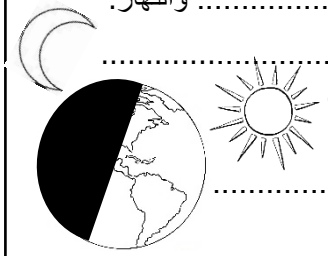

ورقة تدريب: الوحدة 1 - الدرس 2 - القارات والمحيطات

رتب القارات من الأكبر للأصغر

1-( ) قارة أفريقيا.
2-( ) قارة أمريكا الجنوبية.
3- ( ) قارة أوروبا.
4- ( ) القارة القطبية الجنوبية
5- ( ) قارة آسيا.
6- ( ) قارة أستراليا .
7- ( ) قارة أمريكا الشمالية.

*** اختر الإجابة الصحيحة وضعها في المكان المناسب:**

(الغلاف المائي - الغلاف الأرضي - المياه المالحة - المياه العذبة)

1- القسم الذي تغطيه اليابسة. (.....)
2- المياه التي لا تحتوي على ملح. (.....)
3- القسم الذي تغطيه المياه. (.....)
5- المياه التي تحتوي على ملح. (.....)

*** ضع علامة (√) أو (x) فيما يلي :**

1-( ) أمريكا الشمالية قارة باردة ويعيش فيها طائر البطريق

2-( ) عدد المحيطات في العالم خمسة محيطات.

3-( ) تعتبر أفريقيا ثالث قارات العالم من حيث المساحة

4-( ) يعيش طائر البطريق في القارة القطبية الجنوبية

حل سؤال ترتيب القارات من الأكبر إلى الأصغر :

1- آسيا 2- أفريقيا
3- أمريكا الشمالية
4- أمريكا الجنوبية
5- القارة القطبية الجنوبية
6- أوروبا
7- أستراليا.

لون العبارة الصحيحة باللون الأزرق والعبارة الخاطئة باللون الأحمر:	نعم	لا
1- عدد قارات العالم سبع قارات		
2- يعيش حيوان اللاما في أمريكا الشمالية		
3- أستراليا أصغر قارات العالم		
4- توجد جبال إفرست في قارة آسيا		

*** انظر للشكل التالي ثم اجب عما يلي**

* لون الماء المالح باللون الأزرق ولون الماء العذب باللون الأصفر

* اختر الإجابة الصحيحة وضعها في الدائرة المناسبة: 3% - 97 %

المياه المالحة - المياه العذبة

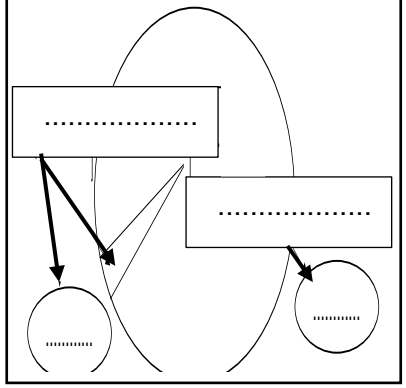

*** انظر للشكل التالي ثم اجب عما يلي:**

* لون اليابسة باللون الأخضر والماء باللون الأزرق

* اختر النسبة الصحيحة وضعها في الدائرة المناسبة:

(%71 - %29)

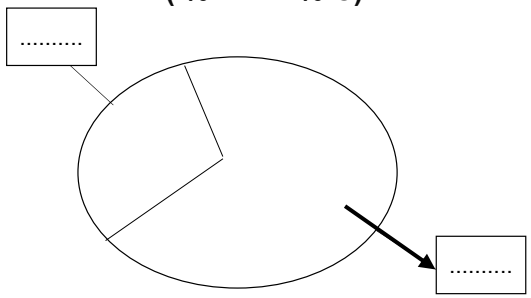

اعداد معلمة التربية الوطنية: أ. نورة الزعابي

الاسم:..... الصف ( )

*** أكمل المخططات الذهنية التالية:**

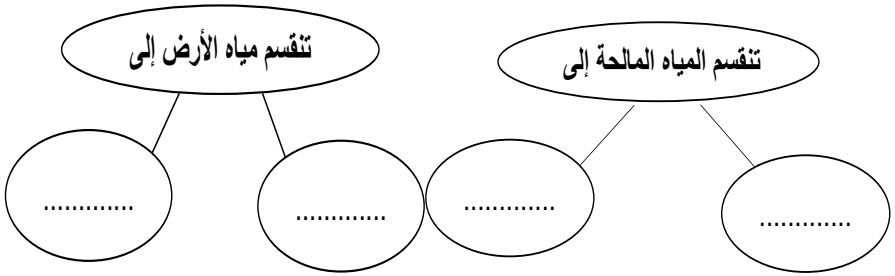

*** ضع دائرة على الإجابة الصحيحة :**

1- تقع دولتنا الحبيبة في قارة :

أفريقيا - آسيا - أوروبا

2- عدد قارات العالم :

5 - 6 - 7

3- أبرد قارات العالم هي:

أوروبا - أستراليا - القطبية الجنوبية

4- أعلى قمة جبلية في العالم :

الألب - إفرست - حفيت

5- أصغر قارات العالم :

أستراليا - أفريقيا - آسيا

أكمل الفراغات: (اليابسة - مالحة - البحار- 97 - 3 - المحيطات - الأنهار - الأزرق - البحيرات)

1- تبلغ نسبة المياه المالحة .....% ونسبة المياه العذبة .....%
2- تشمل المياه المالحة ..... و ..... والبحيرات.
3- الغلاف الصخري هو القسم الذي يغطيه .....
4- تشمل المياه العذبة ..... و .....
5- تنقسم المياه إلى مياه ..... ومياه عذبة.
6- يسمى كوكب الأرض بالكوكب .....

ورقة تدريب: الوحدة 1 - الدرس 2 - القارات والمحيطات

*صنف الكلمات التالية في المجموعة المناسبة:

(آسيا – الهندي – أفريقيا – أوروبا – الهادي – الأطلسي– المتجمد الشمالي - أستراليا)

المحيطات	القارات
1-.....	1-.....
2-.....	2-.....
3-.....	3-.....
4-.....	4-.....

*من أنا؟

(المحيط – الخليج – المضيق - البحار)

1- مسطحات مائية أصغر من المحيطات (.....)

2- فتحات ضيقة تصل بين الخليج والمحيط (.....)

3-مسطحات مائية كبيرة من المياه المالحة (.....)

4- مسطح مائي يحيط به اليابس من ثلاث جهات (.....)

**حل سؤال من أنا:

1- البحار 2- المضيق 3- المحيط 4- الخليج

اعداد معلمة التربية الوطنية: أ. نورة الزعابي

الاسم:..... الصف ( )

* رتب المحيطات من الأكبر للأصغر:

1- ( ) المحيط المتجمد الشمالي

2- ( ) المحيط الهندي.

3- ( ) المحيط الهادي.

4- ( ) المحيط الأطلسي.

5- ( ) المحيط المتجمد الجنوبي.

**حل ترتيب المحيطات من الأكبر للأصغر:

(المحيط الهادي – المحيط الأطلسي – المحيط الهندي – المحيط المتجمد الشمالي – المحيط المتجمد الجنوبي)

* ضع علامة (√) أو (x) فيما يلي :

1-( ) أكبر المحيطات هو المحيط الهادي.

2-( ) عدد المحيطات في العالم أربع محيطات.

3-( ) تطل الإمارات على الخليج العربي.

4-( ) تستخدم الطائرات في التنقل عن طريق البحر.

5- ( ) عدد القارات في العالم 3 قارات.

*من أنا ؟

(القارة - آسيا – البطريق - إفرست – أفريقيا)

1- أعلى قمة جبلية في العالم. (.....)

2- ثاني قارات العالم من حيث المساحة. (.....)

3- طائر يعيش في القارة القطبية الجنوبية. (.....)

4- تقع دولة الإمارات في قارة. (.....)

5- قطعة كبيرة من اليابسة. (.....)

الاسم:..... الصف ( )

* اكتب اسماء القارات حسب الأرقام التالية مع تلوين كلاً من :

*آسيا (أحمر) * أفريقيا (أخضر) * أمريكا الشمالية (أزرق) * أمريكا الجنوبية (أصفر) * أستراليا (برتقالي) * أوروبا (الوردي)

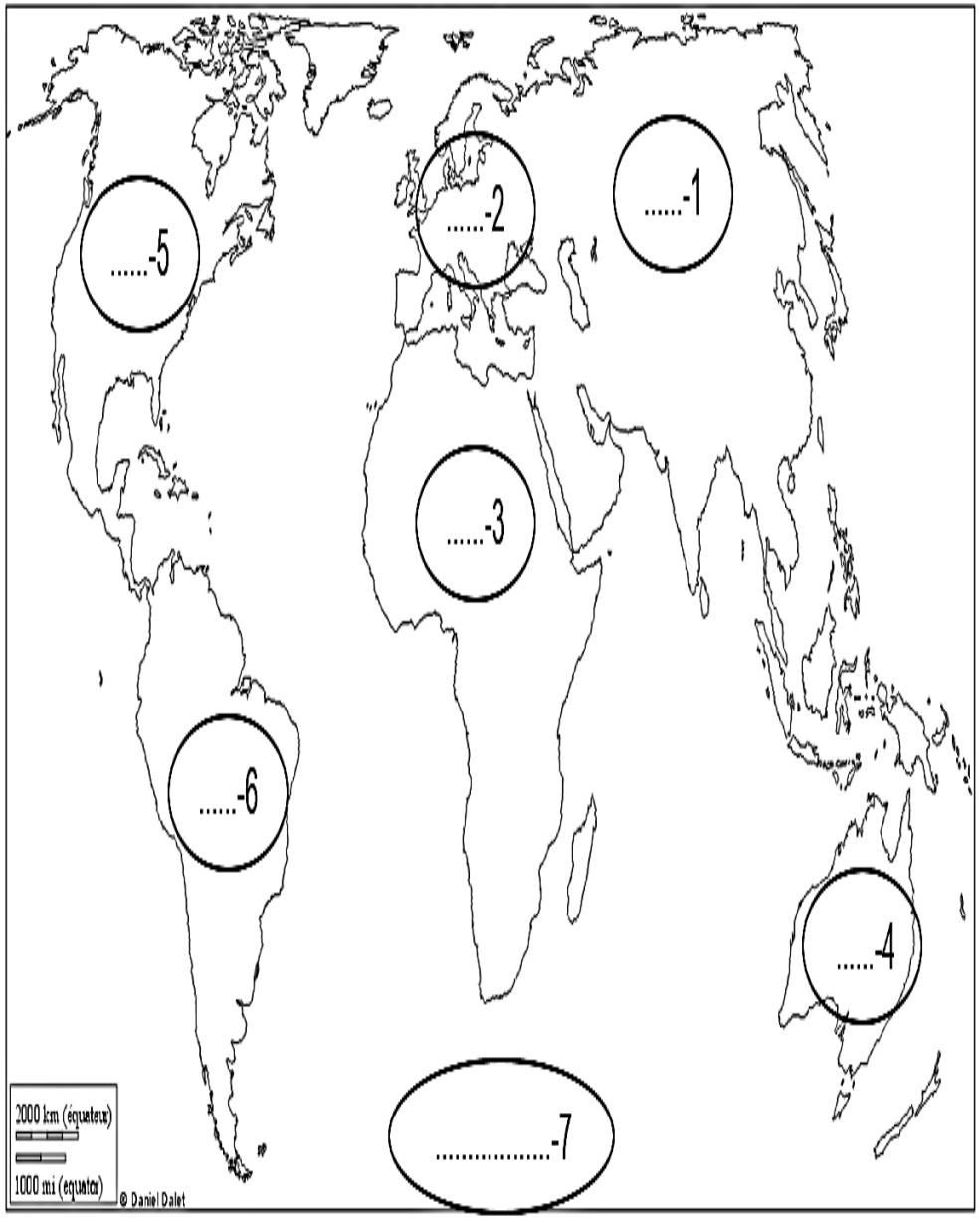

* اكتب اسماء المحيطات الخمس حسب الأرقام التالية مع تلوين المحيطات باللون الأزرق:

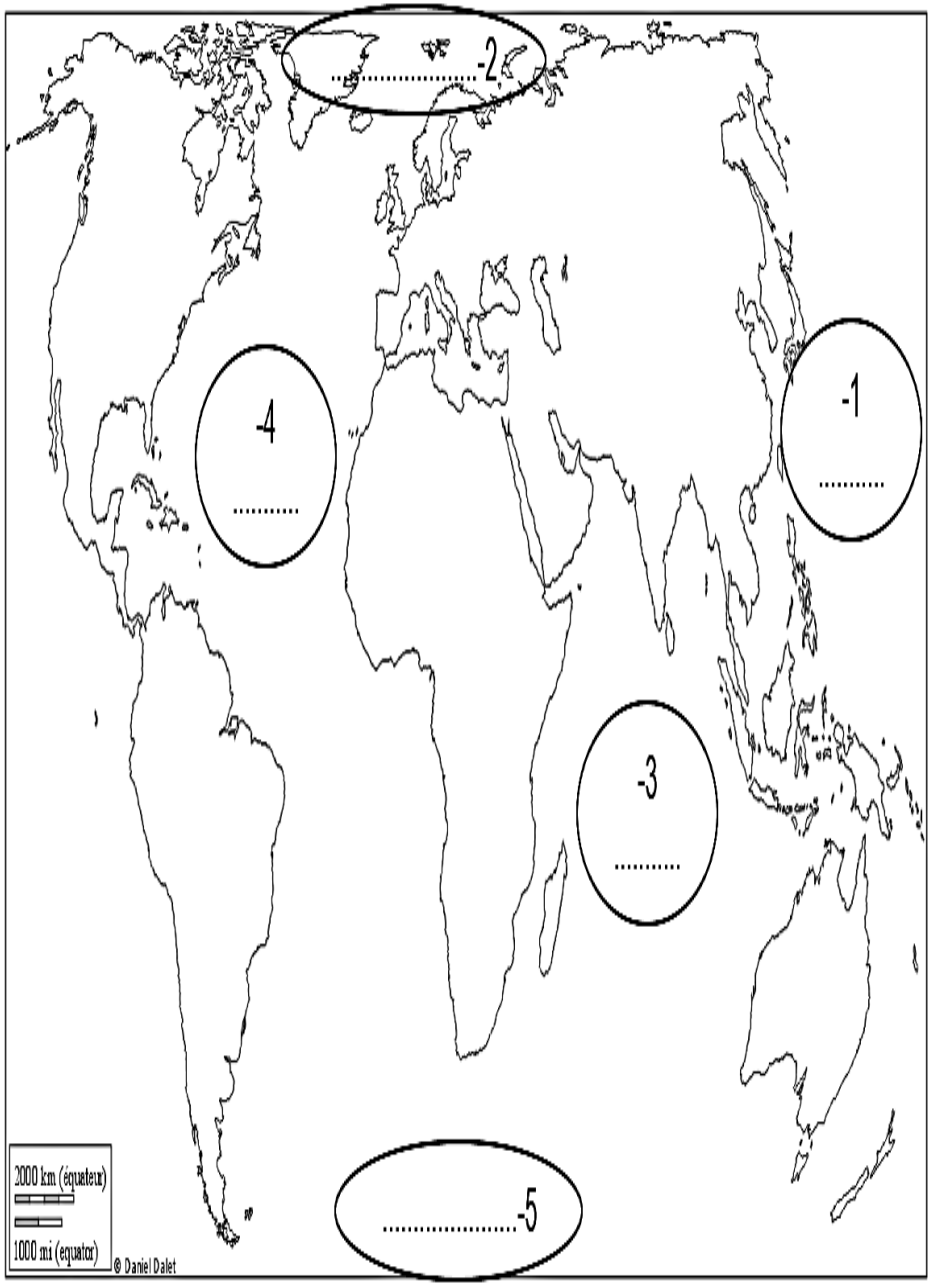

اعداد معلمة التربية الوطنية: أ. نورة الزعابي

ورقة تدريب: الوحدة 1 - الدرس 3 – موقع بلادي

*** اختر الإجابة الصحيحة من بين القوسين ثم ضعها فى المكان المناسب:**

(أفريقيا - الشرق - العالم القديم – العربي - السعودية - عُمان – الموقع الجغرافي)

1- تعتبر آسيا من قارات .....

2- موقع المكان بالنسبة لليابسة والماء .....

3- تقع دولتنا الحبيبة ..... الوطن العربي.

4- تجاور دولتنا الحبيبة من الجنوب .....

5- تطل دولة الإمارات على بحر ..... وخليج .....

***ضع علامة (√) أمام الإجابة الصحيحة:**

الجمل	نعم	لا
1- تجاور دولتنا الحبيبة من جهة الشمال سلطنة عُمان.		
2- تعتبر أوروبا من قارات العالم القديم.		
3- عدد قارات العالم القديم خمس قارات.		
4- تنتمي بلادي لقارة آسيا.		

*** اكتب أسماء الجهات الأصلية:**

شرق، شمال، جنوب، غرب

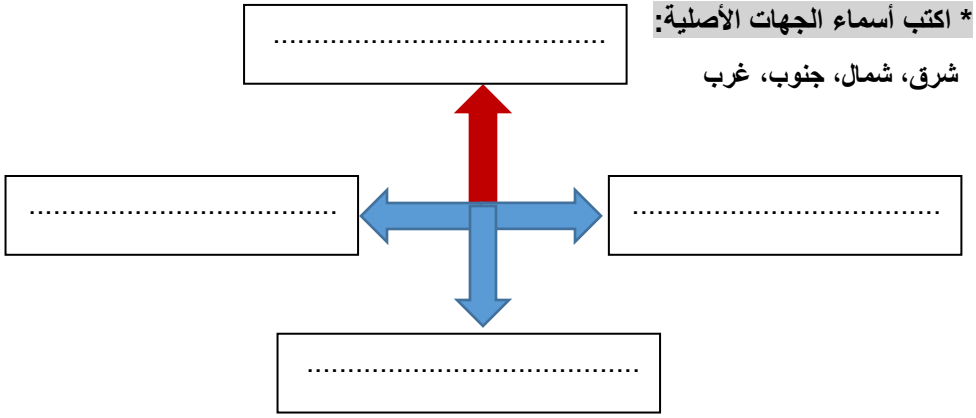

اعداد معلمة التربية الوطنية: أ. نورة الزعابي

الاسم:..... الصف ( )

***أمامك مجموعة من الخرائط ضع دائرة حول موقع دولتنا الحبيبة و لونها باللون الأخضر:**

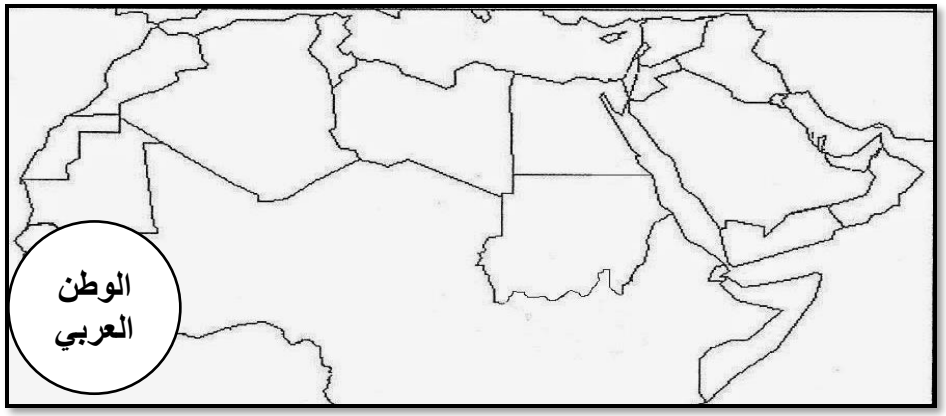

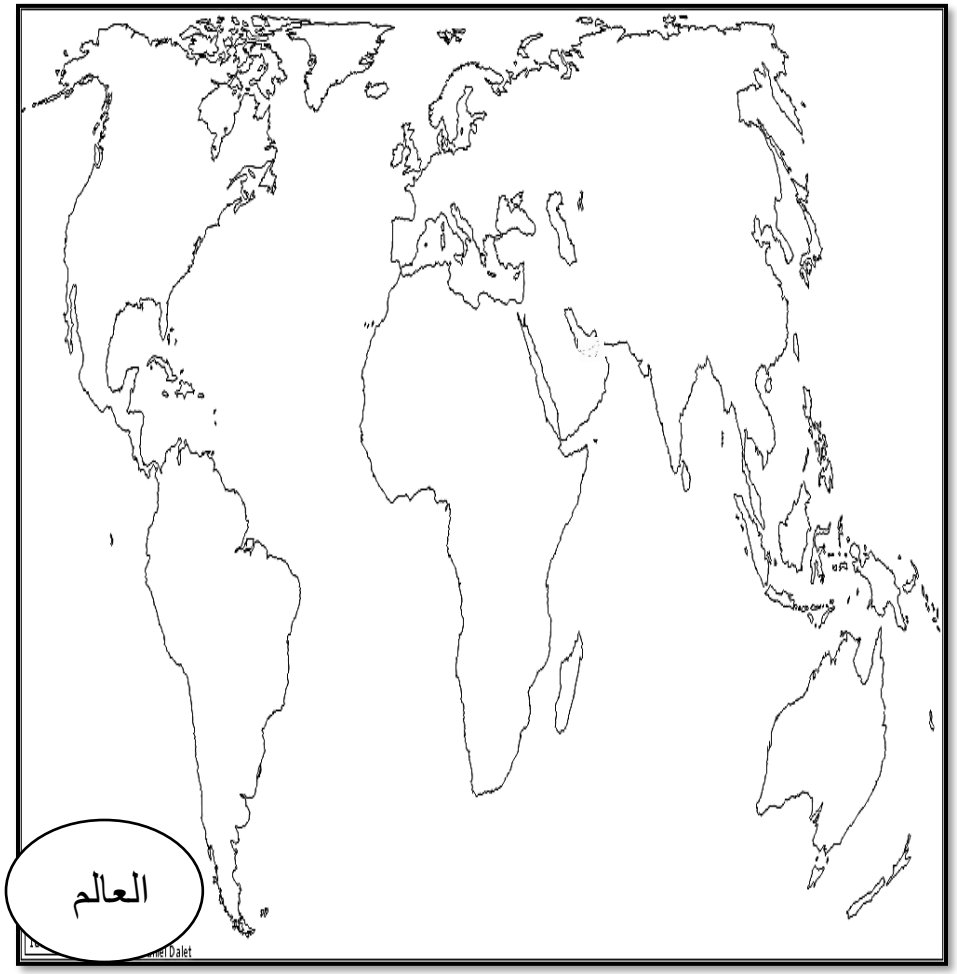

ورقة تدريب: الوحدة 1 - الدرس 3 - موقع بلادي

*أمامك خريطة الإمارات - اكتب ما تدل عليه العبارات التالية:

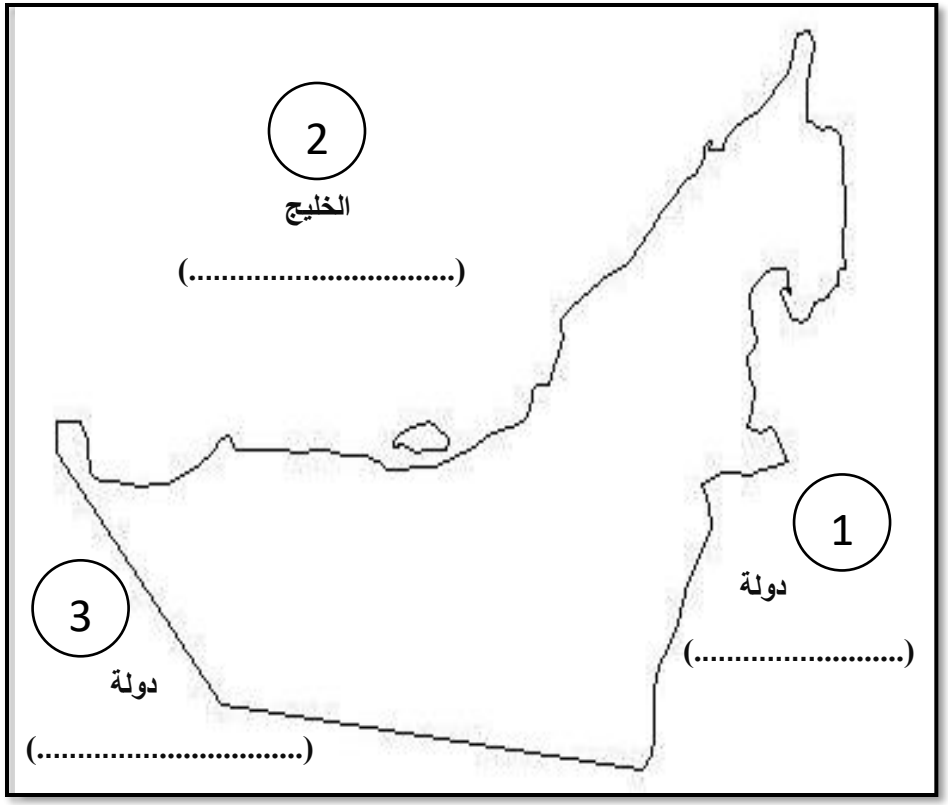

* رتب مدن دولة الإمارات ترتيباً تصاعدياً

دبي – رأس الخيمة - الشارقة – عجمان - أم القيوين – الفجيرة

1- أبوظبي

2-..... 6-.....

3-..... 7-.....

4-.....

5-.....

الاسم:..... الصف ( )

* اختر التعريف مما بين القوسين وضعه في المكان المناسب :

(الجبال - الواحة - الصحراء)

1- كثبان رملية صفراء تغطي مساحة كبيرة من دولتنا الحبيبة. (.....)

2- أرض مرتفعة ولها قمة. (.....)

4- أرض منخفضة في الصحراء وتوجد بها المياه العذبة. (.....)

*ارسم علامة (☺) أمام العبارة الصحيحة، وعلامة (☹) أمام العبارة الخاطئة:

الجمل	☺	☹
1- تتركز الجبال في غرب بلادي.		
2- العين وليوا من أمثلة الواحات في بلادي.		
3- يطل الساحل الشرقي لبلادي على خليج عمان.		
4- علمتنا الصحراء الصبر.		

* قارن بين السهل الساحلي الشرقي والغربي في بلادي:

وجه المقارنة	السهل الساحلي الشرقي ⟶	السهل الساحلي الغربي ⟵
1- الطول: طويل - قصير	.....	.....
2- الاتساع: ضيق - واسع	.....	.....
3 - يقع على: العربي - عُمان	بحر	الخليج .....

اعداد معلمة التربية الوطنية: أ. نورة الزعابي

ورقة تدريب: الوحدة 2 - الدرس 1 – بلادي قبل الاتحاد

***ضع علامة (√) أمام الإجابة الصحيحة وعلامة (X) أمام العبارة الغير صحيحة:**

1- ( ) كانت حياة الأجداد في الماضي بسيطة وجميع أفراد الأسرة متعاونين لإنجاز الأعمال.

2- ( ) كانت الأم تقوم برعاية أبنائها وتربيتهم.

3- ( ) كان الأب يذهب لأسابيع عديدة للغوص على اللؤلؤ.

4- ( ) عانى أجدادنا كثيراً في السابق لكسب رزقهم.

5- ( ) كان أجدادنا يتعلمون القرآن الكريم والقراءة والكتابة والحساب في الكتاتيب.

7- ( ) المطوع أو المطوعة كانوا يعلمون في المدارس.

8- ( ) عمل أجدادنا في الماضي في العديد من الأعمال لكسب الرزق.

9- ( ) كان صيد السمك والغوص على اللؤلؤ من مهن أهل الصحراء.

10- ( ) اختلفت المهن قديماً باختلاف البيئات.

*** صل العبارة في المجموعة (أ) بما يناسبها في المجموعة (ب):**

(أ)	(ب)
المطوع أو المطوعة	صيد السمك والغوص على اللؤلؤ
التومينة أو التحميدة	الرعي
مهن أهل الساحل	كانوا يعلمون القرآن في الكتاتيب
مهنة أهل المناطق الداخلية	هي احتفالية من التراث لمن ختم القرآن

اعداد معلمة التربية الوطنية: أ. نورة الزعابي

الاسم:..... الصف ( )

*** اكتب الرقم من المجموعة (أ) أمام الصور في المجموعة (ب):**

(أ)	(ب)
1- الكاجوجة	.....
2- الرحى	.....
3- الخوص	.....

*** أصل بين صورة كل مهنة والصورة التى توضح الفائدة من هذه المهنة:**





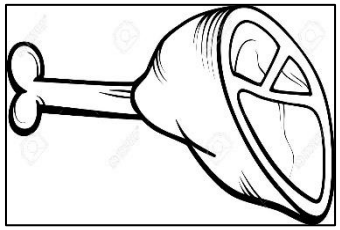

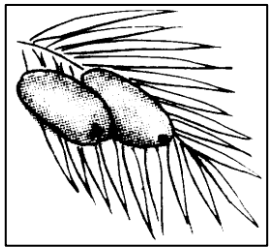

الاسم:..... الصف ( )

ورقة تدريب: الوحدة 2 - الدرس 2 – اتحاد بلادي

* رتب خطوات قيام اتحاد دولة الإمارات العربية المتحدة:

دبي الثاني - الاتحاد - عرقوب السديرة - دبي الأول



1-اجتماع .....

2-اجتماع .....

3-اجتماع .....

4-اجتماع .....

* أصل بين الصورة مع العبارة التي تناسبها:

الآباء المؤسسين

الشيخ راشد آل مكتوم

الشيخ زايد بن سلطان

اعداد معلمة التربية الوطنية: أ. نورة الزعابي

* أصل الصورة مع اسم الحاكم لكل إمارة:

الشيخ خليفة بن زايد آل نهيان - أبوظبي

الشيخ محمد بن راشد آل مكتوم - دبي

الشيخ سلطان القاسمي - الشارقة

الشيخ حميد النعمي - عجمان

الشيخ سعود القاسمي - رأس الخيمة

الشيخ سعود بن راشد المعلا – أم القيوين

الشيخ حمد الشرقي - الفجيرة

* أكمل الفراغ:

عرقوب السديرة – راشد بن سعيد -الآباء المؤسسين – الصحة - زايد بن سلطان – التعليم – 1971

1- أول رئيس ومؤسس دولة الإمارات هو الشيخ.....

2- أول نائب للشيخ زايد بن سلطان هو الشيخ.....

3- قام اتحاد دولة الإمارات في 2 من ديسمبر عام.....

4- اجتمع الشيخ زايد والشيخ راشد لتوقع وثيقة الاتحاد في .....

5- من الإنجازات التي تحققت بعد قيام الاتحاد.....و.....

6- روح الاتحاد هم.....

الاسم:..... الصف ( )

ورقة تدريب: الوحدة 2 - الدرس 3 – بطولة وفداء

*** استعين بالخريطة لاستخرج المعلومات:**

- استخرج اسم ثلاث جزر تابعة لدولة الإمارات:

1- .....

2- .....

3- .....

- استخرج أسماء المسطحات المائية التي تشرف عليها دولة الإمارات:

1- .....

2- .....

- استخرج اسم مضيق:.....

*** قارن بين الجزيرة وشبه الجزيرة: (ثلاث - جميع)**

الجزيرة	شبة الجزيرة
جزء من اليابسة تحيط بها المياه من.....الجهات.	جزء من اليابسة تحيط بها المياه من .....جهات.

اعداد معلمة التربية الوطنية: أ. نورة الزعابي

*** أكمل البطاقة التعريفية:**

ما اسم هذه الشخصية؟	.....
ما المهنة التي كان الشهيد سالم يعمل بها؟	.....
أين كان يعمل الشهيد سالم؟	.....
ما اسم الجزيرة التي استشهد فيها سالم؟	.....

*** أكمل الفراغ:**

عبدالله المعينة – عارف الشيخ - يوم الشهيد – 1971

1- تحتفل دولة الإمارات في 30 من نوفمبر من كل عام بـ.....

2- .....**هو الذي صمم علمُ دولة الإمارات.**

3-.....**هو الذي كتب النشيد الوطني الإماراتي.**

4- تم احتلال الجزر الإماراتية طنب الكبرى والصغرى وجزيرة أبوموسى عام.....

*** أكمل البيانات:**

ما هذا الرمز\ الشكل؟	.....
من كم لون يتكون؟	.....
يرمز اللون الأحمر إلى:	.....
يرمز اللون الأخضر إلى:	.....
يرمز اللون الأبيض إلى:	.....
يرمز اللون الأسود إلى:	.....
أول من رفع العلمُ هو:	.....

أربعة – البيئة الخضراء – علمُ – الشهداء السلام – الشجاعة

الشيخ زايد بن سلطان