مُرَاجَعَةُ دراسات اجتماعية
صف (7)

الفصل الدراسي الثالث 2021/2020

	مَهَارَاتُ الفَصْلِ الدِّرَاسِي الثالث			
1	مهارة قراءة و تحليل الخرائط و استخلاص الحقائق	6	استخراج الحقائق و القيم السلوكية و المواطنة	
2	مهارة قراءة و تحليل النصوص و الأشكال	7	إعداد خط زمني مكتمل العناصر	
3	توقع النتائج المترتبة على أحداث و مواقف مبديا رأيه	8	تلخيص المعلومات على شكل مخطط ذهني	
4	تطبيق خطوات حل المشكلات في قضية تطرح عليه	9	التمييز بين المفهوم و المصطلح	
5	تمثيل المعطيات ذات العلاقة بيانيا محللا لها	10	إبداء الأراء و تبني وجهات النظر	

اسم الطالب	
الصف والشعبة	

السؤال الأول :إختر الإجابات الصحيحة:

- تحول الاراضي الزراعيه الى اراض صحراويه بفعل الجفاف وزرحف العمران.

(التصحر -التلوث - السبخة)

- نباتات تنمو طوال العام دون تدخل الانسان.

(النباتات الحوليه -النباتات المعمره -النباتات المزروعه)

- من الاشجار المعمرة بدوله الإمارات العربية المتحدة شجرة.

(البلوط - الحميض - القرم)

- مساحة من الأرض لها خصائص مناخية تميزها عن غيرها.

(الأقاليم المناخية -الدولة -الزراعة)

- طب يعتمد على العلم والتجارب العلمية

(الطب الشعبي -الطب التقليدي - الطب الحديث)

- جراح اماراتي يشارك في اول عمليه باستخدام الذكاء الاصطناعي.

(جابر المنصوري -جمعة الماجد -جابر الخييلي)

- خلاصة مجموعه من التجارب الشعبيه المتوارثه حول طرائق العلاج والشفاء.

(الطب الشعبي -الطب الاسلامي -الطب الحديث)

- من علماء المسلمين اطلق عليه الغرب لقب امير الأطباء له كتاب يسمى القانون في الطب.

(ابن سينا -الخوارزمي -ابن خلدون)

- عالم اسكتلندي اكتشف المضاد الحيوي الشهير(البنسلين).

(بول إرليخ - ألكسندر فلمنج - جيمس بلاك)

Al Manara Private School(Alshamkha)
AMPSS*
مدرسة المنارة الخاصة / الشامخة
بوظبي

- مبادره بيئية رائدة الهدف منها تجميع النباتات المحليه وتوثيقها.

(الحديقه الاسلامية - بنك الجينات -التمييز بين أشجار النخيل)

- تمتد قارة امريكا الشمالية بين دائرتي عرض.

(25 و83 شمالا - 52 و 88جنوبا - 25و77جنوبا)

- المسطح المائي الذي تطل عليه امريكا الشمالية من الشرق المحيط.

(الهندي - الأطلنطي -المتجمد)

- المسطح المائي الذي تطل عليه امريكا الشمالية من الشمال المحيط.

(الهندي - الأطلنطي -القطبي)

- تتكون امريكا الشمالية من من وحدتين سياسيتين فقط هما.

(كندا والولايات المتحدة الأمريكية -المكسيك والولايات المتحدة - كندا والمكسيك)

- تمتد قارة استراليا بين دائرتي عرض.

(10-44جنوبا _ 10-44شمالا - 10-44 شرقا)

- تتبع استراليا عدة جزر اهمها جزيرة.

(قبرص - سردينيا - تسمانيا)

- عاصمة قارة أستراليا هي.

(كانبرا - موسكو - سيدني)

- دعم الشيخ زايد – رحمه الله – المجال الرياضي فشيد مدينة زايد الرياضية في أبوظبي عام.

(1997 - 1969م - 1979م)

Al Manara Private School(Alshamkha)
AMPSS *
مدرسة المنارة الخاصة الشامخة أبوظبي

السؤال الثاني :أكمل المخطط الذهني:

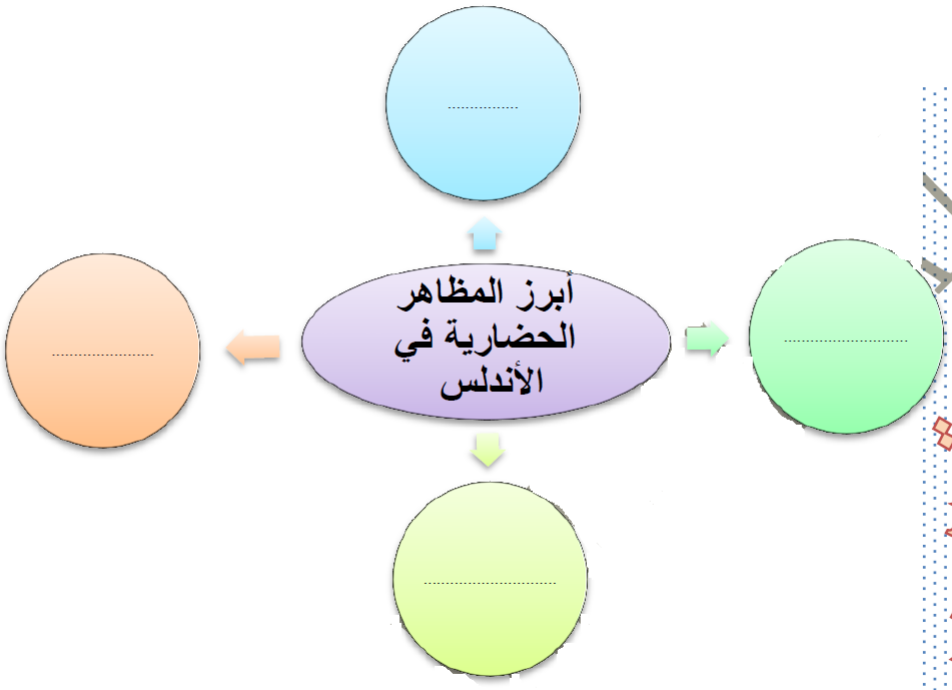

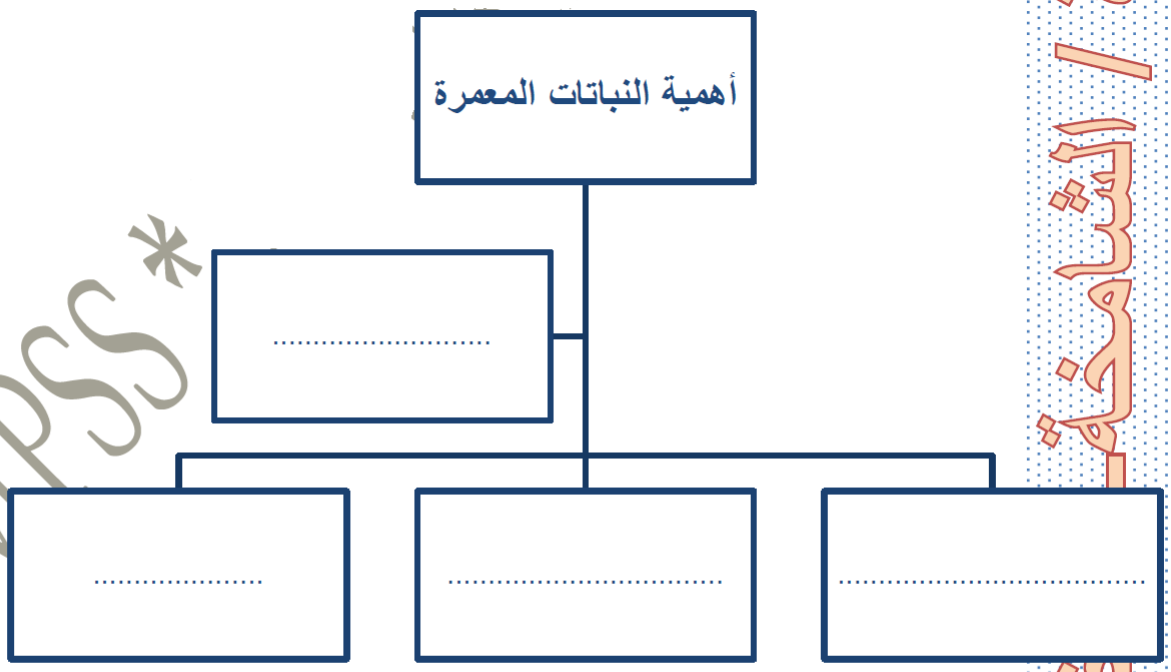

مدرسة المنارة / الشامخة الخاصة
Al Manara Private School(Alshamkha)
AMPSS*

مجالات الإبتكار

المنتج

- .....
- .....
- .....
- .....

السؤال الثالث:قارن بين المرتفعات الشرقية والغربية لقارة أمريكا الشمالية

وجه المقارنه	المرتفعات الشرقية	المرتفعات الغربية
النشأة		
الارتفاع		

Al Manara Private School(Alshamkha)
AMPSS*

السؤال الثالث:قارن بين الاقاليم المناخية في أستراليا

الإقليم	الموقع	الحقائق المناخية
الإقليم الموسمي		
الإقليم الصحراوي الحار		
الإقليم شبه المداري الرطب		

قارن بين السهل الساحلي الشرقي بدولة الإمارات والسهل الساحلي الشرقي في أستراليا

أوجه المقارنة	السهل الساحلي الشرقي بدولة الإمارات	السهل الساحلي الشرقي في أستراليا
الامتداد		
الاتساع		

قارن بين المناخ الموسمي والمناخ الصحراوي الحار في أستراليا

أوجه المقارنة	المناخ الموسمي	المناخ الصحراوي الحار
التوزيع الجغرافي		
الخصائص المناخية		

Al Manara Private School(Alshamkha)
AMPSS

السؤال الرابع : عرف المفاهيم التالية:

المفهوم	التعريف
النباتات المعمرة	
الاقتصاد المعرفي	
الاقاليم الامناخية	
الآبار الارتوازية	
الابتكار	
ريادة الأعمال	
الحضارة	
النافورة	
الجولات الميدانية	

Al Manara Private School(Alshamkha)
AMPSS *
مدرسة المنارة الخاصة / الشامخة
الصف

السؤال الخامس:أجب عن الأسئلة التالية:

1-كيف تقاوم نباتات الصحراء العوامل المناخية؟

.....

.....

2-ما أهمية السدود؟

.....

.....

3-أذكر أعمال الشيخ زايد رحمه الله بإماراتي رأس الخيمة والفجيرة.

.....

.....

4-اذكر مميزات العمارة العربية الإسلامية

.....

.....

5-مالأسباب التي جعلت دولة الإمارات تتميز بطبيعة نباتية فقيرة نوعا ما؟

.....

.....

6-ماسبب إختلاف توزيع السكان في قارة استراليامن منطقة لأخرى؟

.....

.....

مدرسة المنارة الخاصة/ الشامخة/ أبوظبي
Al Manara Private School(Alshamkha)
AMPSS*

السؤال السادس:أولا حدد على خريطة قارة أمريكا الشمالية ما تدل عليه الأرقام التالية:

1-المحيط:.....

2-جبال:.....

3-جبال:.....

4-هضبة.....

5- نهر:.....

6-المحيط:.....

7-هضبة:.....

مدرسة المنارة / الشامخة
Al-Manara School(Alshamkha)

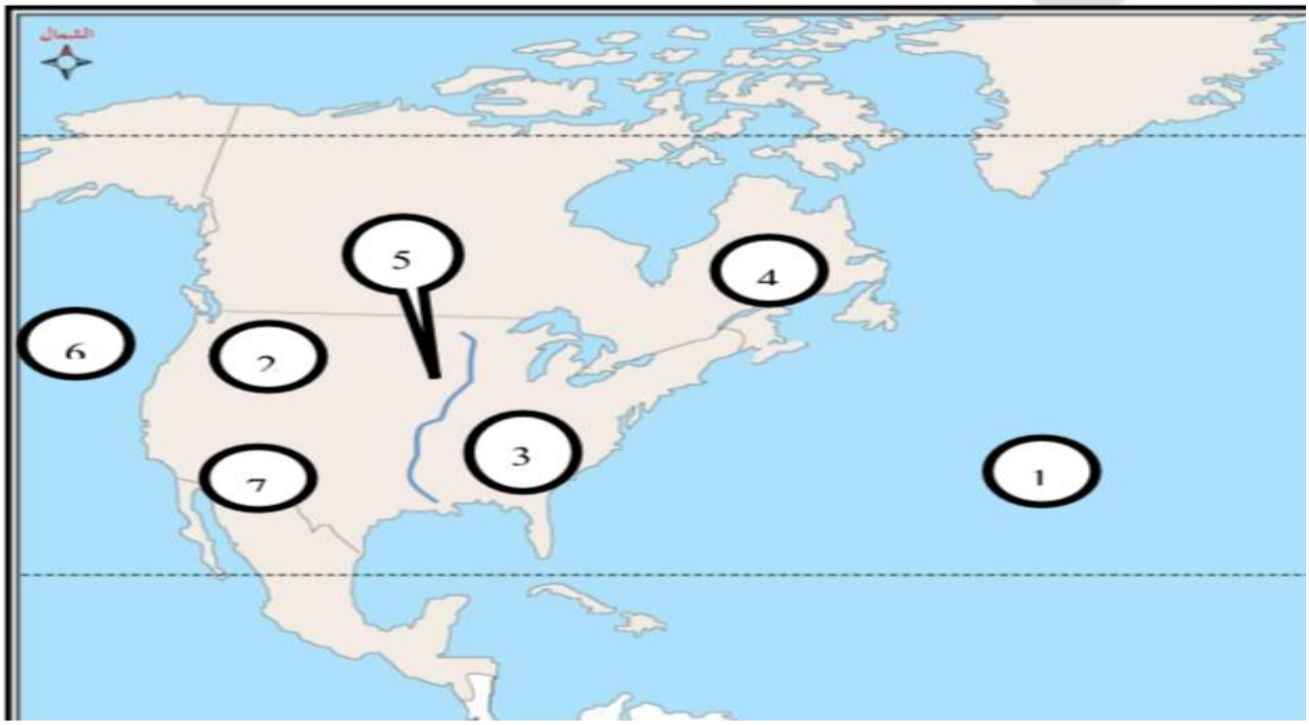

ثانيا حدد على الخريطة الصماء لقارة استراليا ما تدل عليها الارقام:

1-خليج:

2-مدار:

3- محيط:

4-المحيط:

5-الخليج:

6-إقليم مناخي:

7-جبال:

8-جزيرة:

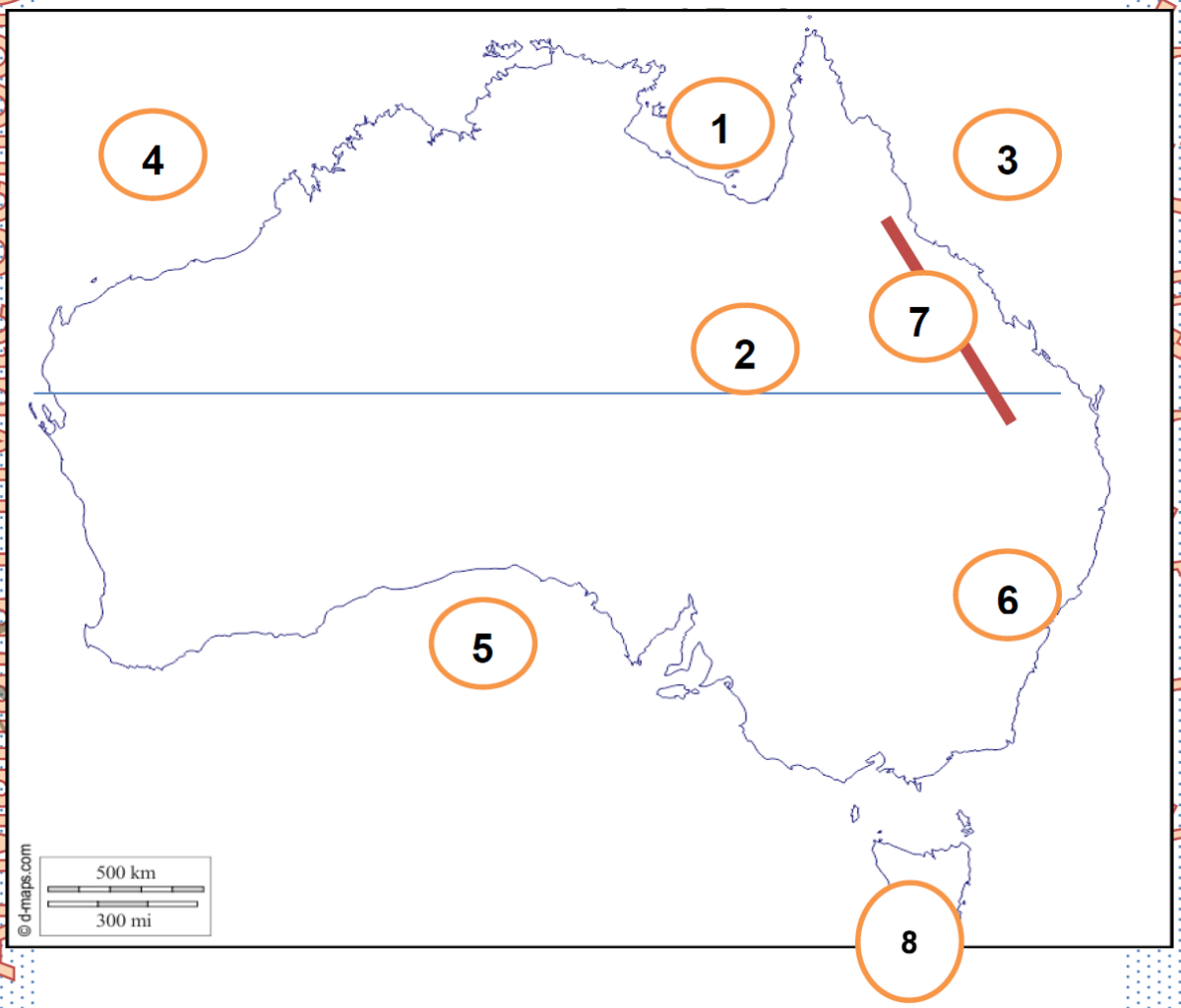

مدرسة المنارة الخاصة / الشامخة - أبوظبي
Al Manara Private School (Alshamkha)

السؤال السابع : أكمل الجدول وحدد استخدامات النباتات المعمرة في دولة الإمارات العربية المتحدة:

اسم النبات	الاستعمالات
النخيل	
الأشخر	
القرم	
الرمث	
الحنظل	
السمر	
الطرفة, الأثل	

Al Manara Private School(Alshamkha)
AMPSS *